ជីវវិទ្យា

ជា គឹមអៀង

សំនួរ ~ ចំលើយ

ចំណេះដឹងគ្រប់វិនាទី

ថ្នាក់ទី 12 ភាគ 1

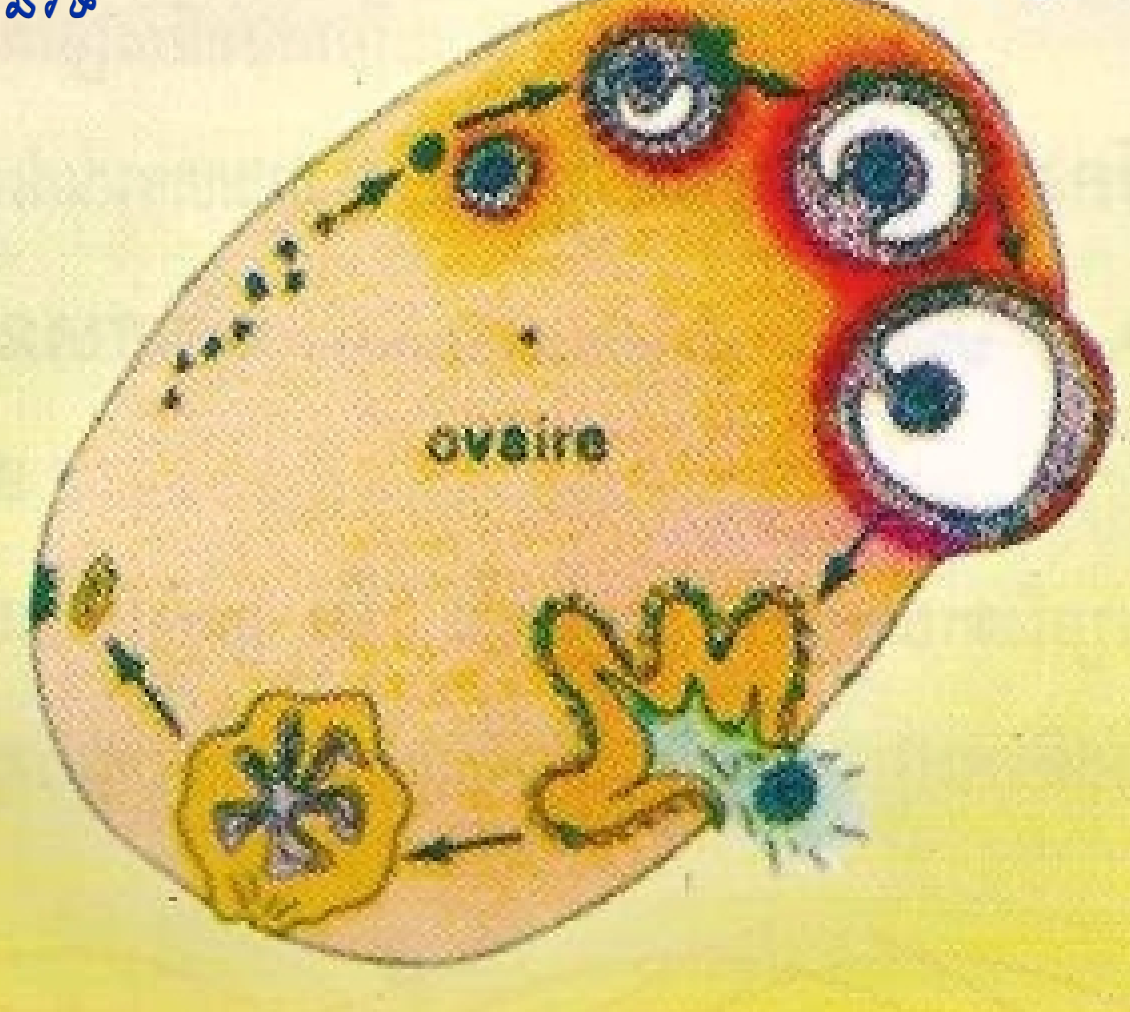

ជំនួយស្មារតី និង ពង្រីកចំនេះដឹង

ស្របតាមកម្មវិធីសិក្សាថ្មី

រក្សាសិទ្ធិគ្រប់យ៉ាង

អារម្ភកថា

សំនួរចំលើយ ជីវវិទ្យា ភាគ I នេះត្រូវបានកើតឡើងដោយសារការនិពន្ធអស់រយៈពេលយ៉ាងយូរ និងដោយសំអាងទៅលើឯកសារជាច្រើន ក្នុងគោលបំនងជួយសំរួលការងារលោកគ្រូ អ្នកគ្រូ និងជួយពង្រឹងពង្រីកផ្តល់ចំណេះដឹង ពិតប្រាកដដល់ប្អូនៗ យុវសិស្ស ដើម្បីឈានបន្តវិជ្ជាទៅឧត្តមសិក្សា ។

ទោះបីជាសៀវភៅនេះត្រូវបានរៀបចំយ៉ាងសិរិតសំរាំងក៏ដោយ ក៏នៅតែងតែមានកំហុសឆ្គង និងកង្វះខាតចៀសមិនផុតឡើយ ។

សូមថ្លែងអំណរគុណដល់ សាស្ត្រាចារ្យបារាំង ផ្នែកជីវវិទ្យានៅទីក្រុងអង់ហ្សេប្រទេសបារាំង (professeurs de biologie à Angers) ដែលបានផ្តល់ឯកសារ ជាច្រើន ។

អរគុណដល់យុវសិស្ស ឈី ជិនឡុង និស្សិតសកលវិទ្យាល័យភូមិន្ទកសិកម្ម និងវិទ្យាស្ថានជាតិគ្រប់គ្រងដែលបានជួយវាយកុំព្យូទ័រក្របសៀវភៅ និងឯកសារមួយចំនួន ។

ជា គីមស្រៀង

ថ្ងៃទី ២២ ខែកុម្ភៈ ឆ្នាំ ២០០២

www.facebook.com/7khmer
Fb page : Entertainment And Knowledge

ឯកសារយោង

1. សៀវភៅក្រសួងអប់រំ យុវជន និងកីឡា (2001 - 2002)
2. Annales baccalauréat (toutes les années)
3. ANNA BAC (HATIER)
4. Exos T.S (HATIER)
5. T.S obligatoire et spécialité (BORDAS PERFORMANCE)
6. Biologie T.S (BORDAS)
7. Biologie 1re S (BORDAS)
8. Biologie 1re S (HACHETTE)
9. Biologie T.S (HACHETTE)
10. Biologie T.D (NATHAN)
11. Biologie 1re B (NATHAN)
12. Biologie T.D (BORDAS)
13. Biologie Humaine 1re AB (Nathan)
14. Biologie Humaine (Nathan)
15. Biologie T.C (NATHAN)
16. ADIP : VIH et SIDA

មេត្តាកុំថតចំលង ឬ ចំលងស្នាដៃនេះដោយផលិតជាសៀវភៅរបស់ខ្លួន

រក្សាសិទ្ធិគ្រប់បែបយ៉ាង

www.facebook.com/7khmer
Fb page : Entertainment And Knowledge

ជំពូក I: ការបន្តពូជដូចនៃកោសិកា

Reproduction Conforme

មេរៀនទី ១ — **មីតូស (Mitose)**

❶ តើកោសិកាទាំងឡាយនៃសារពាង្គកាយពហុកោសិកា កើតពីកោសិកាដំបូងបំផុតចំនួនប៉ុន្មាន? ហើយគេហៅថាអ្វី? តើកោសិកានេះត្រូវចែកខ្លួនតាមចលនការអ្វីដើម្បីបង្កើតជាសារពាង្គកាយមួយ?

\+ កើតពីកោសិកាដំបូងបំផុតតែ មួយគត់ ដែលគេហៅថា "**ស៊ីកូត**" ឬ "**ស៊ុត**"

\+ ស៊ីកូតត្រូវចែកខ្លួនតាមចលនការ **មីតូស** ដើម្បីបង្កើតជាសារពាង្គកាយមួយ។

❷ ដូចម្តេចដែលហៅថាពតិមានសេនេទិច? តើគ្រប់កោសិកានៃសារពាង្គកាយមួយមានផ្ទុកពតិមានសេនេទិចដូចគ្នា ឬ ខុសគ្នា? ចូរបញ្ជាក់អំណះអំណាង?

\+ ពតិមានសេនេទិច : មើលក្នុងសៀវភៅពន្យល់ពាក្យទំព័រ 36

\- គ្រប់កោសិកានៃសារពាង្គកាយមួយមានផ្ទុកពតិមានសេនេទិចដូចគ្នាទាំងអស់ពីព្រោះគ្រប់កោសិកាសុទ្ធតែជាលទ្ធផលនៃស៊ីកូតដែលធ្វើមីតូសជាបន្តបន្ទាប់ដើម្បីរក្សាចំនួន និងរូបរាងក្រូម៉ូសូមដូចគ្នាក្នុងកោសិកាដែលកូនវានោះផ្ទុកពតិមានសេនេទិចដូចគ្នា

❸ ដូចម្តេចដែលហៅថាមីតូស? ហេតុដូចម្តេចបានជាគេចាត់ទុកមីតូសនិងការបន្តពូជដោយកតភេទជាការបន្តពូជដូច?

www.facebook.com/7khmer
Fb page : Entertainment And Knowledge

+ មីតូស: មើលក្នុងសៀវភៅពន្យល់ពាក្យទំព័រ 39

+ ពីព្រោះគ្រប់កោសិកាកូនដែលកើតពីមីតូស និងកើតពីការបន្តពូជដោយឥតភេទសុទ្ធតែមានពតិមានសេនេទិចដូចៗគ្នាទាំងអស់ហើយដូចកោសិកាដើមទៀតផង ។

> ❹ ដូចម្តេចដែលហៅថាការបន្តពូជដូច? តើការបន្តពូជដូចមានសារៈសំខាន់យ៉ាងណា?

+ ការបន្តពូជដូច : មើលក្នុងសៀវភៅពន្យល់ពាក្យទំព័រ 1 ។

+ សារៈសំខាន់នៃការបន្តពូជដូច :

- ធ្វើឱ្យកោសិកាកូន មានពតិមានសេនេទិចដូចគ្នា ។
- បញ្ជូនទាំងស្រុងនូវពតិមានសេនេទិច (ដែលស្ថិតនៅក្នុងក្រូម៉ូសូម) ពីជំនាន់កោសិកាមួយទៅជំនាន់កោសិកាមួយ ។

> ❺ តើសារៈសំខាន់នៃការបន្តពូជដោយឥតភេទមានយ៉ាងណា? តើគេចាត់ទុកការបន្តពូជដោយឥតភេទជាអ្វីដែរ ?

+ សារៈសំខាន់នៃការបន្តពូជដោយឥតភេទ :

ផ្តល់ដល់សន្តានក្រោយឱ្យមានសំភារៈសេនេទិចដូចគ្នាបេះបិទ ហើយដូចឯកត្ត: ដើមទៀត លើកលែងតែមានបំរែបំរួលសំភារៈតំនពូជ (មុយតាស្យុង) កើតឡើង ក្នុងពេលមីតូសជាបន្តបន្ទាប់ ។

+ គេចាត់ទុកការបន្តពូជ ដោយឥតភេទជាការបន្តពូជដូច ។

> ❻ ចូរនិយាយពីលំនាំទី1 និងលំនាំទី 2 ដែលកើតឡើងនៅពេលកោសិកាមួយធ្វើ មីតូស ។

www.facebook.com/7khmer
Fb page : Entertainment And Knowledge

នៅពេលកោសិកាមួយធ្វើមីតូស មានលំនាំ 2 កើតឡើងដូចតទៅ :

- លំនាំទី 1 :ពត៌មានសេនេទិច (ក្រូម៉ូសូម) របស់កោសិកាមេស្វ័យតំលើងទ្វេ បន្ទាប់មក ញែកជា 2 ក្រុមដូចគ្នា ហើយណ្វៃយ៉ូចែកជាណ្វៃយ៉ូកូនពីរ ។
- លំនាំទី 2 : ស៊ីតូប្លាស ចែកជាពីរផ្នែកស្មើគ្នានៅពេលជិតបញ្ចប់មីតូស ។

❼ ១/. ចូរដាក់ឈ្មោះតាមព្រួញដែលចង្អុល ។

២/. តើជាមីតូស ឬ មេយ៉ូស? ស្ថិតក្នុងវគ្គណា?

ចូរបញ្ជាក់អំនះអំណាង ។

៣/. ចូរកំណត់ចំនួនក្រូម៉ូសូម និងចំនួនក្រូម៉ាទីត ។

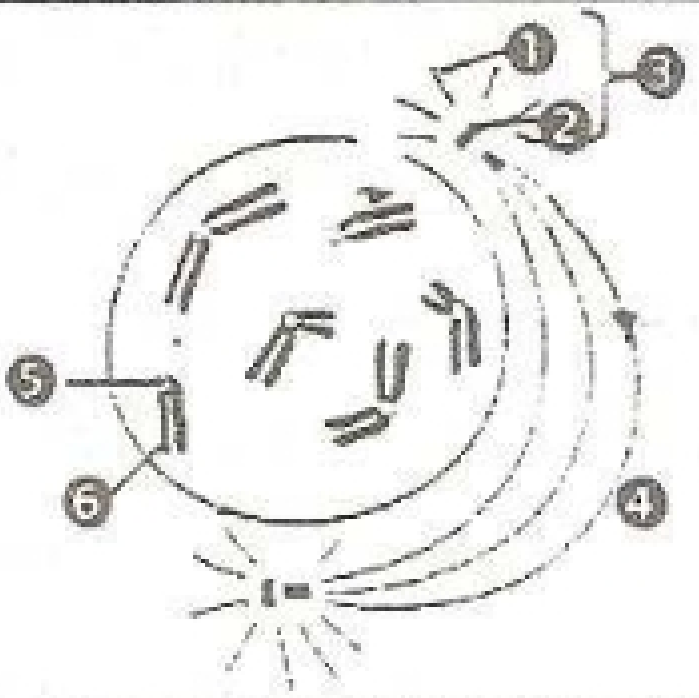

១/. ដាក់ឈ្មោះ :

១ : ខ្សែកាំ ២:សង់ទ្រីយ៉ូល ៣: អាស្ទែរ ៤: ត្រយ៉ូងអាក្រូម៉ាទិចកំពុងកកើត

៥ : សង់ត្រូមែរ ៦: ក្រូម៉ាទីត

២/. នេះជាមីតូស ស្ថិតក្នុងប្រូផាស ពីព្រោះមានកំនអាស្ទែរ និង ត្រយ៉ូងអាក្រូម៉ាទិច ភ្នាសណ្វៃយ៉ូកំពុងរលាយ ក្រូម៉ូសូមដែលមានក្រូម៉ាទីតពីរ លេចរូបរាងឡើង ។

៣/. - ក្រូម៉ូសូម ៣គូរ អូម៉ូឡូក គឺ $2n= 6$

- ក្រូម៉ូសូម 1 មានក្រូម៉ាទីត 2 → ចំនួនក្រូម៉ាទីត គឺ $6 \times 2 = 12$

❽ ១/. ចូរដាក់ឈ្មោះតាមព្រួញដែលចង្អុល ។

២/. តើជាមីតូស ឬ មេយ៉ូស? ស្ថិតក្នុងវគ្គ ណា?

ចូរបញ្ជាក់អំនះអំណាង ។

៣/. ចូរកំណត់ចំនួនក្រូម៉ូសូម និងចំនួន ក្រូម៉ាទីត ។

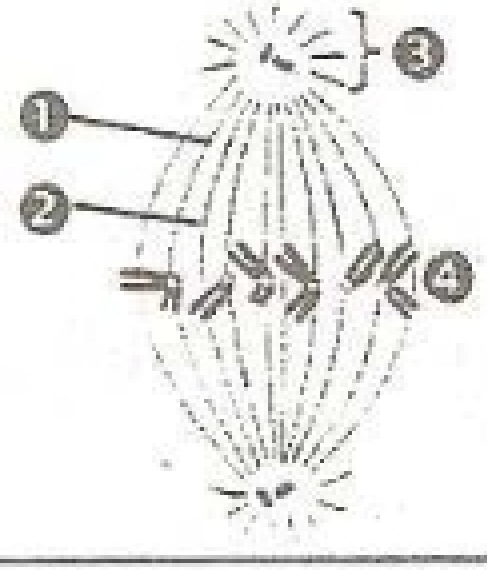

www.facebook.com/7khmer
Fb page : Entertainment And Knowledge

១/. ដាក់ឈ្មោះ ១: សរសៃក្រូម៉ូសូម ២: សរសៃប៉ូល ៣: អាស្ទែរ ៤: បន្ទះអេក្វាទ័រ

២/. នេះជាមីតូស ស្ថិតក្នុងមេតាផាស ។ ពីព្រោះក្រូម៉ូសូមអូម៉ូឡូកទាំងឡាយដែលប្រះបណ្តោយមកផ្តុំត្រង់ប្លង់អេក្វាទ័រដោយក្រូម៉ូសូមមួយភ្ជាប់លើសរសៃក្រូម៉ូសូមតែមួយ គឺមិនផ្តុំជា តេត្រាតដោយភ្ជាប់ លើសរសៃក្រូម៉ូសូមតែ 1 ដូចមេយ៉ូសទេ ។

៣/. - ក្រូម៉ូសូមមាន ៣គូ គឺ 2n =6

- ក្រូម៉ូសូម 1 មានក្រូម៉ាទីត 2⇒ចំនួនក្រូម៉ាទីតសរុបគឺ 6×2= 12

9 ១/. ចូរដាក់ឈ្មោះតាមព្រួញដែលចង្អុល ។

២/. តើជាមីតូស ឬ មេយ៉ូស? ស្ថិតក្នុងវគ្គ ណា? ចូរបញ្ជាក់អំនះអំណាង ។

៣/. ចូរកំណត់ចំនួនក្រូម៉ូសូម និងចំនួន ក្រូម៉ាទីត នៅប៉ូលនីមួយៗ ។

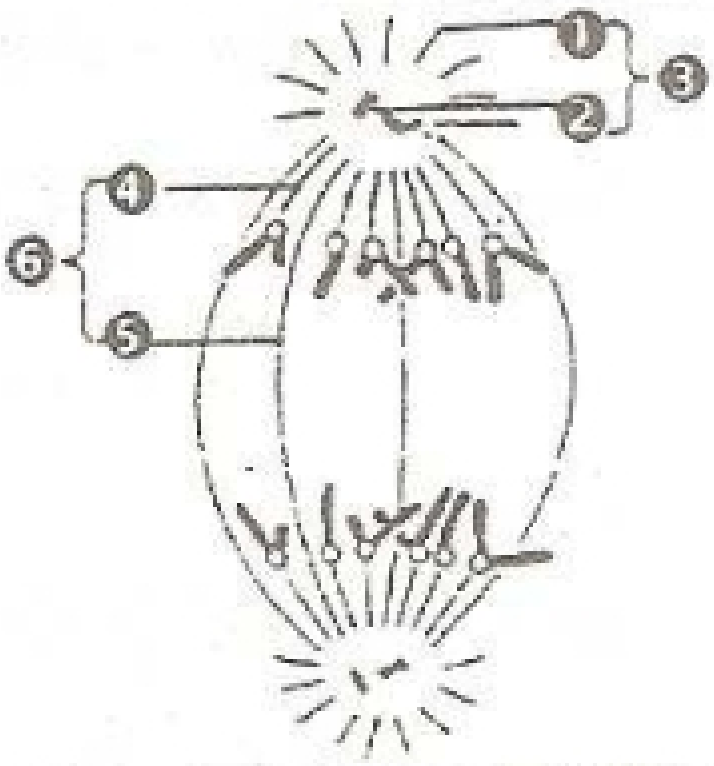

១/. ដាក់ឈ្មោះ :

១: ខ្សែកាំ ២: សង់ទ្រីយ៉ូល ៣: អាស្ទែរ ៤ : សរសៃក្រូម៉ូសូម.

៥: សរសៃប៉ូល ៦: ត្រយ៉ូងអាក្រូម៉ាទិច

២/.ជាមីតូស ស្ថិតក្នុងអាណាផាស ។ ពីព្រោះសង់ត្រូមែរនៃគ្រប់ក្រូម៉ូសូម នីមួយៗ ត្រូវបែកចេញពីគ្នាដែលធ្វើឱ្យក្រូម៉ាទីតផ្តាច់ចេញពីគ្នាបង្កើតបានជាក្រូម៉ូសូមកូន២ក្រុម ដូចគ្នា គឺឌីប្លូអ៊ីតដដែលរត់ឡើងប៉ូលរៀង១ខ្លួន ។

ផ: គឹមសឿង

www.facebook.com/7khmer
Fb page : Entertainment And Knowledge

៣/. នៅប៉ូលនីមួយៗ :

- ក្រូម៉ូសូមមាន ៣គូអូម៉ូឡូក គឺ $2n = 6$
- ក្រូម៉ូសូមមួយ មានក្រូម៉ាទីត ១ ⇒ ចំនួនក្រូម៉ូសូម = ចំនួនក្រូម៉ាទីត =6

⑩ ១/. ចូរដាក់រូបថតខាងក្រោមតាមលំដាប់ពេលនៃដំណើរប្រព្រឹត្តទៅរបស់មីតូស

២/. ដោយចេញពីរូបភាពខាងក្រោម ចូរឱ្យនិយមន័យមីតូស ។

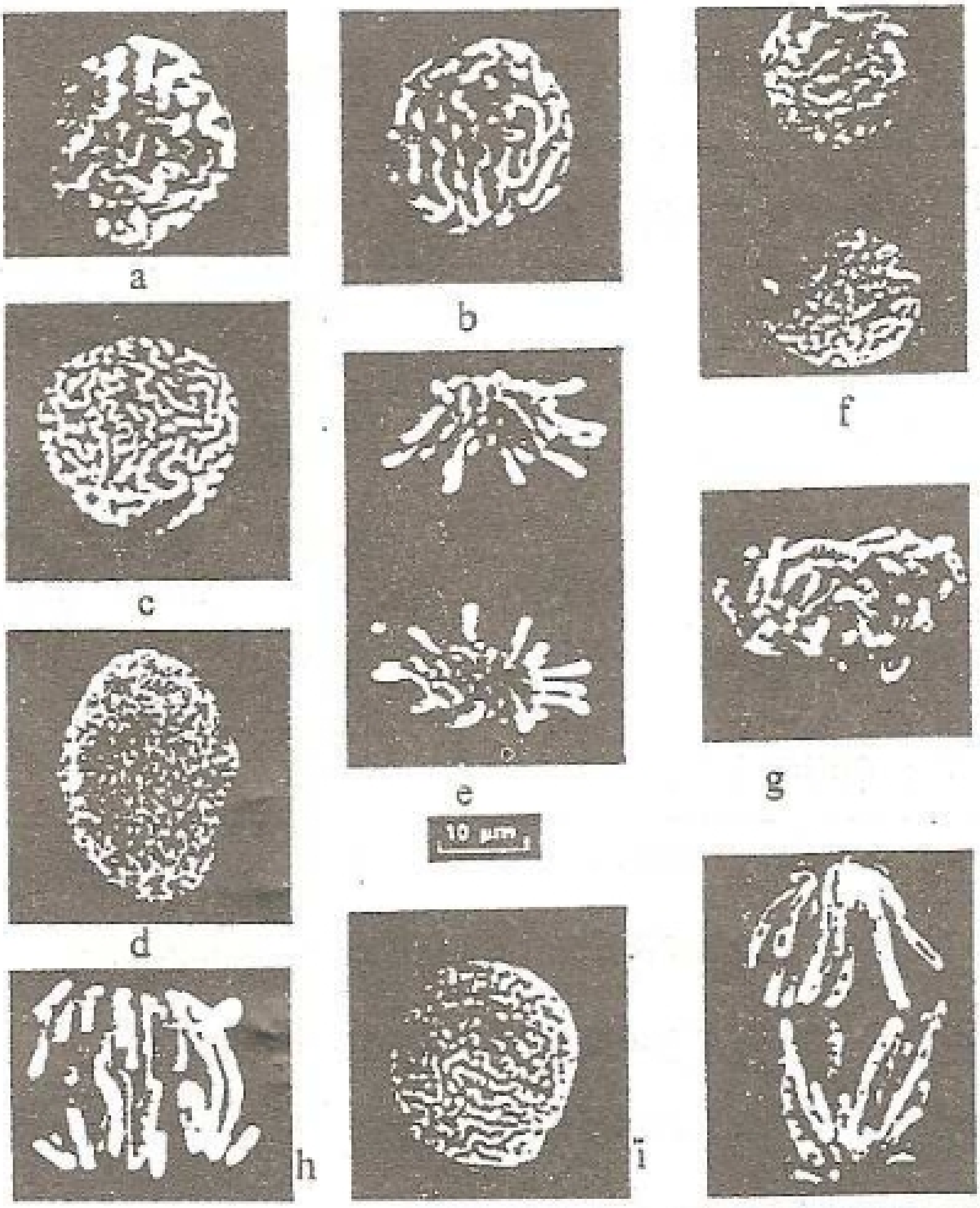

ជា គីមអៀង

www.facebook.com/7khmer
Fb page : Entertainment And Knowledge

១/. រូបភាពតាមលំដាប់ពេលនៃមីតូស : d, i , c, b, a, g, h, j, e, f ។

២/. មីតូសជាចលនការដែលរក្សាបរិមាណនូវរបាយក្រូម៉ូសូម ក្នុងកោសិកាកូនឱ្យដូចគ្នានឹងកោសិកាមេ ។

* គួរដឹង : d: ចន្លោះវគ្គ. i : ចុងចន្លោះវគ្គ. c: ដើមប្រូផាស. b: ប្រូផាស.

a : ចុងប្រូផាស. g : មេតាផាស. h: ដើមអាណាផាស. j : ចុងអាណាផាស.

e : ដើមតេឡូផាស. f : ចុងតេឡូផាស (ចប់មីតូស) ។

11 រូបខាងក្រោមបង្ហាញនូវខ្នាត់ ឫសខ្ទឹមស ដែលសង្កេតដោយ មីក្រូសទស្សន៍អុបទិច :

តើកោសិកា A , B C,D ស្ថិតនៅក្នុងវគ្គណាខ្លះនៃមីតូស? ចូរបញ្ជាក់អំនះអំនាង ។

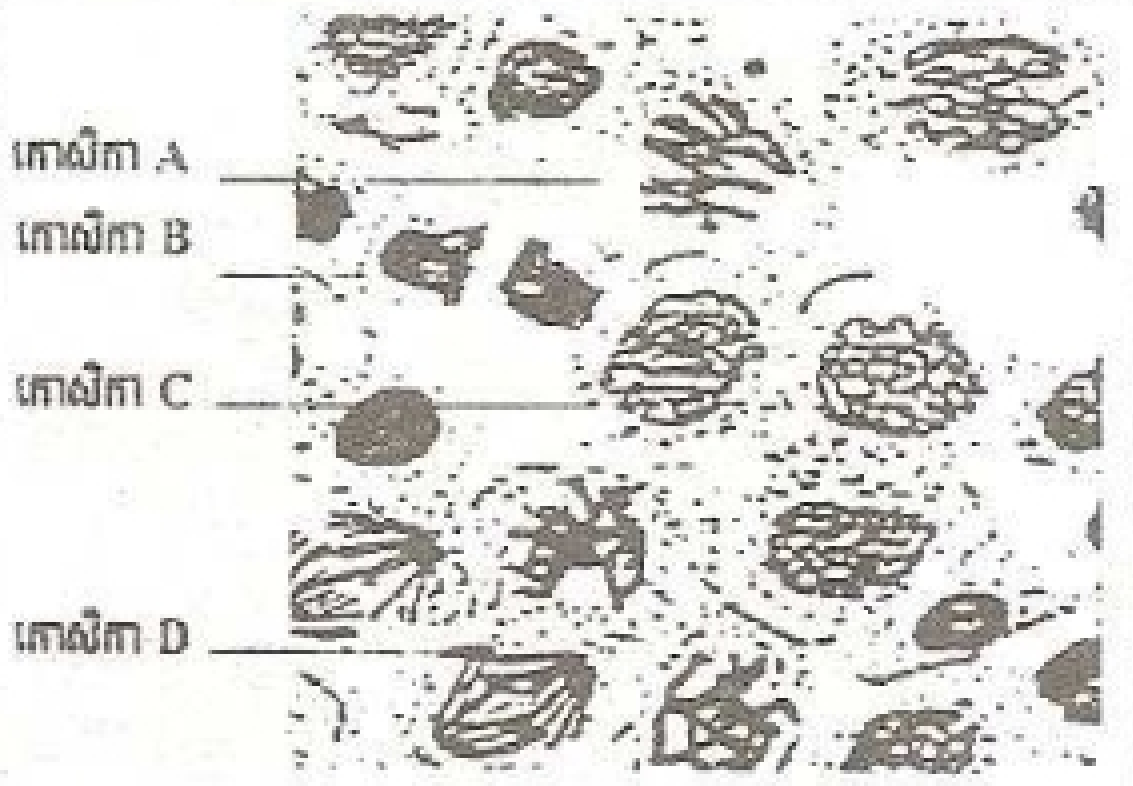

+ កោសិកា A : ស្ថិតក្នុងមេតាផាស ព្រោះក្រូម៉ូសូម បង្កើតជាបន្ទះអេក្វាទ័រ

+ កោសិកា B : ស្ថិតក្នុងតេឡូផាស ព្រោះក្រូម៉ូសូម ផ្តុំនៅប៉ូលសងខាង

+ កោសិកា C : ស្ថិតក្នុងប្រូផាស ព្រោះក្រូម៉ូសូមផ្តើមលេចរូបរាង ។

+ កោសិកា D : ស្ថិតក្នុងអាណាផាស ព្រោះក្រូម៉ូសូម បំលាស់ទីទៅកាន់ប៉ូលផ្ទុយគ្នា ។

ជា គឹមអៀង

www.facebook.com/7khmer
Fb page : Entertainment And Knowledge

❶❷ ខាងក្រោម : ជាមីតូសនៃកោសិការីសខ្ទឹមស (2n =16) ។ តើរូប 1, 2, 3, 4, 5, 6, តាងវគ្គណាខ្លះ ?



១. អាណាផាស

២. ប្រូផាស

៣. មេតាផាស :បន្ទះអេក្វាទ័រ (មើលពីមុខ :ប៉ូល)

៤.មេតាផាស(មើលពីចំហៀង)

៥. តេឡូផាស

៦. ចប់អាណាផាស

❶❸ តើធាតុកោសិកាអ្វីដែលចូលរួម ក្នុងមីតូសកោសិកាសត្វវាមាននាទីដូចម្តេច?

+ គឺសង់ត្រូសូម

+ វាមាននាទីបង្កើតជាអាស្ទែរហើយខ្សែកាំអាស្ទែររួមជាមួយប្រូតូប្លាសបង្កើតបានជាត្រយ៉ូងអាក្រូម៉ាទិច ។

❶❹ ចំពោះរុក្ខជាតិ តើមីតូសប្រព្រឹត្តទៅយ៉ាងសកម្មនៅតំបន់ណាខ្លះ?

ជា គឹមស្រៀង
www.facebook.com/7khmer
Fb page : Entertainment And Knowledge

គឺនៅតំបន់មេជាលិកាកំពូលដែលមានទីតាំងនៅផ្នែកចុងរឹស និង ពន្លកដើម (រាំប់រង ការលូតលាស់ផ្នែកកំពស់) ។

ចំណាំ: មេជាលិកាបន្ទាប់ស្ថិតនៅក្នុងសំបកដើមរ៉ាប់រងការលូតលាស់ផ្នែកកំរាស់នៃសរីរាង្គ ។

១៥ តើកត្តាអ្វីខ្លះដែលធ្វើអោយកោសិកាចែកខ្លួនតាមមីតូស?

កត្តាដែលធ្វើឱ្យកោសិកាចែកខ្លួនតាមមីតូស :

\+ ចំពោះសារពាង្គកាយពហុកោសិកា

- មានសារធាតុចិញ្ចឹមគ្រប់គ្រាន់
- អរម៉ូនដែលផលិតពី : ក្រពេញភេទ ទីរ៉ូអ៊ីត អ៊ីប៉ូភីស មានអំពើមិន ផ្ទាល់ទៅលើ មីតូស ។

\+ ចំពោះសារពាង្គកាយឯកកោសិកា

- កត្តាផលធៀប $\frac{\text{មាឌុណ្វៃយ៉ូ}}{\text{មាឌស៊ីតូប្លាស}}$ គឺក្នុងករណីដែលស៊ីតូប្លាស រីកធំពេកធ្វើឱ្យណ្វៃយ៉ូ មិនអាចត្រួតពិនិត្យមាឌស៊ីតូប្លាសបានបណ្ដាលឱ្យកោសិកាចែកខ្លួន ។

១៦ ក្នុងមីតូសក្រូម៉ូសូមលេចរូបរាងនៅពេលណា? បាត់ទៅវិញនៅពេលណា? ហេតុអ្វី?

-ក្រូម៉ូសូមលេចរូបរាងនៅ : ប្រូផាសហើយបាត់ទៅវិញនៅ : តេឡូផាសពីព្រោះ :

- នៅ ប្រូផាស ក្រូម៉ាទីនធ្វើស្ពៀរកម្មរួញខ្លីកាន់តែខ្លាំងឡើងៗរហូតដល់ចុងប្រូផាស ដែលធ្វើឱ្យលេចរូបរាងជាក្រូម៉ូសូម ។
- នៅតេឡូផាស ក្រូម៉ូសូមរលាស្ពៀរក្លាយជាក្រូម៉ាទីនវិញ ដែលធ្វើឱ្យគេមើលលែង ឃើញ ។

៩ា គីមរឿង

www.facebook.com/7khmer
Fb page : Entertainment And Knowledge

❶❼ ផលប្រយោជន៍ ស្វ័យតំណើងទ្វេនៃក្រូម៉ូសូម

អាចរក្សានូវទំរង់រូបរាងក្រូម៉ូសូមឱ្យនៅដដែលគ្រប់ចំណែកកោសិកាជាហេតុនាំឱ្យក្រុមក្រូម៉ូសូមនៃប្រភេទភាវរសនីមួយៗដែលស្ថិតក្នុងស៊ីតូតអាចចំលងឡើង វិញយ៉ាងទៀងទាត់នូវទំរង់ពិសេសរបស់ខ្លួនទៅឱ្យកោសិកា លូតលាស់ទាំងឡាយនៃ សារពាង្គកាយ ។

❶❽ តើមីតូសកោសិកាសត្វ និង កោសិការុក្ខជាតិ ខុសគ្នាដូចម្ដេច ?

<u>មីតូស</u>	**<u>មីតូសរុក្ខជាតិ</u>**
- មានកំណេអាស្ទែ នៅប៉ូលទាំងសងខាងនៃត្រយ៉ូងអាក្រូម៉ាទិចព្រោះកោសិកាសត្វមានសង់ត្រូសូម	- គ្មានអាស្ទែនៅប៉ូលទាំងសងខាងនៃត្រយ៉ូងអាក្រូម៉ាទិចទេព្រោះគ្មានសង់ត្រូសូម តែមានកន្ទិបប៉ូលលេចឡើង ។
- នៅតេឡូផាស ចំណែកស៊ីតូប្លាសកើតនៅត្រង់សន្ទូចកោសិកាចែកផ្ដាច់ជាកោសិកាកូន២	- នៅតេឡូផាស ចំណែកស៊ី តូប្លាសកើតឡើងដោយមានកំណេភ្នាសសែលុយឡូស ត្រង់ ប្លង់អេក្វាទ័រគឺមិនចែកផ្ដាច់ចេញពីគ្នាទេ ។

<u>សំគាល់</u> : <u>កន្ទិបប៉ូល</u>កើតពីការឡើងកំហាប់ នៃស៊ីតូប្លាសក្បែរណ្វៃ (cytoplasme périnucléaire) ។

ជា គឹមអៀង

www.facebook.com/7khmer
Fb page : Entertainment And Knowledge

១៩ តើមីតូសមាននាទីដូចម្តេច?

- ចំពោះសារពាង្គកាយពហុកោសិកា (សត្វនិងរុក្ខជាតិ) មីតូសជានាការលូតលាស់នៃសារពាង្គកាយ ហើយពេលសារពាង្គកាយពេញវ័យ មីតូសមាននាទីបង្កើតកោសិកាថ្មីជំនួសកោសិកាចាស់ដែលស្លាប់បាត់បង់។
- ចំពោះសារពាង្គកាយឯកកោសិកា មីតូសបង្កើតឯកត្តៈថ្មី និងបង្កើតចំនួនឯកត្តៈឱ្យបានច្រើន។
- មីតូសរាប់រងកំណើនកោសិកានិងតំហែរក្សាពតិមានសេនេទិចឱ្យនៅដដែល។

២០ ហេតុដូចម្តេចបានជាគេចាត់ទុកមីតូសនៃសារពាង្គកាយឯកកោសិកាជាការបន្តពូជ?

ពីព្រោះមីតូសនៃសារពាង្គកាយឯកកោសិកាបានបង្កើតកោសិកាកូនដែលជាឯកត្តៈថ្មី និងបង្កើនចំនួនឯកត្តៈកូនច្រើន។

២១ ហេតុដូចម្តេចបានជាកោសិកាកូនមានចំនួន និងរូបរាងក្រូម៉ូសូមដូចកោសិកាមេក្រោយពីមីតូស?

ពីព្រោះ:

- នៅវគ្គ S នៃចន្លោះវគ្គមានបាតុភូត ស្វ័យតំឡើងទ្វេនៃក្រូម៉ូសូម
- នៅអាណាផាស ក្រូម៉ាទីតទាំងពីរនៃក្រូម៉ូសូមនីមួយៗបែកពីគ្នាផ្តល់ជាក្រូម៉ូសូមកូន២ក្រុមដូចគ្នាបេះបិទ ហើយធ្វើរបាយស្មើគ្នានៅប៉ូលនីមួយៗនៃកោសិកា។

www.facebook.com/7khmer
Fb page : Entertainment And Knowledge

22 ព្រូនម្យ៉ាងមាន $2n = 4$ ។

ក- ចាប់ពីស៊ីកូតមួយរហូតដល់ជាសារពាង្គកាយមួយ តើវាត្រូវប្រព្រឹត្តតាមរបៀបអ្វី ដើម្បីដុះដាល?

ខ- តើកោសិកាកូនទីមួយៗ មានចំនួនក្រូម៉ូសូមប៉ុន្មាន?

គ- ហេតុអ្វីបានជាកោសិកាទីមួយៗ មានចំនួនក្រូម៉ូសូមដូចៗគ្នា?

ក- ដើម្បីដុះដាលលូតលាស់សារពាង្គកាយ ត្រូវប្រព្រឹត្តទៅយ៉ាងសកម្មតាមរបៀបមីតូស ។

ខ- កោសិកាកូនទីមួយៗ មានចំនួនក្រូម៉ូសូម $2n = 4$ គឺដូចកោសិកាមេ ។

គ- កោសិកាទីមួយៗមានចំនួនក្រូម៉ូសូមដូចៗគ្នា ពីព្រោះកោសិកទាំងនេះជាលទ្ធផលដែលស៊ីកូតធ្វើ <u>មីតូស</u> ជាបន្តបន្ទាប់ គឺនៅចន្លោះវគ្គ មានការស្ទួយតំលើងទ្វេនៃក្រូម៉ូសូម ហើយ នៅអាណាផាសមានរបាយក្រូម៉ូសូមស្មើគ្នានៅប៉ូលទាំងសងខាង ។

23 តើបាតុភូតសំខាន់ ២ ក្នុងមីតូសដែលរ៉ាប់រងចំនួន និង រូបរាងក្រូម៉ូសូមឱ្យនៅដដែលក្នុងកោសិកាកូនគឺអ្វីខ្លះ? ចូរបញ្ជាក់ការអះអាងរបស់អ្នក ។

បាតុភូតសំខាន់ពីរក្នុងមីតូសគឺ :

- ការស្ទួយតំលើងទ្វេនៃក្រូម៉ូសូមនៅវគ្គ S នៃចន្លោះវគ្គ <u>ពីព្រោះ</u>វារ៉ាប់រងនូវទំរង់រូបរាងក្រូម៉ូសូមឱ្យនៅដដែល និងតំឡើងបរិមាណទ្វេនៃក្រូម៉ូសូម ។
- ការផ្តាច់ចេញពីគ្នានៃក្រូម៉ាទីតទាំងពីររបស់ក្រូម៉ូសូមនីមួយៗ ដោយចល័តទៅរកប៉ូលផ្ទុយគ្នានៃត្រយ៉ូងអាក្រូម៉ាទិចនៅអាណាផាស <u>ពីព្រោះ</u>វារ៉ាប់រងនូវការបែងចែកក្រូម៉ូសូម ដូចគ្នាបេះបិទក្នុងកោសិកាកូនទាំងពីរ ។

www.facebook.com/7khmer
Fb page : Entertainment And Knowledge

❷❹ តើមីតូសត្រូវកត់សំគាល់ដោយមានបំរែបំរួលអ្វី?
-តើបំរែបំរួលនេះចាប់ផ្តើមនៅក្នុងវគ្គណានៃមីតូស? ហើយមានលក្ខណៈសំគាល់ដូចម្តេច ?

- មីតូសត្រូវកត់សំគាល់ដោយមានបំរែបំរួលណ្វៃយ៉ូនៃកោសិកា ។
- បំរែបំរួលនេះចាប់ផ្តើមនៅក្នុងប្រូផាស ហើយសំគាល់ដោយណ្វៃយ៉ូកើនមាឌ បន្ទាប់មកភ្នាសណ្វៃយ៉ូ និងនុយក្លេអូលរលាយជាមួយស៊ីតូប្លាសបង្កើតជាប្រូតូប្លាស ។

❷❺ ពេលសារពាង្គកាយពេញវ័យ តើកោសិកាណាខ្លះដែលនៅតែបន្តចែកខ្លួនតាមមីតូស ហេតុអ្វី?

នៅពេលសារពាង្គកាយពេញវ័យ កោសិកានៅតែបន្តចែកខ្លួនតាមមីតូស គឺជាកោសិកានៅគ្រប់សរីរាង្គទាំងអស់ (លើកលែងតែ កោសិកាសាច់ដុំ គោសិកាក្រហម កោសិកាប្រសាទ) ពីព្រោះកោសិកាទាំងនេះ មានកោសិកាខ្លះងាប់ ដូចនេះដើម្បីរក្សាលំនឹងចំនួនកោសិកា វាត្រូវតែចែកខ្លួនតាមមីតូសបន្តទៀត ។

❷❻ តើបាក់តេរីដែលជាសារពាង្គកាយឯកកោសិកាធ្វើចំណែកកោសិកាតាមមីតូសឬទេ? តើកោសិកាកូនទីមួយៗក្លាយជាអ្វី? តើគេចាត់ទុកមីតូសដូចម្តេចដែរចំពោះបាក់តេរី?

+ បាក់តេរីក៏ធ្វើចំណែកកោសិកាតាម មីតូសដែរ
+ កោសិកាកូនទីមួយៗ ក្លាយជាសារពាង្គកាយថ្មីទៀត

www.facebook.com/7khmer
Fb page : Entertainment And Knowledge

\+ ហេតុនេះគេចាត់ទុកមីតូស របស់បាក់តេរីជាការបន្តពូជដូច។

សំនួរដកស្រង់ពីសៀវភៅគ្រូសូខអប់រំ :

១. ពន្យល់ពាក្យ : ក្រូម៉ាទីន. ក្រូម៉ាទីត. ក្រូម៉ូសូម. មីតូស. ការបន្តពូជដូច. សង់ត្រូមែរ. បន្ទះអេក្វាទ័រ. ពតិមានសេនេទិច។

២. ចូរពណ៌នាពីវគ្គនីមួយៗនៃដំនើរមីតូស ។

៣. ចូរប្រៀបធៀបមីតូសសត្វ និង មីតូសរុក្ខជាតិ។

៤. ក្នុងចំណោកមីតូស បាតុភូតសំខាន់ពីរធ្វើឱ្យកោសិកាកូន និងកោសិកាមេ មានចំនួន និងរូបរាងក្រូម៉ូសូមដូចគ្នា ។ តើបាតុភូតទាំងនោះជាអ្វី?

៥. កោសិកាមួយ មានចំនួនក្រូម៉ូសូម 4 (2n =4) ។ ក្រូម៉ូសូមមានរូបរាងដូច បង្ហាញក្នុង (1) ។ ចូរគូររូបបំព្រួញ ដោយ ដាក់ចំណងជើងដែល បង្ហាញអំពី ដំនាក់នីមួយៗនៃមីតូសរបស់កោសិកានេះ ។

(1)



៦. សិស្សម្នាក់គូររូបតាងក្រូម៉ូសូមនៅប៉ូលនៃកោសិកា កំពុងធ្វើមីតូស ។កោសិកានោះមានចំនួនក្រូម៉ូសូម4 ។ តើសិស្សបានធ្វើកំហុសឆ្គងអ្វីខ្លះក្នុង រូបលេខ (2) ?

(2)

១. មើលក្នុងសៀវភៅពន្យល់ពាក្យទំព័រ ៩. ៨. ៣៩. ១. ២៦. ៥៥. ៣៦។

២. ពណ៌នាវគ្គនីមួយៗនៃដំណើរមីតូស :

(មើលក្នុងមេរៀន "ដំណើរមីតូស") ។

ជា គីមរៀង

www.facebook.com/7khmer
Fb page : Entertainment And Knowledge

៣. ប្រៀបធៀបមីតូសសត្វ និង រុក្ខជាតិ : មើលសំនួរទី (៤..ទំព័រ..១..) ។

៤. បាតុភូតសំខាន់ពីរគឺ :

- ស្វ័យគុណឡើងទ្វេ ក្រូម៉ូសូមនៅចន្លោះវគ្គ។

- ក្រូម៉ាទីតទាំងពីរ នៃក្រូម៉ូសូមនីមួយៗ បែកគ្នា ហើយធ្វើដំណើរទៅប៉ូលផ្ទុយគ្នា ។

៥. រូបបំប្រួញវគ្គទាំង 4 របស់មីតូស :

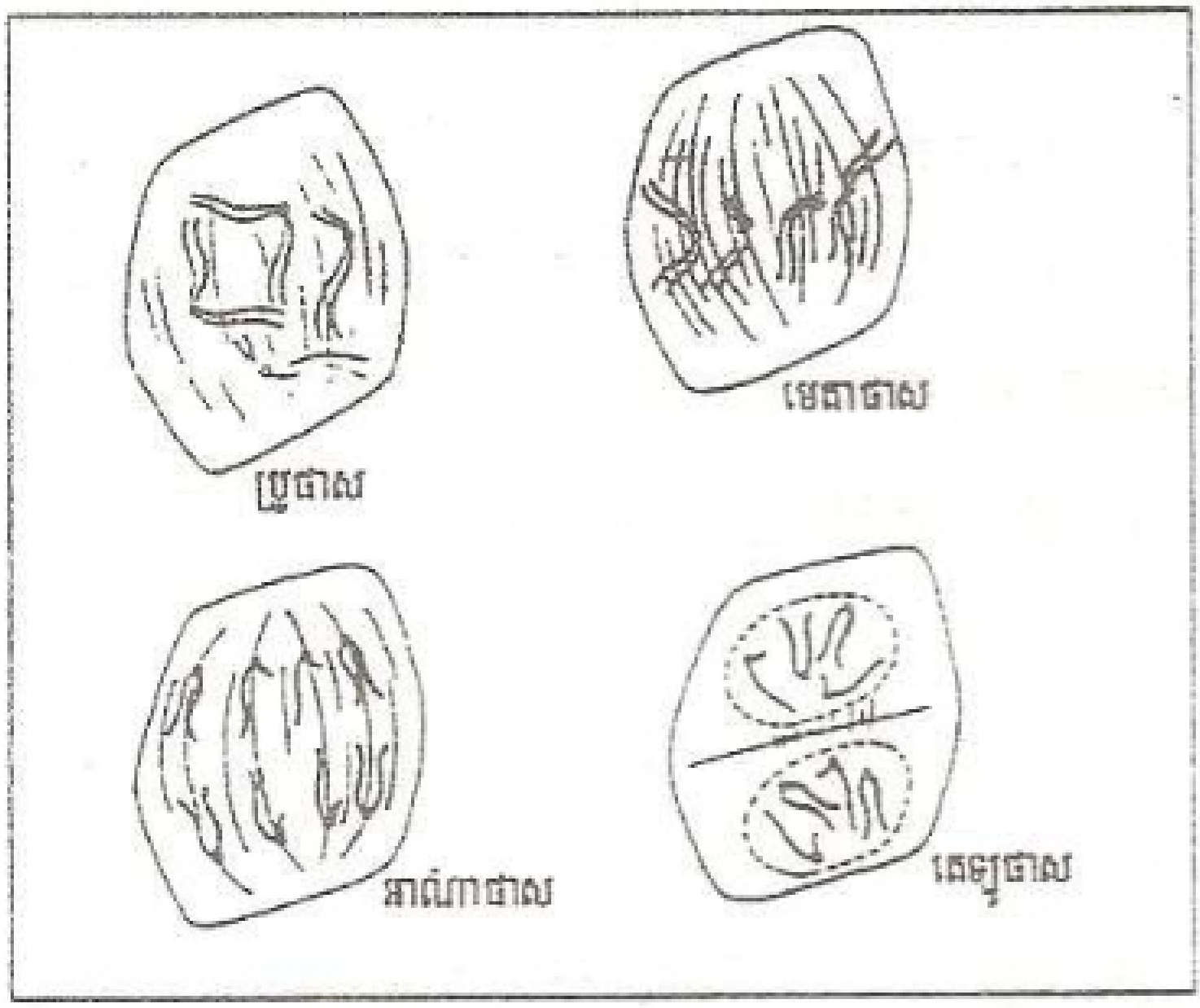

៦. រូបនេះតំណាងឱ្យកោសិកាមួយដែលស្ថិតនៅក្នុងអាណាផាស (ក្រូម៉ូសូមនៅប៉ូលទាំងសងខាង កោសិកា) ។ កំហុសឆ្គងគឺ :

- ក្រូម៉ូសូមនីមួយៗ មានក្រូម៉ាទីត ២ ។

- ប៉ូលម្ខាងៗ មានក្រូម៉ូសូមមិនស្មើគ្នាគឺម្ខាងមានតែ ៣ ឯម្ខាងទៀតមាន ៤។

www.facebook.com/7khmer
Fb page : Entertainment And Knowledge

មេរៀនទី ២ **ក្រូម៉ូសូម (Chromosome)**

> **២៧** + ដូចម្តេចដែលហៅថាការីយ៉ូទីប?
> + តើការសិក្សាពីការីយ៉ូទីប មានប្រយោជន៍ដូចម្តេចខ្លះ? ?

+ ការីយ៉ូទីប : មើលសៀវភៅពន្យល់ពាក្យទំព័រទី១
+ សិក្សាពីការីយ៉ូទីប មានប្រយោជន៍ឱ្យដឹងថា :
  - ចំនួនក្រូម៉ូសូម ជាចំនួនគូជានិច្ច
  - ក្នុងប្រភេទតែមួយ ការីយ៉ូទីបថេរជានិច្ច ។ ពីប្រភេទមួយទៅប្រភេទមួយ ការីយ៉ូទីបខុសគ្នាជានិច្ច ដែលអាចអោយគេស្គាល់ពីប្រភេទនីមួយៗបាន
  - ជាភេទញី ឬភេទឈ្មោលទៅតាមប្រភេទនីមួយៗនៃភាវរស់ ។
  - មានជំងឺ ឬលក្ខណៈមិនធម្មតា ករណីការីយ៉ូទីបប្រែប្រួល ។

> **២៨** តើគេអាចស្គាល់ប្រភេទនីមួយៗ នៃភាវរស់តាមរយៈការីយ៉ូទីបបានឬទេ ? ពីព្រោះអ្វី ? ចូរឱ្យឧទាហរណ៍បញ្ជាក់ផង ។

+ គេអាចស្គាល់ប្រភេទនីមួយៗនៃភាវរស់តាមរយៈការីយ៉ូទីបបាន ពីព្រោះក្នុងប្រភេទតែមួយ ចំនួន និងរូបរាងក្រូម៉ូសូម (ការីយ៉ូទីប) ថេរជានិច្ចហើយវាខុសគ្នាជានិច្ចពីប្រភេទមួយទៅប្រភេទមួយ ។

ឧទាហរណ៍ : មនុស្ស $2n=46$ ខុសពីគោដែល $2n=60$ ។ ក្នុងករណីដែលប្រភេទផ្សេងគ្នាមានចំនួនក្រូម៉ូសូមដូចគ្នា (ឧ.ដំឡូងបារាំង និងថ្នាំជក់ $2n = 48$) នោះរូបរាងក្រូម៉ូសូម ក្នុងកោសិកាប្រភេទទាំងពីរនោះក៏មិនដូចគ្នាដែរ ។

www.facebook.com/7khmer
Fb page : Entertainment And Knowledge

❷❾ ចូរសរសេររូបមន្ត ការីយ៉ូទីប

- មនុស្សស្រី និង ប្រុស (2n= 46)
- មាន់ញី និង ឈ្មោល (2n= 32)

- ការីយ៉ូទីបមនុស្សស្រី : 44 អូតូសូម + XX
- ការីយ៉ូទីបមនុស្សប្រុស : 44 អូតូសូម + XY
- មាន់ញី : 30 អូតូសូម + XY
- មាន់ឈ្មោល : 30 អូតូសូម + XX

❸⓿ ក.ដូចម្តេចដែលហៅថា អេតេរ៉ូក្រូម៉ូសូម?

ខ. តើសត្វណាខ្លះដែលការីយ៉ូទីប សត្វញីឈ្មោល មានអេតេរ៉ូក្រូម៉ូសូមដូចគ្នា និង ខុសគ្នាពីការីយ៉ូទីបរបស់មនុស្ស ?

ក. អេតេរ៉ូក្រូម៉ូសូម : មើលក្នុងសៀវភៅពន្យល់ពាក្យទំព័រ 65

ខ. • សត្វញីឈ្មោលដែលមានអេតេរ៉ូក្រូម៉ូសូមដូចមនុស្ស គឺ :

ថនិកសត្វ ល្ងូន កង្កែប សត្វល្អិតស្លាបពីរ :

- សត្វញី : XX សត្វឈ្មោល : XY

• សត្វញីឈ្មោលដែលមានអេតេរ៉ូសូម ខុសពីមនុស្ស :

បក្សី ត្រីមួយចំនួន មេអំបៅ ទ្រីតុង :

- សត្វញី : XY សត្វឈ្មោល : XX

www.facebook.com/7khmer
Fb page : Entertainment And Knowledge

❸❶ ក.ដូចម្ដេចដែលហៅថាក្រូម៉ូសូមឌីប្លូអ៊ីត? ក្រូម៉ូសូមអាប្លូអ៊ីត?

ខ.កោសិកាដែលផ្ទុកក្រូម៉ូសូមឌីប្លូអ៊ីតនិងអាប្លូអ៊ីតហៅថាកោសិកាអ្វី?

គ. តើចំនួន ឌីប្លូអ៊ីត នៅក្នុងណ្វៃយ៉ូកោសិកា កើនឡើងទៅតាមទំហំ (មាឌ) និងកំរិតវិវត្តនៃភាវរស់ រីទេ?

ក.-ក្រូម៉ូសូមឌីប្លូអ៊ីត និងក្រូម៉ូសូមអាប្លូអ៊ីត :សៀវភៅពន្យល់ពាក្យទំព័រ ៥

ខ.• កោសិកាដែលផ្ទុកក្រូម៉ូសូម ឌីប្លូអ៊ីត ហៅថាកោសិកា **ឌីប្លូអ៊ីត**

• កោសិកាដែលផ្ទុកក្រូម៉ូសូម អាប្លូអ៊ីត ហៅថាកោ**សិកា អាប្លូអ៊ីត**

គ.ចំនួន ឌីប្លូអ៊ីតក្នុងណ្វៃយ៉ូកោសិកា មិនកើនឡើងទៅ**តាមទំហំ**(មាឌ)និង កំរិតវិវត្តន៍នៃភាវរស់ទេ ពីព្រោះវាជាចំនួនថេរជានិច្ច ដែលលក្ខណៈពិសេសនៃប្រភេទ ភាវរស់ ។

<u>**សំគាល់**</u> : ភាពខុសគ្នា និងទំនាក់ទំនងរវាងក្រូម៉ូសូម ឌីប្លូអ៊ីត និងអាប្លូអ៊ីត (ស្នើមើលមេរៀនមេយ៉ូស)

❸❷ ចំពោះមនុស្ស : $2n = 46$ ។

ក. តើក្នុងកោសិកាលូតលាស់ មានក្រូម៉ូសូមភេទឬទេ?

ខ. រវាងមនុស្សស្រី និងមនុស្សប្រុស តើមានក្រូម៉ូសូមដូចគ្នាប៉ុន្មានគូ? គេហៅថាអ្វី ហើយខុសគ្នាប៉ុន្មានគូ? គេហៅថាអ្វីដែរ?

ក. ក្នុងកោសិកាលូតលាស់ មានក្រូម៉ូសូមភេទ ត្រូវជានិច្ច ។

ខ. រវាងមនុស្សប្រុស និងស្រី :

- ក្រូម៉ូសូម ដែលដូចគ្នាមាន 22 គូ ហៅថា " <u>អូតូសូម</u>" ឬ "<u>ក្រូម៉ូសូមធម្មតា</u>"

ជា គឹមអៀង

www.facebook.com/7khmer
Fb page : Entertainment And Knowledge

-ក្រូម៉ូសូមដែលខុសគ្នាមាន ១គូ ហៅថា "អេតេរ៉ូសូម" (អេតេរ៉ូក្រូម៉ូសូម) ឬ "ក្រូម៉ូសូមភេទ" ឬ "កូណូសូម"។

③④ ហេតុដូចម្តេច បានជាគេថាចំនួន និងរូបរាងក្រូម៉ូជា លក្ខណៈពិសេស នៃប្រភេទភាវរស់?

ពីព្រោះ តាមរយៈចំនួន និង រូបរាងក្រូម៉ូសូម គេអាចស្គាល់ប្រភេទភាវរស់ ទីមួយៗបាន គឺក្នុងប្រភេទតែមួយ ចំនួន និងរូបរាងក្រូម៉ូសូមដូចគ្នាជានិច្ចហើយ ប្រភេទផ្សេងគ្នាតែងតែមានចំនួននិងរូបរាងក្រូម៉ូសូមខុសគ្នាជានិច្ច ។ ករណីដែលភាវរស់ខ្លះមានចំនួនក្រូម៉ូសូម ដូចគ្នា ក៏រូបរាងក្រូម៉ូសូមខុសគ្នាដែរ។

③④ តើគេធ្វើការីយ៉ូទីបនៅវគ្គណានៃមីតូស ? ហេតុអ្វី?

គេធ្វើការីយ៉ូទីបនៅ មេតាផាស ព្រោះក្នុងវគ្គនេះ ក្រូម៉ូសូមលេចរូបរាងល្អ (ក្រូម៉ាទីនរួញខ្លីជាអតិបរិមា) ធ្វើឱ្យគេអាចពណ៌នារូបរាង និង រាប់ចំនួនក្រូម៉ូសូមរបស់ប្រភេទនីមួយៗបានយ៉ាងងាយ ។

③⑤ ក្នុងការធ្វើការីយ៉ូទីប ហេតុអ្វីបានជាគេប្រើ កុលស៊ីស៊ីន?

ពីព្រោះវាជាសារធាតុគីមីដែលរំលាយ ឬបង្អាក់មិនឱ្យមានកំនត្រយ៉ូងអាក្រូម៉ាទិច។ ដូច្នេះក្រូម៉ូសូមដែលផ្តុំត្រង់ប្លង់អេក្វាទ័រនៅមេតាផាសមិនអាចរត់ឡើងប៉ូលរៀង ខ្លួនទេ ជាហេតុអាចឱ្យគេថតយក បន្ទះអេក្វាទ័រដែលជាសំនុំក្រូម៉ូសូមមានរូបរាងនិងចំនួនច្បាស់លាស់សំរាប់ធ្វើការីយ៉ូទីប ។

www.facebook.com/7khmer
Fb page : Entertainment And Knowledge

៣៦ ចំពោះកោសិកា ឌីប្លូអ៊ីត និងទ្រីប្លូអ៊ីត តើមួយៗមាន ក្រុមអាប្លូអ៊ីត ប៉ុន្មានក្រុម? តើកោសិកានីមួយៗ មានក្រូម៉ូសូមខុសៗគ្នាប៉ុន្មានបែប? ចូរឱ្យឧទាហរណ៍ បញ្ជាក់?

- ចំពោះកោសិកា ឌីប្លូអ៊ីត មួយៗមានក្រុម អាប្លូអ៊ីត ២ក្រុម ។
- ចំពោះកោសិកា ទ្រីប្លូអ៊ីត មួយៗ មានក្រុមអាប្លូអ៊ីត ៣ក្រុម ។
- កោសិកានីមួយៗ មានក្រូម៉ូសូម n បែបខុសគ្នា ។

ឧទាហរណ៍ : មនុស្ស $2n = 46 \rightarrow n = $ ២៣

ដូច្នេះក្នុងកោសិកាមួយនេះ មានក្រូម៉ូសូម ២៣ បែបខុសគ្នា ។

៣៧ ខាងក្រោមជាក្រុមក្រូម៉ូសូមនៃកោសិកាពីររបស់សត្វកកេរពីរក្នុងប្រភេទតែមួយ ។

១. តើទិដ្ឋភាពក្រូម៉ូសូមទាំងនេះ ស្ថិតនៅក្នុងវគ្គណានៃវដ្តកោសិកា? ចូរបញ្ជាក់អំនះអំណាង?

២. ចូរវិភាគដោយជាក់លាក់នូវការីយ៉ូទីបទាំងពីរនេះ?(បញ្ជាក់ពីចំនួនក្រូម៉ូ សូម និង ភាពខុសគ្នានៃក្រូម៉ូសូមក្នុង កោសិកាទាំងពីរ)

៣. កំណត់ភេទញីឈ្មោលរបស់សត្វទាំង ២ ដោយបញ្ជាក់ អំណះអំណាង?

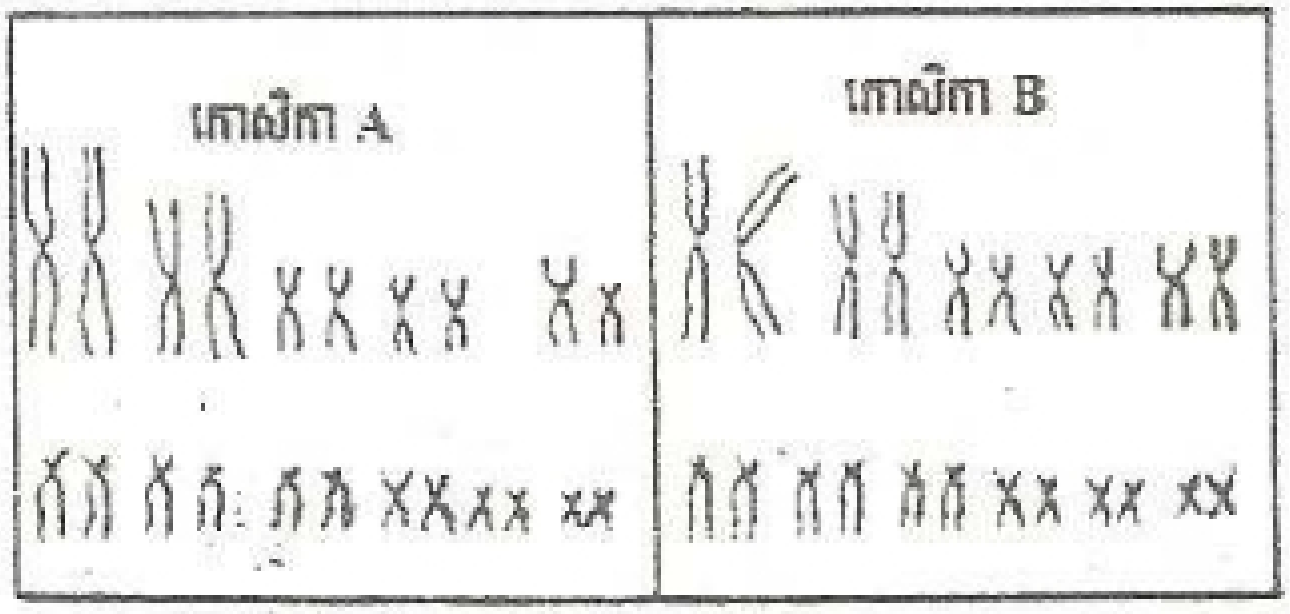

www.facebook.com/7khmer
Fb page : Entertainment And Knowledge

១) ទិដ្ឋភាពក្រូម៉ូសូមទាំងនេះ គឺស្ថិតនៅក្នុងមេតាផាស ពីព្រោះក្រូម៉ូសូម នីមួយៗបង្ក ឡើងដោយក្រូម៉ាទីត២ រួញខ្លីភ្ជាប់ដោយសង់ត្រូមែរ លេចចេញច្បាស់ ដែលអាច ឱ្យគេធ្វើការីយ៉ូទីបបាន។

២.) ការីយ៉ូទីបមាន២២ក្រូម៉ូសូមដែលផ្គុំជាគូៗ ។ ដូច្នេះវាស្ថិតក្នុងកោសិកាលូតលាស់ដោយមានរូបមន្តក្រូម៉ូសូម <u>2n = 22</u> ។

- រូបក្នុងកោសិកា A បន្ទាត់ទី 1 ខាងស្តាំមាន ក្រូម៉ូសូម 1 គូដែលមានរូបរាងខុសគ្នា (XY) ។
- រូបក្នុងកោសិកា B បន្ទាត់ទី1 ខាងស្តាំមាន ក្រូម៉ូសូម 1 គូដែលមានរូបរាងដូចគ្នា (XX)
- យើងឃើញថារវាងកោសិកា A និង B មានក្រូម៉ូសូម 1 គូនេះ ខុសគ្នា

ដូច្នេះយើងសន្និដ្ឋានថា វាជា <u>ក្រូម៉ូសូមភេទ</u> (អេតេរ៉ូក្រូម៉ូសូម) ។

៣.) សត្វករកេរ ស្ថិតក្នុងថ្នាក់ថនិកសត្វ ដូច្នេះកោសិកា A គូក្រូម៉ូសូមភេទមានរាងខុសគ្នា គឺជាកោសិកា<u>សត្វឈ្មោល</u> ឯកោសិកា B ដែលមានក្រូម៉ូសូមភេទដូចគ្នាគឺជាកោសិកា<u>សត្វញី</u> ។

3 8 ក្រូម៉ាទីននៅចន្លោះវគ្គពិនិត្យដោយមីក្រូទស្សន៍អេឡិចត្រូនិចពង្រីកខ្សោយ តើវាមានទិដ្ឋភាពបែបណា? ករណីពង្រីកកិតខ្លាំង តើវាមានទិដ្ឋភាពដូចម្តេច?

\+ ករណីពង្រីកខ្សោយ ក្រូម៉ាទីន មានទិដ្ឋភាពជាគ្រាប់ៗ (រូបលេខ១)

\+ ករណីពង្រីកឱ្យខ្លាំង វាមានទិដ្ឋភាពជាបណ្តាញសរសៃ ហើយរាងប៉ោងជាគ្រាប់ៗប្រទាក់បន្តគ្នាមានសភាព ដូចខ្សែកគ្រាប់គុជ (រូប២) ។ គ្រាប់គុជមួយជា <u>នុយក្លេអូសូម</u> (អង្កត់ផ្ចិត : 10n m) ។ ធាតុបង្កនុយក្លេអូសូម ជាម៉ូលេគុលប្រូតេអ៊ីន <u>អ៊ីស្តូន</u> (histone) និង ADN ។ ADN រុំពីលើប្រូតេអ៊ីន នីមួយៗ ពីរៗជុំ ហើយតភ្ជាប់គ្នាពី

www.facebook.com/7khmer
Fb page : Entertainment And Knowledge

ប្រូតេអ៊ីន មួយទៅប្រូតេអ៊ីនមួយទៀតបង្កើតជា នុយក្លេអូភី ឡាម៉ង់ មានរាងស៊ីឡាំង អង្កត់ផ្ចិត10nm(រូប.3) ដូច្នេះនុយក្លេអូភីឡាម៉ង់ នេះហើយជាក្រូ ម៉ាទីន នៅចន្លោះវគ្គ។

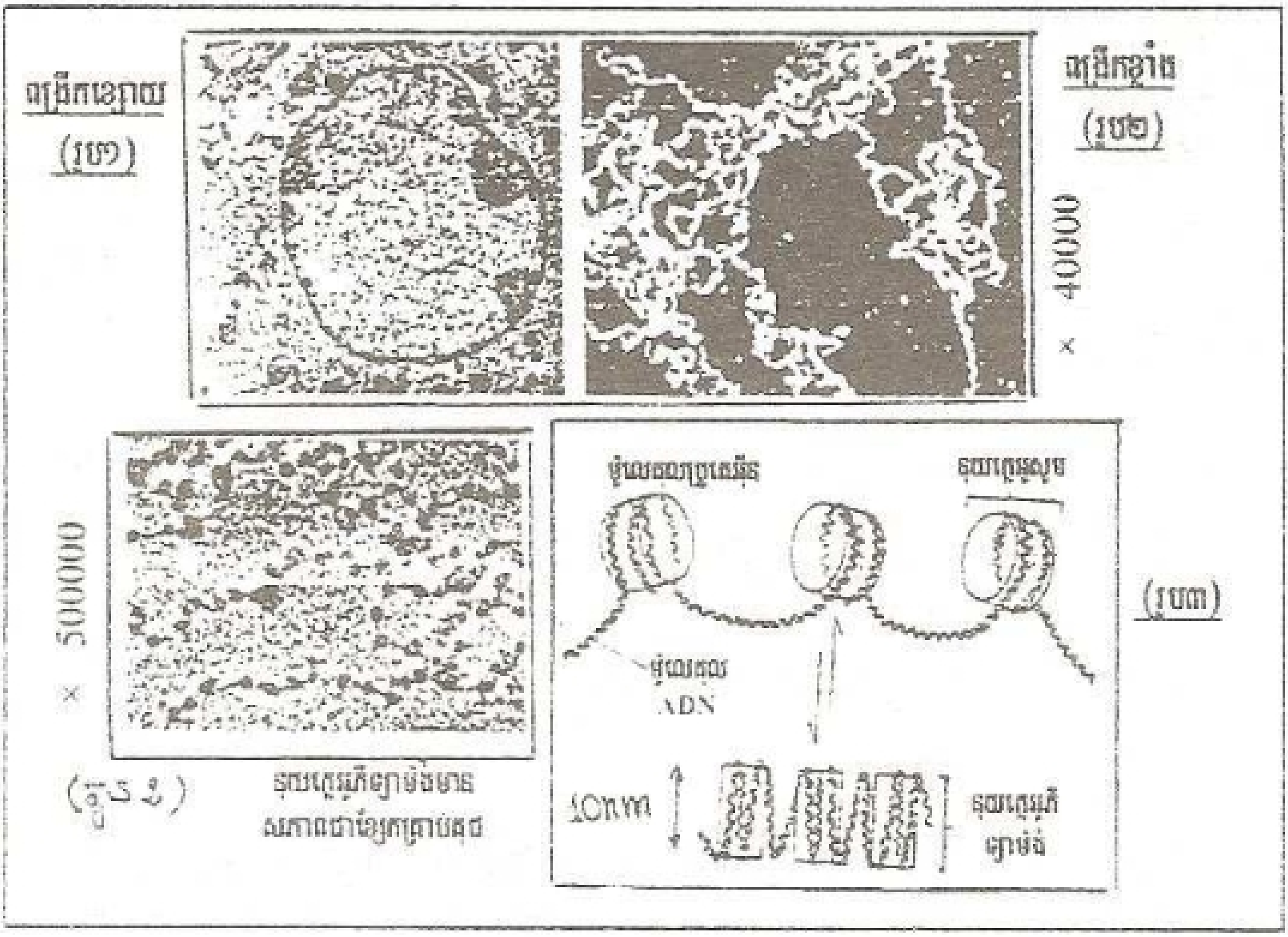

៣១ ក. ក្រូម៉ូសូមនៅចន្លោះវគ្គហៅថាអ្វី? តើវាបង្កឡើងពីអ្វីខ្លះ ?

ខ. ហេតុអ្វីបានជាគេមិនអាចមើល ឃើញក្រូម៉ូសូមនៅចន្លោះវគ្គ?

ក. ក្រូម៉ូសូមនៅចន្លោះវគ្គហៅថា <u>ក្រូម៉ាទីន</u> (នុយក្លេអូភីឡាម៉ង់)។ វាបង្កឡើងពីADNដែលរុំព័ទ្ធជុំវិញប្រូតេអ៊ីនពីរ១ជុំ ហើយតភ្ជាប់ពីប្រូតេអ៊ីនមួយទៅប្រូតេអ៊ីនមួយ

ខ. គេមិនអាចមើលឃើញក្រូម៉ូសូមនៅចន្លោះវគ្គ ពីព្រោះវាជាក្រូម៉ាទីន (ឬ នុយក្លេអូភីឡាម៉ង់) រលាដែលមិនទាន់រុំជាស្នៀរ។

www.facebook.com/7khmer
Fb page : Entertainment And Knowledge

៤០ តើនៅមេតាផាស ក្រូម៉ូសូមមានទំរង់ដូចម្តេច?

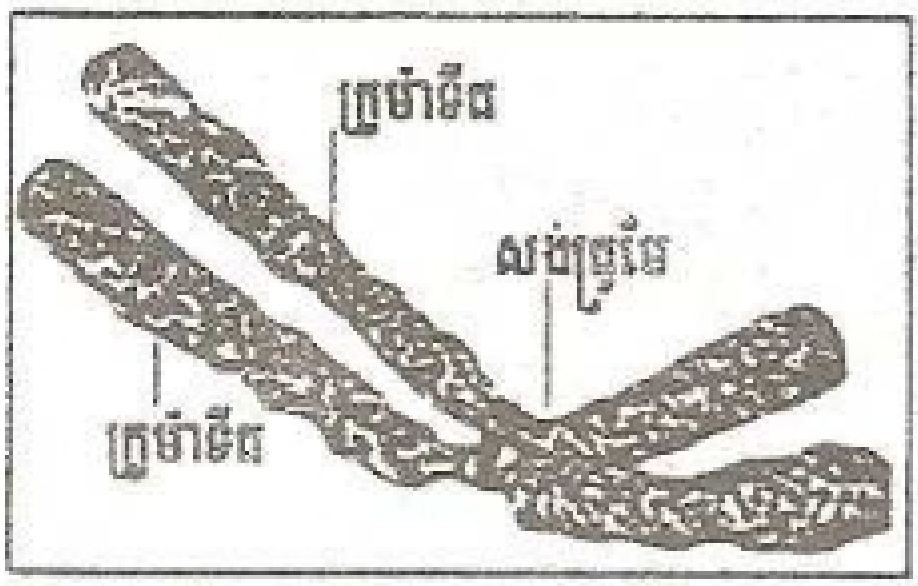

នៅមេតាផាស ក្រូម៉ូសូម បង្កឡើងពីក្រូម៉ាទីត២ ភ្ជាប់គ្នាដោយសង់ត្រូមែរ ។ ក្រូម៉ាទីតនីមួយៗជាក្រូម៉ាទីន ដែលរួញខ្លី ជាអតិបរិមា (ស្ពៀវកម្មនៃនុយក្លេអូភីឡាម៉ង់ តាំងពីប្រូផាស) ។ ហេតុនេះហើយទើប ក្រូម៉ូសូម នៅមេតាផាសមានរូបរាងយ៉ាងច្បាស់ល្អ ។

៤១ តើជីវិតកោសិកា ប្រព្រឹត្តទៅដោយឆ្លងកាត់ដំណាក់កាលធំៗប៉ុន្មាន? តើដំណាក់កាលទាំងនេះបង្កើតបានជាប៉ុន្មាន វដ្តកោសិកា? ហើយត្រូវនឹងមីតូសប៉ុន្មានដង?

+ ជីវិតកោសិកា ប្រព្រឹត្តទៅដោយឆ្លងកាត់ដំណាក់កាលធំៗពីរគឺ :

- ចន្លោះវគ្គ និងមីតូស

+ ដំណាក់កាលទាំង 2នេះ បង្កើតបានជាមួយវដ្តកោសិកាហើយត្រូវ នឹងមីតូស 1ដង

៤២ គេថាក្រូម៉ូសូម ជាធាតុអចិន្ត្រៃយ៍របស់កោសិកា តើពិតឬទេ? ចូរបញ្ជាក់ការអះអាងរបស់អ្នក ។

ជាការពិត ។ ពីព្រោះក្នុងចន្លោះវគ្គ និងវគ្គមីតូសនៃវដ្តកោសិកានីមួយៗមានវត្តមានក្រូម៉ូសូមជានិច្ច គ្រាន់តែវាស្ថិតនៅក្រោមទំរង់ខុសគ្នា :

- **ចន្លោះវគ្គ** : ក្រូម៉ូសូម ជាក្រូម៉ាទីន ឬនុយក្លេអូភីឡាម៉ង់ រលា ចូនមួយសរសៃ ចូន២សរសៃ ដោយការស្វ័យតំឡើងទ្វេ ។

www.facebook.com/7khmer
Fb page : Entertainment And Knowledge

- **វគ្គមីតូស** : ក្រូម៉ូសូម ជាក្រូម៉ាទីនរូញខ្លី លេចជារូបរាងផ្សេងៗ ចូន
មានក្រូម៉ាទីតមួយ ចូនក្រូម៉ាទីត២ ។

4 3 ចូរបង្ហាញពីការវិវត្តន៍ នៃរូបរាង និងទំរង់ក្រូម៉ូសូមក្នុងវដ្ត កោសិកា

ទម្រង់រូបរាង និងទំរង់ក្រូម៉ូសូមក្នុងវដ្តកោសិកា :

- **ចន្លោះវគ្គ** :
  - វគ្គ G_1 : ភីឡាម៉ង់រលា ដោយមិនទាន់ស្ទួយតំឡើងទេ ។
  - វគ្គ S : នុយក្លេអូភីឡាម៉ង់ ដែលរលា តំឡើងទ្វេ ប្រកបដោយភ្នែក ស្ទួយតំឡើងទ្វេជាច្រើន ។
  - វគ្គ G_2 : នុយក្លេអូភីឡាម៉ង់នីមួយៗបង្កើតបានក្រូម៉ាទីត២ សរសៃ ភ្ជាប់ ដោយសង់ត្រូមែរ ។
- **វគ្គមីតូស** :
  - **ប្រូផាស** : នុយក្លេអូភីឡាម៉ង់ រួញខ្លីដោយរងស្ពៀរកម្ម បង្កើតបានជា ក្រូម៉ូសូម ដែលមានក្រូម៉ាទីតពីរ ។
  - **មេតាផាស** : ស្ពៀរកម្មប្រព្រឹត្តទៅជា អតិបរមា ធ្វើឱ្យ ក្រូម៉ូសូម លេចរូបរាងច្បាស់ជាងវគ្គផ្សេងៗ ។ ក្រូម៉ូសូម១ មាន ក្រូម៉ាទីត ២
  - **អាណាផាស** : សង់ត្រូមែ នៃក្រូម៉ូសូមបែកជាពីរ ធ្វើឱ្យក្រូម៉ាទីតទាំង២ បែកចេញពីគ្នា បង្កើតជាក្រូម៉ូសូមកូនពីរ ដែលក្រូម៉ូសូម កូននីមួយៗ មាន ក្រូម៉ាទីតតែមួយ ។

www.facebook.com/7khmer
Fb page : Entertainment And Knowledge

- <u>តេឡូផាស</u> : ក្រូម៉ូសូមកូនទីមួយៗ ត្រូវបាត់រូបរាងទៅវិញ ដោយសារ ការលាស្ពៀរនៃ នុយក្លេអូភីឡាម៉ង់។

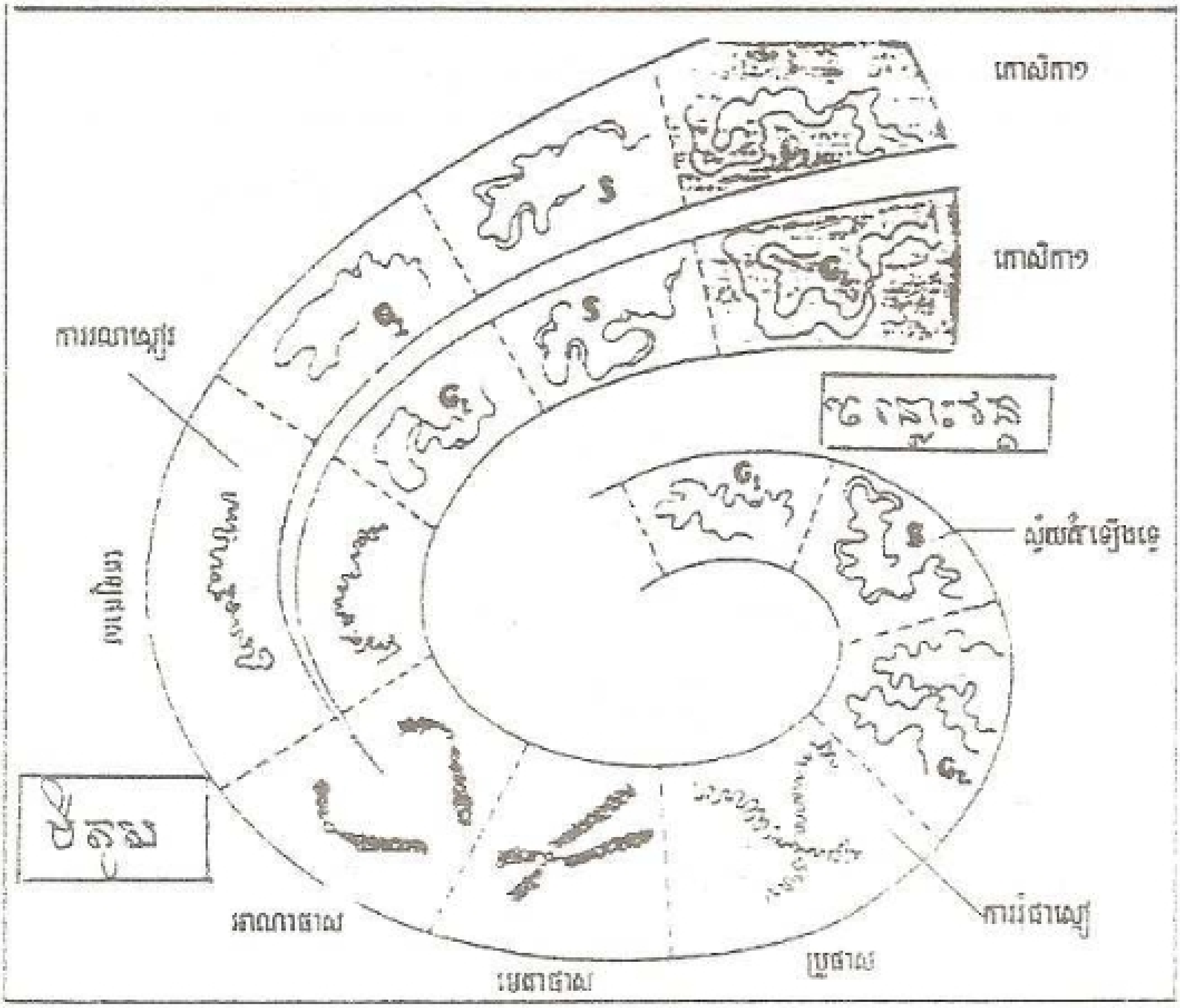

៤៤ - ទំរង់ក្រូម៉ូសូមគ្មានលំនឹងទេក្នុងវដ្តកោសិកា ។ តើអ្វីជាបុព្វហេតុនៃបំលាស់ទំរង់នេះ

+ តើសារធាតុបង្កើតមីនៃក្រូម៉ូសូម មានអ្វីខ្លះ?

+ បុព្វហេតុនៃបំលាស់ទំរង់ក្រូម៉ូសូមក្នុងវដ្ត កោសិកា គឺការរុំជាស្ពៀរ និងលាស្ពៀរ នៃក្រូម៉ូសូម ។

- ធាតុបង្កើតមីនៃ ក្រូម៉ូសូម មាន ADN និង ប្រូតេអ៊ីន។

www.facebook.com/7khmer
Fb page : Entertainment And Knowledge

45 ក្នុងវគ្គនីមួយៗ តើក្រូម៉ូសូមនីមួយៗមាន ក្រូម៉ាទីតចំនួន ប៉ុន្មាន ?

+ __ប្រូផាស__ : ក្រូម៉ូសូមមួយ មានក្រូម៉ាទីត 2

+ __មេតាផាស__ : ក្រូម៉ូសូមមួយ មានក្រូម៉ាទីត 2

+ __អាណាផាស__ : ក្រូម៉ូសូមមួយ មានក្រូម៉ាទីត 1

+ __តេឡូផាស__ : ក្រូម៉ូសូមមួយ មានក្រូម៉ាទីត 1

46 ក្នុងសារពាង្គកាយពហុកោសិកា តើកោសិកាណាដែលចែកខ្លួន តាមមីតូស ?

- គឺ កោសិកាលូតលាស់នៃសរីរាង្គ របស់សារពាង្គកាយ និងកោសិកាពូជនៅក្នុងក្រពេញភេទ ដែលចែកខ្លួនតាម មីតូស ។

47 តើចំនួន និងរូបរាងក្រូម៉ូសូមក្នុងកោសិកាលូតលាស់ត្រូវបាន ចំលងយ៉ាងត្រឹមត្រូវពីក្រូម៉ូសូមរបស់ស៊ីកូតដោយសារចលនាការអ្វី? ចូរបញ្ជាក់អំណះអំណាងរបស់អ្នក?

ដោយសារចលនការមីតូស ពីព្រោះ មីតូសជាចលនការដែលធានាលំនឹងនៃចំនួន និងរូបរាងក្រូម៉ូសូម ក្នុងកោសិកាកូនឱ្យនៅដដែលដូចកោសិកាមេ ។

48 ក. ចំពោះ សេនេទិច តើគេចាត់ទុកក្រូម៉ូសូមជារូបធាតុអ្វី ? តើវាមានមូលដ្ឋានរូបធាតុនៅឯណា?

ខ. តើលក្ខណៈពិសេសរបស់ក្រូម៉ូសូម ចំពោះប្រភេទភាវរស់នីមួយៗ គឺអ្វីខ្លះ?

ក. គេចាត់ទុកក្រូម៉ូសូម ជារូបធាតុតំនពូជ ។

www.facebook.com/7khmer
Fb page : Entertainment And Knowledge

វាមានមូលដ្ឋានរូបធាតុ ស្ថិតនៅ ក្នុងណ្វៃយ៉ូ នៃកោសិកា ។

ខ. លក្ខណៈពិសេសរបស់ក្រូម៉ូសូម ចំពោះប្រភេទ ភាវរស់នីមួយៗ គឺចំនួន និងរូបរាង នៃក្រូម៉ូសូម (ការីយ៉ូទីប) ។

49 តើក្រូម៉ូសូម មាននាទីដូចម្តេចខ្លះ?

ក្រូម៉ូសូម មាននាទីកំណត់លក្ខណៈតពូជ របស់ភាវរស់ គឺក្រូម៉ូសូមមានផ្ទុកពតិមានសេនេទិច ដែលចាំបាច់សំរាប់ការសាងសង់លក្ខណៈ សារពាង្គកាយ ។ ដូចនេះក្រូម៉ូសូមជាទំរពតិមានសេនេទិច ។

50 តើគេវិនិច្ឆ័យទៅលើអ្វីខ្លះ ដើម្បីកំណត់ភាវរស់ស្ថិតនៅក្នុង ប្រភេទតែមួយ?

គេវិនិច្ឆ័យនៅលើលក្ខណៈបីយ៉ាង :

- ការីយ៉ូទីបដូចគ្នា
- លក្ខណៈរូបរាងដូចគ្នា
- អាចបង្កាត់គ្នាបាន ហើយកូនដែលកើតមក មានលទ្ធភាព នឹងបង្កើតកូន បានទៀត

51 ចូរបញ្ជាក់ដោយសង្ខេបពីលក្ខណៈខុសគ្នា នៃក្រូម៉ាទីន និង ក្រូម៉ូសូម ។

ឯា

- ក្រូម៉ាទីនៈ ជានុយក្លេអូភីឡាម៉ង់រលា ដែលមានសភាពខ្សែកគ្រាប់គុជ ។វាគ្មានរូបរាងច្បាស់លាស់ទេ គឺជាបណ្តាញសរសៃ ។ វាអាចតំឡើងទ្វេនៅវគ្គ S នៃចន្លោះវគ្គ ហើយអាចរុំជាស្ពៀរ និងរលាស្ពៀរវិញ នៅពេលមីតូស ។

ដោយ គឹមអៀង

www.facebook.com/7khmer
Fb page : Entertainment And Knowledge

- <u>ក្រូម៉ូសូម</u> : ជានុយក្លេអូភីទ្បាម៉ង់ ដែលរួញខ្លី ។ វារងស្ទៀរកម្មជាអតិបរមា។ នៅមេតាផាស វាមានរូបរាងច្បាស់លាស់ជាអក្សរ V រាងដំបង ឬ ចំនុចង ក្រូម៉ូសូម បង្កដោយក្រូម៉ាទីត២ ឬ មួយទៅតាមវគ្គនីមួយៗនៃមីតូស។

សំនួរដកស្រង់ពីសៀវភៅគ្រូសង្ខេបម៉ៃ

១. ពន្យល់ពាក្យ :ក្រូម៉ូសូមអូម៉ូឡូក កោសិកាអាប្លូអ៊ីត កោសិកាឌីប្លូអ៊ីត អេតេរ៉ូក្រូម៉ូសូម អូតូសូម ការីយ៉ូទីប វដ្តកោសិកា ចន្លោះវគ្គ នុយក្លេអូភីទ្បាម៉ង់ នុយក្លេអូសូម ។

២. ហេតុអ្វីបានជា ក្រូម៉ូសូម មិនលេចរូបរាងនៅចន្លោះវគ្គ ?

៣. រូបភាព (១) បង្ហាញពីក្រូម៉ូសូម នៅក្នុងកោសិកា ជ្រូសូភីលញី និងឈ្មោល ។

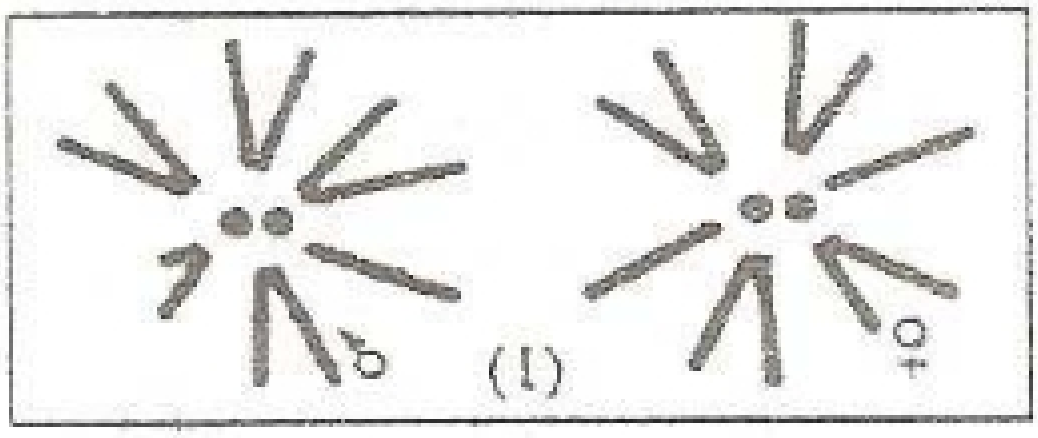

ក. ចូរពិនិត្យទិដ្ឋភាពក្រូម៉ូសូម និងកំនត់ចំនួនក្រូម៉ូសូមក្នុង កោសិកា ជ្រូសូ ភីលញីនិងឈ្មោល ។

ខ. តើកោសិកាទាំងនេះ ជាកោសិកា អាប្លូអ៊ីត រឺ ឌីប្លូអ៊ីត? ហេតុអ្វី?

គ. ចូរធ្វើចំណែកថ្នាក់ក្រូម៉ូសូមទាំងនេះ ?

៤. រូបភាព (២) បង្ហាញពីការីយ៉ូទីបរបស់មនុស្ស ប្រុសដែលមានជំងឺម្យ៉ាង (ឯកត្តៈ មានទិដ្ឋភាពជាមនុស្សស្រី គ្មានពុកមាត់ ពងស្វាសមិនលូតលាស់ ហើយអារ) ។

ក. ចូរវិភាគការីយ៉ូទីប ដោយបញ្ជាក់ថា ហេតុដូចម្តេចបានជាគេថា ការីយ៉ូ ទីប នេះជារបស់មនុស្សប្រុស?

www.facebook.com/7khmer
Fb page : Entertainment And Knowledge

ខ. តើការីយ៉ូទីបនេះមានអ្វីខុសប្លែកពីធម្មតា? តើអ្នកអាចទាញយកសេចក្ដីសន្និដ្ឋានអំពីបុព្វហេតុនៃជំងឺរបស់ជននេះបានទេ?

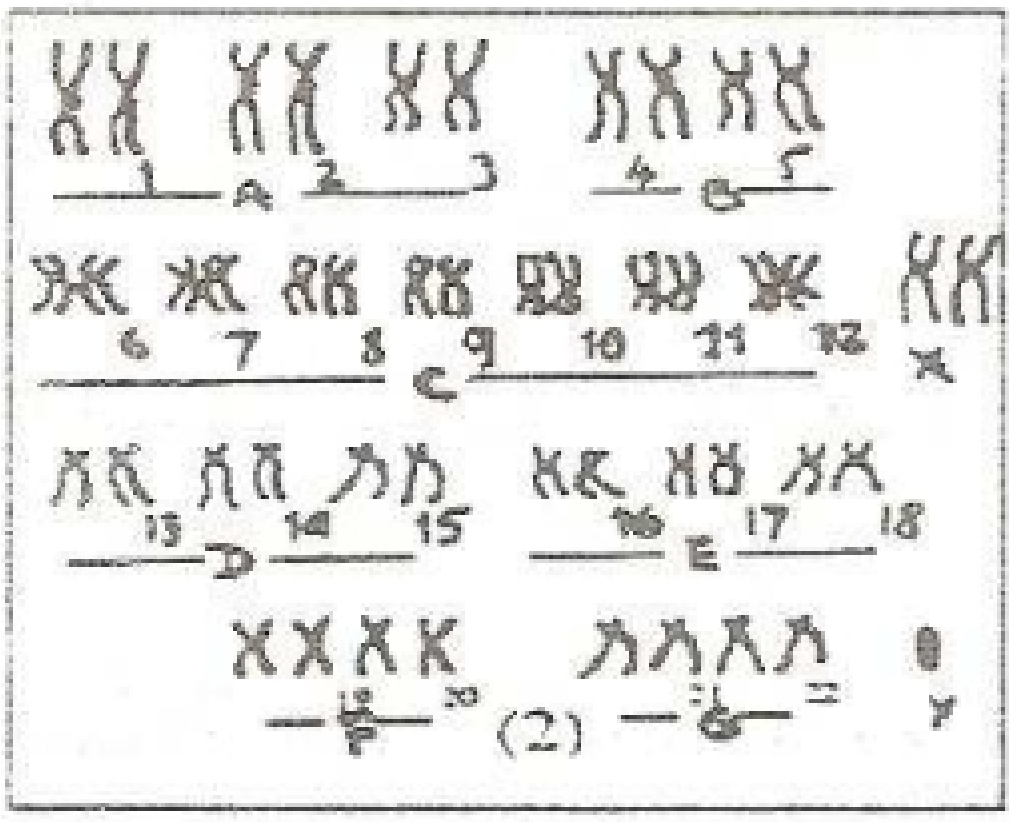

ចំលើយ

១. ពន្យល់ពាក្យ : មើលសៀវភៅពន្យល់ពាក្យ ទំព័រ ៨.៦.៦៥.៦៨.៣.៤៧.១៣.២៤។

២. ពីព្រោះវាជាបណ្ដាញ ក្រូម៉ាទីន ដែលជាភីឡាម៉ង់ឆ្មារ មិនទាន់រុំជាស្ពៀរ (មិនទាន់រងស្ពៀរកម្ម) ។

៣. ក. – ទិដ្ឋភាពក្រូម៉ូសូម : ជាក្រូម៉ូសូម មានរូបរាងច្បាស់នៅមេតាផាស :

- អូតូសូមរាងជាអក្សរ V : 2គូ
- អូតូសូមរាងចំនុច : 1គូ
- អេតេរ៉ូសូម : 1គូ : ញី XX និង ឈ្មោល XY ។

+ ចំនួនក្រូម៉ូសូម : 2n =8

ញី = ៦ អូតូសូម +XX និង ឈ្មោល ៦អូតូសូម +XY

ខ. ជាកោសិកាឌីប្លូអ៊ីត ពីព្រោះវាមានរូបរាងដូចគ្នាពីរៗ ។

គ.

ប្រូស្វភិល ♀	V V	V V	ı ı	I I
ប្រូស្វភិល ♂	V V	V V	ı ı	I r

៤. ក. វិភាគការីយ៉ូទីប : ជាការីយ៉ូទីបរបស់មនុស្សប្រុស ពីព្រោះមានក្រូម៉ូសូម Y ។

www.facebook.com/7khmer
Fb page : Entertainment And Knowledge

ខ. ការីយ៉ូទីបនេះ មានលក្ខណៈខុសប្លែកពីធម្មតាគឺ 2n = 47 ។ ពីព្រោះ ការីយ៉ូទីបនេះ មានក្រូម៉ូសូមភេទដល់ទៅ ៣គឺ XXY (ប្រុសធម្មតា XY) ។ បុព្វហេតុនៃជំងឺរបស់ជននោះ គឺបណ្ដាលមកពីមានក្រូម៉ូសូមភេទដល់ទៅបី គឺ XXY ។

សំគាល់ : ករណីបើសិស្សរៀនដល់មេយ៉ូស អាចមានសំនួរ សួរថា : បុព្វហេតុអ្វីដែលនាំឱ្យមនុស្សប្រុសមានក្រូម៉ូសូម ភេទ XXY (បុព្វហេតុនាំកើតជំងឺនេះ)

ចំលើយ : បណ្ដាលមកពីនៅពេលមេយ៉ូស ក្នុងកំនអូវុល គូក្រូម៉ូសូមអូម៉ូ ឡូក XX មិនផ្ដាច់ចេញពីគ្នាទេ ហេតុនេះគេបានអូវុលម្យ៉ាង ដែលមានក្រូ ម៉ូសូមភេទ X ដល់ទៅ ២។ នៅពេលដែលស្ពែម៉ាតូសូអ៊ីត Y ជួបបង្កកំនើត ជាមួយអូវុល (XX) វាផ្ដល់ជាស៊ីកូតដែលមាន ក្រូម៉ូសូមភេទ ដល់ទៅបីគឺ (XXY) ។

www.facebook.com/7khmer
Fb page : Entertainment And Knowledge

មេរៀនទី ១ : មេយ៉ូស Meiose

១២ ក. ដូចម្ដេចដែលហៅថា មេយ៉ូស ?

ខ. ចូរបង្ហាញពីលក្ខណៈខុសគ្នារវាងមេយ៉ូស និងមីតូស ។

ក. **មេយ៉ូស** : ជាចំណែកកោសិកា ២ដងបន្តបន្ទាប់ដែលកោសិកាឌីប្លូអ៊ីតមេមួយ បង្កើតបានជាកោសិកាអាប្លូអ៊ីតកូន ៤ ។

ខ. **លក្ខណៈខុសគ្នាខាង** :

មេយ៉ូស	មីតូស
- ចំណែកកោសិកា 2ដង បន្តបន្ទាប់តែការចំឡើងទ្វេនៃក្រូម៉ូសូមមានតែម្ដង	- ចំនែកកោសិកាតែ 1ដងឯការចំឡើងទ្វេនៃក្រូម៉ូសូមមានតែម្ដងដែរ
- ជាចំណែក កោសិកាភេទ ផានាទូវកំណកាម៉េត	- ចំណែកកោសិកា លូតលាស់ធានាការលូតលាស់សារពាង្គកាយ
- ចំនួនក្រូម៉ូសូម 2n បន្ថយមកនៅពាក់កណ្ដាល គឺចំនួន n	- ចំនួនក្រូម៉ូសូម 2n រក្សានៅដដែល គឺគ្មានការបន្ថយទេ
- នៅប្រូផាស I អាចមានបាតុភូតក្រូ ស៊ីញូអូវើ	- គ្មានបាតុភូតក្រូស៊ីញូ អូវើទេ
- មានការផ្ដាច់ចេញពីគ្នានៃ គូក្រូម៉ូសូមអូម៉ូឡូក	- គ្មានការផ្ដាច់ចេញពីគ្នា នៃគូក្រូម៉ូសូមអូម៉ូឡូកទេ ។
- កោសិកាមេមួយ(2n) បង្កើតបានកោសិកា កូន 4 (n)	- កោសិកាមេមួយ (2n) បង្កើតបានកោសិកាកូន 2 (2n) ។

www.facebook.com/7khmer
Fb page : Entertainment And Knowledge

៥៣ តើហេតុការណ៍ ដែលកើតឡើងរវាងប្រូផាស I នៃមេយ៉ូស និង ប្រូផាសនៃមីតូស ខុសគ្នាដូចម្តេច?

ប្រូផាស I

-មានបណ្តុំគ្នាពីរៗនៃតួ ក្រូម៉ូសូមអូម៉ូឡូក ប្រេះបណ្តោយ (តេត្រាត) ។

- អាចមានបាតុភូត ក្រូស៊ីញ៉ូអូវើ

ប្រូផាស

- គ្មានភាពផ្គុំគ្នាពីរៗនៃ តួក្រូម៉ូសូមអូម៉ូឡូកប្រេះបណ្តោយទេ (គ្មានតេត្រាត)

- គ្មានបាតុភូត ក្រូស៊ីញ៉ូអូវើទេ។

៥៤ តើហេតុការណ៍ដែលកើតឡើងរវាងអាណាផាសI និងអាណា ផាសII នៃមេយ៉ូស ខុសគ្នាដូចម្តេច?

អាណាផាស I

- មានការផ្តាច់ចេញពីគ្នា នៃតួក្រូម៉ូសូមអូម៉ូឡូក ទៅកាន់ប៉ូលផ្ទុយគ្នា គឺជា n ក្រូម៉ូសូម ដែលប្រេះបណ្តោយ ដោយគ្មានធ្វើចំណែកសង់ត្រូមែរទេ ។

- មានការបន្ថយក្រូម៉ូសូមពី 2n ទៅ n

អាណាផាស II

- n ក្រូម៉ូសូមដែលប្រេះបណ្តោយ ធ្វើចំណែកសង់ត្រូមែរនាំឱ្យក្រូម៉ាទីតបងប្អូនទាំង 2 ផ្តាច់ចេញពីគ្នា បង្កើតជា n ក្រូម៉ូសូមកូន ២ ក្រុមរត់ឡើងប៉ូលផ្ទុយគ្នា ។

- រក្សាក្រូម៉ូសូម ឱ្យនៅ n ដដែល ។

៥៥ តើហេតុការណ៍ដែលកើតឡើងរវាងអាណាសផាស I នៃមេយ៉ូស និងអាណាផាសមីតូស ខុសគ្នាដូចម្តេច?

www.facebook.com/7khmer
Fb page : Entertainment And Knowledge

អាណាផាស I

-មានការផ្តាច់ចេញពីគ្នានៃ គូក្រូម៉ូសូម អូម៉ូឡូក ទៅកាន់ប៉ូលផ្ទុយគ្នា គឺជា n ក្រូម៉ូសូម ដែលប្រេះបណ្តោយដោយគ្មាន ធ្វើចំណែកសង់ត្រូមែរទេ។

- បន្ថយក្រូម៉ូសូមពី $2n \rightarrow n$

អាណាផាស

- គ្មានការផ្តាច់ចេញពីគ្នា នៃគូក្រូម៉ូសូម អូម៉ូឡូកទេ ប៉ុន្តែក្រូម៉ូសូម នីមួយៗធ្វើ ចំណែក សង់ត្រូមែរ នាំឱ្យ ក្រូម៉ាទីត បងប្អូន ផ្តាច់ចេញពីគ្នា បង្កើតជាក្រូម៉ូសូម 2ក្រុម ដូចគ្នា រត់ទៅប៉ូលផ្ទុយគ្នា
- រក្សាក្រូម៉ូសូម 2n ឱ្យនៅដដែល។

56 តើហេតុការណ៍ដែលកើតឡើង រវាងមេតាផាស I និង មេតា ផាសមីតូសខុសគ្នាដូចម្តេចខ្លះ?

មេតាផាស I

- គូក្រូម៉ូសូម អូម៉ូឡូក ដែលប្រេះបណ្តោយ (តេត្រាត) ផ្តុំត្រង់ប្លង់ អេក្វាទ័រ។ សង់ត្រូមែរនីមួយៗ ស្ថិត នៅសងខាងប្លង់ អេក្វាទ័រ (គឺក្រូម៉ូសូម I តូតោងលើ សរសៃក្រូម៉ូសូមតែ1)

មេតាផាស

- គូក្រូម៉ូសូម អូម៉ូឡូក ដែលប្រេះ បណ្តោយ មិនផ្តុំជា តេត្រាតទេ គឺសង់ ត្រូមែរនៃ ក្រូម៉ូសូម I ភ្ជាប់ នឹងសរសៃ ក្រូម៉ូសូមតែ មួយត្រង់ប្លង់អេក្វាទ័រ។

57 ១. ចូរដាក់ឈ្មោះតាមព្រួញដែលចង្អុល។

២. តើជាមីតូស ឬមេយ៉ូស? ស្ថិតក្នុងវគ្គណា? ចូរបញ្ជាក់អំណះអំណាង។

៣. កំណត់ចំនួនក្រូម៉ូសូម និងក្រូម៉ាទីត នៅប៉ូលនីមួយៗ

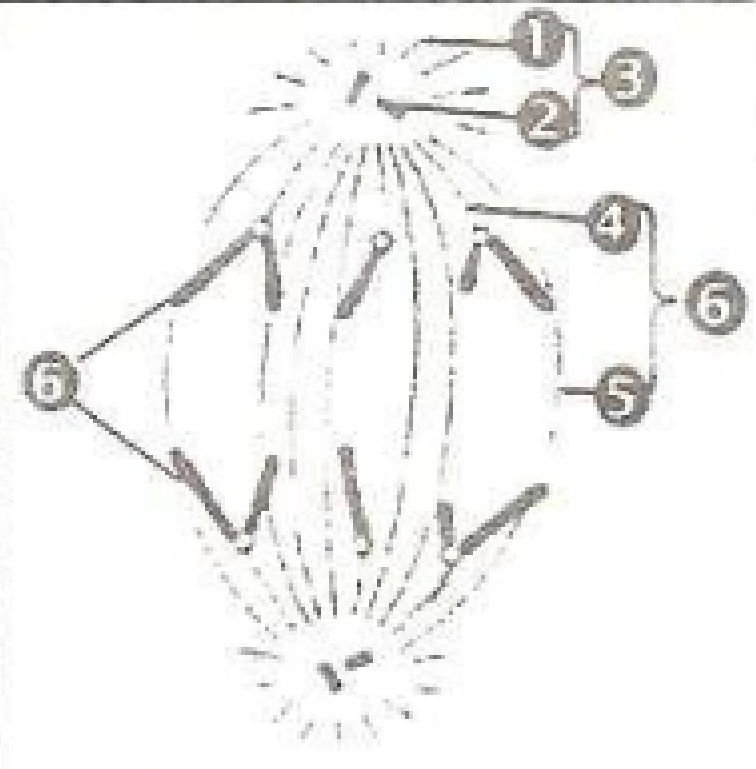

www.facebook.com/7khmer
Fb page : Entertainment And Knowledge

១. ដាក់ឈ្មោះ :

១ : ខ្សែកាំ ២ : សង់ទ្រីយ៉ូល ៣ : អាស្ទែរ ៤ : សរសៃក្រូម៉ូសូម

៥ : សរសៃប៉ូល ៦ : ត្រយ៉ូងអាក្រូម៉ាទិច. ៧. ក្រូម៉ូសូមអាប្លូអ៊ីត២ក្រុម

២.គឺជាមេយ៉ូស ស្ថិតក្នុងអាណាផាសII ពីព្រោះជាវគ្គដែលសង់ត្រូមែរបែកជា2 ធ្វើឱ្យ n ក្រូម៉ូសូម មានក្រូម៉ាទីតតែមួយៗរត់ឡើងប៉ូលរៀងខ្លួន (វត្ត ក្សា n ក្រូម៉ូសូមដដែល) ។

៣. នៅប៉ូលនីមួយៗ មានក្រូម៉ូសូម 3 ដែលមានរូបរាងខុសគ្នាទាំងអស់ ⇒ n = 3 ។

- ដោយក្រូម៉ូសូមមួយ មានក្រូម៉ាទីត 1 នាំអោយចំនួនក្រូម៉ាទីត គឺ ៣ ។

៥ ៨ ១.ចូរដាក់ឈ្មោះតាមព្រួញ ដែលចង្អុល ។

២. តើជាមេយ៉ូស ឬមីតូស? ស្ថិតក្នុងវគ្គណា? ចូរបញ្ជាក់អំណះអំណាង?

៣.ចូរកំណត់ចំនួនក្រូម៉ូសូម និងចំនួនក្រូម៉ាទីត នៅប៉ូលនីមួយៗ ។

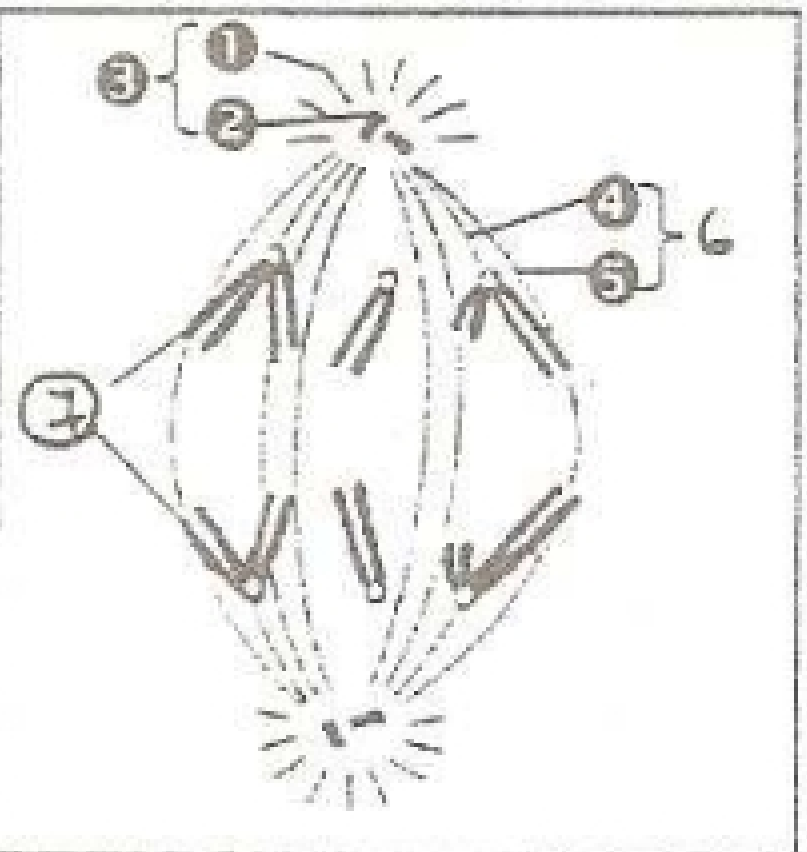

១. ដាក់ឈ្មោះ

2 : សង់ទ្រីយ៉ូល . 1 : ខ្សែកាំ. ៣ : អាស្ទែរ. ៤ : សរសៃក្រូម៉ូសូម.

៥ : សរសៃប៉ូល. ៦: ត្រយ៉ូងអាក្រូម៉ាទិច, ៧: n ក្រូម៉ូសូមប្រេះបណ្ដោយ ២ ក្រុម ។

២. ជាមេយ៉ូស ស្ថិតក្នុងអាណាផាស I ពីព្រោះគូក្រូម៉ូសូម អូម៉ូឡូកផ្ដាច់ចេញពីគ្នាទៅប៉ូលផ្ទុយគ្នា ទាំងប្រេះបណ្ដោយ ដោយគ្មានធ្វើចំណែកសង់ត្រូមែរទេ គឺជាការបន្ថយក្រូម៉ូសូមពី 2n ⇒ n ។

www.facebook.com/7khmer
Fb page : Entertainment And Knowledge

៣. នៅប៉ូលនីមួយៗ មានក្រូម៉ូសូម 3 ដែលមានរូបរាងខុសគ្នាទាំងអស់នាំអោយចំនួនក្រូម៉ូសូម n = 3 ។

- ដោយក្រូម៉ូសូម មួយមានក្រូម៉ាទីត ២នាំអោយចំនួនក្រូម៉ាទីត: 2×3= 6

៥៩ ១. ចូរដាក់ឈ្មោះតាមព្រួញ ដែលចង្អុល ។

២. តើជាមីតូស ឬមេយ៉ូស ស្ថិតក្នុងវគ្គណា? ចូរបញ្ជាក់អំណះអំណាង?

៣. ចូរកំនត់ចំនួនក្រូម៉ូសូម 2n និងកំនត់ចំនួនតេត្រាត ។



១. ដាក់ឈ្មោះ

១ : តេត្រាត. ២ : ខ្សែកាំ. ៣: សង់ទ្រីយ៉ូល . ៤ : អាស្ទែរ. ៥ : ត្រយ៉ូងអាក្រូម៉ាទិច កំពុងកកើត ។

២. វាជាមេយ៉ូស ស្ថិតក្នុងប្រូផាស I ពីព្រោះចាប់ផ្តើមមានកំនអាស្ទែរ និង ត្រយ៉ូងអាក្រូម៉ាទិច ណ្វៃយ៉ូកំពុងរលាយ ជាពិសេសគូ ក្រូម៉ូសូមអូម៉ូឡូកផ្គុំ ជាតេត្រាត ។

៣. ក្រូម៉ូសូមមាន ៣គូអូម៉ូឡូក ដូច្នេះ 2n= 6 ។

- ដោយតេត្រាតមួយ មានក្រូម៉ូសូមអូម៉ូឡូក ១គូ

នាំអោយ ក្រូម៉ូសូមអូម៉ូឡូក ៣ គូមាន ៣ តេត្រាត ។

៦០ ក្នុងមេយ៉ូស តើវគ្គណាដែលមានការបន្ថយក្រូម៉ូសូមពី 2n ទៅ n? ហើយវគ្គណាដែលរ៉ាប់រងនូវចំណែកស្មើគ្នា នៃក្រូម៉ូសូម ក្នុងកោសិកាកូន? ចូរបញ្ជាក់អំណះអំណាងរបស់អ្នក ។

www.facebook.com/7khmer
Fb page : Entertainment And Knowledge

- គឺក្នុងអាណាផាស I ជាវគ្គដែលមានការបន្ថយក្រូម៉ូសូម ពី 2n ទៅn ក្រូម៉ូសូម ពីព្រោះវគ្គនេះ គូក្រូម៉ូសូមអូម៉ូឡូកដែលប្រេះបណ្ដោយ ត្រូវឃ្លាតចេញពីគ្នា ទៅកាន់ប៉ូលរៀងខ្លួន ដោយគ្មានធ្វើចំណែកសង់ត្រូមែរទេ។

- គឺក្នុងអាណាផាស II ជាវគ្គដែលរាប់រងនូវចំណែកស្មើគ្នានៃក្រូម៉ូសូម ក្នុងកោសិកាកូន ពីព្រោះវគ្គនេះ n ក្រូម៉ូសូមដែលប្រេះបណ្ដោយ ធ្វើចំណែកសង់ត្រូមែរ ធ្វើឱ្យក្រូម៉ាទីតបងប្អូន ផ្ដាច់ចេញពីគ្នា បង្កើតជា n ក្រូម៉ូសូម ២ក្រុមដូចគ្នា រត់ឡើងប៉ូលរៀងខ្លួន។

❻❶ ១. ក្នុងមេយ៉ូស តើមានប៉ុន្មានចំណែកកោសិកា?

២. នៅក្នុងកោសិកា A, B.C, តើកោសិកានីមួយៗ មានក្រូម៉ូសូមប៉ុន្មាន?

៣. ចំពោះកោសិកា A, B.C.តើក្រូម៉ូសូមនីមួយៗ មាន ក្រូម៉ាទីតប៉ុន្មាន?

៤. តើអ្នកសំគាល់ឃើញដូចម្ដេច ចំពោះចំនួនក្រូម៉ូសូម របស់កោសិកាដែលកើតក្នុងចំណែកទី1 និងទី2 នៃមេយ៉ូស? (ដោយបញ្ជាក់ប្រាប់ពីបាតុភូតដែលកើតមានចំពោះក្រូម៉ូសូមនៅក្នុងចំណែកនីមួយៗ)។ (ស្រង់ពីឯកសារគរុកោសល្យមូលនិធិ សេរីបារាំង F.F. ៤)

គំនូសបំព្រួញតាងកោសិកា
មួយដែលចែកខ្លួន
នៅពេលមេយ៉ូស

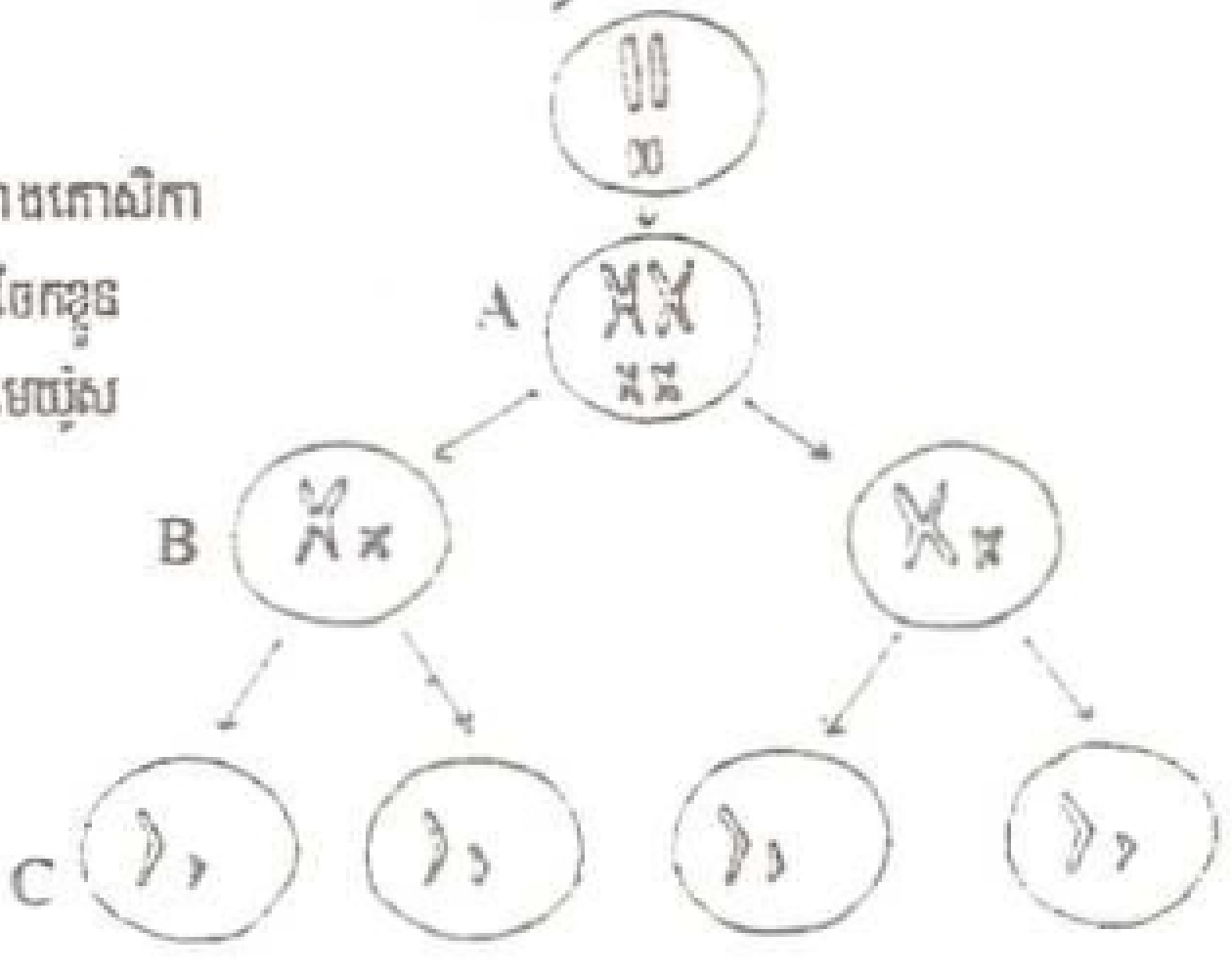

ជា គឹមអៀង

www.facebook.com/7khmer
Fb page : Entertainment And Knowledge

១. ក្នុងមេយ៉ូស មាន២ចំណែកកោសិកា ។

២. កោសិកានីមួយៗ មានក្រូម៉ូសូម

A=4.   B=2.   C=2

៣. ចំនួនក្រូម៉ាទីត នៃក្រូម៉ូសូមនីមួយៗ ក្នុងកោសិកា :

A=2.   B=2 . C= 1

៤. + **ក្នុងចំណែកទី 1** : ចំនួនក្រូម៉ូសូម ត្រូវបន្ថយពី 2n ទៅn នេះបណ្តាលមកពី មានការផ្តាច់ចេញពីគ្នានៃគូក្រូម៉ូសូម អូម៉ូឡូក ដោយគ្មានធ្វើចំណែកសង់ត្រូមែរ ។

+ **ក្នុងចំណែកទី ២** : ចំនួន n ក្រូម៉ូសូមរក្សានៅដដែលនេះបណ្តាលមកពី មានការផ្តាច់ចេញនៃក្រូម៉ាទីត ដោយមានចំណែកសង់ត្រូមែរ ។

❻❷ ១. ចូរដាក់ឈ្មោះនៃគំនូសបំព្រួញខាងស្តាំ នេះដែលត្រូវគ្នាទៅ នឹងលេខ1 . 2. 2'. 3 . 4 (ឯកសារគរុកោសល្យមូលនិធិស្វីប៊ាវ៉ាំង) ២.តើទំរង់នេះ កើតមានឡើងនៅក្នុងវគ្គ និងចំណែកអ្វីនៃមេយ៉ូស? តើទំរង់នេះ អាចនាំឱ្យមានបាតុភូតអ្វី?	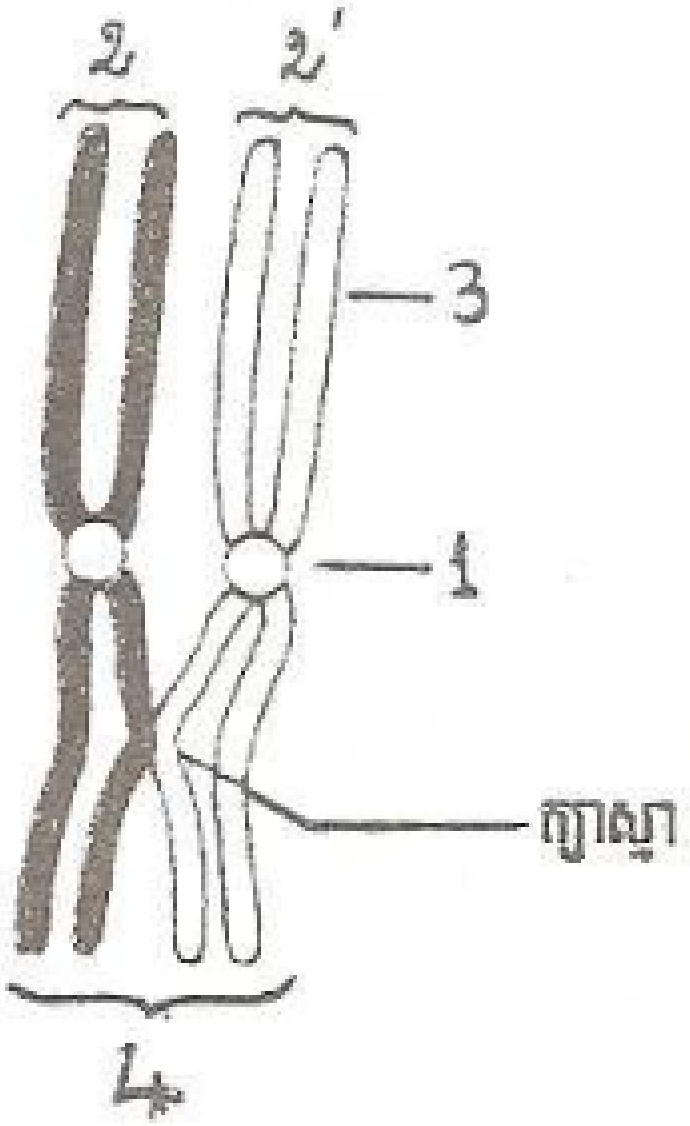

១. **ដាក់ឈ្មោះ** : ១ : សង់ត្រូមែរ.២.២'. : ក្រូម៉ូសូមដែលមានក្រូម៉ាទីត២. ៣ : ក្រូម៉ាទីត. ៤ : ក្រូម៉ូសូមអូម៉ូឡូក ១គូ ឬ តេត្រាត ។

៩ា គឹមអៀង
www.facebook.com/7khmer
Fb page : Entertainment And Knowledge

២. ទំរង់នេះ កើតមានឡើងក្នុងប្រូផាស នៃចំណែកទី១ មេយ៉ូស ។ ទំរង់នេះ អាចនាំឱ្យកើតមានបាតុភូត ក្រូស៊ីញអូវើ ។

> ❻ ❸ កោសិកាមួយ មានក្រូម៉ូសូម 2n=4 ។ ក្រូម៉ូសូមនីមួយៗនៃគូក្រូម៉ូសូមអូម៉ូឡូកនេះ ផ្ទុកពតិមានសេនេទិចខុសគ្នា ។
>
> ១.តើកោសិកានេះ អាចផ្តល់កាម៉ែតបាន ប៉ុន្មានប្រភេទ ក្រោយពេលមេយ៉ូស?
>
> ២. ចូរអ្នកគូស ចំណែកទាំង២ នៃមេយ៉ូស និងប្រភេទកាសិកាដែលទទួលបាន ។

១. កោសិកា $2n=4$ នាំអោយ $n=2$ ។ ក្រោយពេលមេយ៉ូស វាអាចផ្តល់ កាម៉ែត $2^n = 2^2 = 4$ ប្រភេទ ។

២. តារាងគំនូសបំព្រួញនៃមេយ៉ូស

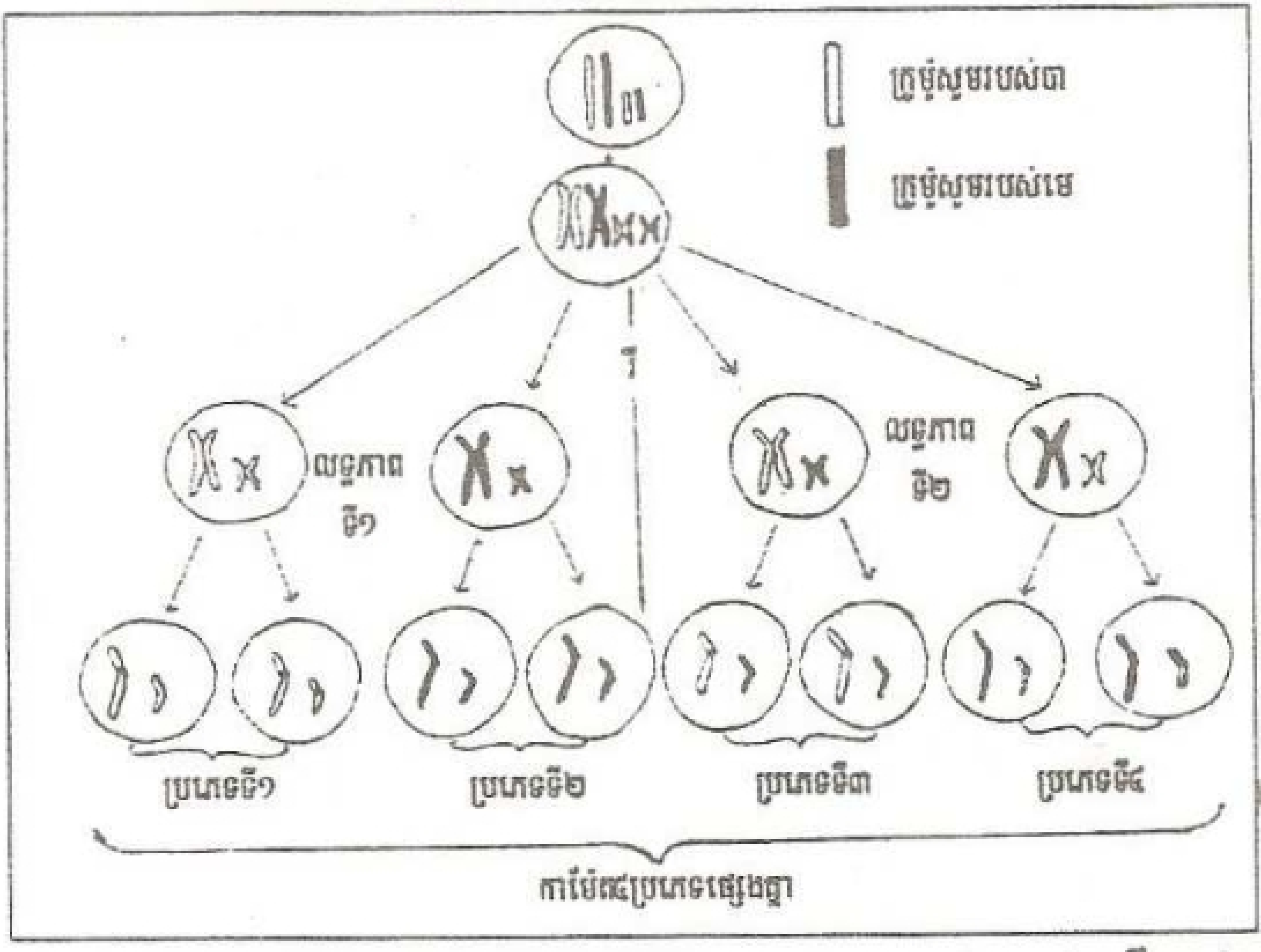

www.facebook.com/7khmer
Fb page : Entertainment And Knowledge

៦៤ កោសិកា បូអ៊ិតមាន 2n=6 ។ បើវាធ្វើមេយ៉ូស តើវាអាច បង្កើតកាម៉ែតបាន ប៉ុន្មានប្រភេទ? ចូរគូសគំនូសបំប្រួញពីលទ្ធភាព ដែលបង្កើតប្រភេទកាម៉ែត ។ ក្រូម៉ូសូម នីមួយៗ នៃគូអូម៉ូឡូកផ្ទុក ពតិមានសេនេទិចមិនដូចគ្នាទេ ។

\+ កោសិកា 2n = 6 នាំអោយ n = 3 ក្រោយមេយ៉ូស វាអាចបង្កើតកាម៉ែត $2^n = 2^3 = 8$ ប្រភេទ ។

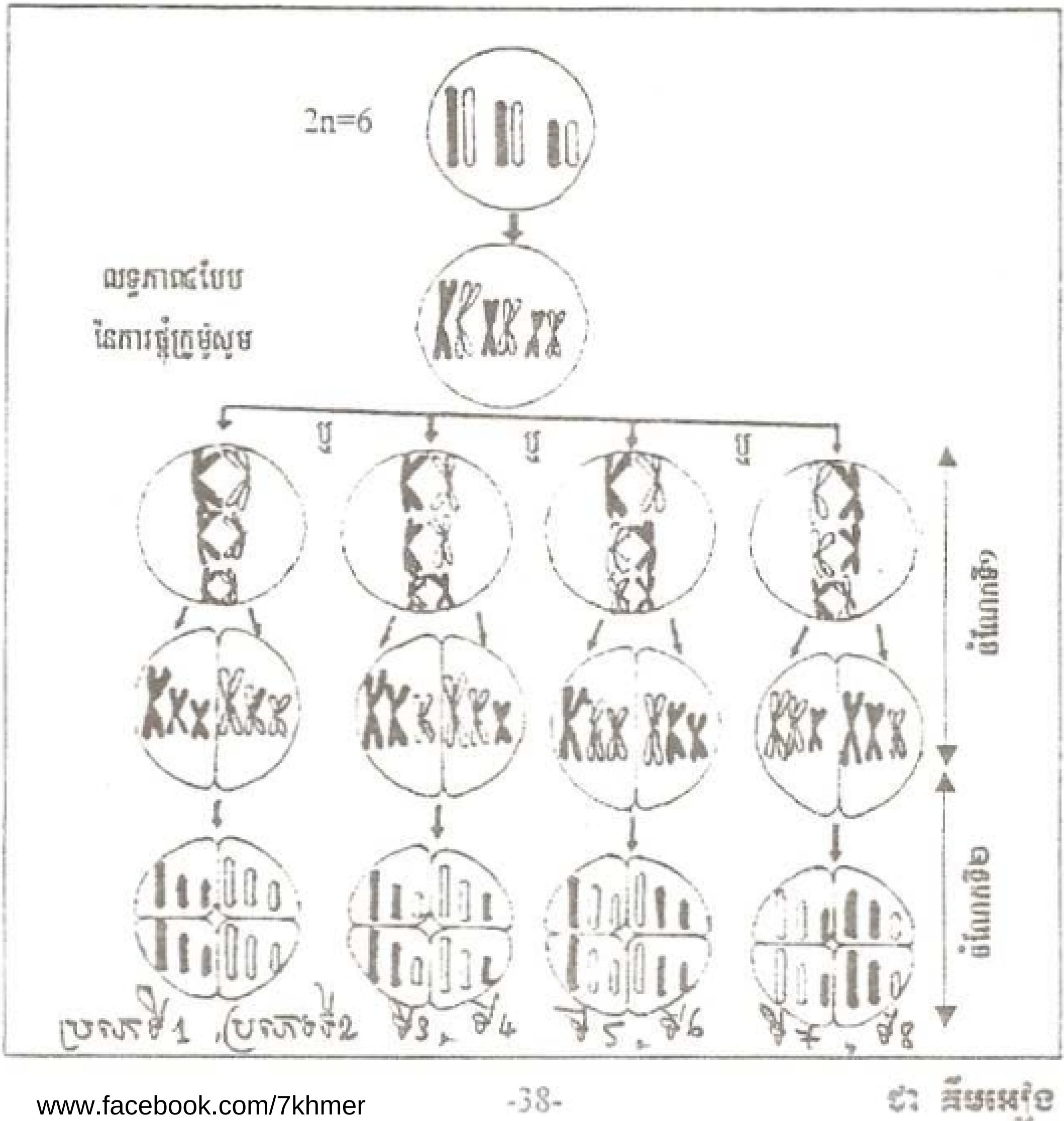

www.facebook.com/7khmer
Fb page : Entertainment And Knowledge

៦៥

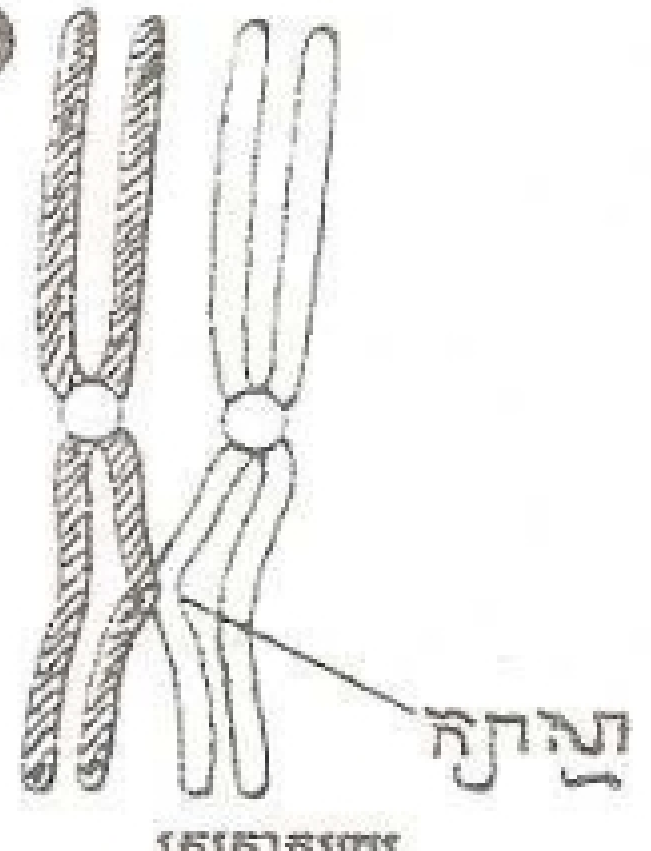

១. ឧបមាថា តេត្រាតមួយនេះ រងបាតុភូតក្រូស៊ីញអូវើ ចូរអ្នកគូសបង្ហាញ អំពី ក្រូម៉ូសូមនៃកាម៉ែតក្រោយពីមេយ៉ូស ។

២. បើសិនជាតេត្រាតនេះ មិនរងនូវបាតុភូតក្រូស៊ីញអូវើទេ ចូរគាងក្រូម៉ូសូមនៃកាម៉ែតដែលកើតឡើង ។

+ <u>**គំនូសបំរួញ**</u> :

១. ក្រោយក្រូស៊ីញ អូវើ មានកាម៉ែត 4 ប្រភេទ :

២. គ្មានក្រូស៊ីញអូវើ មានកាម៉ែត 2 ប្រភេទ :



៦៦

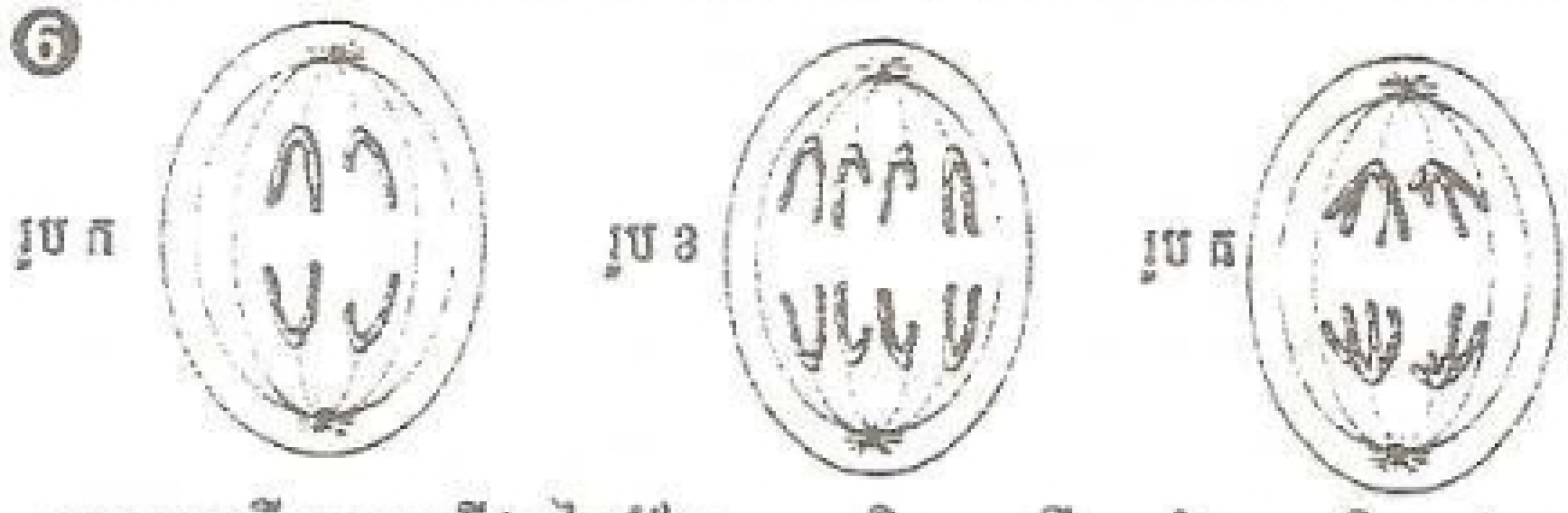

រូបខាងលើបង្ហាញ ពីវគ្គនៃចំណែកកោសិកា ។ តើរូបទាំងនេះ ស្ថិតនៅក្នុងវគ្គណានៃចំណែកកោសិកាអ្វី? (បញ្ជាក់ចំលើយរបស់អ្នក) ? [EXOST S (HATER)]

www.facebook.com/7khmer
Fb page : Entertainment And Knowledge

+ រូប (ក) ស្ថិតក្នុង អាណាផាស១ នៃមេយ៉ូស ពីព្រោះក្រូម៉ាទីតបងប្អូនផ្តាច់ចេញពីគ្នា ទៅកាន់ប៉ូលរៀងខ្លួន (ដោយសារមានចំណែកសង់ត្រូមែរ) ។

+ រូប (ខ) ស្ថិតនៅក្នុង អាណាផាសនៃមីតូសពីព្រោះ ក្រូម៉ាទីតបងប្អូននៃគូក្រូម៉ូសូមអូម៉ូឡូក ផ្តាច់ចេញពីគ្នា បង្កើតជា 2n ក្រូម៉ូសូមកូនដូចគ្នា រត់ឡើងប៉ូល ។

+ រូប (ត) ស្ថិតក្នុងអាណាផាសIIពីព្រោះគូក្រូម៉ូសូមអូម៉ូឡូក ផ្តាច់ចេញពីគ្នាទៅកាន់ប៉ូលផ្ទុយគ្នា ដោយគ្មានធ្វើចំណែកសង់ត្រូមែរទេ ។

៦៧

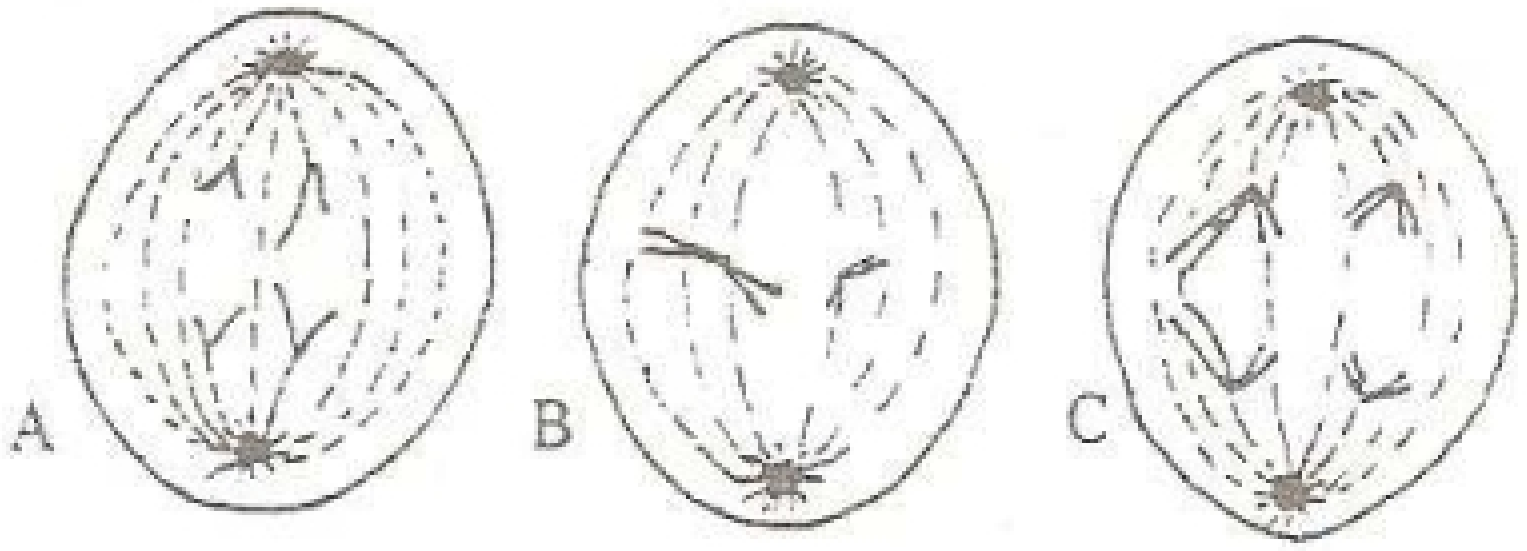

ចូរប្រាប់ឈ្មោះវគ្គទាំង ៣នេះ ដោយបញ្ជាក់ចំលើយរបស់អ្នក ។

(ឯកសារគរុកោសល្យ នៃមូល   និធិសេរីបារាំង) ៩. ៩. ៤.

A : មើលសំនួរ ទី ៦៦ រូប (ក)

B : មេតាផាស២ នៃមេយ៉ូស ពីព្រោះសង់ត្រូមែរ នៃ n ក្រូម៉ូសូមស្ថិតនៅលើប្លង់អេក្វាទ័រ នៃត្រយ៉ូងអាក្រូម៉ាទិច ។

C : មើលសំនួរ ទី ៦៦ រូប (ត)

៦៨ ក. ចូរបង្ហាញភាពខុសគ្នា នៃចំនួនក្រូម៉ូ ឌីប្លូអ៊ីត និងអាប្លូអ៊ីត?

ខ. តើក្រូម៉ូសូម   ឌីប្លូអ៊ីត និងអាប្លូអ៊ីតមានទំនាក់ទំនង នឹងគ្នាដូចម្តេច?

www.facebook.com/7khmer
Fb page : Entertainment And Knowledge

គ. ភាពខុសគ្នា រវាង :

ក្រូម៉ូសូមឌីប្លូអ៊ីត	ក្រូម៉ូសូមអាប្លូអ៊ីត
- ជាក្រូម៉ូសូមស្ថិតនៅជា គូជានិច្ច (2n) ហើយគូនីមួយៗមានរូបរាង និងប្រវែងដូចគ្នា (ក្រូម៉ូសូមអូម៉ូឡូក) គឺមួយជារបស់មេ និងមួយជារបស់បា ។	- ជាក្រូម៉ូសូម ដែលគ្មានគូ (n) គឺ មានតែមួយក្នុងចំណោមអូម៉ូឡូក ១គូ (គឺជារបស់មេ ឬជារបស់បា)
- ជា ក្រូម៉ូសូមដែលស្ថិតនៅក្នុងកោសិកាលូតលាស់ និងកោសិកាភេទ ដែលមិនទាន់ធ្វើមេយ៉ូស ។	- ជា ក្រូម៉ូសូមដែលស្ថិតនៅក្នុងកាម៉ែត និងកោសិកាភេទ ដែលរងមេយ៉ូសហើយ ។

ខ. ទំនាក់ទំនងរវាងគ្នា

- នៅពេលមេយ៉ូស : ចំនួនក្រូម៉ូសូម ឌីប្លូអ៊ីត (2n) ត្រូវបន្ថយជាចំនួនក្រូម៉ូសូម អាប្លូអ៊ីត (n) ក្នុងកាម៉ែត ។

- នៅពេលបង្កកំណើត : ចំនួនអាប្លូអ៊ីត (n) នៃកាម៉ែតញីឈ្មោល បន្សំឡើងវិញ ជាចំនួនឌីប្លូអ៊ីត (2n) ក្នុងស៊ីកូត ។

$$2n \xrightarrow{\text{មេយ៉ូស}} n$$

$$n - n \xrightarrow{\text{បង្កកំណើត}} 2n$$

៦៩ ក្នុងកំណកាម៉ែត តើមេយ៉ូស មាននាទីដូចម្ដេច?

ក្នុងកំនកាម៉ែត មេយ៉ូសមាននាទី :

- បន្ថយចំនួនក្រូម៉ូសូមឌីប្លូអ៊ីត ទៅជាក្រូម៉ូសូមអាប្លូអ៊ីត (2n ⇒ n)
- បំបែកគូក្រូម៉ូសូមភេទ ជាហេតុនាំឱ្យកាម៉ែតនីមួយៗ ផ្ទុកក្រូម៉ូសូមភេទតែ ១ គត់ក្នុងចំនោមក្រូម៉ូសូមភេទ ១គូ ។

៧០ ហេតុដូចម្តេចបានជាមេយ៉ូសអាចបន្ថយក្រូម៉ូសូម ឌីប្លូអ៊ីតទៅជាអាប្លូអ៊ីតបាន?

ពីព្រោះ មេយ៉ូស ជាចំណែក២ដង បន្តបន្ទាប់ដោយ :

- នៅចំណែកទី1 : នៅអាណាផាស I គូក្រូម៉ូសូម អូម៉ូឡូកផ្តាច់ចេញពីគ្នា ដោយគ្មានធ្វើចំណែកសង់ត្រូមែរទេ គឺជាការបន្ថយក្រូម៉ូសូមពី 2n ⇒ n ក្រូម៉ូសូមប្រេះបណ្តោយ
- នៅចំណែកទី២ : នៅអាណាផាស II សង់ត្រូមែរនៃ n ក្រូម៉ូសូមចែកជា ២ នាំឱ្យក្រូម៉ាទីតផ្តាច់ចេញពីគ្នាដោយរាប់រងក្រូម៉ូសូមឱ្យ n ដដែល ។

៧១ តើកណ្តុរញី និងឈ្មោលមាន ក្រូម៉ូសូមភេទដូចម្តេចខ្លះ? ក្រោយពេលមេយ៉ូស តើកណ្តុរញីបង្កើតកាម៉ែតប៉ុន្មានយ៉ាង? ឈ្មោលបានប៉ុន្មានយ៉ាង? តើស្តែម៉ាតូសូអ៊ីត ឬ អូវុល ជាអ្នកកំណត់ភេទ?

+ កណ្តុរញី មានក្រូម៉ូសូមភេទ XX

កណ្តុរឈ្មោលមានក្រូម៉ូសូមភេទ XY

+ ក្រោយមេយ៉ូស កណ្តុរញីមានអូវុល ១យ៉ាង គឺ X ឯកណ្តុរឈ្មោលមាន ស្តែម៉ាតូសូអ៊ីត ២យ៉ាងគឺ X និង Y ។

www.facebook.com/7khmer
Fb page : Entertainment And Knowledge

• គីស្ពែ ម៉ាតូស្វូអ៊ីត ជាអ្នកកំនត់ភេទ។

72 តើការបន្តពូជដោយភេទ របស់ផ្សិត សរដារីយ៉ា ប្រព្រឹត្តទៅដោយស៊ីកូតរបស់វា ឆ្លងកាត់ចលនការអ្វីខ្លះ?

ការបន្តពូជរបស់ផ្សិត សរដារីយ៉ា ប្រព្រឹត្តទៅ ដោយស៊ីកូតឆ្លងកាត់ចលនការមេយ៉ូស ដើម្បីបន្ថយក្រូម៉ូសូមពី 2n ទៅ n។ បន្ទាប់មកកោសិកា (nក្រូម៉ូសូម)នីមួយៗឆ្លងកាត់មីតូស ១ដងបន្ថែមទៀត ធ្វើឱ្យស្ប៉ូនីមួយៗ មានក្រូម៉ូសូមជាចំនួន អាប្លូអ៊ីត (n)។

✷**ចំណាំ** :ចំពោះផ្សិតផ្ទូរ សរដារីយ៉ា មេយ៉ូសមិនមែនបង្កើតកាមែតទេ គឺមាននាទីបញ្ជូន ក្រូម៉ូសូមដែលកំណត់លក្ខណៈមេបានៅសន្តានក្រោយ (ទៅឱ្យស្ប៉ូ) ដោយចូលរួមពីមីតូស បន្ថែម១ដងទៀត។

73 តើការបង្កកំនើតមាននាទីដូចម្តេច ?

ការបង្កកំនើតមាននាទីផ្គុំឡើងវិញនូវក្រូម៉ូសូមអាប្លូអ៊ីត (n) របស់បា និងក្រុមក្រូម៉ូសូមអាប្លូអ៊ីត (n)របស់មេដើម្បីបង្កើតឱ្យបានជាក្រូម៉ូសូមឌីប្លូអ៊ីតនៃស៊ីកូតមួយ។

74 ការបញ្ជូនក្រូម៉ូសូមពីជំនាន់មួយទៅជំនាន់មួយ ត្រូវធ្វើឡើងដោយមានអន្តរាគមន៍ ពីបាតុភូតជីវសាស្ត្របំពេញគ្នាគឺអ្វីខ្លះ? ចូរបញ្ជាក់អំណះអំណាង?

ការបញ្ជូនក្រូម៉ូសូម ពីជំនាន់មួយទៅជំនាន់មួយ ត្រូវធ្វើឡើងដោយមានអន្តរាគមន៍ពីបាតុភូតបំពេញគ្នា ២គឺ : **មេយ៉ូស និង ការបង្កកំនើត**។

www.facebook.com/7khmer
Fb page : Entertainment And Knowledge

ពិពណ៌នា :

- ពេលមេយ៉ូស មានការផ្តាច់ចេញពីគ្នានៃគូក្រូម៉ូសូមអូម៉ូឡូក ដែលនាំឱ្យកាមេតនីមួយៗមានក្រូម៉ូសូមជាចំនួនអាប្លូអ៊ីត (n) ។

- ពេលបង្កកំនើត មានការផ្តុំឡើងវិញនៃក្រូម៉ូសូមអាប្លូអ៊ីតរបស់កាមេតពីរ ឈ្មោល ដោយផ្តល់ជាស៊ីកូត មាន 2n ក្រូម៉ូសូមវិញ ។

ដូច្នេះមេយ៉ូស និងការបង្កកំនើតជាបាតុភូតបំពេញគ្នា ដែលធានាលំនឹងនៃក្រូម៉ូសូមរបស់ប្រភេទផ្លូងកាត់ពីជំនាន់មួយទៅជំនាន់មួយ ។

សំគាល់: ចំពោះផ្សិត សរដារីយ៉ា ក៏បញ្ជូនក្រូម៉ូសូមទៅសន្តានក្រោយតាមបាតុភូតបំពេញគ្នាទាំង ២នេះដែរ ។

> **7 5** ក្នុងសត្វមួយប្រភេទចំនួនឌីប្លូអ៊ីតនៃក្រូម៉ូសូម គឺ 2n=4 ។ តើមានចំនួនក្រូម៉ាទីតសរុបប៉ុន្មាននៅក្នុងស្វែយ៉ូនៃកោសិកានីមួយៗ :
> - ដែលចេញពីចំណែកទី 1 នៃមេយ៉ូស
> - ដែលចេញពីចំណែកទី 2 នៃមេយ៉ូស [ពីAnnabac (HATIER) បានដាក់ប្រលងប្រជែងចូលមហាវិទ្យាល័យវេជ្ជសាស្ត្រ និងកសិកម្ម (១៩៩៧)]

ចំនួនក្រូម៉ាទីត សរុបក្នុងកោសិកានីមួយៗ :

+ ចេញពីចំណែកទី1 នៃមេយ៉ូស: ក្រូម៉ូសូមត្រូវបន្ថយពី 2n ⇒ n ហើយក្រូម៉ូសូមនីមួយៗ មានក្រូម៉ាទីត 2 នាំអោយ <u>ចំនួនក្រូម៉ាទីត = 4</u> ។

+ចេញពីចំណែកទី 2 នៃមេយ៉ូស: ក្រូម៉ូសូមនៅតែ n ដដែល ហើយក្រូម៉ូសូមនីមួយៗមានក្រូម៉ាទីតតែ១ នាំអោយ <u>ចំនួនក្រូម៉ាទីត = 2</u> ។

www.facebook.com/7khmer
Fb page : Entertainment And Knowledge

៧៦ ចូរបង្ហាញហេតុការណ៍សំខាន់ជាងគេក្នុងចលនការមីតូស មេយ៉ូស ការបង្កកំណើត?

ហេតុការណ៍សំខាន់ជាងគេ :

+ ក្នុងមីតូសៈគឺការតំឡើងទ្វេនៃក្រូម៉ូសូមនៅវគ្គS នៃចន្លោះវគ្គ និងការចែកស្មើគ្នានៃក្រូម៉ូសូម នៅអាណាផាសដើម្បីរាប់រងនូវក្រូម៉ូសូម 2n ដដែល។

+ ក្នុងមេយ៉ូសៈ ការផ្ដាច់ចេញពីគ្នានៃគូក្រូម៉ូសូម អូម៉ូឡូក ដើម្បីបន្ថយក្រូម៉ូសូមពី 2n ⇨ n ។

+ ក្នុងការបង្កកំណើតៈ ការផ្គុំឡើងវិញនៃក្រូម៉ូសូមអាប្លូអ៊ីតរបស់កាម៉េតមេ និងកាម៉េត បាដើម្បីឱ្យទៅជា 2n ក្រូម៉ូសូមក្នុងស៊ីកូត ។

៧៧ ហេតុដូចម្ដេច បានជាកាម៉េតត្រូវតែមានចំនួន ក្រូម៉ូសូមជាចំនួនអាប្លូអ៊ីត?

+ កាម៉េតត្រូវតែមានចំនួនក្រូម៉ូសូមជាចំនួនអាប្លូអ៊ីត ព្រោះដើម្បីធានាឱ្យបានក្រូម៉ូសូម ឌីប្លូអ៊ីតវិញ ក្នុងពេលបង្កកំណើត គឺការីយ៉ូទីបនៃប្រភេទរក្សាដដែលពេលដែលចំនួនក្រូម៉ូសូមអាប្លូអ៊ីតនៃកាម៉េតមេបាបន្សំឡើងវិញ ។

បើសិនជាកាម៉េតមាន 2n ក្រូម៉ូសូម នោះនៅពេលបង្កកំណើត ស៊ីកូត នឹងមានក្រូម៉ូសូម ដល់ទៅ 4n ខុសពីមេបា ហើយខុសពីធម្មតា ។

៧៨ ហេតុដូចម្ដេច បានជាកំនកាម៉េត ត្រូវកើតមានឡើង តាមលំនាំមេយ៉ូស?

កំនកាម៉េត ត្រូវកើតមានឡើង តាមលំនាំមេយ៉ូសព្រោះវាជាលំនាំពិសេសមួយដែលបន្ថយ ក្រូម៉ូសូមពី 2n ទៅ n នៅក្នុងកាម៉េត ។ បើកំនកាម៉េត មិនឆ្លងកាត់មេយ៉ូសទេ

www.facebook.com/7khmer
Fb page : Entertainment And Knowledge

នោះកាម៉េតនីមួយៗ និងមាន 2n ក្រូម៉ូសូមដែលនៅពេលបង្កក់នើតនឹងផ្តល់ជាស៊ីកូត ដែលមានក្រូម៉ូសូមដល់ទៅ 4n ខុសពីធម្មតា។

79 តើសំភារៈតំនពូជ ដែលត្រូវបញ្ជូនពីជំនាន់មួយទៅជំនាន់មួយ គឺជាអ្វី? រាល់រូបរាង បន្តពូជ តើវាត្រូវបញ្ជូនតាមរយៈអ្វី ហើយឆ្លង កាត់ ចលនការអ្វីខ្លះ?
[ច្នៃជាសំនួរដោយស្រង់ចេញពី annabac HATIER 97 ហើយដាក់ចេញប្រលងប្រជែងចូលមហាវិទ្យាល័យវេជ្ជសាស្ត្រ (១៩៩៧)] ។

+ សំភារៈតំនពូជជាក្រូម៉ូសូម (ឬ ADN ឬ សេណូម) ។

+ ក្នុងការបន្តពូជដោយភេទ : សំភារៈតំនពូជ :

- បញ្ជូនតាមរយៈកាម៉េត

- ឆ្លងកាត់ចលនការ មេយ៉ូស (ដែលបន្ថយក្រូម៉ូសូមពី 2n ⇨ n) និង ឆ្លងកាត់ចលនការបង្កក់នើត (ដែលបន្សំឡើងវិញ នូវគូក្រូម៉ូសូមអូម៉ូឡូក) ។

+ ក្នុងការបន្តពូជដោយឥតភេទ : សំភារៈតំនពូជ :

- បញ្ជូនតាមរយៈ កោសិកា 1 (ស្ប៉) កោសិកា ‿ លូតលាស់ 1 ក្រុម (ដំណាលិកាដើម មើម ឬស ស្លឹក...)

- ឆ្លងកាត់ចលនការមីតូស ។

80 + ធាតុភូតសំខាន់គួរឱ្យកត់សំគាល់ក្នុងចំណែកទី ១នៃមេយ៉ូសគឺអ្វី?
+ធាតុភូតសំខាន់គួរឱ្យកត់សំគាល់ក្នុងចំណែកទី២ នៃមេយ៉ូសគឺអ្វី?

+ គឺការផ្តាច់ចេញពីគ្នានៃគូក្រូម៉ូសូម អូម៉ូឡូកនីមួយៗ ដែលបណ្តាលឱ្យបន្ថយចំនួនក្រូម៉ូសូមពាក់កណ្តាល (ពី 2n ⇨ n) ។

+ គឺការផ្តាច់ចេញពីគ្នានៃក្រូម៉ាទីតបងប្អូនរបស់ក្រូម៉ូសូមនីមួយៗដោយសារសង់ត្រូមែរធ្វើចំណែកបណ្តាលឱ្យ ក្រូម៉ូសូមនៅ n ដដែល (ពី n ⇨ n) ។

www.facebook.com/7khmer
Fb page : Entertainment And Knowledge

សំនួរដកស្រង់ពីសៀវភៅគ្រូសម្រាប់ :

១. ដូចម្តេចដែលហៅថាមេយ៉ូស?

២. ចូរពណ៌នាដោយសង្ខេបពីដំណើររបស់មេយ៉ូស ។

៣. ដូចម្តេចដែលហៅថា ក្រូស៊ីញអូវើ? តើវាកើតមាននៅពេលណា?

៤. ហេតុអ្វីបានជាគេថា មេយ៉ូស និងការបង្កកំណើត ជាបាតុភូតពីរបំពេញគ្នា?

៥. ចូររកលក្ខណៈខុសគ្នា រវាងមេយ៉ូស និងមីតូស

៦. ក្នុងរូបខាងក្រោមនេះ តើរូបណាមួយជាចំណែកទី I នៃមេយ៉ូស? ហេតុអ្វីបានជាអ្នកយល់ដូចនេះ? ចូរពន្យល់ ។



១. មេយ៉ូស : មើលសំនួរទី ៥២ ក

២. សង្ខេបដំណើរមេយ៉ូស : ប្រព្រឹត្តទៅនៅក្នុងកោសិកាភេទ នៃក្រពេញភេទ ។ ក្នុងមេយ៉ូស កោសិកាធ្វើចំណែក ២ដងបន្តបន្ទាប់ :

- ចំណែកទី I មេយ៉ូសមានការតំលើងទ្វេក្រូម៉ូសូម នៅចន្លោះវគ្គ ។ ចំណែកនេះរ៉ាប់រងការផ្តាច់ចេញពីគ្នានៃគូក្រូម៉ូសូមអូម៉ូឡូក ។វាបន្ថយចំនួន ក្រូម៉ូសូមពី 2n ទៅn ក្រូម៉ូសូម ។

- ចំណែកទី II នៃមេយ៉ូស : រ៉ាប់រងការផ្តាច់ចេញពីគ្នានៃក្រូម៉ាទីតបងប្អូនរបស់ក្រូម៉ូសូមនីមួយៗ ។ ដូចនេះកាម៉េតនីមួយៗ មានក្រូម៉ូសូមមួយ ក្នុងគូអូម៉ូឡូកនីមួយៗ ។

www.facebook.com/7khmer
Fb page : Entertainment And Knowledge

៣. ក្រូស៊ីញូអូវើ ៖ ជាការប្តូរអង្គត់គ្នាទៅវិញទៅមករវាងក្រូម៉ាទីត ២ ក្នុងចំណោមក្រូម៉ាទីត ៤ នៃតេត្រាត ។ បាតុភូតនេះកើតមាននៅប្រូផាស I ។

៤. មើលសំនួរទី ៧៤ ចាប់ពី ៖ ពីព្រោះ...... ។

៥. មើលសំនួរទី ៥២

៦. រូប (ក) បង្ហាញពីចំណែកទី ១មេយ៉ូស ពីព្រោះតេត្រាត ធំរៀបតាទៅលើប្លង់អេក្វាទ័រ ហើយភ្ជាប់ខ្លួនទៅ នឹងត្រយ៉ូងអាក្រូម៉ាទិច ដោយសង់ត្រូមែរវា ។ វគ្គនេះជាវគ្គមេតាផាស I ។

✵ កំណត់សំគាល់

- បើសំនួរសួរពីនាទីមេយ៉ូសក្នុងកំណកាម៉ែត សិស្សត្រូវឆ្លើយតាមសំនួរទី ៦៩
- បើសំនួរសួរថា ៖ តើមេយ៉ូសមាននាទីដូចម្តេចខ្លះ? សិស្សត្រូវឆ្លើយ ៖

មេយ៉ូសមាននាទី ៖

- បន្ថយក្រូម៉ូសូម ពី 2ក ទៅ ក ដើម្បីជានាកំណកាម៉ែត
- ចូលរួមជាមួយការបង្កកំណើត ដើម្បីបញ្ជូនក្រូម៉ូសូមពីជំនាន់មួយ ទៅជំនាន់មួយ ។

www.facebook.com/7khmer
Fb page : Entertainment And Knowledge

មេរៀនទី ២

ការបន្តពូជដោយភេទរបស់សត្វនិងមនុស្ស

La reproduction sexuée chez l'animal et l'homme

ស ❶ ដូចម្តេចដែលហៅថាការបន្តពូជដោយភេទ ? តើការបន្តពូជដោយភេទមានសារៈសំខាន់យ៉ាងណា ?

+ ការបន្តពូជដោយភេទ : ជាការបង្កើតឯកត្តៈកូន ដោយមានអន្តរាគមន៍ពី មេយ៉ូស (ពីកាម៉េត) និង ការបង្កកំនើត ។

+ សារៈសំខាន់នៃការបន្តពូជដោយភេទ :

- ពេលមេយ៉ូស ឯកត្តៈអេតេរ៉ូស៊ីកូត ចំពោះសែនច្រើន ផ្តល់នូវកាម៉េតច្រើនយ៉ាងណាស់ ។

- ពេលបង្កកំណើត ការជួបគ្នាដោយចៃដន្យនៃប្រភេទកាម៉េតផ្សេងៗបាន ផ្តល់នូវសេណូទីប ខុសប្លែកៗគ្នាយ៉ាងច្រើន ជាហេតុនាំអោយសារពាង្គកាយមាន លក្ខណៈ រូបរាងខុសប្លែកៗគ្នាយ៉ាងច្រើនអនេក មិនងាយដូចគ្នាបេះបិទគ្រប់ចំណុចទេ លើកលែងតែកូនភ្លោះចេញពីស៊ីកូតតែមួយ ។

* ចំណាំ : ចំនុចទី២នៃសំនួរនេះ សិស្សនឹងងាយយល់បានច្បាស់នៅពេលរៀនមេរៀនឌីអ៊ីប្រ៊ីឌីស ។

ស ❷ តើដំណាក់ទី១ និង ដំនាក់ទី២ នៃការបន្តពូជដោយភេទគឺអ្វីខ្លះ ?

- ដំណាក់ទី ១ នៃការបន្តពូជដោយភេទ គឺកំនកាម៉េត ។

- ដំណាក់ទី ២ នៃការបន្តពូជដោយភេទគឺការបង្កកំនើត ។

៨ ③ តើប្រដាប់បន្តពូជមនុស្សប្រុស បង្កឡើងដោយសរីរាង្គអ្វីខ្លះ ?

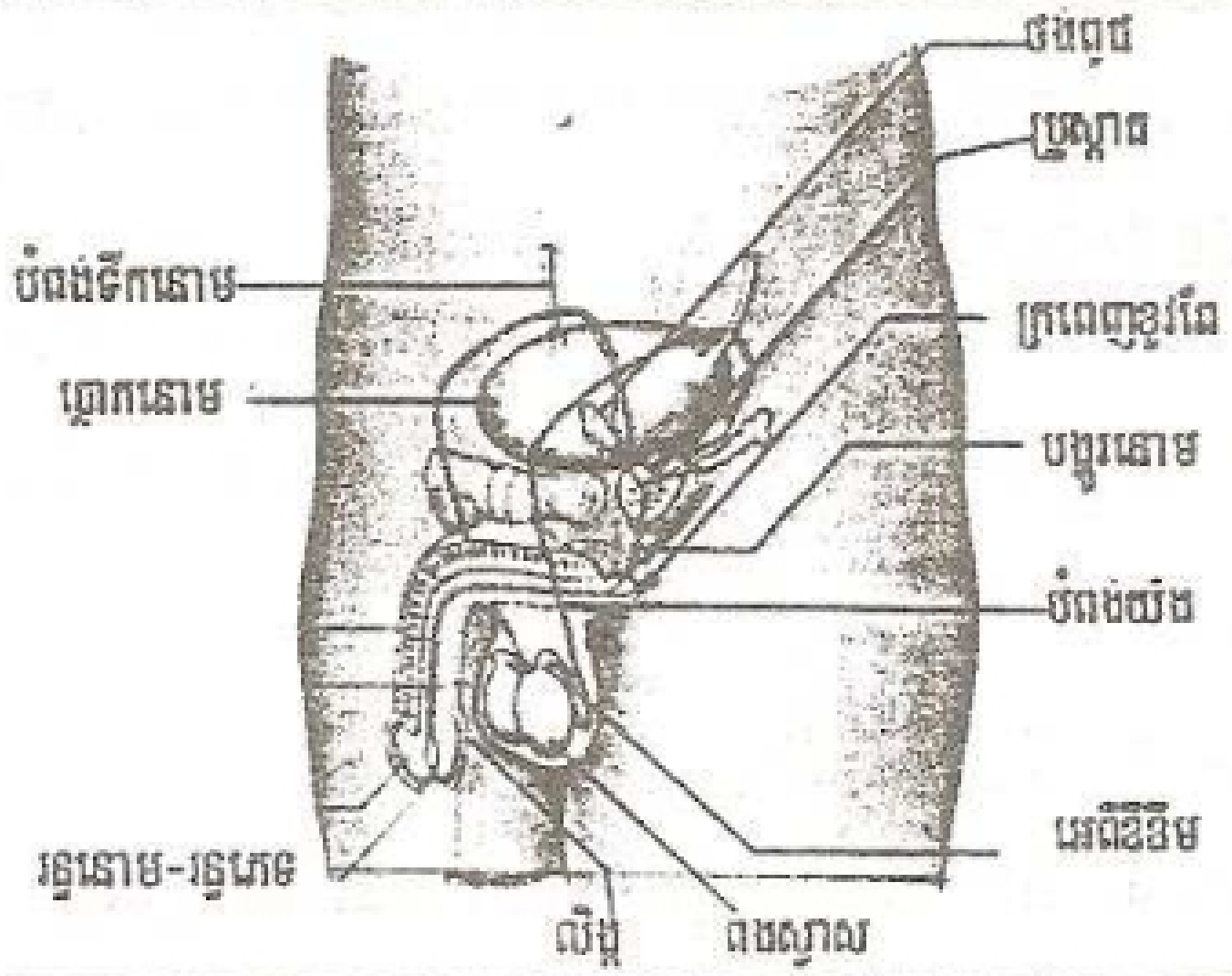

<u>ប្រដាប់បន្តពូជមនុស្សប្រុសបង្កឡើងដោយ</u> :

- លិង្គ : (Pénis = Verge)
- បង្ហូរនោម = បំពង់កាម-នោម (Urètre)
- បំពង់យ៉ាង = បំពង់ទឹកកាម (Canaux défférents)
- ពងស្វាស (testicule)
- ថង់ពងស្វាស (Scrotum = bourse)
- ក្រពេញឧបសម្ព័ន្ធ = ថង់ពូជពីរ (Vésicules séminales) ក្រពេញប្រូស្តាត (Prostaste) ក្រពេញខូវ៉ែពីរ(glande de cooper) ។

៨ ④ តើលិង្គ បង្ហូរនោម បំពង់យ៉ាង ថង់ពងស្វាស មាននាទីដូចម្តេចខ្លះ ?

- លិង្គមាននាទីបញ្ជូនស្ពែម៉ាតូសូអ៊ីតទៅក្នុងសារពាង្គកាយមនុស្សស្រី ។

www.facebook.com/7khmer
Fb page : Entertainment And Knowledge

៥: គឹមអៀង

- បង្ហូរនោម : មាននាទីសំរាប់ដឹកនាំ និង បញ្ចេញទឹកកាមនិងទឹកនោម ។
- បំពង់យ៉ង: មាននាទីដឹកនាំស្ពែម៉ាតូសូអ៊ីតពីបំពង់អេពីឌីឌីមទៅកាន់បង្ហូរនោម ដោយឆ្លងកាត់ថង់ពូជ និង ប្រូស្តាត ។
- ថង់ពងស្វាស : មាននាទីផ្ទុកពងស្វាសនៅក្រៅសារពាង្គកាយ ។

៤៥ តើក្រពេញឧបសម្ព័ន្ធនៃប្រដាប់បន្តពូជរបស់មនុស្សប្រុសមានអ្វីខ្លះ? បញ្ជាក់ទីតាំង និងតួនាទី ។

ក្រពេញឧបសម្ព័ន្ធមានថង់ពូជ ប្រូស្តាត ខូវពែ ។

- <u>ថង់ពូជ</u> : មាន២ នៅសងខាងបំពង់ទឹកនោម ។ វាមាននាទីផលិតទឹកពូជ១ផ្នែកដើម្បី ចូលរួមបង្កើតទឹកកាម ព្រមទាំងមាននាទីស្តុកទុកទឹកកាមមុនពេលវាលស់របាញ់ចេញ (éjaculation) ។
- <u>ប្រូស្តាត</u> : ស្ថិតនៅក្រោមប្លោកនោម ព័ទ្ធជុំវិញបង្ហូរនោម ។ វាមាននាទីបញ្ចេញទឹកពូជមួយផ្នែកដើម្បីចូលរួមក្នុងកំនទឹកកាម ។
- <u>ខូវពែរ</u> : ស្ថិតនៅតាមបង្ហូរនោម ក្រោមប្រូស្តាត ។ វាមិនបានចូលរួមក្នុងកំនទឹកកាមទេ ប៉ុន្តែវាបញ្ចេញទឹករំអិល ៣-៤ តំណក់ មុនពេលរបាញ់ចេញនៃទឹកកាម ។

* <u>ត្រូវដឹង</u> : ទឹកពូជរាំងការចិញ្ចឹមនិងដឹកនាំស្ពែម៉ាតូសូអ៊ីត ។

៤៦ ចូរនិយាយពីទំរង់ពងស្វាស

ពងស្វាសមានរាងដូចស៊ុតទំងន់ជាមធ្យម១៥ ។

ពងស្វាសនីមួយៗ មានផ្ទុកបំពង់ សេមីនីភែរ (Séminifères) រមូលតងលើគ្នា ហើយបន្តទៅក្នុងបំពង់អេពីឌីឌីម ។ បំពង់នេះមានតែមួយគត់ (៦-៧ម៉ែត) ប៉ុន្តែបត់បែន បង្រួមត្រឹម ៥ស.ម ។ បំពង់អេពីឌីឌីមបន្ត ដោយបំពង់យ៉ីង ។

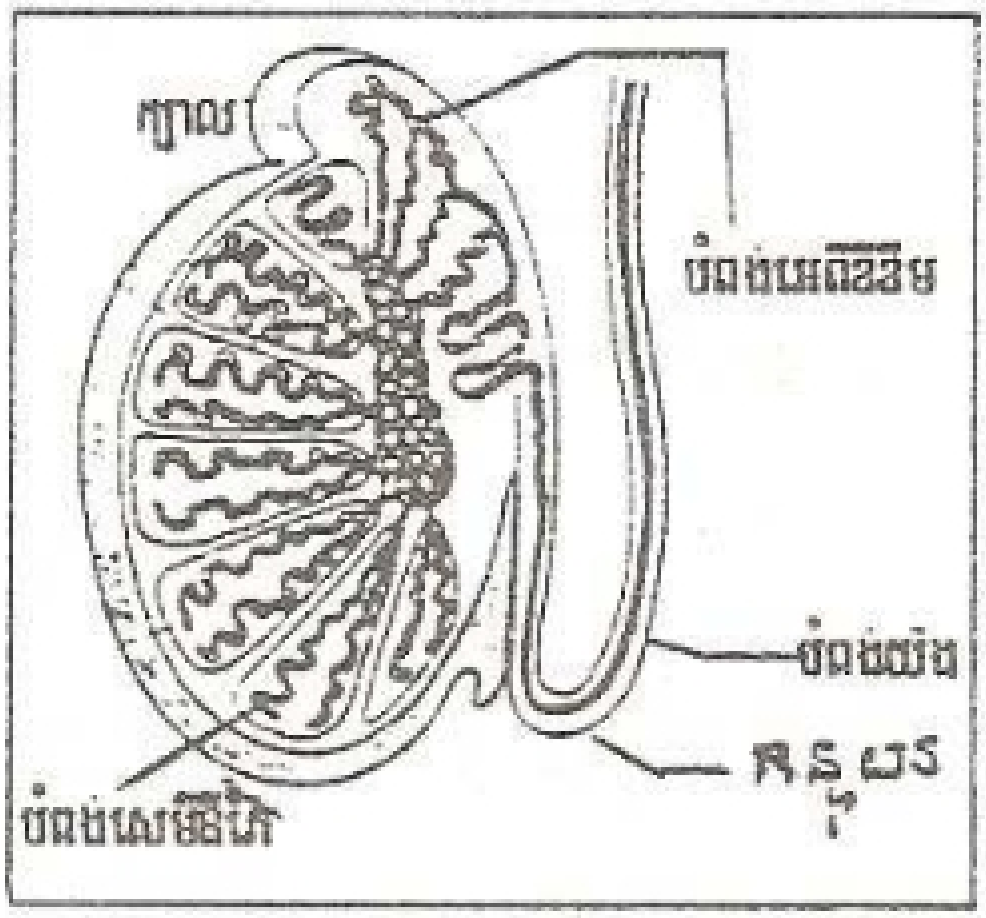

⑧⑦ តើពំនុះពងស្វាស ពង្រីកនឹងមីក្រូទស្សន៍បង្ហាញនូវមុខកាត់នៃបំពង់សេមីនីភែ យ៉ាងដូចម្ដេចខ្លះ ?

- ពំនុះពងស្វាសពង្រីកនឹងមីក្រូទស្សន៍ បង្ហាញមុខកាត់នៃបំពង់សេមីនីភែ មាន២ផ្នែក : ផៃនៃបំពង់ (ផ្នែកសំបក) និងផ្នែកប្រហោងកណ្ដាល ។ ផ្នែកសំបកមានកោសិកា២បែប : កោសិកាសែតូលី ជាកោសិកាចិញ្ចឹម និងកោសិកាពូជបង្កើត ស្ពែម៉ាតូសូអ៊ីត ។ នៅចន្លោះបំពង់ទាំងនេះ តេឃើញសរសៃឈាមសរសៃប្រសាទ និង ជាពិសេសកោសិកាអាំងទែទីស្យែល ដែលផលិតអរម៉ូនភេទឈ្មោល ។ផ្នែកប្រហោង មានស្ពែម៉ាតូសូអ៊ីត ។

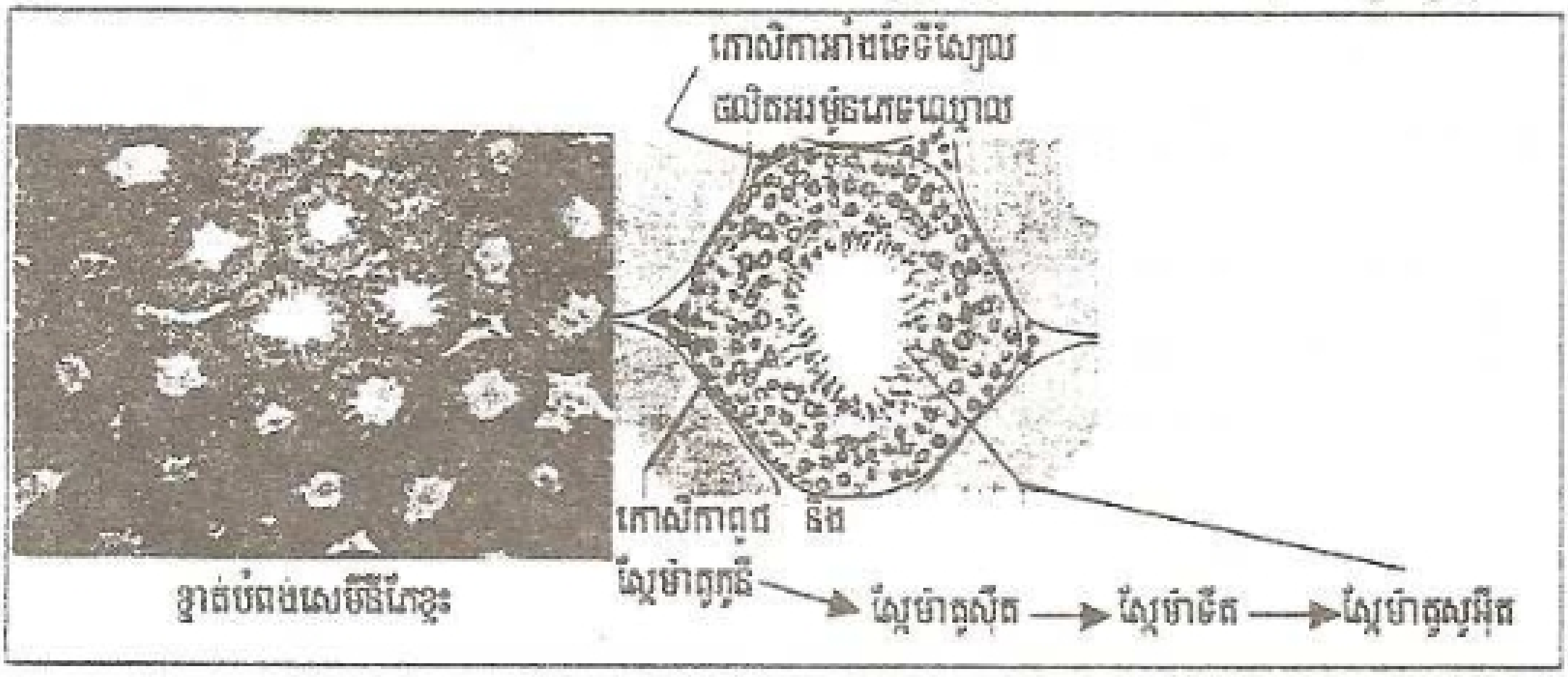

ខ្ទាត់បំពង់សេមីនីហ្វែខ្លះ

www.facebook.com/7khmer
Fb page : Entertainment And Knowledge

៤៨ ខ្នាត់បំពង់សេមីនីភែ បង្ហាញនូវផ្នែកអ្វីខ្លះ? តើផ្នែកមួយណាមានកំណស្ពែ-
-ម៉ាតូសូអ៊ីត ហើយផ្នែកមួយណាដែលស្ពែម៉ាតូសូអ៊ីតចាកចេញពីពងស្វាស ?

✈ ខ្នាត់បំពង់សេមីនីភែ បង្ហាញនូវ ២ ផ្នែក :
ផ្នែកសំបកនិងផ្នែកប្រហោង ។

- ផ្នែកសំបក : មានកំណស្ពែម៉ាតូសូអ៊ីត
- ផ្នែកប្រហោង : ស្ពែម៉ាតូសូអ៊ីតចាកចេញពីពងស្វាស

៤៩ ចូរបញ្ជាក់ពីទីតាំងកោសិកាអាំងទែទីស្យែល និង កោសិកាសែតូលីក្នុង ពងស្វាស និង នាទីរបស់កោសិកាប្រភេទនីមួយៗនេះ ។

- កោសិកាអាំងទែទីស្យែល នៅផ្នែកចន្លោះនៃបំពង់សេមីភែទាំងឡាយ ។
- កោសិកាសែតូលី ជាកោសិកានៅក្នុងបំពង់សេមីភែ (មើលរូបសំនួរ ៩៥) ។

• កោសិកាអាំងទែទីស្យែល មាននាទីបង្កើតអរម៉ូនភេទឈ្មោល តេស្តូស្តេរ៉ូន ។
• កោសិកាសែតូលី មាននាទីសំរាប់អោយកោសិកាភេទទាំងអស់ភ្ជាប់ខ្លួន ហើយមាន នាទីចិញ្ចឹមក្នុងកំនស្ពែម៉ាតូសូអ៊ីត ។

៩០ តើតេស្តូស្តេរ៉ូនជាអ្វី? វាផលិតចេញពីកោសិកាអ្វី? ហើយវាមាននាទីយ៉ាងដូច ម្តេចខ្លះ ?

- តេស្តូស្តេរ៉ូន ជាអរម៉ូនភេទឈ្មោល
- វាផលិតចេញពីកោសិកាអាំងទែទីស្យែលនៃក្រពេញពងស្វាស ។

www.facebook.com/7khmer
Fb page : Entertainment And Knowledge

- វាមាននាទី ៖

  - បង្កើនសកម្មភាព ក្នុងកំនស្តែម៉ាតូសូអ៊ីត
  - ធ្វើអោយលូតលាស់សរីរាង្គភេទ
  - ធ្វើអោយលេចឡើងនូវលក្ខណៈភេទបន្ទាប់ (សំឡេង, ឬកពារ, សំបូររោមច្រើន....) ក្នុងពេលពេញវ័យ ហើយទ្រទ្រង់នូវលក្ខណៈនេះរហូត ។

៩១ ក- តើកំណស្តែម៉ាតូសូអ៊ីត ប្រព្រឹត្តទៅនៅឯណា ? វាចាប់ផ្តើមនៅពេលណា? ហើយបញ្ចប់នៅពេលណា ?

ខ- តើកំណស្តែម៉ាតូសូអ៊ីត មានរយៈពេលប៉ុន្មាន ?

ក- កំណស្តែម៉ាតូសូអ៊ីតកើតមានក្នុងពងស្វាស ផ្នែកសំបកនៃបំពង់សេមីនីភែ ។

- វាចាប់ផ្តើមនៅពេលសារពាង្គកាយពេញវ័យ ហើយបញ្ចប់នៅពេលសារ ពាង្គកាយអស់ជីវិត ។

ខ- កំនស្តែម៉ាតូសូអ៊ីត មានរយៈពេល២ខែកន្លះ (៧៤ថ្ងៃ) ។

៩២ ហេតុអ្វីបានជាគេថាកំនស្តែម៉ាតូសូអ៊ីត ប្រព្រឹត្តជានិរន្តន៍ ?

ពីព្រោះចំពោះមនុស្សប្រុស កំនស្តែម៉ាតូសូអ៊ីតចាប់ផ្តើម ចាប់ពីពេលពេញវ័យរហូតដល់អស់ជីវិត គឺប្រព្រឹត្តជានិរន្តន៍ដោយគ្មានការផ្អាកទេ គ្រាន់តែមនុស្សប្រុសអាយុកាន់តែច្រើន សកម្មភាពពងស្វាសត្រូវបន្ថយជាលំដាប់រហូតដល់អស់ជីវិត ។

៩៣ ហេតុអ្វីបានជាពងស្វាសត្រូវរក្សាទុកក្នុងថង់ពងស្វាសដែលស្ថិតនៅក្រៅសារពាង្គកាយ ?

www.facebook.com/7khmer
Fb page : Entertainment And Knowledge

ពីព្រោះ ៖ សីតុណ្ហភាពនៅក្នុងថង់ពងស្វាស ទាបជាងសីតុណ្ហភាពនៅក្នុងសារពាង្គ កាយមួយ រឺ ពីរអង្សា ដែលជាសីតុណ្ហភាពសមស្របបំផុត ក្នុងការផលិតនិងថែរក្សា ស្ពែម៉ាតូសូអ៊ីត ។

១៤ គេថាពងស្វាសមានមុខងារ២យ៉ាង គឺជាក្រពេញអង់ដូគ្រីន និង អិចសូគ្រីន ។ ចូរពន្យល់ ។

ពងស្វាសមានមុខងារ ២ យ៉ាង ៖

- មុខងារក្រពេញអិចសូគ្រីន ពីព្រោះបង្កើតស្ពែម៉ាតូសូអ៊ីតដោយបញ្ចេញមកក្រៅសារពាង្គកាយ ។

- មុខងារជាក្រពេញអង់ដូគ្រីនពីព្រោះបញ្ចេញអរម៉ូនភេទតេស្តូស្តេរ៉ូន និង អង់ដ្រូសែន ដោយដឹកនាំតាមផ្លូវឈាមមានអំពើក្នុងសារពាង្គកាយ ។

គួរដឹង

- ក្នុងវ័យជាអំប្រ៊ីយ៉ុង ពងស្វាសស្ថិតនៅក្នុងប្រហោងពោះ cavité abdominale
- តាមធម្មតា ពងស្វាសត្រូវរំកិលមកក្រោមបន្តិចម្តងៗ តាមបំពង់ក្រលៀន ហើយធ្លាក់ចូលក្នុងថង់ពងស្វាសមុនកំណើត ។(ប្រឡាយក្រលៀន: Canal inguinal)
- ជួនកាលពងស្វាស ស្ថិតនៅក្នុងប្រហោងពោះ ឬ បំពង់ក្រលៀនរហូត ករណីនេះគេហៅថាគ្រីបទ័រគីឌី (Cryptorchidie) ។
- ពងស្វាសគ្រីបទ័រគីឌីទាំង ២ ធ្វើអោយមនុស្សអារតែមិនបាត់បង់លក្ខណៈភេទបន្ទាប់ទេ ។ គេត្រូវធ្វើការវះកាត់ ដើម្បីអោយវាធ្លាក់ចូលក្នុងថង់ពងស្វាស ។

www.facebook.com/7khmer
Fb page : Entertainment And Knowledge

❾❺ ក្នុងរូបខាងក្រោម កោសិកា A, B, C, D មានចំនួនក្រូម៉ូសូមដូចតទៅ A=2n, B=2n, C=n, D=n, E=n ។

កោសិកា D មិនចែកខ្លួនទៀតទេ ប៉ុន្តែបំលែងទៅជាកោសិកា E ។

ក) តាមបំរាប់ខាងលើ តើកោសិកាណាដែលរងចំនែកទី I និងកោសិកាណាដែលរង ចំណែកទី II នៃមេយ៉ូស ។

ខ) ប្រាប់ឈ្មោះ កោសិកា A, B, C, D, E, F, G ។

1- ផ្នែកប្រហោង

2- សរសៃឈាម

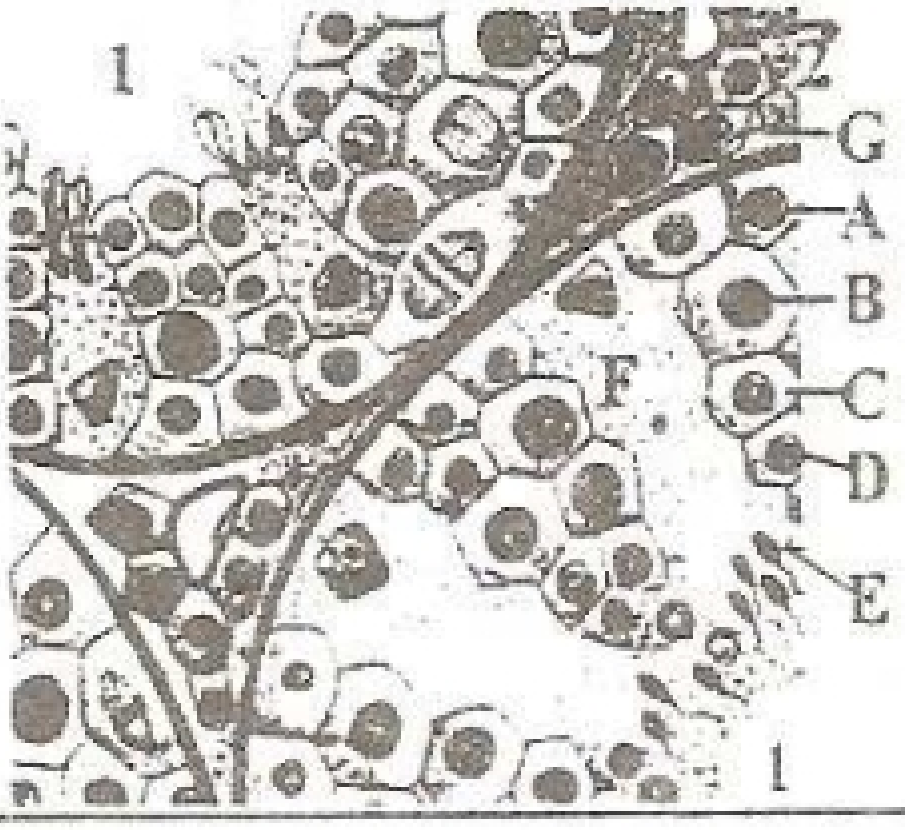

ក- តាមបំរាប់ គឺមិនមែនកោសិកា A, C, D ទេ ដែលរង ចំណែកទី I នៃមេយ៉ូស ពីព្រោះចំនួនក្រូម៉ូសូម មិនបានបន្ថយពាក់កណ្តាលរវាង A-B, C-D, D-E ទេ ។

លទ្ធភាពតែមួយគឺ :

- ចំណែកទី I នៃមេយ៉ូស: B → C
- ចំណែកទី II នៃមេយ៉ូស: C → D ។

ខ)

A : ស្ពែម៉ាតូគូទី

B : ស្ពែម៉ាតូស៊ីត I

E : ស្ពែម៉ាតូសូអ៊ីត

F : កោសិកាសែរតូលី

C : ស្ពែម៉ាតូស៊ីត II
G : កោសិកាអាំងទែទីស្យែល
D : ស្ពែម៉ាទីត

១៦ ក្នុងវគ្គបំលែងឯកទេស តើស្ពែម៉ាទីតបានបំលែងទៅជាស្ពែម៉ាតូសូអ៊ីត ដូចម្តេច?

ស្ពែម៉ាទីត បានបំលែងជាស្ពែម៉ាតូសូអ៊ីត ដោយសារ :

- បំលែងឯកទេស បង្កើតជាកន្ទុយ
- ការបំបាត់ចេញនូវស៊ីតូប្លាសមួយចំនួនធំ
- ប្រដាប់កុលស៊ី រលាយចូលគ្នា បង្កើតជាអាក្រូសូមគ្របពីលើណ្វៃយ៉ូ ។
- ការពន្លូតនៃណ្វៃយ៉ូ ដោយផ្តល់ជាទំរង់ក្បាលស្ពែម៉ាតូសូអ៊ីត
- បំរែបំរួលសង់ទ្រីយ៉ូលដែលនៅខាងក្រោម ផ្តល់កំណើតជាបំពង់តូចៗ

របស់កន្ទុយ (មើលរូប)

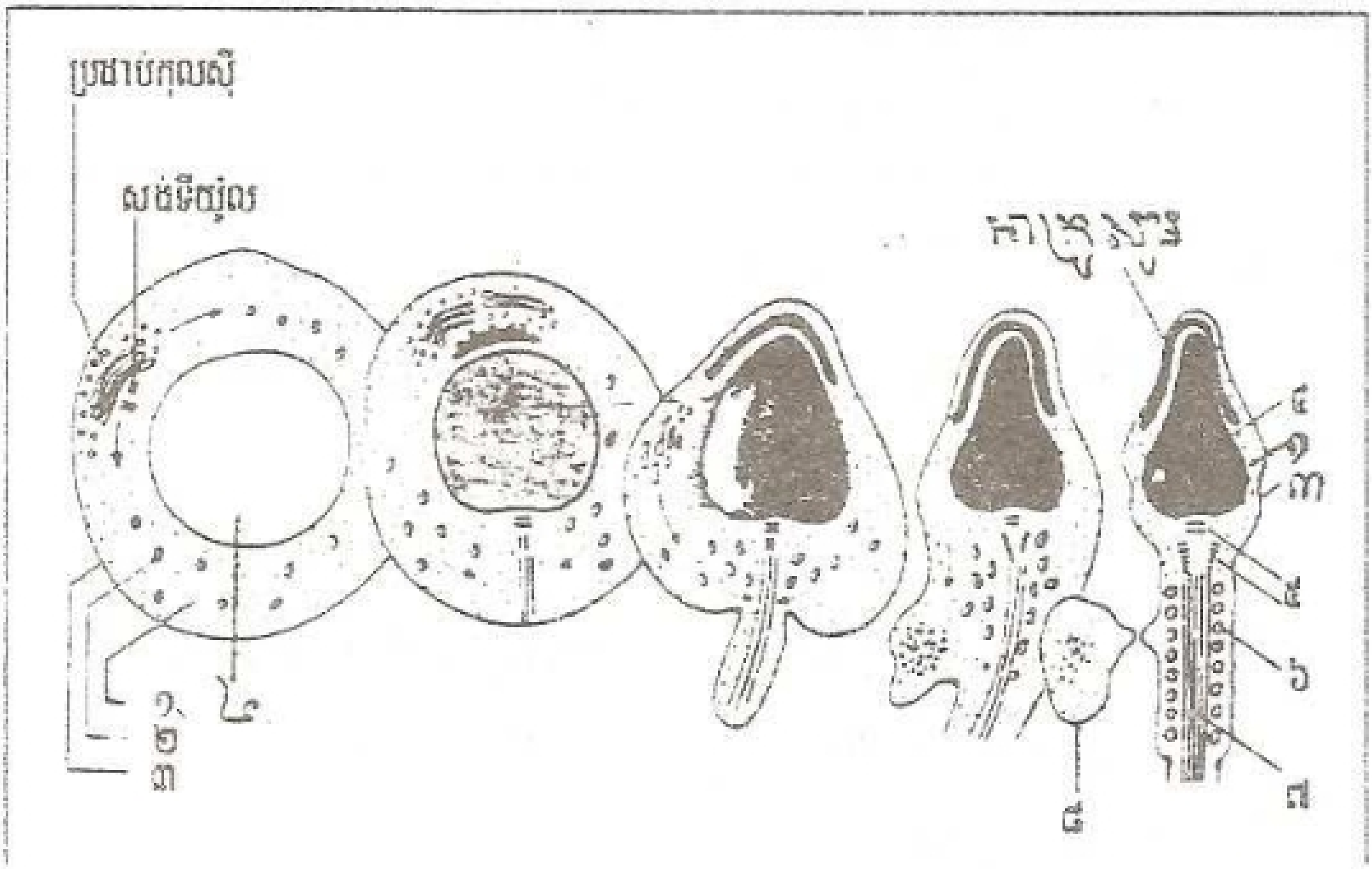

១- ស៊ុតចាស	៥- សង់ទ្រីយ៉ូល
២- និង ៦ មីតូកុងឌ្រី	៧- បំពង់តូចៗនៃកន្ទុយ
៣- ភ្នាសស៊ុតចាស	៨- ផ្នែកស៊ុតចាសដែលផ្តាច់ចេញ
៤- ណៃយ៉ូ	

៩៧ តើស្ពែម៉ាតូសូអ៊ីត អាចមានសមត្ថភាពធ្វើចលនាបាន និងចូលបង្កកំណើតបាន នៅ ពេលណា ?

ស្ពែម៉ាតូសូអ៊ីត អាចមានសមត្ថភាពធ្វើចលនាបាន និង បង្កកំណើតបាន នៅពេលដែលវាឆ្លងកាត់បំពង់អេពីឌីឌីម ។

៩៨ + ចេញពីពងស្វាស តើស្ពែម៉ាតូសូអ៊ីតចិញ្ចឹមជីវិតដោយសារអ្វី ?
+ តើទឹកកាម និង ទឹកពូជខុសគ្នាដូចម្តេច ?

+ ស្ពែម៉ាតូសូអ៊ីត ចិញ្ចឹមជីវិតដោយសារទឹកពូជ ។

+ ភាពខុសគ្នារវាងទឹកពូជ និង ទឹកកាម

ទឹកកាម	ទឹកពូជ
កើតចេញពីការបញ្ចេញរបស់ថង់ពូជ ក្រពេញប្រូស្តាតនិងខូវ៉ែរលាយជាមួយនឹងស្ពែម៉ាតូសូអ៊ីត (ទឹកពូជ + ស្ពែម៉ាតូសូអ៊ីត)	កើតពីការបញ្ចេញរបស់ថង់ពូជ ក្រពេញប្រូស្តាត និង ខូវ៉ែរ ដោយគ្មានលាយស្ពែម៉ាតូសូអ៊ីតទេ

www.facebook.com/7khmer
Fb page : Entertainment And Knowledge

ជា. គីមអៀង

៩៩ ចំពោះមនុស្ស 2n=46 ។ តើក្រូម៉ូសូមមានប៉ុន្មាន?

ក- ក្នុងស្ពែម៉ាតូស៊ីតទី II មួយ?

ខ- ក្នុងស្ពែម៉ាទីតមួយ?

គ- ក្នុងស្ពែម៉ាតូសូអ៊ីតមួយ?

ឃ- ក្នុងស្ពែម៉ាតូកូនីមួយ?

ង- ក្នុងស្ពែម៉ាតូស៊ីតទី I មួយ?

(ក) n=23, (ខ) n=23, (គ) n=23 (ឃ) 2n=46 (ង) 2n=46

១០០ តើចំនួនស្ពែម៉ាតូសូអ៊ីត មានប៉ុន្មានដែលកើតចេញពី :

ក- ស្ពែម៉ាតូកូនីមួយ ?

ខ- ស្ពែម៉ាតូស៊ីតទី II មួយ ?

គ- ពីស្ពែម៉ាទីតមួយ ?

ឃ- ពីស្ពែម៉ាតូស៊ីត I មួយ ?

ក-៤, ខ-២, គ=១, ឃ=៤

១០១ តើស្ពែម៉ាតូសូអ៊ីតមនុស្សចែកចេញជាប៉ុន្មានផ្នែក? ផ្នែកនីមួយៗកើតពីអ្វីខ្លះ ?

ស្ពែម៉ាតូសូអ៊ីតចែកចេញជា ៣ ផ្នែក

- <u>ក្បាល</u>: មានរាងទ្រវែង(5 μ) ។មានអាក្រូសូមនៅគ្របលើណ្វៃយ៉ូដ៏ធំ ស៊ីតូប្លាសតិច
- <u>ផ្នែកកណ្ដាល</u> : ប្រវែង 6 μ m ។ ស៊ីតូប្លាសមានសង់ត្រូសូម និង មីតូកុងទ្រី
- <u>ផ្នែកកន្ទុយ</u>: (ផ្លាសែល) ជាសរីរាង្គចលករមានប្រវែង 40 μ ។

www.facebook.com/7khmer
Fb page : Entertainment And Knowledge

102 ចូរបង្ហាញថាទឹកកាមរបស់មនុស្សប្រុស មិនមែនផ្ទុកតែស្ពែម៉ាតូសូអ៊ីតទេ ។

ទឹកកាមរបស់មនុស្សប្រុសមិនមែនផ្ទុកតែស្ពែម៉ាតូសូអ៊ីតទេ ។ សមាសធាតុទឹកកាម :

- ស្ពែម៉ាតូសូអ៊ីត (100.000.000 ក្នុង1 ml)
- ទឹកពូជបញ្ចេញដោយថង់ពូជ (60% នៃចំណុះសរុប)
- ទឹកពូជបញ្ចេញដោយប្រូស្តាត (២០% នៃចំនុះសរុប) ។

<u>**គួរចាំ**</u>

+ ក្នុងរបាញ់ចេញម្តង១ ស្ពែម៉ាតូសូអ៊ីតមានចំនួន ៣០០-៤០០ លាន
+ ស្ពែម៉ាតូសូអ៊ីត អាចរស់នៅក្នុងផ្លូវភេទស្ត្រីក្នុងរយៈពេល ៤-៥ ថ្ងៃ ។
+ ល្បឿនបំលាស់ទីទៅមុខ : 10-50 μm ក្នុង 1 វិនាទីនៅក្នុងទឹកកាម ។
+ ស្ពែម៉ាតូសូអ៊ីតដែលយកចេញពីពងស្វាសដោយមិនឆ្លងកាត់អេពីឌីឌីម មិនអាចមានចលនាទេ ។ វាអាចមានចលនានិងអាចចូលបង្កកំណើតជាមួយអូវ៉ូ ស៊ីតបានទាល់តែវាឆ្លងកាត់អេពីឌីឌីម ។
+ ស្ពែម៉ាតូសូអ៊ីតដែលផលិតឥតឈប់ឈរនៅក្នុងពងស្វាស ត្រូវស្តុកទុកនៅផ្នែកកន្ទុយនៃអេពីឌីឌីម ។

103 តើស្ពែម៉ាតូសូអ៊ីត អាចហែលនៅក្នុងទឹកពូជបានសារអ្វី ? ចូរពន្យល់ ។

ស្ពែម៉ាតូសូអ៊ីតហែលក្នុងទឹកពូជបាន ដោយសារប្រដាប់ចលករមួយដែលបង្កឡើងដោយផ្លាសែលយ៉ាងវែងមួយ ។ ផ្លាសែលនេះបញ្ចូលទៅក្នុងផ្នែកកណ្តាលរបស់ ស្ពែម៉ាតូសូអ៊ីតតាមបាតរបស់វា ។ រីសរបស់ផ្លាសែលរំព័ទ្ធ ដោយសារមីតូកុងទ្រីដែល ផ្តល់ថាមពលគីមីសំរាប់ ជួយអោយស្ពែម៉ាតូសូអ៊ីតបំលាស់ទី និង ធ្វើចលនាបាន ។

www.facebook.com/7khmer
Fb page : Entertainment And Knowledge

104 តើអាក្រូសូមជាអ្វី ? វាមាននាទីដូចម្តេច ?

អាក្រូសូមជាធាតុកោសិកាដែលបំពាក់លើណៃយ៉ូ នៅផ្នែកខាងលើក្បាលរបស់ស្ពែម៉ាតូសូអ៊ិត ។វាមាននាទីផ្ទុកអង់ស៊ីម សំរាប់រំលាយភ្នាសអូវុលក្នុងពេលបង្កកំណើតដើម្បីជ្រៀតចូលទៅក្នុងអូវុល ។

105 កាលណាគេក្រៀវ (ដោយកាត់ពងស្វាសទាំង២ចេញ) មុនពេលពេញវ័យគ្រប់ ការយើងឃើញថាលក្ខណៈភេទបឋមនិងបន្ទាប់ ត្រូវបាត់បង់ព្រមទាំង អារទៀតផង ។ តើលទ្ធផលនេះបានបង្ហាញពីនាទីរបស់ពងស្វាសយ៉ាងដូចម្តេច ?

លទ្ធផលនៃការក្រៀវនេះ បង្ហាញថាពងស្វាសមាននាទី ២ យ៉ាង :

- បង្កើតអ័រម៉ូនភេទដែលមាននាទីកំណត់លក្ខណៈភេទបឋម និង ភេទបន្ទាប់ ។ ហេតុនេះកាលណាគ្មានពងស្វាស វាបាត់បង់លក្ខណៈភេទ ។

- បង្កើតស្ពែម៉ាតូសូអ៊ិត ។ ហេតុនេះកាលណាគ្មានពងស្វាស គឺគ្មានស្ពែម៉ាតូសូអ៊ិតដែលនាំអោយអារ ។

www.facebook.com/7khmer
Fb page : Entertainment And Knowledge

វិលីគ : ប្រដាប់បន្តពូជរបស់ស្ត្រី

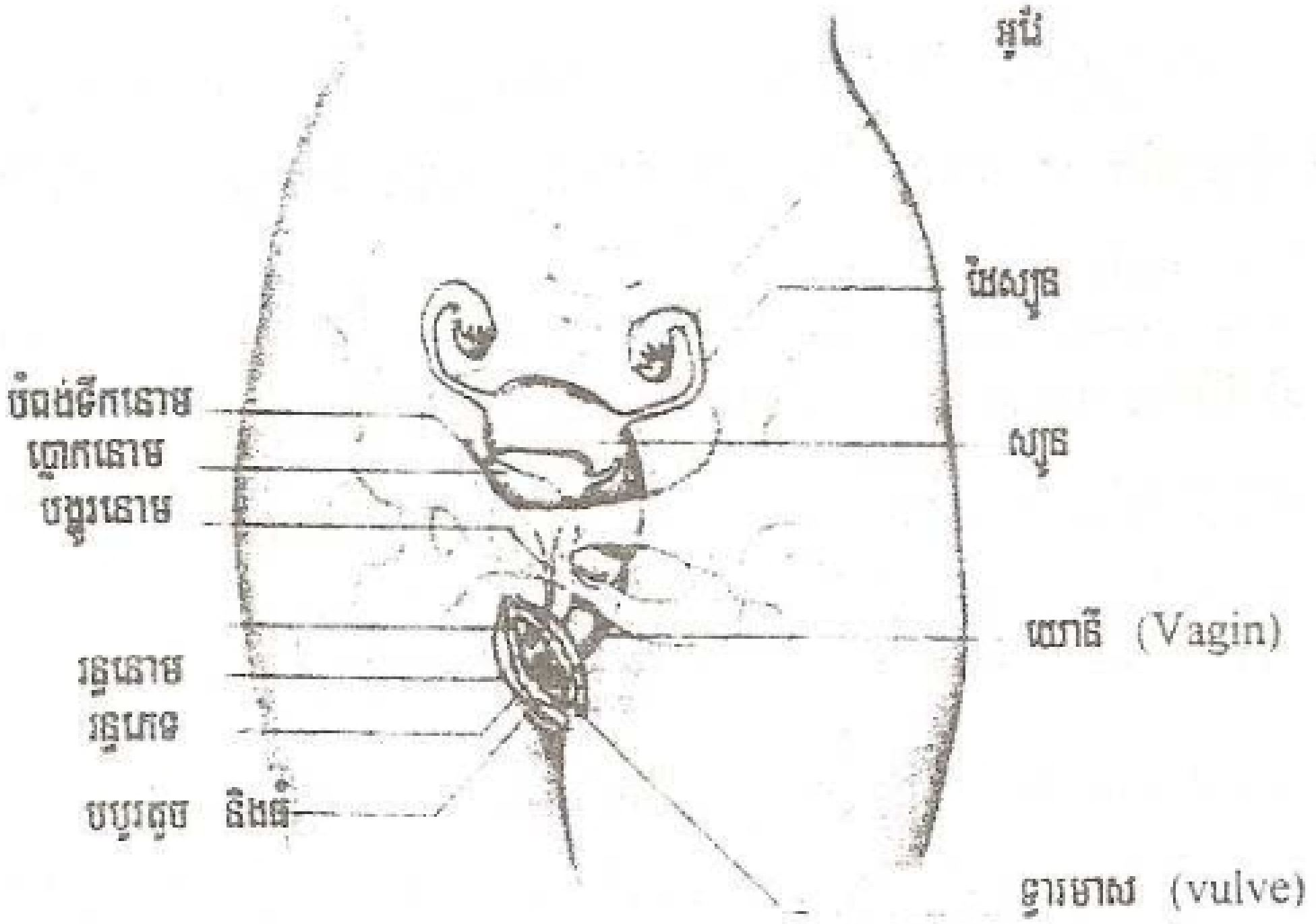

ប្រដាប់បន្តពូជស្ត្រី ស្ថិតនៅក្នុងពោះ ។ វាចែកជា

ក- <u>វិផ្នែកខាងក្នុង</u> :

១- <u>អូវែ</u>: មានពីរ ។ មានមុខងារផ្ទុកផូលីគុលជាច្រើនដែលនឹងរីកចំរើនជា អូវ៉ូស៊ីត និងផលិតអរម៉ូនភេទ ។

២- <u>ប្រម៉ោយស្បូន</u> : ជាបំពង់បត់បែននៅសងខាងស្បូន ។ នៅចុងម្ខាង រាងដូច ឡាវ បន្តពីអូវែមកស្បូនហើយវាមាននាទីទទួលយកអូវុលដែលដាច់ចេញពីអូវែនាំមក រកស្បូន ។

៣- <u>ស្បូន</u> : ជាសរីរាង្គសាច់ដុំដែលប្រហោងកណ្តាល ។ ផ្នែកខាងលើធំភ្ជាប់ទៅនឹងដៃទាំង ២ នៃស្បូន ផ្នែកខាងក្រោមតូច មានសាច់ដុំរង្វង់សំរាប់បិទផ្នែកក្រោមនៃ

www.facebook.com/7khmer
Fb page : Entertainment And Knowledge

ស្បូនហៅថា "កស្បូន" ។ ផ្ទៃក្នុងក្រាលដោយភ្នាសសើម តំរូវនឹងការទទួលស៊ុតដែលបង្កកំណើត ។

៤- <u>យោនី</u> : ជាសាច់ដុំមួយដែលបន្តពីស្បូនមកទ្វារមាស ។ ប្រវែងមធ្យមពី 6-8cm នៅផ្នែកខាងក្រោមវាខ័ណ្ឌដោយសន្ទះមួយហៅថា ក្រដាសព្រហ្មចារីយ៍ ។

ខ- ផ្នែកខាងក្រៅ :

-<u>ទ្វារមាស</u> : ការពារយោនីដោយបបូរតូច និង ធំ ។

106 តើអូវែពេញវ័យមានទំរង់ដូចម្តេចខ្លះ ?

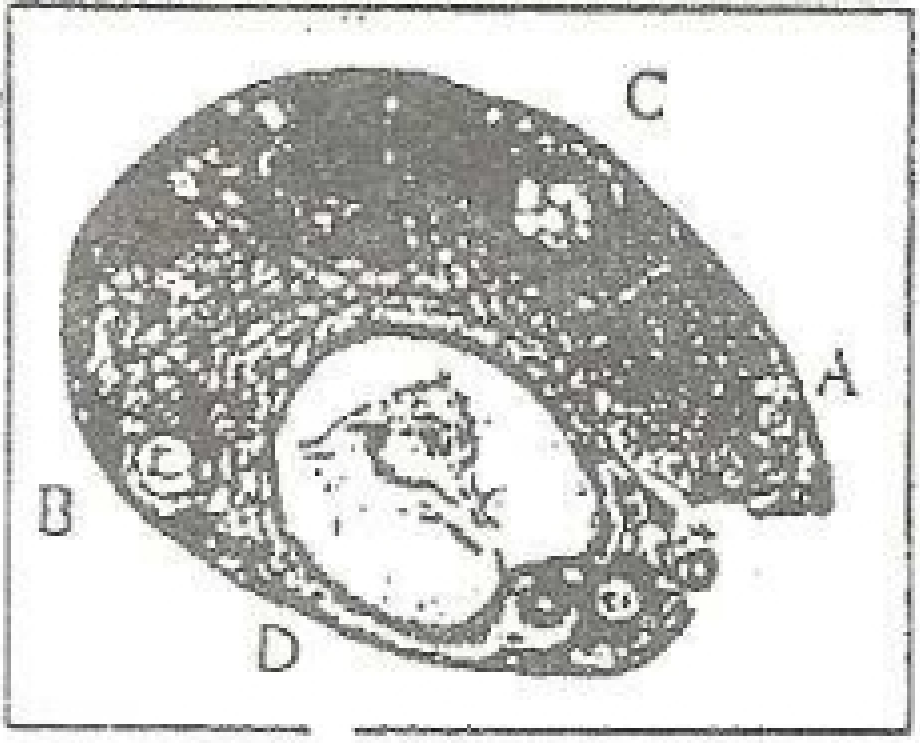

ចំពោះស្ត្រី និង សត្វញីមានអូវែពីរ ។ អូវែនីមួយៗ បង្កឡើងដោយ ២ ផ្នែក :

- ផ្នែកក្នុងសំបូរដោយសរសៃឈាម ។
- ផ្នែកជាយ (សំបក) ជាកន្លែងដែលកាម៉ែតញីលូតលាស់

<u>ត្រូវដឹង</u>:

A : ផូលីគុលទី ១

B : ផូលីគុលទី ២

C : ផូលីគុលទី ៣ (មិនទាន់ទុំ)

D : ផូលីគុលទី ៣ ឬ ប្រហោង (ទុំ)

107 ចូរបង្ហាញពីមុខងាររបស់អូវែ ។

អូវែជាក្រពេញភេទញី មាននាទី ២ យ៉ាង :

- ផលិតអូវ៉ូស៊ីត (អូវុល) ដែលជាកោសិកាបន្តពូជញី
- ផលិតអរម៉ូនភេទ ២ យ៉ាង : អ៊ីស្ត្រូសែន និង ប្រូសេស្តេរ៉ូន ។

108 ក) តើផូលីគុលទាំងឡាយ កកើតនៅត្រង់ផ្នែកណានៃអូវែ ?

ខ) តើផូលីគុលអ្វី ដែលស្ថិតនៅស្ងៀម មិនលូតលាស់ ក្នុងរយៈពេលជាង ១០ឆ្នាំ ក្នុង ជីវិតកុមារី ? ក្នុងផូលីគុលនេះ មានផ្ទុកកោសិកាភេទញីឈ្មោះអ្វី ?

ក- កកើតនៅត្រង់ផ្នែកសំបក (ផ្នែកជាយនៃអូវែ) ។

ខ- គឺជាផូលីគុលដើម ។ វាផ្ទុកកោសិកាភេទញីគឺអូវ៉ូស៊ីត I (ក្នុងប្រូផាស I)

109 ចូរអ្នកដាក់ចំណងជើងរូប ព្រមទាំងដាក់ឈ្មោះតាមរូបព្រួញ ដែលចង្អុល

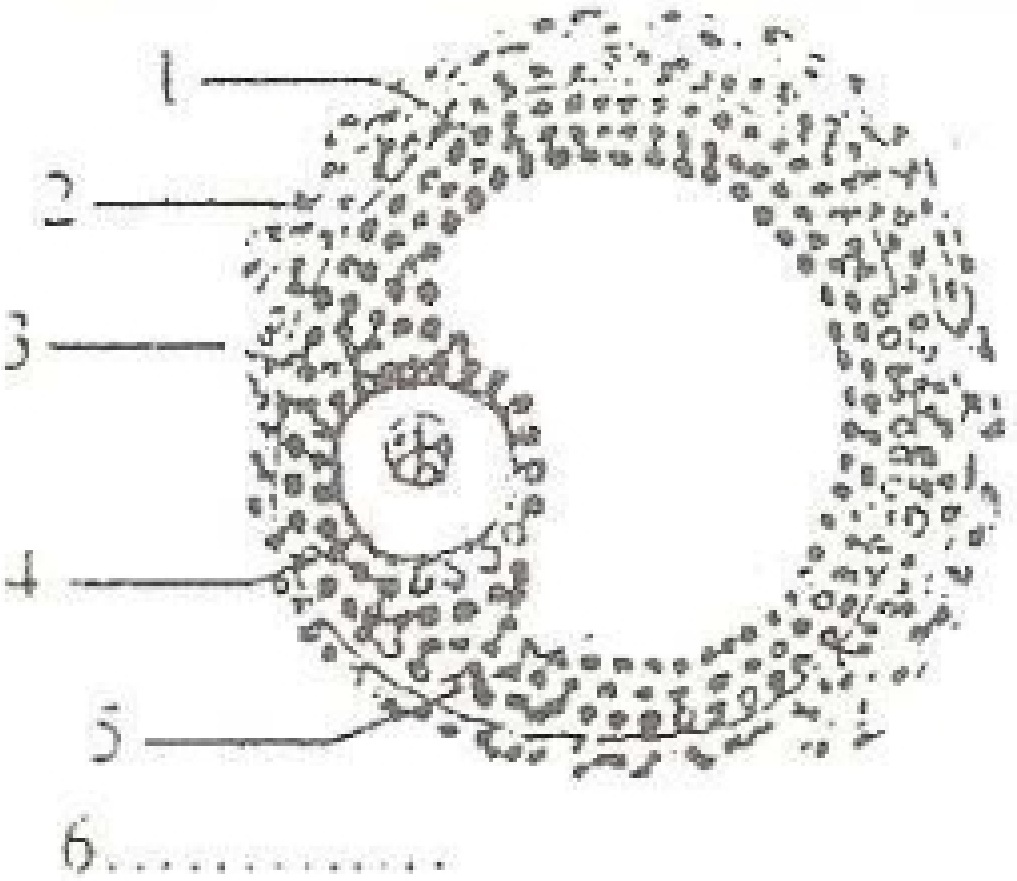

១- កោសិកាផូលីគុល

២- តែកក្រៅ

៣- តែកក្នុង

៤- អូវ៉ូស៊ីត I

៥- ធាតុរាវក្នុងផូលីគុល

៦- ផូលីគុលដឺក្រាប ឬ ផូលីគុលរុបបោង

110 តើកោសិកាផូលីគុល មានមុខងារយ៉ាងដូចម្តេច ?

www.facebook.com/7khmer
Fb page : Entertainment And Knowledge

ជា គឹមឈៀង

កោសិកាផូលីគុល មាននាទី ២ យ៉ាង :

- ជួយផ្គត់ផ្គង់ធាតុ ចាំបាច់ដល់ការរីកចំរើននៃអូវ៉ូស៊ីត

- បញ្ចេញអរម៉ូនភេទស្រីសេន ក្នុងវគ្គផូលីគុលរូច ប្រូសេស្តេរ៉ូន និង អ៊ីស្ត្រាដ្យ៉ូល តិចតួច ក្នុងវគ្គលុយតេអ៊ីច (ពេលដែលកោសិកាផូលីគុលក្លាយជាអង្គលឿង)

១ ១ ១ ផូលីគុលនីមួយៗ បង្កឡើងពីអ្វីខ្លះ?

ផូលីគុលនីមួយៗ បង្កឡើងពី :-

- អូវ៉ូស៊ីត

- ស្រទាប់កោសិកាផូលីគុល ករណីខ្លះមានប្រហោងផ្ទុកធាតុរាវ

- តែក (តែកក្នុង និងតែកក្រៅ) ។

១ ១ ២ តើការរីកចំរើននៃផូលីគុល វាលទ្ធផលនៃអ្វីខ្លះ ? (តើកំណើនមាឌរបស់ផូលីគុលបណ្តាលមកពីអ្វី ?)

ការរីកចំរើននៃផូលីគុលជាលទ្ធផលនៃ :

- ដំនុះដំនាលនៃកោសិកាផូលីគុល

- កំនើនឡើងនៃធាតុរាវផូលីគុល

- កំនើនកំរាស់តែក

- ទំហំទំហាត់អូវ៉ូស៊ីត

១ ១ ៣ តើចំណែកទី I នៃមេយ៉ូស ចាប់ផ្តើមតាំងពីកាលណាមក ? ចំណែកនេះបន្តសកម្មភាពវិញនៅពេលណា ? ហើយបញ្ចប់ទៅវិញនៅពេលណា ? តើការបញ្ចប់ចំណែកទី I នេះផ្តល់នូវកោសិកាអ្វីខ្លះ ?

- ចំណែកទី១ នៃមេយ៉ូស កើតមានតាំងពីនៅជាគភ៌ម្ទេះ គឺចាប់ផ្តើមតាំងពីមុន ខែទី ៧ ។

-វាចាប់ផ្តើមបន្តសកម្មភាពឡើងវិញ (ប្រហែល២០ម៉ោង) មុនដំណើរអូវុលក្នុងវគ្គ ផូលីគុល ។

www.facebook.com/7khmer
Fb page : Entertainment And Knowledge

ដា គឹមស្រៀង

- វាបញ្ចប់ប្រហែលជា ៦ ម៉ោង មុនដំណើរអូវុល

- ការបញ្ចប់ចំណែកទី I ផ្តល់កំណើតជាកោសិកាពីរដែលមួយមានខ្ទង់ គឺជា អូវ៉ូស៊ីតII ឯមួយទៀតជាកោសិកាមាឌតូច គឺជាគោលិកាប៉ូលទី ១ ។

❶❶❹ តើចំណែកទីII នៃមេយ៉ូសចាប់ផ្តើមឡើងយ៉ាងដូម្តេច បន្តពីចំណែកទីI ? ហើយ ផ្អាកនៅវគ្គណា ? តើហេតុការណ៍អ្វីដែលជំរុញអោយមានការ បញ្ចេញនូវគោលិកាប៉ូល ទី ២ (=តើហេតុការណ៍អ្វីដែលនាំអោយមានការ បញ្ចប់មេយ៉ូស ?)

- ចំណែកទី ២ នៃមេយ៉ូស ចាប់ផ្តើមឡើងភ្លាម១ តែម្តង បន្តពីចំណែកទី I ។

- វាផ្អាកនៅមេតាផាស II

- ហេតុការណ៍ដែលជំរុញអោយបញ្ចេញគោលិកាប៉ូលទី២ គឺការជ្រៀតចូលនៃស្ពែម៉ាតូសូអ៊ីត ទៅក្នុងអូវ៉ូស៊ីតទី II ដែលជាការបង្កកំនើត ។

❶❶❺ ក- តើផូលីគុលនៅក្នុងអូវ៉ែ ចាប់ផ្តើមលូតលាស់ទំហំក្នុងរយៈពេល ប៉ុន្មានខែ មុនមានរដូវ ?

ខ- តើដំណើរអូវុល កើតមានប៉ុន្មានថ្ងៃមុននឹងមានរដូវ ?

ក-ផូលីគុលនៅក្នុងអូវ៉ែ ចាប់ផ្តើមលូតលាស់ទំហំក្នុងរយៈពេល ៤ខែ មុនពេលមានរដូវ ។

ខ- ដំណើរអូវុល កើតមាន ១៤ ថ្ងៃ មុនពេលមានរដូវ ។

❶❶❻ ហេតុដូចម្តេចបានជាគេថាកំនអូវុលប្រព្រឹត្តជាអនិវត្តន៍ ?

ពីព្រោះ :

www.facebook.com/7khmer
Fb page : Entertainment And Knowledge

- កំនអូវុលចាប់ផ្តើមតាំងពីនៅជាអំប្រីយ៉ុងប៉ុន្តែត្រូវផ្អាកសកម្មភាព មុនឬក្រោយកំណើតបន្តិច ដោយតាំងនៅជាអូវ៉ូស៊ីតI ក្នុងប្រូផាសI ។

- នៅពេលសារពាង្គកាយពេញវ័យ អូវ៉ូស៊ីតI បន្តមេយ៉ូស ហើយតាំងទៀតនៅមេតាផាសII ជាអូវ៉ូស៊ីត II ។

-មេយ៉ូសអាចបញ្ចប់បាននៅក្នុងដៃស្បូន ទាល់តែមានការបង្កកំណើត ។ ដំណើរនេះមានជាធម្មតា ពី១៣-១៥ ឆ្នាំ រហូតអស់រដូវតីនៅអាយុ ៤៥-៥៥ឆ្នាំ គឺគ្មានកំនអូវុលទៀតទេ ។

-ករណីមានគភ៌ ក៏ផ្អាកដំណើរមេយ៉ូសដែរ ។ ដូច្នេះកំនអូវុលប្រព្រឹត្តជានិរន្តរ៍ ។

117 ក្នុងកំនអូវុលរបស់ស្ត្រីក្រមុំ តើមានការបំលែងពីអូវ៉ូស៊ីតII ទៅជាអូវុលរឺទេ? តើក្នុងករណីណា ទើបមានការបំលែងអូវ៉ូស៊ីតII ទៅជាអូវុល ?

- ជាទូទៅ គ្មានការបំលែងពីអូវ៉ូស៊ីតII ទៅជាអូវុលទេ ចំពោះស្ត្រីក្រមុំ ។

- ការបំលែងពីអូវ៉ូស៊ីត II ទៅជាអូវុល កើតមានឡើង ទាល់តែក្នុងករណីមានស្ពែម៉ាតូស្ស៊ីត ជ្រៀតចូលទៅក្នុងអូវ៉ូស៊ីតII គឺជាសំចំណែកទី២ នៃមេយ៉ូសឱ្យ បន្តទៅទៀតដើម្បីបញ្ចប់កំនអូវុល ។

<u>ចំណាំ</u> : ជាទូទៅអូវ៉ូស៊ីតទីមួយ១ មិនអាចវិវត្តរហូតដល់អូវុលទេ មានតែមួយចំនួនតូចប៉ុណ្ណោះដែលអាចវិវត្តបានកាលណា មានស្ពែម៉ាតូស្ស៊ីតជ្រៀតចូល ។

118 ចំពោះដំណើរកំនអូវុល តើស្ពែម៉ាតូស្ស៊ីតមានទាទីដូចម្តេច?

ក្នុងដំណើរកំនអូវុល ស្ពែម៉ាតូស្ស៊ីតមានទាទីជាសំចំណែកទី ២ មេយ៉ូសឱ្យបន្តដើម្បីបញ្ចប់កំនអូវុល ។

www.facebook.com/7khmer
Fb page : Entertainment And Knowledge

❶❶❾ អូវ៉ូស៊ីត II ដែលមិនបានជួបស្ពែម៉ាតូស្ស៊ីត តើវាទៅជាយ៉ាងណា ?

អូវ៉ូស៊ីត II ទីងងាប់ ហើយត្រូវបញ្ចេញមកក្រៅតាមឈាមរដូវ ។

❶❷⓪ តើលក្ខណៈភេទបឋម និងភេទបន្ទាប់ត្រូវបានកំណត់និងទ្រទ្រង់ដោយសារអ្វី?

លក្ខណៈភេទបឋម និង ភេទបន្ទាប់ ត្រូវបានកំណត់និងទ្រទ្រង់ដោយសារអរម៉ូនភេទ តេស្តូស្តេរ៉ូន ចំពោះមនុស្សប្រុស ប្រូសេស្តេរ៉ូន និង អ៊ុស្ត្រាដ្យូលចំពោះមនុស្សស្រី ។

❶❷❶ ចូរប្រៀបធៀបកំណើតស្ពែម៉ាតូស្ស៊ីត និង កំណើតអូវុល ។

ចំនុចរួម

- ឆ្លងកាត់ដំណាក់កាល ៣ ដូចគ្នា គឺវគ្គដំណុះដំណាល វគ្គកំណើន និង វគ្គទុំ ។
- បង្កើតការម៉ែត ។

ចំនុចខុសគ្នា

កំណើតស្ពែម៉ាតូស្ស៊ីត	កំណើតអូវុល
- ប្រព្រឹត្តទៅជានិរន្តន៍ចាប់ពីពេលពេញវ័យរហូតដល់អស់ជីវិត ។	- ប្រព្រឹត្តទៅជាអនិរន្តន៍ចាប់តាំងពីអំប្រីយ៉ុង រហូតដល់អាយុ ៤៥-៥៥ឆ្នាំ ដោយមានការផ្អាកដោយវគ្គសំរាក២ គឺ ប្រូផាស I និងមេតាផាស II ហើយអាចបញ្ចប់បានទាល់តែមានការបង្កកំនើត ។

www.facebook.com/7khmer
Fb page : Entertainment And Knowledge

- នៅវគ្គកំណើនស្ពែម៉ាតូស៊ីត I កើនមាឌតិចតួច ។
- ក្នុងវគ្គទុំទុំ ចំណែកទាំង២ នៃមេយ៉ូស ប្រព្រឹត្តបន្តបន្ទាប់គ្នា ដោយគ្មានផ្អាកទេ ហើយបាននាំនូវចំណែកស្មើគ្នា នៃស៊ីតូប្លាស ក្នុងស្ពែម៉ាទីត
- មានបំលែងឯកទេស ពីស្ពែម៉ាទីតទៅ ស្ពែម៉ាតូសូអ៊ីត យ៉ាងសាំញ៉ាំ
- ចេញពីស្ពែម៉ាតូស៊ីត I មួយ ផ្តល់ស្ពែម៉ាតូសូអ៊ីត ៤ ។

- នៅវគ្គកំណើន អូវ៉ូស៊ីត I កើនមាឌយ៉ាងខ្លាំង ។
- ក្នុងវគ្គទុំទុំចំណែកទី១ ចាប់បន្តបញ្ចប់ ។ ចំណែកទី២ បន្តភ្លាមប៉ុន្តែផ្អាកនៅមេតាផាស II (អូវ៉ូស៊ីត II) ហើយទាល់តែមានការជ្រៀតចូលនៃស្ពែម៉ាតូសូអ៊ីត ទើបមានការបញ្ចប់ចំណែកទី២ ។ ចំណែកស៊ីតូប្លាសចែកមិនស្មើគ្នាទេ គឺផ្តល់ជាអូវ៉ូទីត១ មាឌធំនិង គោលិកាប៉ូល ១មាឌតូច ។
- គ្មានបំលែងឯកទេសទេ ។
- ចេញពីអូវ៉ូស៊ីត I មួយ ផ្តល់ជាអូវ៉ូទីតតែមួយគត់ ឯកោសិកា២ទៀត(ឬ៣) ជាគោលិកាប៉ូល ។

ចំណាំ: ចំពោះកំនអូវុលគឺមិនជានិច្ចកាលផ្តល់គោលិកាប៉ូលតែ ២ នោះទេ :

- បើគោលិកាប៉ូលទី១ មិនរងចំណែកទី២ នៃមេយ៉ូសទេនោះពេលចប់មេយ៉ូសវាផ្តល់បាន គោលិកាប៉ូលសរុបតែ២ទេ គឺគោលិកាប៉ូលទី១ មួយនិង គោលិកាប៉ូលទី២ មួយ ។
- បើគោលិកាប៉ូលទី ១ រងចំណែកទី២ នៃមេយ៉ូស នោះពេលចប់មេយ៉ូសវាផ្តល់បាន គោលិកាប៉ូលទី ២ សរុប ៣ ។

www.facebook.com/7khmer
Fb page : Entertainment And Knowledge

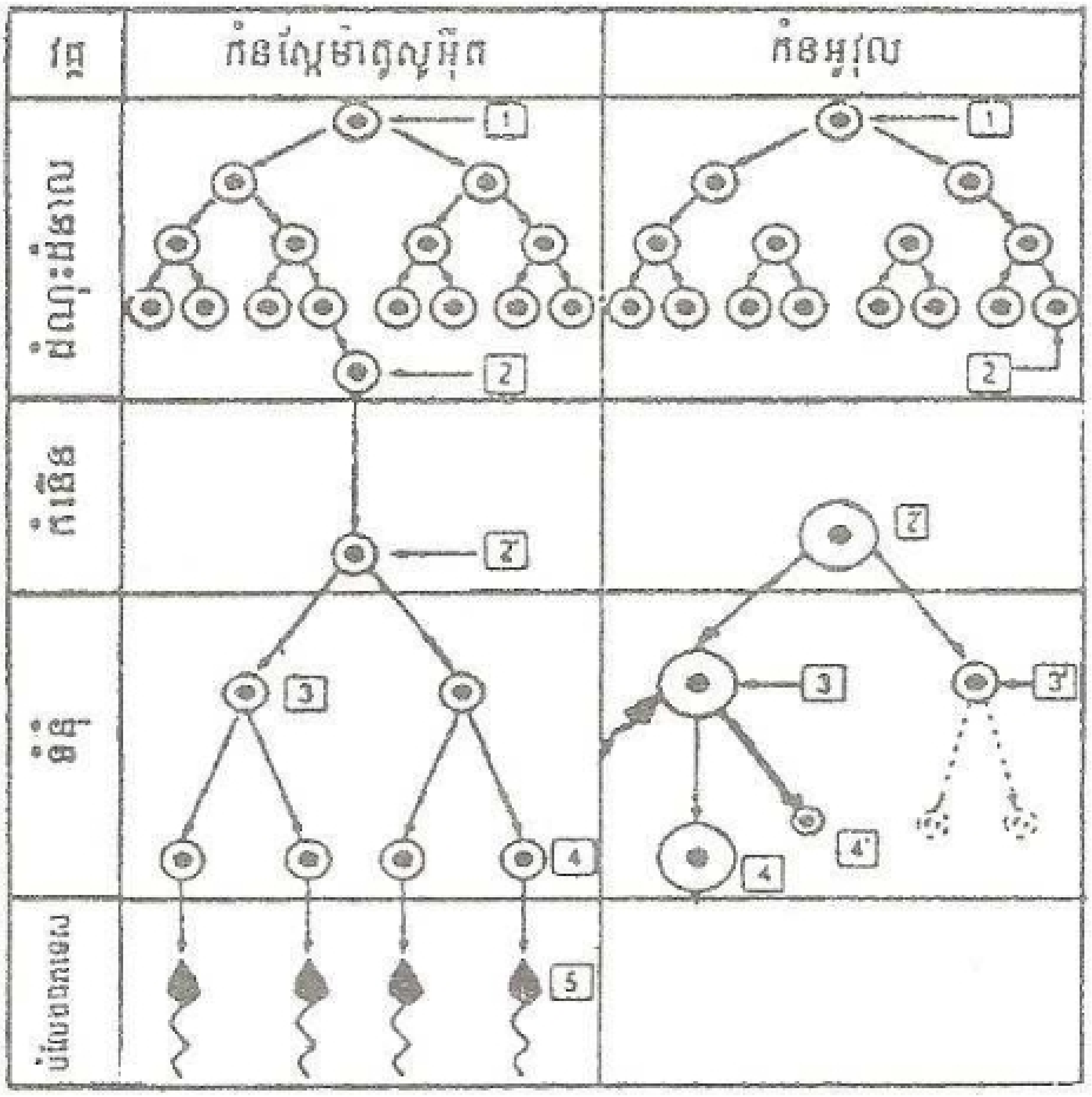

1 - កោសិកាពូជ (2n)

2 - ស្ពែម៉ាតូកូទី (2n)

អូវូកូទី (2n)

2' - ស្ពែម៉ាតូស៊ីត I (2n), អូវូស៊ីត I (2n)

3-អូវូស៊ីត II (n)

3' - គោលិកាប៉ូលទី 1 (n)

4- ស្ពែម៉ាទីត (n)

អូវូទីត (n)

4' - គោលិកាប៉ូលទី 2 (n)

5- ស្ពែម៉ាតូស្សូអ៊ីត (n)

❶❷❷ ចំពោះមនុស្ស អូវូស៊ីតធំជាងស្ពែម៉ាតូស្សូអ៊ីតមួយម៉ឺនដង ។ ចូរបង្ហាញពីការចាំបាច់នៃវិមាត្រដ៏ធំនេះ ។

www.facebook.com/7khmer
Fb page : Entertainment And Knowledge

វិមាត្រដ៏ធំនៃអូវ៉ូស៊ីតនេះ បណ្ដាលមកពីមានស៊ីតូប្លាសច្រើន ដែលចាំបាច់ក្នុងការស្ដុកទុកសាធាតុចិញ្ចឹមបំរុងច្រើន សំរាប់ចិញ្ចឹមអំប្រ៊ីយ៉ុងក្នុងរយៈពេលមួយសប្ដាហ៍ដំបូង បន្ទាប់ពីបង្កកំណើត ។ ក្រៅពីនេះមានផ្ទុកនូវ ARN ផ្សេងៗ រីបូសូម... ដើម្បីសំយោគប្រូទីតដែលចាំបាច់ក្នុងដំណាក់កាលលូតលាស់ដំបូងដែលស៊ីកូតចែកខ្លួន យ៉ាងសកម្ម ។

❶❷❸ ចូរនិយាយពីទំរង់កាម៉ែតញីក្នុងសភាពជាអូវ៉ូស៊ីត II ។

អូវ៉ូស៊ីតជាកោសិកាធំជាងគេនៅក្នុងសារពាង្គកាយ ។ វាមានរាងស្វ៊ែ ។ អង្កត់ផ្ចិតប្រែប្រួលទៅតាមប្រភេទសត្វនីមួយៗ ។

- ភ្នាសអូវ៉ូស៊ីត :
  • កំរងកោសិកាផូលីគុល
  • តំបន់ប៉េលុយស៊ីត
  • ភ្នាសស៊ីតូប្លាស
  • នៅចន្លោះភ្នាសស៊ីតូប្លាសនិងប៉េលុយស៊ីតមានគោលិកាប៉ូលទី ១
- ស៊ីតូប្លាសយ៉ាងច្រើន
- គ្រាប់តូចៗនៅក្រោមភ្នាសស៊ីតូប្លាស
- ណ្វៃយ៉ូស្ថិតនៅក្នុងចំណែកទី II (មេតាផាស II) ៗ

www.facebook.com/7khmer
Fb page : Entertainment And Knowledge

❶❷❹ ដូចម្តេចដែលហៅថាវដ្តអូវែ ? តើដំណើរអូវុលចែកវដ្តអូវែជាប៉ុន្មានវគ្គ? អ្វីខ្លះ ? ចូរបញ្ជាក់ដោយសង្ខេប ។

+ វដ្តអូវែ : មើលសៀវភៅពន្យល់ពាក្យទំព័រ ៤៧

+ ដំណើរអូវុល ចែកវដ្តអូវែជា ២ វគ្គ គឺវគ្គផូលីគុល និង វគ្គលុយតេអ៊ិច ។

• វគ្គផូលីគុល : មានរយៈពេលមធ្យម ១៤ថ្ងៃ (អាចប្រែប្រួលពី១២-១៧ថ្ងៃ) ។ ក្នុងវគ្គនេះ ផូលីគុលដែលបញ្ឈប់ការលូតលាស់តាំងពីជីវិតជាគភ៌បានបង្កើយ ការវិវត្តរបស់វាដោយអូវ៉ូស៊ីត I បញ្ចប់ចំណែកទី១ និងបន្តចំណែកទី២ ហើយតាំងនៅមេតាផាស II មុននឹងចាក ចេញពីអូវែ ។

• វគ្គលុយតេអ៊ិច : មានរយៈពេលថេរ (១៣-១៤ថ្ងៃ) ត្រូវកត់សំគាល់ដោយមានអង្គលឿងកើតឡើងចេញពីផូលីគុលដែលផ្ទុះបែក ។ នៅចុងបញ្ចប់នៃវដ្ត អង្គលឿងរួញស្វិតដោយបន្សល់នូវស្នាមស ។ តែបើមានការបង្កកំណើត អង្គលឿង ត្រូវបន្តរហូតដល់គភ៌អាយុ ៦ ខែ ។

❋ ត្រូវដឹង: ការបង្កកំណើតអាចកើតមានចាប់ពីថ្ងៃប្រហែលទី ១១-១២ ទៅប្រហែលថ្ងៃទី ១៧ ក្រោយពេលមានរដូវ ពីព្រោះក្នុងកំឡុងពេលនេះ អូវុលធ្លាក់ចាកអូវែ ។ ក្រៅពីចន្លោះថ្ងៃនេះ មិនអាចមានការបង្កកំនើតទេ ។

www.facebook.com/7khmer
Fb page : Entertainment And Knowledge

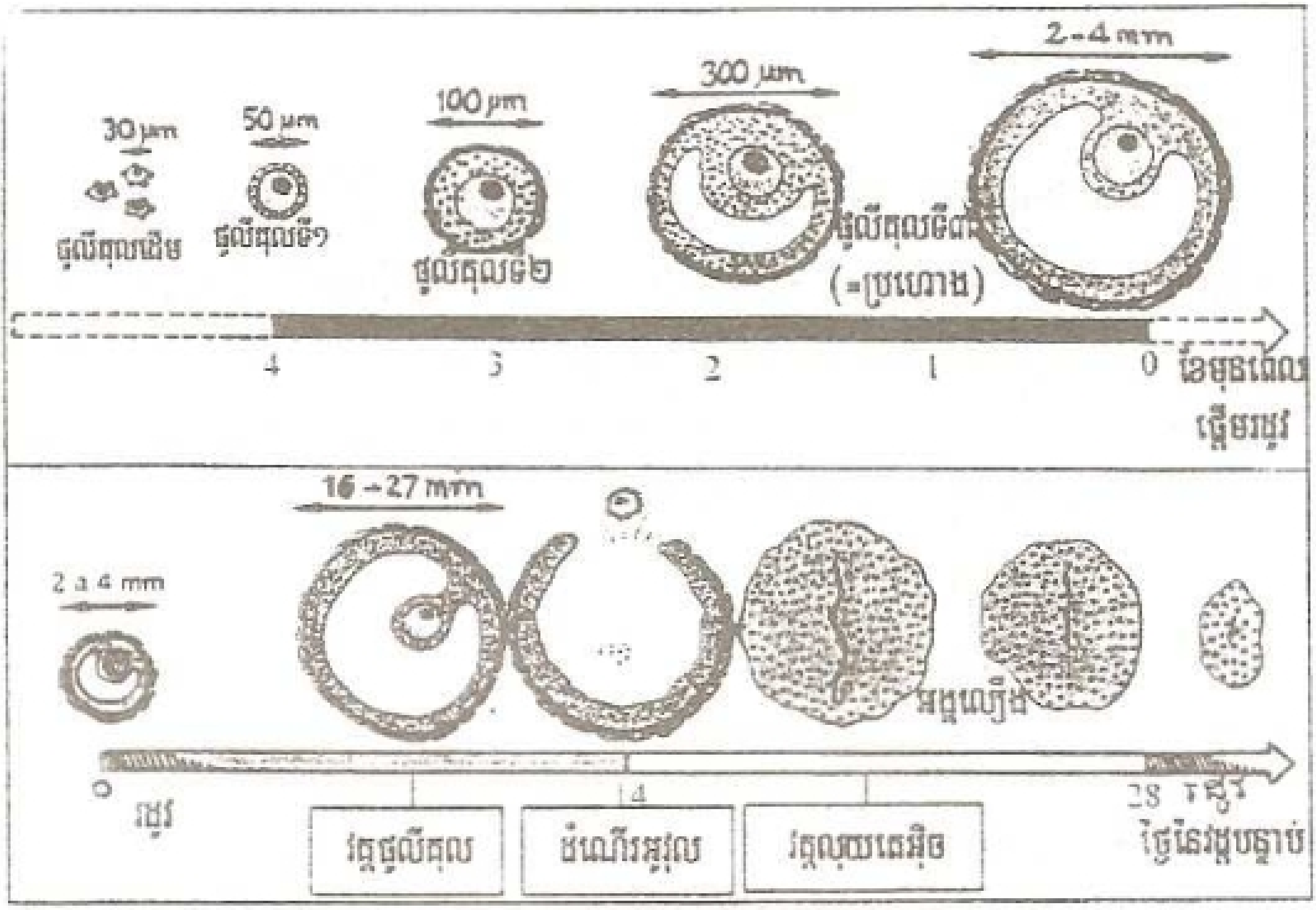

❶❷❺ ដូចម្តេចដែលហៅថាវដ្តរដូវ ? តើវដ្តរដូវចែកចេញជាអ្វីខ្លះ? វដ្តរដូវទីមួយៗ មានលក្ខណៈសំគាល់ទៅលើអ្វី ?

+ វដ្តរដូវ : [illegible] ។

+ វដ្តរដូវចែកចេញជា ៣ : វដ្តអូវែ វដ្តស្បូន វដ្តអរម៉ូន ។

① វដ្តអូវែ: រាល់វដ្តនីមួយៗ ត្រូវសំគាល់ដោយមានដំណើរអូវុលដែលចែកចេញជា ២វគ្គ គឺ វគ្គផូលីគុល និង វគ្គលុយតេអ៊ិច ។

② វដ្តស្បូន : រាល់វដ្តនីមួយៗ ត្រូវសំគាល់ដោយបំលាស់ប្តូរនៃភ្នាសសើមស្បូន

③ វដ្តអរម៉ូន : រាល់វដ្តនីមួយ ៗ ត្រូវសំគាល់ដោយការបញ្ចេញអរម៉ូនអ៊ីស្ត្រូសែន និង ប្រូសេស្តេរ៉ូនពីអូវែ ។

❶❷❻ តើនៅក្នុងអូវែ ផូលីគុលទាំងអស់មានលក្ខណៈដូចគ្នា ឬខុសគ្នា ? ចូរបញ្ជាក់អំណះ អំណាងរបស់អ្នក ។

www.facebook.com/7khmer
Fb page : Entertainment And Knowledge

ផ្លូវលឹគុលទាំងអស់ សុទ្ធតែមានលក្ខណៈខុសគ្នាដោយសារទំហំរបស់វា ដែលសំគាល់ទៅលើទំហំទំហាត់នៃអូវ៉ូស៊ីត (កាម៉ែតញី) ការលូតលាស់នៃស្រទាប់កោសិកាផ្លូលីគុលចាប់ពី តិចទៅច្រើន កំនើននៃធាតុរាវផូលីគុល និង កំរាស់តែក ។

❶❷❼ តើចំនួនអូវុល មានប៉ុន្មានចេញពី :

ក- អូវ៉ូកូនីមួយ ?

ខ- អូវ៉ូស៊ីតទី I មួយ ?

គ- អូវ៉ូទីតមួយ ?

ឃ- ពោលិកាប៉ូលមួយ

ក-១ ខ-១ គ-១ ឃ-0

❶❷❽ ចូរសង្ខេបហេតុការណ៍ដែលកើតឡើងក្នុងវដ្តស្បូន ។

ក្នុងវដ្តស្បូន គេសង្កេតឃើញ :

- ក្នុងវគ្គផូលីគុល : ភ្នាសសើមស្បូន ដែលត្រូវបំផ្លាញស្ទើរតែអស់ពេលមានរដូវត្រូវបានបង្កនិងឡើងក្រាសវិញ (1-3mm) ។ ឯក្រពេញរាងបំពង់ក៏លូតលាស់ ។

- ក្នុងវគ្គលុយតេអ៊ិច : ក្រោយដំណើរអូវុល ភ្នាសសើម បន្តរីកចំរើនជាអតិបរមា (5mm) ។ ក្រពេញឡើងរមូលខ្លាំង បញ្ចេញគ្លីកូសែន ធ្វើអោយភ្នាសសើម មានទិដ្ឋភាពដូចធ្មេញរណា ។ បើគ្មានកំណាច់សំបុកនៃអំប្រីយ៉ុងទេ នោះសរសៃឈាមដែល រមូលខ្លាំងត្រូវដាច់លាយឡំជាមួយភ្នាសសើមស្បូនដែលជារដូវរបស់ស្ត្រី ។

www.facebook.com/7khmer
Fb page : Entertainment And Knowledge

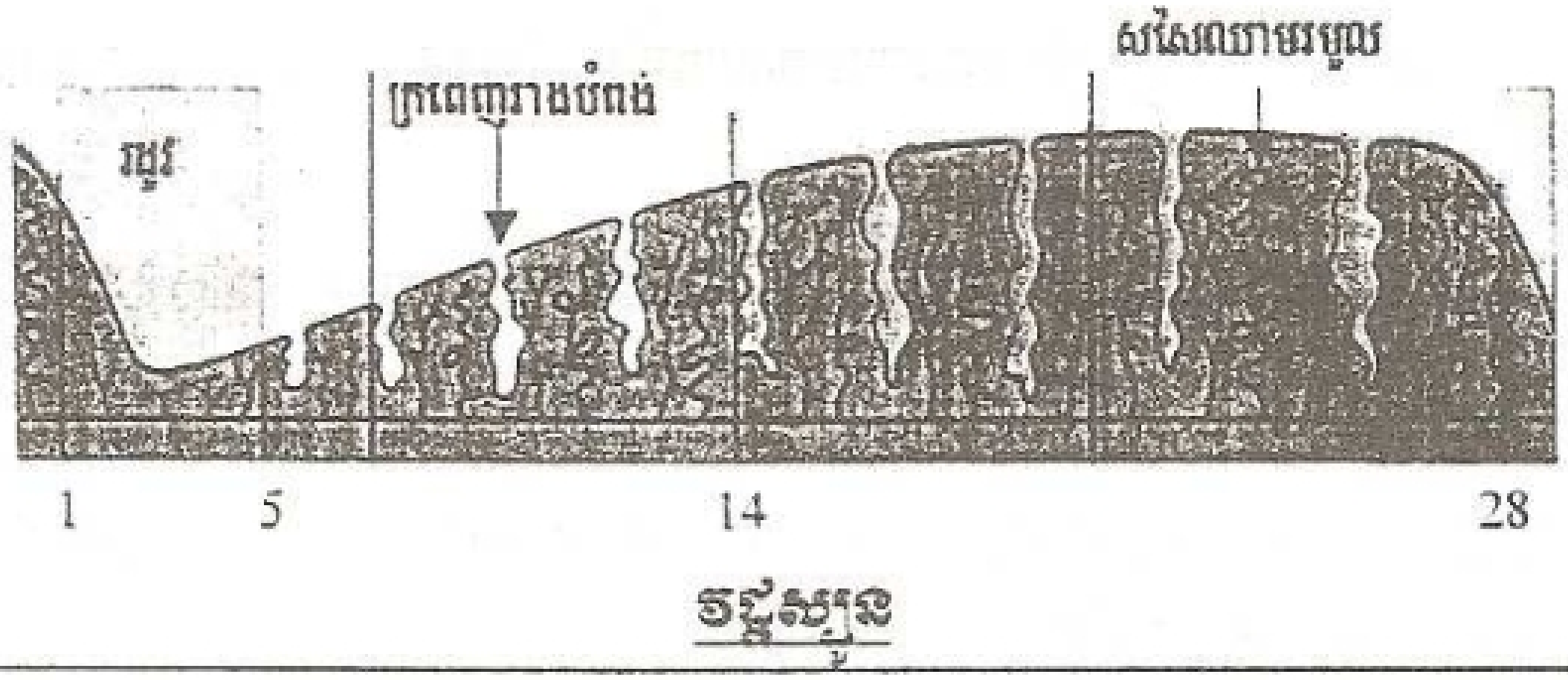

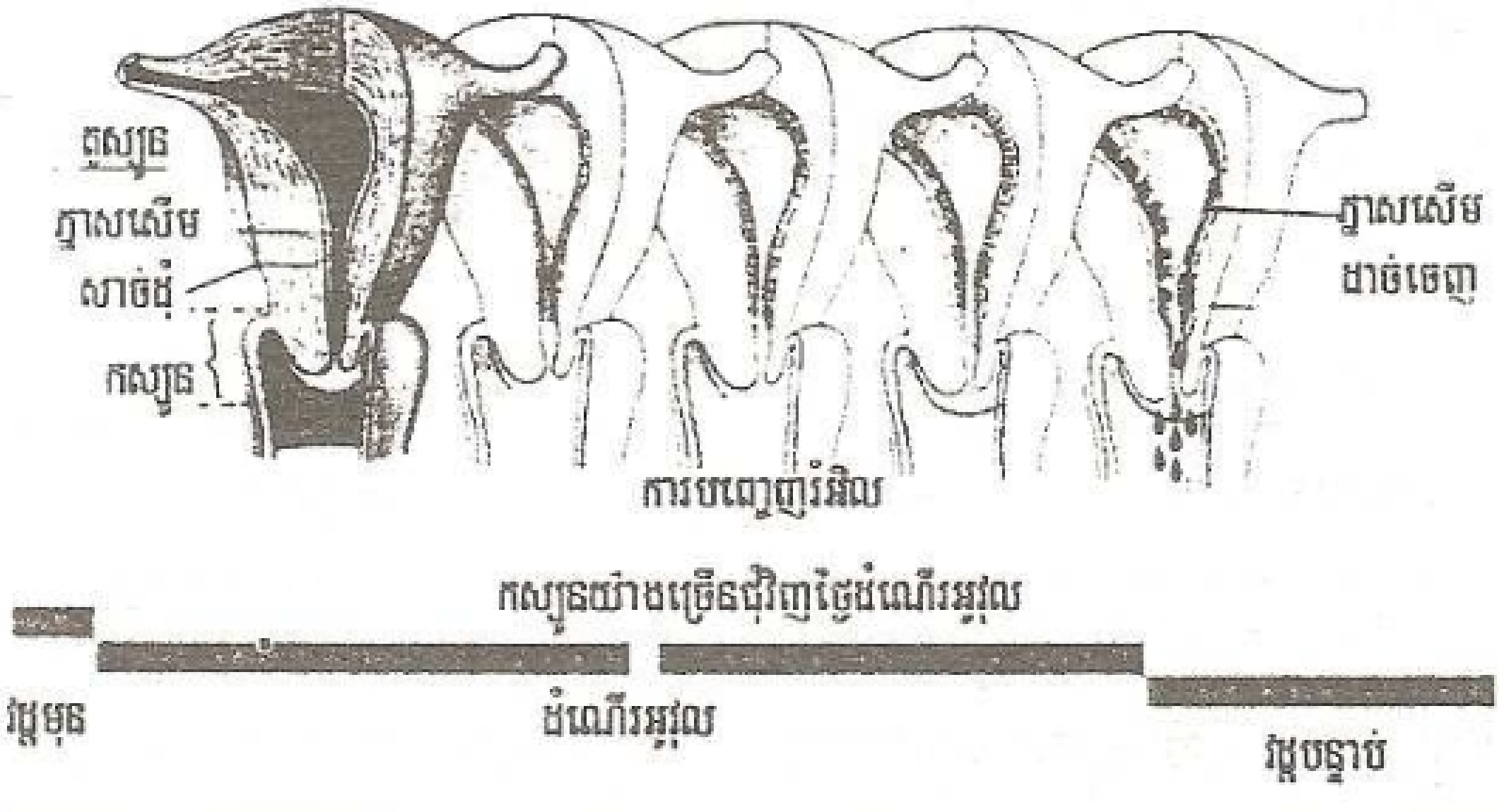

❶❷❾ តើអង្គលឿងវិវត្តន៍ពីអ្វី? វាកើតឡើងយ៉ាងដូចម្ដេច? ហើយវាបាត់ទៅវិញយ៉ាងដូចម្ដេច?

- អង្គលឿងវិវត្តន៍ពីកោសិកាផូលីគុលនៃផូលីគុលដែលផ្ទុះបែក ។

- វាកើតឡើងនៅវគ្គលុយតេអ៊ិច ដោយផូលីគុលដែលផ្ទុះបែក ត្រូវបិទភិតទៅ វិញ ហើយកោសិកាផូលីគុលត្រូវបំលែងជាកោសិកាលុយតេអ៊ិច ដែលមានជាតិលីពីត យ៉ាងច្រើន និងជាតិពណ៌លឿង ។

- វាស្វិតបាត់ទៅវិញនៅចុងវគ្គលុយតេអ៊ិច ដោយបន្សល់ទុកស្នាមស ហើយវដ្តថ្មីក៏ចាប់ផ្តើមទៀត ។

> <u>សំគាល់:</u> ករណីបើមានកំណាច់សំបុកនៃអំប្រ៊ីយ៉ុងនោះអង្គលឿង មិនវិនាសទេវានៅមានរហូតដល់ខែទី ៦ នៃគភ៌ ។

❶❸⓿ តើអង្គលឿងមាននាទីដូចម្តេចខ្លះ ?

អង្គលឿងមាននាទីបញ្ចេញ អរម៉ូនភេទញី ២ យ៉ាង ក្នុងវគ្គលុយតេអ៊ិច :

- អ៊ុស្រ្តាឌីយ៉ូល បន្តិចបន្តួច
- ប្រូសេស្តេរ៉ូនច្រើន

❶❸❶ ហេតុអ្វីបានជាគេហៅលំនាំបំលែងភ្នាសសើមស្បូនថាជាវដ្តរដូវ ?

ពីព្រោះចំពោះមនុស្សស្រី ព្រឹត្តិការណ៍ដែលលេចធ្លោជាងគេក្នុងលំនាំនេះ គឺការមានរដូវ(ជ្រុះដាច់ភ្នាសសើមស្បូននិងធ្លាក់ឈាម) ដែលប្រព្រឹត្តវិលទៅវិលមកដដែលៗក្នុងរយៈពេល ២៨ថ្ងៃម្តង បង្កើតបានជាវដ្ត ។

<u>សំនួរបន្ថែមចំណេះដឹង</u> :

❶❸❷ ចូរនិយាយពីអំពើជីវសាស្ត្រ សំខាន់ៗ នៃអរម៉ូនអ៊ីស្រ្តូសែន ។

www.facebook.com/7khmer
Fb page : Entertainment And Knowledge

+ នៅពេលពេញវ័យ អ៊ីស្ត្រូសែន :

- ធ្វើអោយស្បូន យោនី ក្រពេញឧបសម្ព័ន្ធ រីកចំរើន និង លូតលាស់

- ធ្វើអោយរោមនៅលើប្រដាប់បន្តពូជលូតលាស់

- ធ្វើអោយលេចបន្ថែមនូវលក្ខណៈរូបរាងជាស្រី (រីកចំរើន ក្រពេញដោះ ស្បែកទន់ សំឡេងស្រួយ .....)

+ ក្នុងវដ្តរដូវនីមួយៗ អ៊ីស្ត្រូសែន :

- ធ្វើអោយភ្នាសស្រោមស្បូន និង ភ្នាសយោនីដុះដាលរីកចំរើន

- ធ្វើអោយក្រពេញកស្បូន មានសកម្មភាពបញ្ចេញរំអិលកស្បូន ។

- មានអំពើលើមេតាបូលីស (ខ្លាញ់ស៊ុត លីពីត ទឹក)

សំនួរបន្ថែមចំណេះដឹង :

❶❸❸ ចូរនិយាយពីអំពើជីវសាស្ត្រសំខាន់ៗនៃអរម៉ូនប្រូសេស្តេរ៉ូន ។

ប្រូសេស្តេរ៉ូន :

- ធ្វើអោយភ្នាសស្រោមស្បូនឡើងក្រាស់ដូចធ្មេញរណា

- រំភោចការបញ្ចេញនៃក្រពេញកស្បូន

- ធ្វើអោយកោសិកានៃក្រពេញទឹកដោះដុះដាលរីកចំរើន ។

- ធ្វើអោយសីតុណ្ហភាពក្នុងខ្លួនឡើងខ្ពស់ ។

✱ សំនួរត្រិះរិះ : តើការកាត់អូវែចេញមុនពេលគ្រប់ការ និង ក្រោយពេលគ្រប់ការផ្តល់នូវផលវិបាកយ៉ាងណាខ្លះ ?

www.facebook.com/7khmer
Fb page : Entertainment And Knowledge

❶❸❹ ស្ត្រី ២នាក់ តែវ និង ការ៉ូលីន មានរដូវដំណាលគ្នា គឺថ្ងៃទី ១៥ មេសា ។ តែវ មានវដ្តរដូវខ្លីគឺ ២២ ថ្ងៃ ការ៉ូលីនមានវដ្តរដូវវែង ៣០ ថ្ងៃ ។

1^0 - ចូរបញ្ជាក់ថ្ងៃដែលមានអូវុលធ្លាក់ និង មានរដូវក្នុងវដ្តបន្ទាប់ចំពោះស្ត្រី ម្នាក់ៗ។ (វគ្គលុយតេអ៊ីន មានរយៈពេល ១៤ ថ្ងៃ ទោះបីជាវដ្តវែងឬខ្លីក៏ដោយ)

2^0 - ចូរតំណាងវគ្គនីមួយៗ នៅលើបន្ទាត់ត្រង់មួយដោយកំណត់ថ្ងៃមានរដូវ និងថ្ងៃមានដំណើរអូវុល (0.5cm =2 ថ្ងៃ) ។

1^0) ចំពោះតែវ :

- ដំណើរអូវុល : ថ្ងៃទី ២៣ មេសា ។
- ថ្ងៃមានរដូវនៅវដ្តបន្ទាប់ ៧ឧសភា ។

ចំពោះការ៉ូលីន :

- ដំណើរអូវុល : ថ្ងៃទី ១ ឧសភា
- រដូវនៅវដ្តបន្ទាប់ : ថ្ងៃទី ១៥ ឧសភា ។

2^0 - គំនូសបំព្រួញ : (0.5cm សំរាប់ 2 ថ្ងៃ)

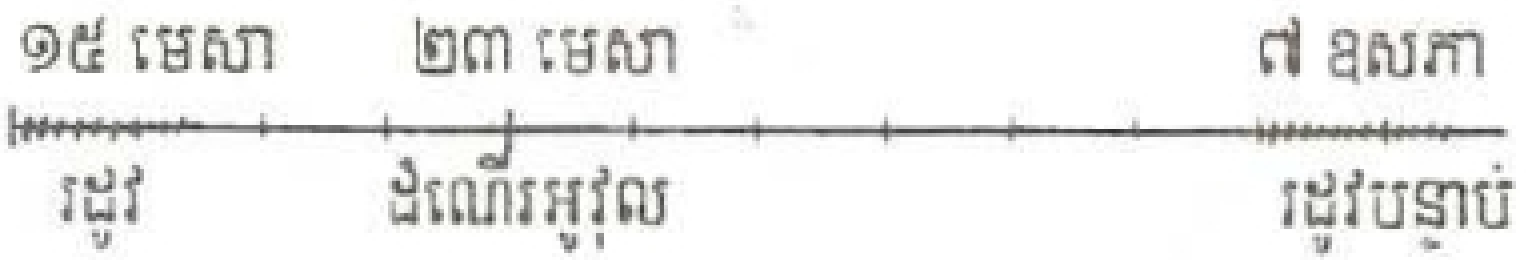



❶❸❺ ដូចម្ដេចដែលហៅថា "ការបង្កកំណើត" ? ចំពោះមនុស្សតើការបង្កកំណើតប្រព្រឹត្តទៅនៅឯណា ?

+ <u>ការបង្កកំណើត</u> : មើលក្នុងសៀវភៅពន្យល់ពាក្យទំព័រ ១

+ <u>ចំពោះមនុស្ស</u> : ការបង្កកំណើតប្រព្រឹត្តទៅនៅក្នុងអំពូលនៃដៃស្បូន ក្បែរអូវែប្រហែល 1/3 ពីមាត់ប្រមោយដៃស្បូន ។

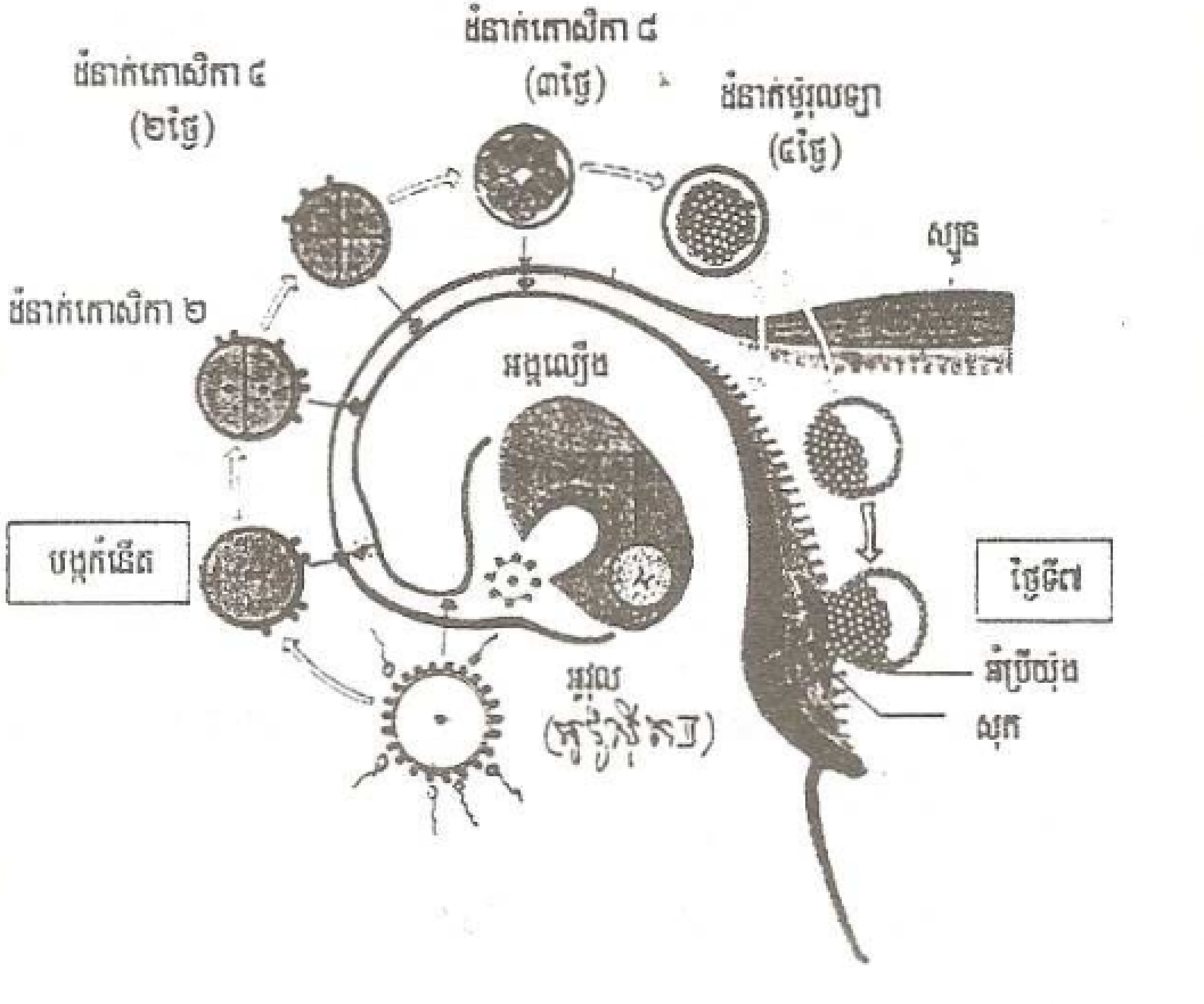

❶❸❻ តើការបង្កកំណើតរបស់មនុស្ស មានប៉ុន្មានដំណាក់ ? ចូរសង្ខេបដំណាក់ទីមួយៗ ។

ការបង្កកំណើត មាន-៣ ដំណាក់កាល :

១- ការឆ្លងកាត់ស្រោមអូវុល : ពេលដែលស្ពែម៉ាតូសូអ៊ីត ជួបកោសិកាផូលីគុលដែលរុំព័ទ្ធជុំវិញអូវ៉ូស៊ីត វាធ្វើអោយកោសិកានេះរួញលិប ។នេះជាហេតុធ្វើឱ្យ ស្ពែម៉ាតូសូអ៊ីតខិតទៅជិតអូវ៉ូស៊ីត រួចវាចោះតំបន់ប៉េលុយស៊ីតក្រោមអំពើ ២ : អង់ស៊ីមបញ្ចេញ ដោយអាក្រូសូម និង កំលាំងរុញរបស់កន្ទុយ ។

២- ការចូលនៃស្ពែម៉ាតូសូអ៊ីត និង ប្រតិកម្មរបស់អូវ៉ូស៊ីត :

ការជ្រៀតចូលនៃស្ពែម៉ាតូសូអ៊ីត ធ្វើអោយមានបាតុភូត ២ កើតឡើង :

- ការរំដោះចេញនៃបន្ទុកគ្រាប់តូចៗ ទៅក្នុងលំហាចន្លោះអូវ៉ូស៊ីតនិងតំបន់ប៉េលុយ ស៊ីតដោយបង្កបានជាភ្នាសបង្កកំណើតមួយ សំរាប់រាំងការចូលនៃស្ពែម៉ាតូសូអ៊ីតផ្សេងទៀត ។

- អូវ៉ូស៊ីត II បន្តចំណែកទី 2 រហូតដល់ចប់ក្លាយជាអូវ៉ូទីត (→ អូវុល) ។

៣- ការរលាយណ្វៃយ៉ូ : ណ្វៃយ៉ូកាម៉េតញីឈ្មោល ឡើងប៉ោងក្លាយជាប្រូនុយក្លេអូសញីឈ្មោល ហើយវារលាយចូលគ្នា បានជាណ្វៃយ៉ូស៊ីត ។ បន្ទាប់មកស៊ីតចែក តាមមីតូសបានជាកោសិកាដំបូង ២ នៃអំប្រីយ៉ុង ។

(ទំព័រ ៨១)

www.facebook.com/7khmer
Fb page : Entertainment And Knowledge

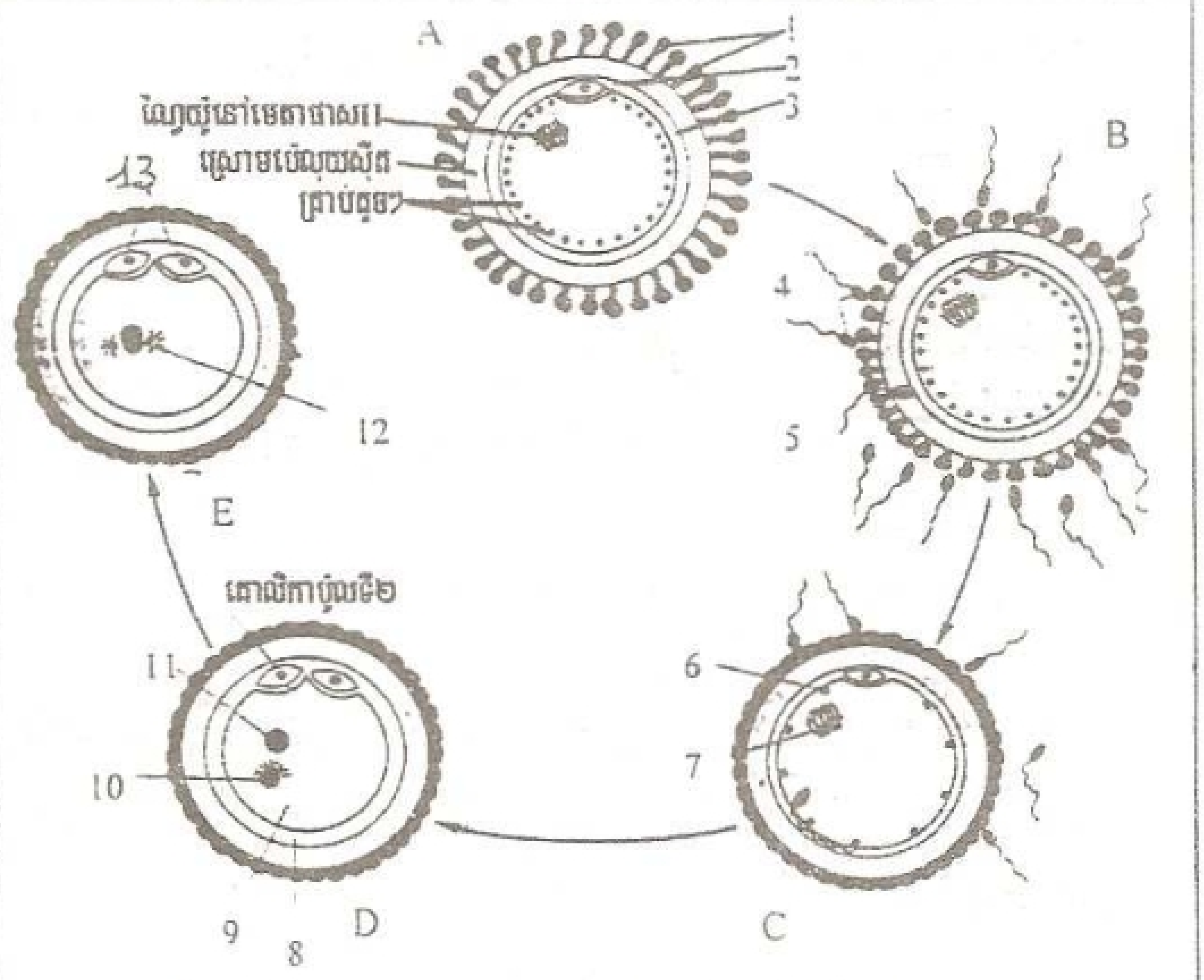

១- កោសិកាផូលីគុល

២- ពោលិកាប៉ូលទី ១

៣- លំហជុំវិញអូវ៉ូស៊ីត

៤- ស្ពែម៉ាតូសូអ៊ីតជួបកោសិកាផូលីគុល ធ្វើអោយវារូញលិប

៥- ស្ពែម៉ាតូសូអ៊ីតជ្រៀតចូល ក្នុងប៉េលុយស៊ីត

៦- គ្រាប់តូចៗបញ្ចេញសារធាតុ ទៅក្នុងលំហជុំវិញអូវ៉ូស៊ីត

៧- ណៃយ៉ូនៅអាណាផាស II

៨- ភ្នាសបង្កកំណើត

៩- ស៊ីតូប្លាសអូវ៉ូស៊ីតទៅជាអូវុល ដែលរួមតូច

១០- ប្រូនុយក្លេអូសឈ្មោល

១១- ប្រូនុយក្លេអូសញី

១២- ណៃយ៉ូស៊ីត

១៣- ពោលិកាប៉ូលទី១ និងទី២

www.facebook.com/7khmer
Fb page : Entertainment And Knowledge

❶❸❼ តើស្ពែម៉ាតូស្សូអ៊ីត ចោះតំបន់ប៉េលុយស៊ីតក្រោមអំពើអ្វីខ្លះ ?

\+ ក្រោមអំពើពីរ :

\- អង់ស៊ីមបញ្ចេញដោយអាក្រូសូម (acrosome)

\- កំលាំងជំរុញរបស់កន្ទុយស្ពែម៉ាតូស្សូអ៊ីត

❶❸❽ តើការជ្រៀតចូលនៃស្ពែម៉ាតូស្សូអ៊ីត ទៅក្នុងស៊ីតូប្លាសរបស់អូវ៉ូស៊ីត ធ្វើអោយមាន បាតុភូតអ្វីខ្លះកើតឡើង ?

ធ្វើអោយមានបាតុភូតពីរកើតឡើង :

\- ការរំដោះចេញនៃបន្ទុក របស់គ្រាប់តូចៗទៅក្នុងលំហ ដែលស្ថិតនៅចន្លោះ អូវ៉ូស៊ីត និងប៉េលុយស៊ីត ។ សារធាតុរំដោះចេញ បង្កបានជាភ្នាសបង្កកំណើតមួយ ដែលរាំងការចូលរបស់ស្ពែម៉ាតូស្សូអ៊ីតផ្សេងទៀត ។

\- អូវ៉ូស៊ីត II បន្តធ្វើចំណែកទី ២ នៃមេយ៉ូស ។

❶❸❾ ក្នុងពេលណាទើបណ្វៃយ៉ូនៃកាម៉ែតញី ឈ្មោល ក្លាយទៅជាប្រូនុយក្លេអូសញី ឈ្មោល ?

\- ណ្វៃយ៉ូនៃកាម៉ែតញីឈ្មោល ក្លាយជាប្រូនុយក្លេអូសញីឈ្មោល នៅពេលវាឡើងប៉ោងខ្លាំងមុននឹងរលាយចូលគ្នាទៅជាណ្វៃយ៉ូស៊ីកូត ។

❶❹⓿ តើការបង្កកំណើត ត្រូវបានបញ្ចប់នៅពេលណា ?

www.facebook.com/7khmer
Fb page : Entertainment And Knowledge

បញ្ចប់ នៅពេលប្រូនុយក្លេអ៊ូសញីឈ្មោលទាំងពីរ រួមគ្នាជាណ្វៃយ៉ូតែមួយ គឺ អូវុលក្លាយជាស៊ុត ។

141

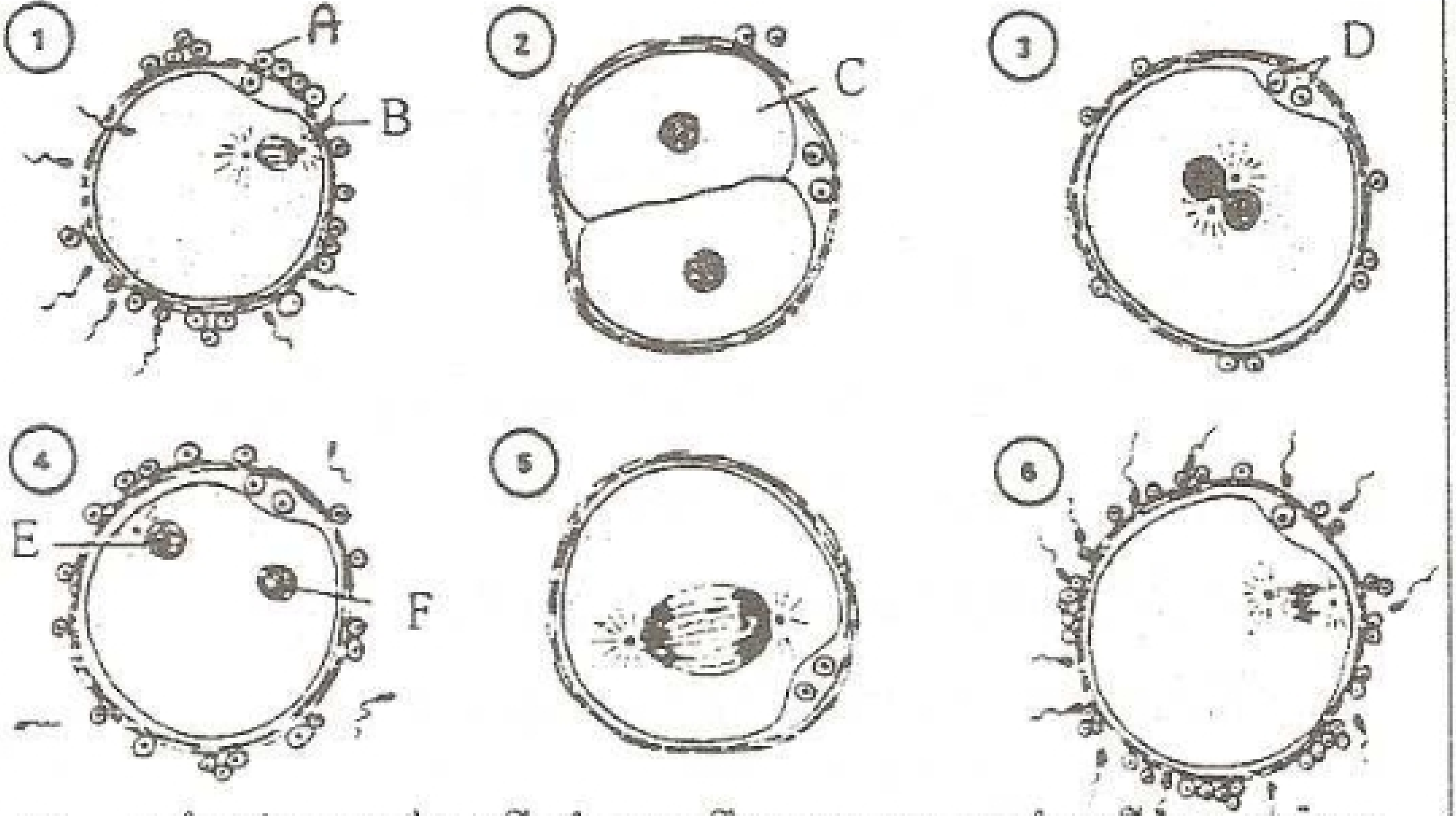

1°)- ចូរកំណត់បាតុភូតដែលកើតចំពោះរូបនីមួយៗ ដោយមានជំនួយពីចំនួន ក្រូម៉ូសូម នៃកោសិកានីមួយៗ (រូប A=44. B=22. C=44. D=22. E=22. F=22)

2°) - ចូររៀបតាមលំដាប់នៃបាតុភូតដែលបានសង្កេតឃើញ ។

1°) ① ស្ពែម៉ាតូសូអ៊ីត ចូលក្នុងអូវ៉ូស៊ីត II អូវ៉ូស៊ីត II បន្តធ្វើមេយ៉ូស ។

② កោសិកាកូន២ កើតពីស៊ីកូត ធ្វើមីតូស ១ ដង ។

③ ការរលាយចូលគ្នានៃប្រូនុយក្លេអ៊ូសញីឈ្មោល ។

④ ណ្វៃយ៉ូកាម៉េតញី កើតឡើងវិញ គោលិកាប៉ូលទី ២ កើតឡើង ណ្វៃយ៉ូកាម៉េតញីឈ្មោលឡើងប៉ោងជាប្រូនុយក្លេអូស ។

www.facebook.com/7khmer
Fb page : Entertainment And Knowledge

⑤ ស៊ីកូតផ្ដើមធ្វើមីតូស លើកទី ១

⑥ អូវ៉ូស៊ីត II ស្ថិតនៅដាំងក្នុង មេតាផាស II រ៉ុព័ទ្ធដោយស្ពែម៉ាតូសូអ៊ីត ។

2) រៀបតាមលំដាប់នៃបាតុភូត :

6 → 1 → 4 → 3 → 5 → 2 ។

សំនួរដកស្រង់ពីសៀវភៅក្រសួងអប់រំ :

១- តើកំនកាម៉េតកើតនៅទីណា ក្នុងសារពាង្គកាយសត្វ ?

២- តើស្ពែម៉ាតូស៊ីត I នីមួយ១ ផលិតបានជាស្ពែម៉ាតូសូអ៊ីតប៉ុន្មាន ? តើអូវុល ចំនួនប៉ុន្មានដែលត្រូវផលិតចេញពីអូវ៉ូស៊ីត I នីមួយ ១ ?

៣- ហេតុអ្វីបានជាអូវុលនៃសារពាង្គកាយមនុស្សស្រីមានកំណត់ ?

៤- ពន្យល់ពីដំណាក់ផ្សេង១ នៃការបង្កកំណើតរបស់មនុស្ស ។

<u>ចំលើយ</u> :

១- កំនកាម៉េតឈ្មោល កើតនៅក្នុងពងស្វាស ឯកំនកាម៉េតញីកើតនៅក្នុងអូវែ ។

២- ស្ពែម៉ាតូស៊ីត I នីមួយ១ ផលិតបានស្ពែម៉ាតូសូអ៊ីត 4 ។

- អូវ៉ូស៊ីត I នីមួយ ១ ផលិតបានអូវុល (។

៣- ចំនួនអូវុលនៃសារពាង្គកាយ មនុស្សស្រី មានកំណត់ព្រោះមានតែអូវ៉ូស៊ីត ចំនួន 400 ទៅ 450 ប៉ុណ្ណោះ ដែលបន្តការវិវត្តន៍នៅក្នុង 400 ទៅ 450 វដ្តជីវិតបន្តពូជ ក្នុងចន្លោះភាពគ្រប់ការ និង ភាពអស់រដូវ ។

៤- ដំណាក់ផ្សេង១ នៃការបង្កកំណើតរបស់មនុស្ស :

(មើលចំលើយសំនួរទី 136) ។

www.facebook.com/7khmer
Fb page : Entertainment And Knowledge

មេរៀនទី ៣ : ការបន្តពូជដោយភេទរបស់រុក្ខជាតិ

La reproduction sexuée des végétaux

142. តើការឆ្លាស់គ្នានៃកំណើតរបស់រុក្ខជាតិប្រព្រឹត្តទៅដោយឆ្លងកាត់វគ្គអ្វីខ្លះ? ចូរប្រាប់ពី ដំណាក់កាលចាប់ផ្តើម និង ដំណាក់កាលបញ្ចប់របស់វគ្គនីមួយៗ ។

ការឆ្លាស់គ្នានៃកំណើត ឆ្លងកាត់២វគ្គៈ ឌីប្លូផាស និង អាប្លូផាស ។

ឌីប្លូផាស : ចាប់ ផ្តើមពីការបង្កកំណើត(ពីស៊ីកូត) រហូតដល់មេយ៉ូស(កំនស្ប៉) ។

អាប្លូផាសៈ ចាប់ផ្តើមពីកំនស្ប៉ រហូតដល់ការបង្កកំណើត ។

143. តើទំរង់រុក្ខជាតិដែលផលិតកាម៉េត ហៅថាអ្វី? ក្នុងដំណាក់កាលនេះ កោសិកា រុក្ខជាតិមានចំនួនក្រូម៉ូសូមដូចម្តេច?

+ ហៅថាកាម៉េតូភីត ។
+ កោសិកាទាំងអស់នៃកាម៉េតូភីត មានក្រូម៉ូសូមជាចំនួនអាប្លូអ៊ីត (n) ។

144. តើទំរង់រុក្ខជាតិដែលផលិតស្ប៉ ហៅថាអ្វី? ក្នុងដំណាក់កាលនេះ កោសិការុក្ខជាតិ មានចំនួនក្រូម៉ូសូមដូចម្តេច?

+ ហៅថាស្ប៉ូរ៉ូភីត ។
+ កោសិកាទាំងអស់នៃស្ប៉ូរ៉ូភីត មានក្រូម៉ូសូមជាចំនួនឌីប្លូអ៊ីត (2n) ។

www.facebook.com/7khmer
Fb page : Entertainment And Knowledge

១៤៥ ហេតុដូចម្ដេច បានជាគេថា កាម៉េតូភីតជាទំរង់រុក្ខជាតិអាប្លូអ៊ីត? ឯ ស្ប៉ូរ៉ូភីត ជាទំរង់រុក្ខជាតិឌីប្លូអ៊ីត?

+ គេថាកាម៉េតូភីត ជាទំរង់រុក្ខជាតិអាប្លូអ៊ីតពីព្រោះកាម៉េតូភីត លូតលាស់ពីស្ប៉ដែលជាកោសិកាកើតពីមេយ៉ូស គឺវាមានក្រូម៉ូសូមជាចំនួនអាប្លូអ៊ីត ។

+ គេថាស្ប៉ូរ៉ូភីតជាទំរង់រុក្ខជាតិឌីប្លូអ៊ីត ពីព្រោះវាលូតលាស់ពីស៊ីកូតដែលជាកោសិកាមានក្រូម៉ូសូម (2n) ។

១៤៦. ហេតុដូចម្ដេច បានជាស្ប៉ទាំងឡាយលូតលាស់តាមមីតូស ផ្ដល់ជាកាម៉េតូភីត ដែលជាពហុកោសិកាអាប្លូអ៊ីត ?

ពីព្រោះ មីតូសជាចលនការរ៉ាប់រងនូវដំណុះដាលកោសិកា និង ចំនួនក្រូម៉ូសូមឱ្យនៅដដែល ។ ដូច្នេះ ស្ប៉ដែលជាកោសិកាអាប្លូអ៊ីត ក្រោយពីមីតូសវាត្រូវផ្ដល់ជាកាម៉េតូភីតពហុកោសិកាដោយមានក្រូម៉ូសូមអាប្លូអ៊ីតដូចកោសិកាដើម ។

១៤៧. តើការឆ្លាស់គ្នានៃកំនើតស្ប៉ូរ៉ូភីត និង កាម៉េតូភីតកើតមានចំពោះរុក្ខជាតិមានផ្កាដែរ ឬ ទេ ? ចូរបញ្ជាក់ការអះអាង ។

ការឆ្លាស់គ្នានៃកំនើតក៏កើតមានចំពោះរុក្ខជាតិមានផ្កាដែរ ពីព្រោះ យើងសង្កេត ឃើញៈ

-គ្រាប់លំអងនៃកេសរឈ្មោល និងថង់កំនៃកេសរញី ជាកាម៉េតូភីតដែលបង្កើត កាម៉េត ។

-ប្លោកលំអងនៃកេសរឈ្មោល និង អូវ៉ែនៃកេសរញី ជាស្ប៉ូរ៉ូភីតដែលបង្កើតស្ប៉អាប្លូអ៊ីត ។

១៤៨. តើកាម៉េតូភីតរបស់អ៊ុលវ៉ា ជាអ្វី? ហើយស្ប៉ូរ៉ូភីតរបស់អ៊ុលវ៉ាជាអ្វី ?

+ កាម៉េតូភីតរបស់អ៊ុលវ៉ាជាគល់ 2បែបរាងដូចស្លឹក ។ វាជាពហុកោសិកាអាប្លូអ៊ីត ដែលខុសគ្នាបន្តិច ដោយពណ៌នៅលើគែមស្លឹករបស់គល់ឈ្មោលពណ៌បៃតង លឿង ឯគែមរបស់ គល់ញីពណ៌បៃតងចាស់

+ ស្ប៉ូរ៉ូភីតរបស់អ៊ុលវ៉ា ជាគល់ឥតភេទរាងដូចស្លឹកដែលជាពហុកោសិកាឌីប្លូអ៊ីត ។

១៤៩ តើសរីរាង្គបន្តពូជឈ្មោលរបស់អង់ស្យូស្ពែមគឺជាអ្វី ? ចូរនិយាយពីសរីរាង្គនេះ ។

សរីរាង្គបន្តពូជឈ្មោលរបស់អង់ស្យូស្ពែមគឺជាកញ្ចុំកេសរឈ្មោល ។

វាមាន២ផ្នែក : ផ្នែកទី1 មានរាងជាសរសៃឆ្មារហៅថាទងកេសរឈ្មោល និងផ្នែកទី 2 ដែលមានទំរង់ជាថង់ ហៅថា ថ្នោកលំអង ដែលស្ថិតនៅខាងចុងនៃទងកេសរ-ឈ្មោល ។ គ្រាប់លំអងត្រូវផលិតនៅក្នុងថ្នោកលំអង ។ ផ្កាមួយអាចមានកេសរឈ្មោល1 ឬច្រើន ។

១៥០. តើសរីរាង្គបន្តពូជញីរបស់អង់ស្យូស្ពែមគឺជាអ្វី? ចូរនិយាយពីសរីរាង្គនេះ ។

សរីរាង្គបន្តពូជញីរបស់អង់ស្យូស្ពែម គឺជាកញ្ចុំកេសរញី ។ វាមាន៣ផ្នែក:

- ផ្នែកកំពូលគឺស្ទិចម៉ាតដែលមានទំហំធំបន្តិច និងមានសភាពស្អិត១សំរាប់ទទួលលំអង ។

-ជើងទំររបស់ស្ទិចម៉ាតគឺករកេសរញី ។

www.facebook.com/7khmer
Fb page : Entertainment And Knowledge

-ផ្នែកបាតនៃកញ្ចុំកេសរញីគឺ អូវែ ដែលមានអូវុលមួយ រឺ ច្រើន ។អូវែលូតលាស់ទៅជាគ្រាប់ ។ ផ្កាមួយអាចមានកេសរញីមួយ ឬ ច្រើន ។

151. តើកំនគ្រាប់លំអង ប្រព្រឹត្តទៅនៅឯណា? ហើយប្រព្រឹត្តទៅយ៉ាងដូចម្តេច?

+ ប្រព្រឹត្តទៅក្នុងថ្នោកលំអងនៃកេសរឈ្មោល

+ <u>ដំណើរកំនគ្រាប់លំអង</u> : ដំបូងកោសិកាមេនីមួយៗដែលមាន2n ក្រូម៉ូសូម ចែកខ្លួនតាមមេយ៉ូសដោយផ្តល់ជាកោសិកាអាប្លូអ៊ីត4 (មីក្រូស្ប៉) ។ បន្ទាប់មកកោសិកា អាប្លូអ៊ីតនីមួយៗ ធ្វើចំណែកតាមមីតូសម្តង ដូច្នេះកោសិកាមួយៗ ត្រូវមានណ្វៃយ៉ូ2 (ណ្វៃយ៉ូលូតលាស់ និង ណ្វៃយ៉ូបន្តពូជ) ដែលមានភ្នាស២ស្រទាប់ព័ទ្ធជុំវិញ វាជាគ្រាប់លំអង ។

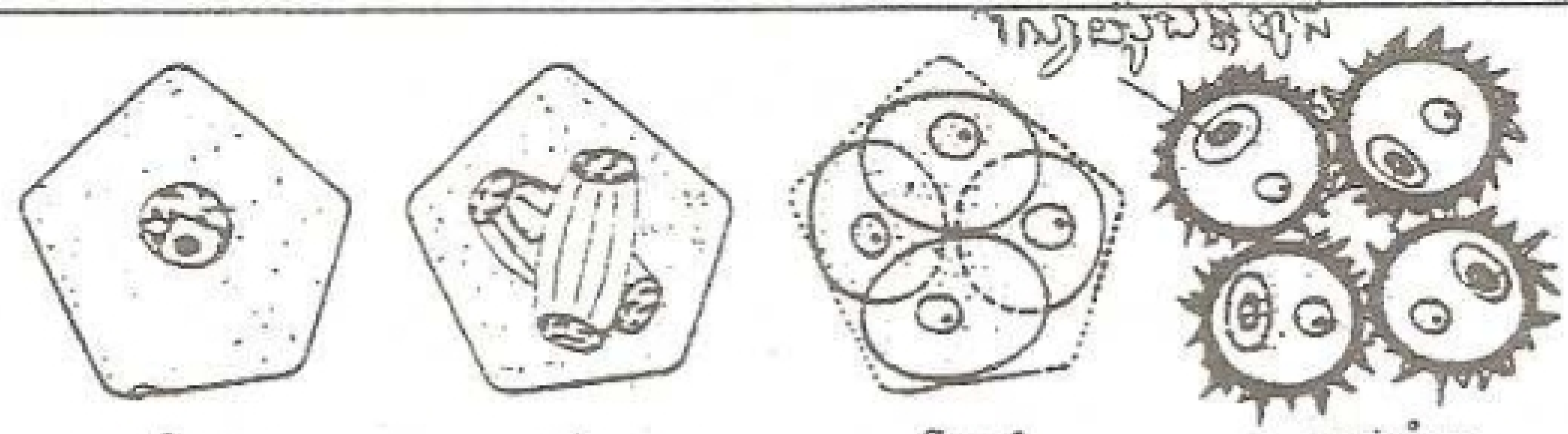

កោសិកាមេ មេយ៉ូស មីក្រូស្ប៉ គ្រាប់លំអង

152. គេថាគ្រាប់លំអងមិនមែនជាកាម៉េតឈ្មោលទេ ។ តើពិត ឬទេ ?
ចូរបញ្ជាក់ ការអះអាងរបស់អ្នក ។

ជាការពិត ។ ពីព្រោះតាមពិត គ្រាប់លំអងជាអ្នកបង្កើតកាម៉េត ។ គ្រាប់លំអងជាកោសិកាដែលមានណ្វៃយ៉ូអាប្លូអ៊ីត 2 ។ ណ្វៃយ៉ូមួយជាណ្វៃយ៉ូលូតលាស់ វាជាអ្នកនាំ

www.facebook.com/7khmer
Fb page : Entertainment And Knowledge

ដំណើរលូតលាស់នៃបំពង់លំអង ដែលចាក់ចូលរហូតដល់អូវុល ។ ឯណ្វៃយ៉ូមួយទៀតជាណ្វៃយ៉ូបន្តពូជ វាចែកខ្លួនជា២តាមមីតូសដោយផ្តល់ជាស្ពែម៉ាតូសូអ៊ីតពីរ ។

153. ចំពោះរុក្ខជាតិ តើអូវុលជាកាម៉ែតញី ឬ ទេ? ចូរបញ្ជាក់ការអះអាង ។

- អូវុលមិនមែនជាកាម៉ែតញីទេ ។
- វាជាទំរង់ពហុកោសិកាដែលផ្ទុកកោសិកាមេ 1 ។ កោសិកាមេនេះ រងមេយ៉ូស និង មីតូស ដើម្បីបង្កើតជាថង់កំន ។ នៅក្នុងថង់កំននេះទើបមានកាម៉ែតញី ។

154. តើថង់កំន និង កាម៉ែតញី កើតឡើងដូចម្តេច ?

កោសិកាមេមួយនៃអូវុលចែកខ្លួនតាមមេយ៉ូស បានស្ប៉ែអាប៉ូអ៊ិត 4 ។ ប៉ុន្តែស្ប៉ែ 3 ត្រូវងាប់ ។ ឯស្ប៉ែមួយទៀត(មេកាស្ប៉ែ)ចែកខ្លួនតាមមីតូស 3ដងបន្តបន្ទាប់ ។ លទ្ធផលផ្តល់ជាថង់កំនមួយដែលមានកោសិកា7 តែមានណ្វៃយ៉ូ8 ។ ណ្វៃយ៉ូ 2 ស្ថិតក្នុង កោសិការាងធំមួយនៅកណ្តាលថង់កំន ។ ឯកោសិកាបន្តពូជញីគឺ អូស្វ៊ែរ ស្ថិតនៅជិតមីក្រូពីលកណ្តាល កោសិកា២ទៀត (ស៊ីណែស៊ីត)ឯកោសិកា 3 ផ្សេងទៀត(អង់ទីប៉ូត) ស្ថិតនៅឈមម្ខាងទៀត នៃថង់កំន(ថង់អំប្រីយ៉ុង) ។

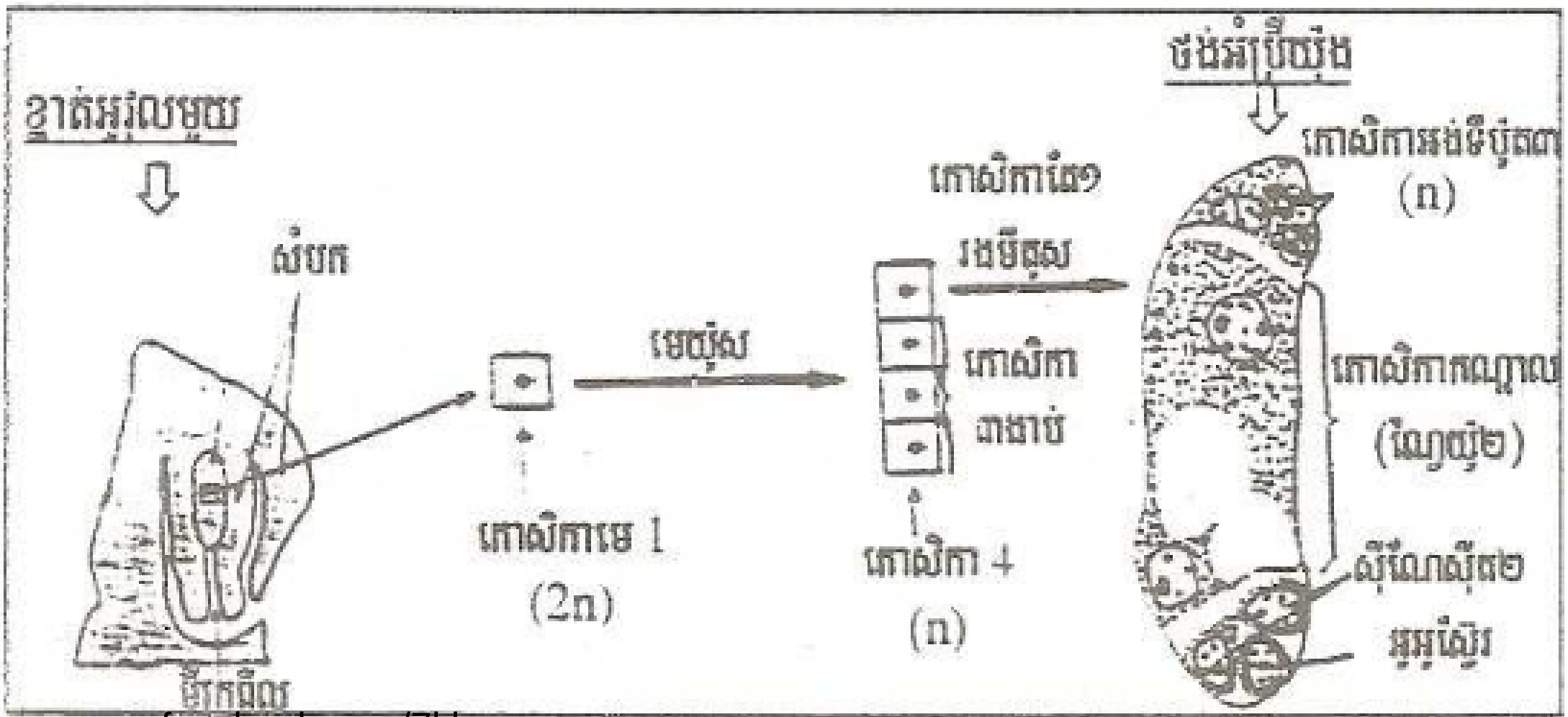

www.facebook.com/7khmer
Fb page : Entertainment And Knowledge

១៥៥. តើការបង្កកំណើតរបស់រុក្ខជាតិមានផ្កាមានលក្ខណៈ ពិសេសដូចម្តេច ? ចូរបង្ហាញ ?

+ ពិសេសត្រង់ការបង្កកំណើតរុក្ខជាតិជា ការបង្កកំណើតទ្វេ :

+ ពេលដែលស្ពែម៉ាតូសូអ៊ីតទាំង2 ធ្វើដំណើរតាមបំពង់លំអង ចូលទៅក្នុងថង់កំនះ

- ស្ពែម៉ាតូសូអ៊ីតមួយ រលាយជាមួយអូអូស្វ៊ែរ n ផ្តល់ជាស៊ីកូតឌីប្លូអ៊ីត (2n) ដែល នឹងលូតលាស់ជាអំប្រីយ៉ុង ។
- ស្ពែម៉ាតូសូអ៊ីត1 ទៀត រលាយជាមួយណ្វៃយ៉ូប៉ូលែរ ដោយផ្តល់ជាម៉ាស កោសិកាមួយដែលផ្ទុកអាហារបំរុង :ជាអាល់ប៊ុយមែន(ទ្រីប្លូអ៊ីត(3n)) ។

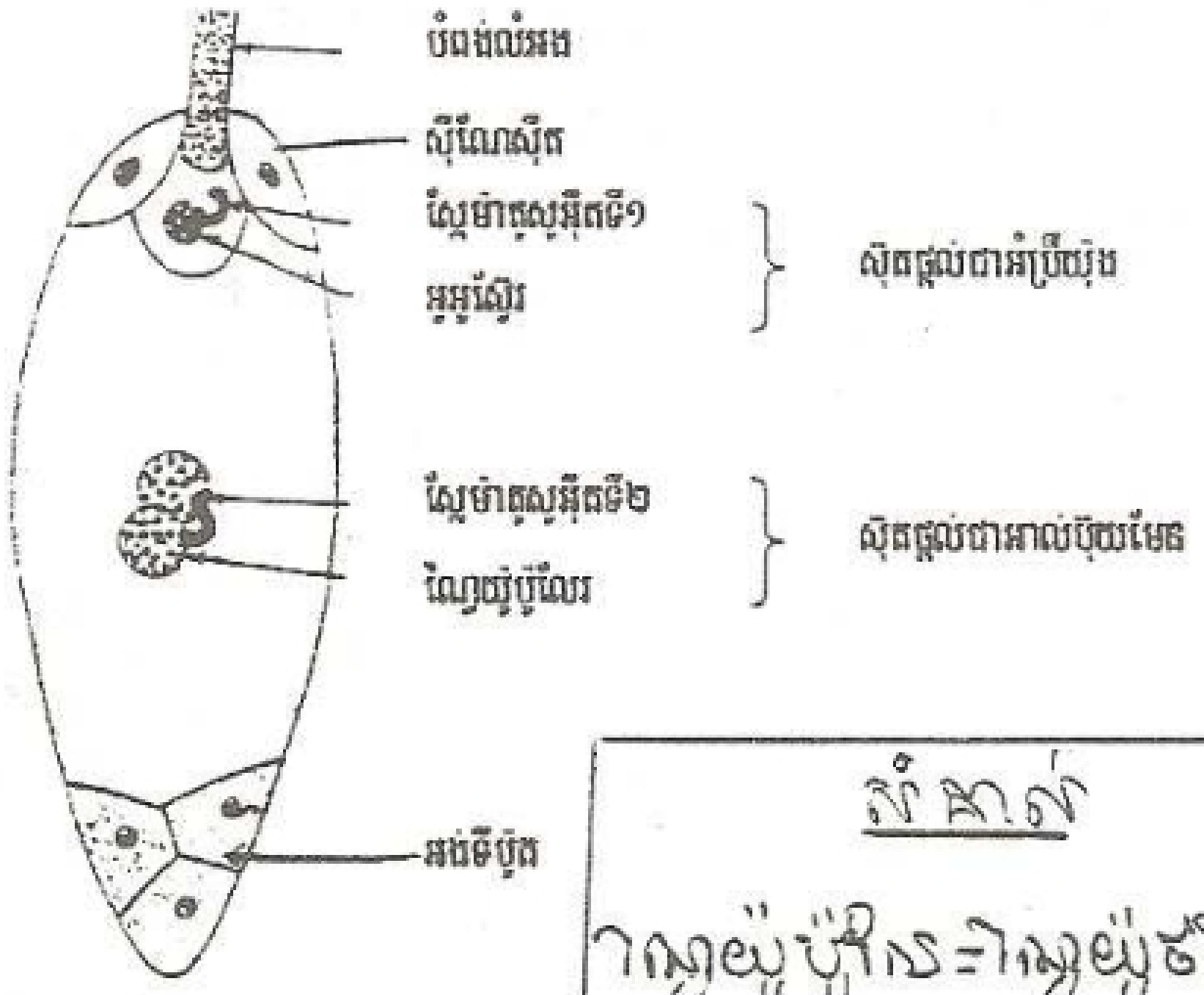

សំគាល់

ណ្វៃយ៉ូប៉ូលែរ=ណ្វៃយ៉ូថង់កំន

១៥៦. ដូចម្តេចដែលហៅថា: ការបង្កកំនើតទ្វេ ? តើនៅពេលណា ទើបការបង្កកំនើតនៅ ក្នុងផ្កាអាចកើតមានឡើង ?

+ ការបង្កកំនើតទ្វេ ជាការបង្កកំនើតរបស់រុក្ខជាតិដែលកើតមានឡើងរវាងស្ពែម៉ាតូសូអ៊ីតៈ ជាមួយអូអូស្វ៊ែ និងស្ពែម៉ាតូសូអ៊ីតៈ ទៀត ជាមួយណ្វៃយ៉ូប៉ូលែរ ។

+ការបង្កកំនើតនៅក្នុងផ្កា អាចកើតមានឡើងនៅពេលស្ពែម៉ាតូសូអ៊ីត ចូលក្នុងថង់អំប្រីយ៉ុង ។

១៥៧. តើស្ពែម៉ាតូសូអ៊ីត ចូលដល់អូអូស្វ៊ែរ តាមរយៈអ្វី?

តាមរយៈបំពង់លំអងនៃគ្រាប់លំអងដែលដុះពន្លកដើម្បីពន្លូតខ្លួនចូលដល់អូវុល ។

១៥៨. តើអំប្រីយ៉ុងរុក្ខជាតិ លូតលាស់ពីអ្វី? ហើយតើអាល់ប៊ុយមែននៃគ្រាប់រុក្ខជាតិកើត ឡើងពីអ្វី?

+ អំប្រីយ៉ុងរុក្ខជាតិលូតលាស់ពីស៊ីកូតដែលកើតពីស្ពែម៉ាតូសូអ៊ីតបង្កកំនើតជាមួយអូអូស្វ៊ែរ ។

+ អាល់ប៊ុយមែននៃគ្រាប់រុក្ខជាតិកើតចេញពីស៊ីកូតដែលបានពីស្ពែម៉ាតូសូអ៊ីត បង្កកំនើតជាមួយណ្វៃយ៉ូប៉ូលែរ ។

www.facebook.com/7khmer
Fb page : Entertainment And Knowledge

159

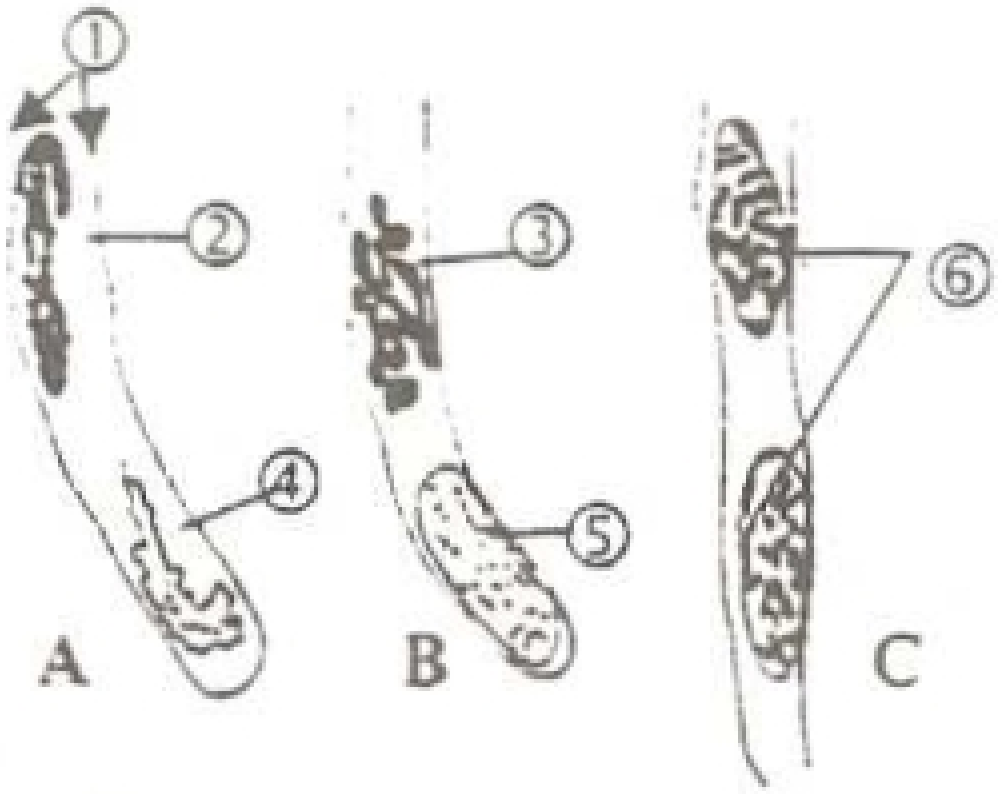

នេះជាផ្នែកខាងចុងនៃបំពង់លំអង ។ ចូរដាក់ឈ្មោះអោយបានត្រឹមត្រូវក្នុងរូបទីមួយៗ និងរៀបចំឡើងវិញនូវគំនូសបំប្រួញនេះអោយបានត្រឹមត្រូវតាមលំដាប់វិវត្តនៃគ្រាប់លំអងនេះ

+ ① ភ្នាសបំពង់លំអង

② មីតូសនៃណ្វៃយ៉ូបន្តពូជ

③ ក្រូម៉ូសូមនៃណ្វៃយ៉ូបន្តពូជ

④ ណ្វៃយ៉ូលូតលាស់ដែលកំពុងរលាយទៅវិញ

⑤ ណ្វៃយ៉ូលូតលាស់

⑥ ស្ពែម៉ាតូស្វអ៊ីត 2 ។

+ ② -<u>ការតំរៀបតាមលំដាប់វិវត្តន៍ត្រឹមត្រូវ:</u>

B → A → C ។

160. ដូចម្តេចដែលហៅថា ដំណើរលំអង ? តើចំពោះអង់ស្យូស្ពែម ដំណើរលំអងមាន ប៉ុន្មានយ៉ាង ? អ្វីខ្លះ ? ចូរបញ្ជាក់ ។

www.facebook.com/7khmer
Fb page : Entertainment And Knowledge

ដំណើរលំអងជាការផ្ទេរ គ្រាប់លំអងពីថ្នោកលំអងទៅស្និចម៉ាត ។

ដំណើរលំអងមាន 3 យ៉ាង :

-ដំណើរលំអងឯង (ស្វ័យបង្កកំណើត) = គ្រាប់លំអងត្រូវផ្ទេរពីថ្នោកលំអងទៅស្និចម៉ាតនៃផ្កាតែមួយ ។

- ដំណើរលំអងកាត់ = គ្រាប់លំអងរបស់ផ្កានៃរុក្ខជាតិមួយធ្លាក់លើស្និចម៉ាតរបស់ផ្កានៃរុក្ខជាតិផ្សេងទៀតតាមខ្យល់ សត្វល្អិត ទឹក... ។

- ដំណើរលំអងសិប្បនិម្មិត= គ្រាប់លំអងត្រូវបញ្ជូនដោយមនុស្ស ពីរុក្ខជាតិមួយទៅរុក្ខជាតិមួយ ។

១៦១. ហេតុអ្វីបានជាគេធ្វើដំណើរលំអងសិប្បនិម្មិត?

ពីព្រោះគេចង់បង្កើតពូជថ្មី ឬ លក្ខណៈរបស់រុក្ខជាតិបែបថ្មីតាមចិត្តគេចង់បាន ។

សំនួរដកស្រង់ពីសៀវភៅក្រសួងអប់រំ

II

1. តើផ្នែកណានៃគ្រាប់លំអងដែលមាននាទីនាំស្ពែម៉ាតូសូអ៊ីតទៅជួបអូអូស្វ៊ែរ ?
2. តើដំណុះគ្រាប់លំអង មានដំណើរដូចម្តេច ?
3. តើគ្រាប់លំអង និង ស្ប៊ មានលក្ខណៈដូចគ្នាអ្វីខ្លះ ?
4. តើការបង្កកំណើតរបស់រុក្ខជាតិអង់ស្យូស្ពែមអោយកំណើតជាអ្វីខ្លះ ?

www.facebook.com/7khmer
Fb page : Entertainment And Knowledge

III ចូរបំពេញពាក្យបន្ថែមនៅក្នុងគំនូសបំព្រួញខាងក្រោម៖

ក. ចំលាស់គ្នានៃកំណើត:

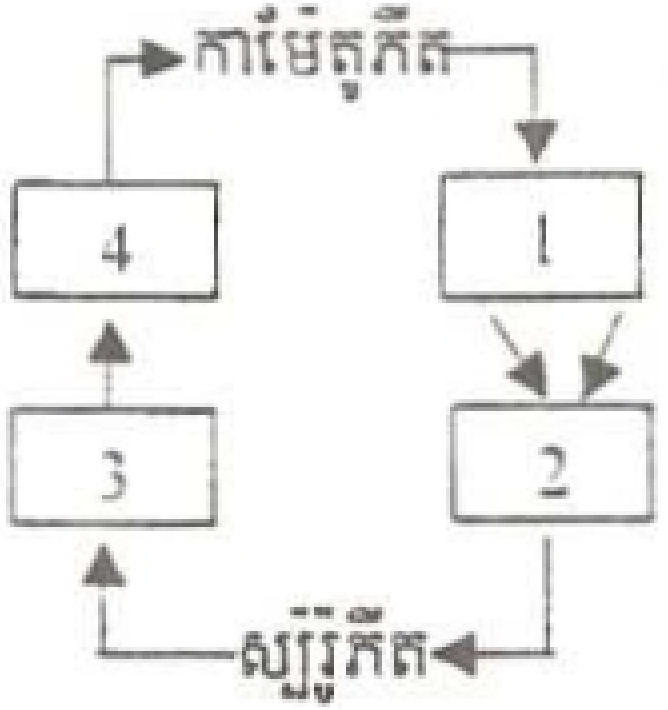

ខ. ដំណើរលំអង និង ការបង្កកំណើត

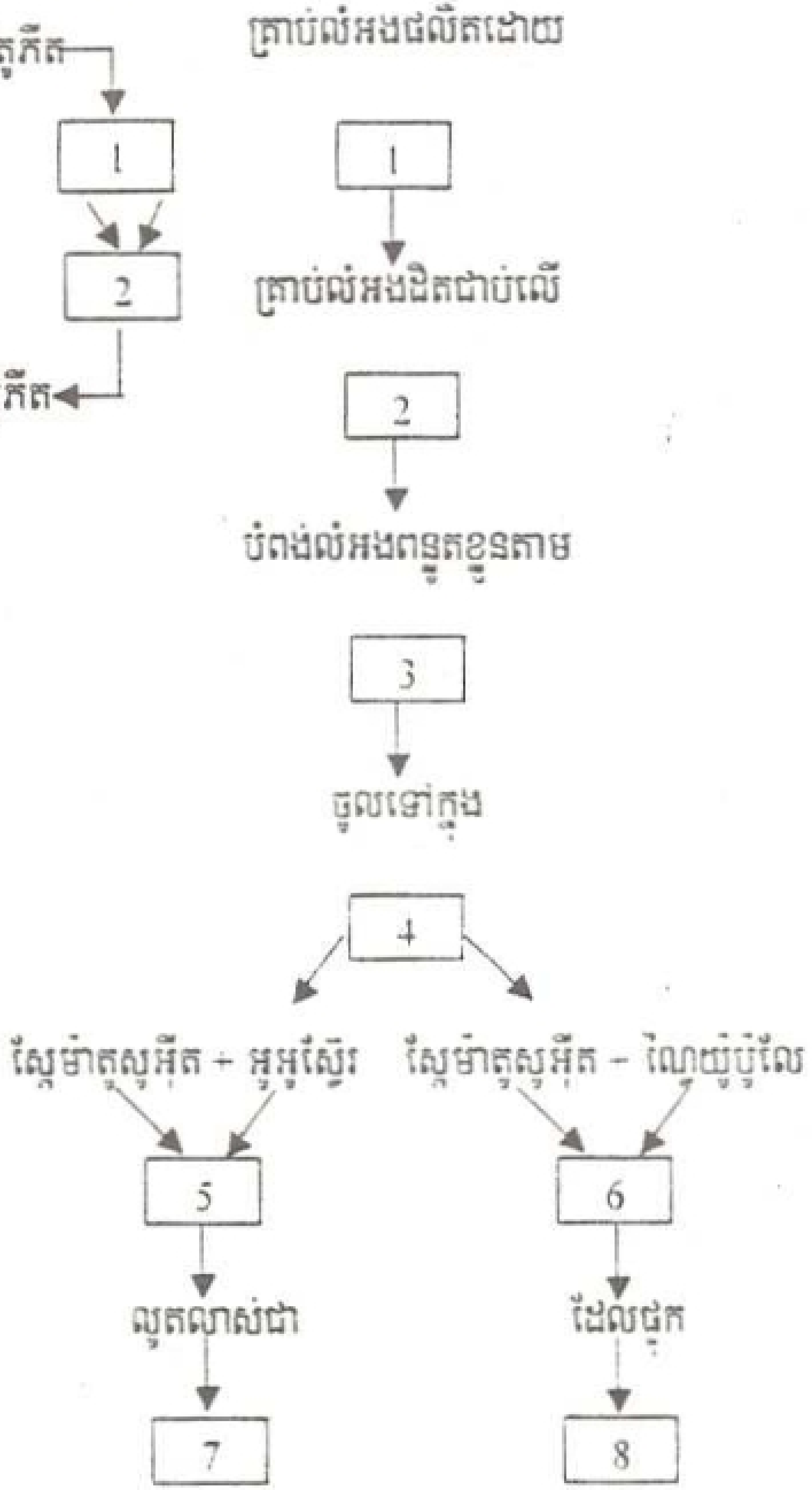

II ចំលើយ

1. ផ្នែកដែលដឹកនាំស្ពែម៉ាតូសូអ៊ីត ទៅជួបអូអូស្វ៊ែរ គឺបំពង់លំអង ។

2. នៅពេលដែលគ្រាប់លំអង ធ្លាក់ជាប់ទៅលើស្ទិចម៉ាត វាក៏ដុះពន្លកឡើង ហើយពន្លូតខ្លួនតាមកកេសរញី ដោយបង្កើតជាបំពង់លំអង រហូតដល់អូវុល។ ណៃយ៉ូទាំងពីររបស់គ្រាប់លំអងធ្វើដំណើរក្នុងបំពង់លំអង។ ណៃយ៉ូទី1 នៅខាងចុង ធ្វើអោយបំពង់លំអងលូតលាស់ ហើយវាក៏រលាយបាត់ទៅវិញ ។ ណៃយ៉ូទីពីរចែកខ្លួនតាមមីតូស បានជាស្ពែម៉ាតូសូអ៊ីត 2 ដែលគ្មានផ្លាសែល ។ ស្ពែម៉ាតូសូអ៊ីតមួយ បង្កកំនើតជាមួយអូអូស្វ៊ែរ (រឹកាម៉ែតញី) បានស៊ីកូតឌីប្លូអ៊ីតមួយ និង ស្ពែម៉ាតូសូអ៊ីតមួយទៀត រលាយជាមួយណៃយ៉ូប៉ូលែរ ហើយបង្កើតជាអាល់ប៊ុយមែនទ្រីប្លូអ៊ីត (3n) ។

3. គ្រាប់លំអង និង ស្ប៊ែ មានទំរង់តូចល្អិត ហើយជាកោសិកាអាប្លូអ៊ីតដូចគ្នា ។

4. ការបង្កកំនើតរបស់រុក្ខជាតិអង់ស្យូស្ពែម អោយកំនើតជាស៊ីកូត ដែលនឹងលូតលាស់ជាអំប្រីយ៉ុង និង អាល់ប៊ុយមែនដែលជាម៉ាសកោសិកាមួយផ្ទុកអាហារបំរុងៈ គឺជាការបង្កកំនើតទ្វេ ។

III ក. 1 កាម៉ែត 2 ការបង្កកំនើត 3 មេយ៉ូស 4 ស្ប៊ែ

ខ. 1 ប្លោកលំអង 5 ស៊ីកូត

2 ស្ទិចម៉ាត 6 អាល់ប៊ុយមែន

3 កកេសរញី 7 អំប្រីយ៉ុង

4 អូវុល 8 អាហារបំរុង

www.facebook.com/7khmer
Fb page : Entertainment And Knowledge

ជំពូកទី 3: សំភារៈសេនេទិច

មេរៀនទី 1: ADNជាទំរពត៌មានសេនេទិច

ADN: le support de l'information génétique

(162) តើធាតុបង្កើតមីនៃក្រូម៉ូសូមគឺអ្វីខ្លះ? តើធាតុបង្កណាមួយនៃក្រូម៉ូសូម ជាទំរពតិមានសេនេទិច?

- ធាតុបង្កើតមីនៃក្រូម៉ូសូមគឺ ADN និងប្រូតេអ៊ីន (អ៊ីស្តូន)

-ធាតុបង្កក្រូម៉ូសូមដែលជាទំរពតិមានសេនេទិចគឺ ADN

(163) ហេតុដូចម្តេចបានជាស៊ីកូតសត្វកណ្តុរ ទន្សាយ មនុស្ស...លូតលាស់ទៅ ជាសត្វកណ្តុរ ទន្សាយ មនុស្ស...ជានិច្ច?

ពីព្រោះក្នុងស៊ីកូតនីមួយៗ មានផ្ទុកពតិមានសេនេទិចដែលទទួលពីកាម៉េត របស់មេបាជានិច្ច។ ពតិមានសេនេទិចនេះគឺជា ប្លង់សំរាប់ដឹកនាំការសាងសង់ លក្ខណៈរបស់ភាវរស់នីមួយៗ។ ហេតុនេះហើយទើបស៊ីកូតត្រូវតែលូតលាស់ជា ឯកត្តៈដូចមេបា។

(164) តើអ្វីជាភ្លឹម៉ូកូក? វាមានរូបរាងប៉ុន្មានបែប? មានលក្ខណៈដូចម្តេច?

-ភ្លឹម៉ូកូកៈ មើលសៀវភៅពន្យល់ពាក្យទំព័រ 38 ។

-វាមានរូបរាង 2បែបៈ រូបរាងS និងរូបរាងR

ជៈ គីមអឿន

www.facebook.com/7khmer
Fb page : Entertainment And Knowledge

+ រូបរាង S (Smouth=រលើង) មានស្រោមកើតពីត្បួយស៊ុត ។ វាមានលក្ខណៈសហ័សគឺបង្កអោយមានជំងឺរលាកសួត ។

+ រូបរាង R (Rough=គគ្រាត) គ្មានស្រោមហើយមិនបង្កអោយមានជំងឺទេ ។

(165) ខាងក្រោមជាពិសោធន៍របស់ គ្រីភីត ដែលបង្ហាញពីការបំលែងបាក់តេរី។ ចូរអ្នកវិភាគពិសោធន៍នេះ ។

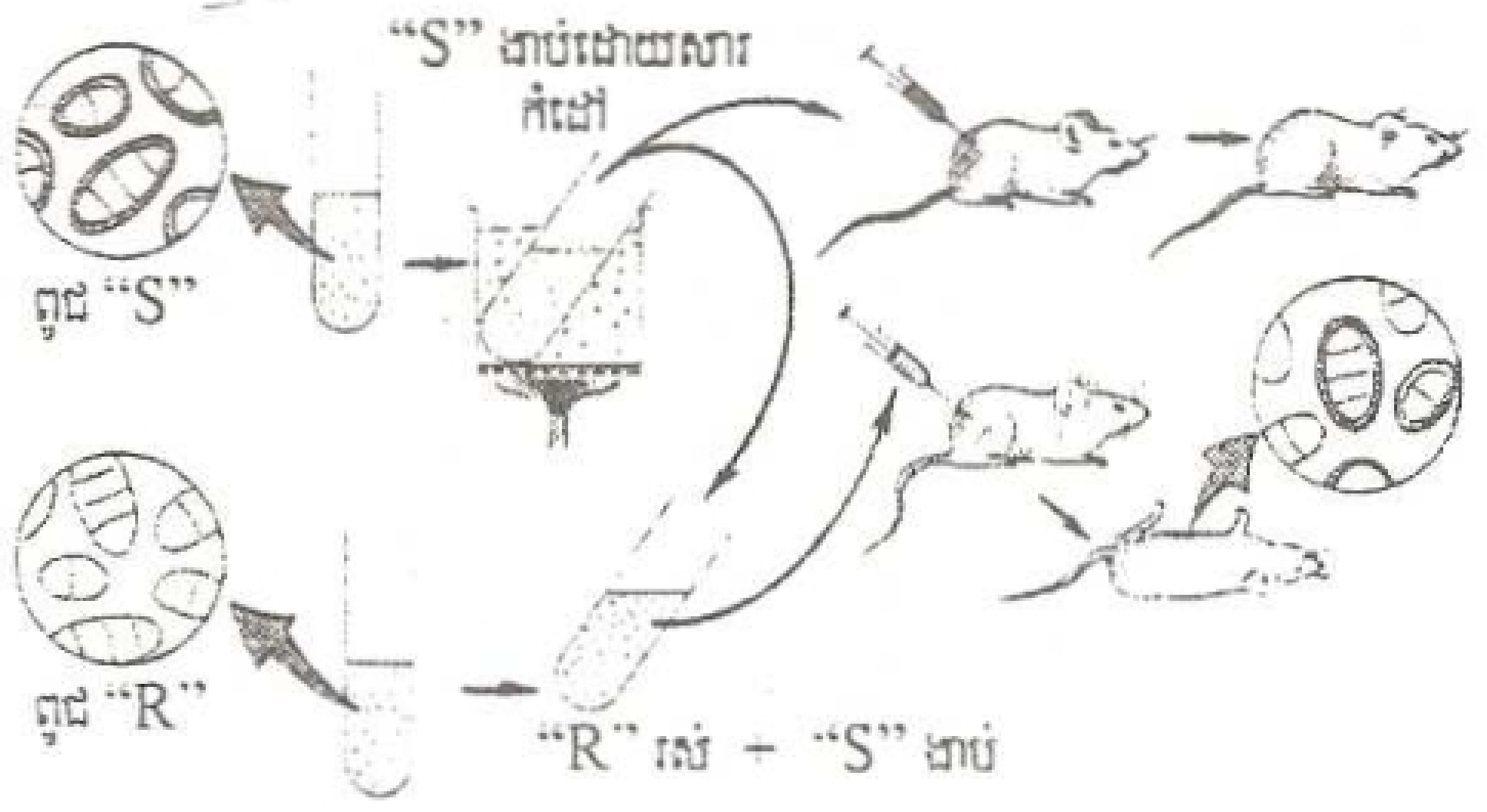

យើងឃើញថា ក្នុងឈាមកណ្តុរដែលស្លាប់ មានផុកល្បាយនៃ បាក់តេរី "R" និង "S" ដែលរស់ ។ យើងអាចសន្និដ្ឋានថា បាក់តេរី "s" ដែលស្លាប់ហើយកាលណាយកមកដាក់លាយជាមួយបាក់តេរី "R" ដែលរស់នោះវាមានសារធាតុ១ដែលបំប្លែងបាក់តេរី "R" គ្មានស្រោមទៅជាបាក់តេរី "S"មានស្រោម។វាអាចបង្កជំងឺ និង បញ្ជូនលក្ខណៈនេះទៅសណ្តានក្រោយ ។

www.facebook.com/7khmer
Fb page : Entertainment And Knowledge

ជា គឹមអៀច

(166) តើសារធាតុគីមីអ្វីដែលបំប្លែងបាក់តេរី R គ្មានស្រោមទៅជាបាក់តេរីS មានស្រោម? តើគេរកឃើញដោយធ្វើពិសោធន៍ដូចម្តេច?

-គឺជាសារធាតុគីមី "ADN" ។

-គេរកឃើញដោយ(លោក អាវើរី និង សហការី)ធ្វើពិសោធន៍ដូចតទៅ:

គេទាញយកADN ពីភ្នឺម៉ូកូកS តាមបច្ចេកទេសគីមីហើយចាក់ADN នោះទៅក្នុងកែវដែលមានបាក់តេរីR ។ បន្ទាប់មកលោកអាវើរីចាក់បញ្ចូលល្បាយបាក់តេរីនេះទៅក្នុងសត្វកណ្តុរ ។ កណ្តុរស្លាប់ដោយសារជំងឺរលាកសួត ព្រោះឈាមរបស់វាមានបាក់តេរី S ។

ដូច្នេះ ADN ជាសារធាតុដែលអាចធ្វើអោយបាក់តេរី R គ្មានស្រោមក្លាយជាបាក់តេរី S មានស្រោមដែលបង្កអោយមានជំងឺ ។

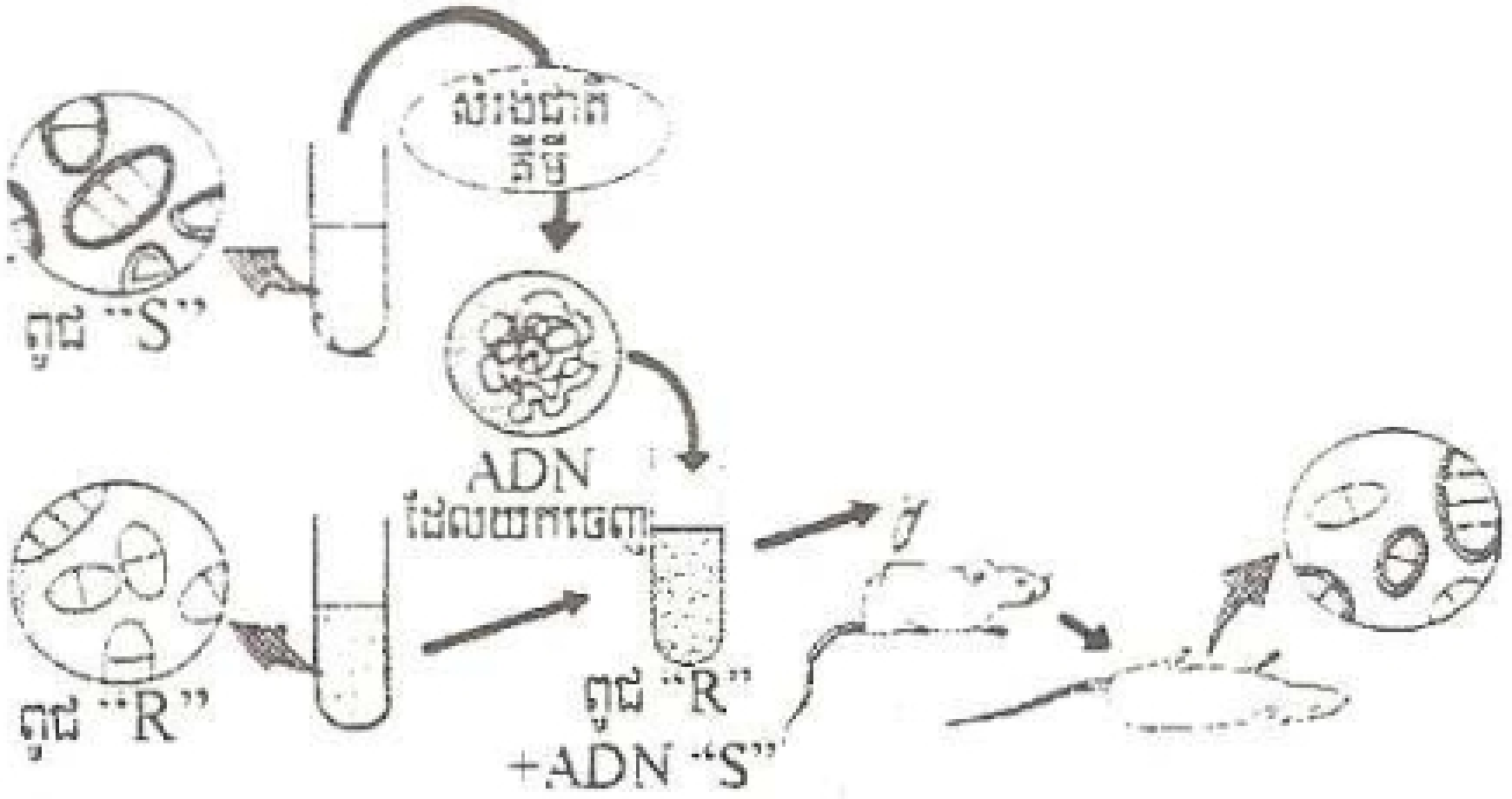

(167) ហេតុដូចម្តេចបានជាគេសន្និដ្ឋានក្នុងពិសោធន៍របស់លោកអាវើរី ថា ម៉ូលេគុល ADN ជាទំរពតិមានសេនេទិច?

www.facebook.com/7khmer
Fb page : Entertainment And Knowledge

ពីព្រោះនៅពេលដែល ADN របស់បាក់តេរី S ជ្រៀតចូលទៅក្នុង ADN នៃបាក់តេរី R គ្មានស្រោមធ្វើអោយបាក់តេរី R មានលក្ខណៈថ្មីមួយទៀត គឺជាមួយADN របស់បាក់តេរីS វាអាចសំយោគស្រោមការពារដែល បង្កអោយមានជំងឺរលាកសួត ហេតុនេះទើបគេថា ADN ជាទំរពតិមានសេនេទិច ។

(168) អ៊ីដ្រូលីសម៉ូលេគុល ADN ផ្តល់អ្វីខ្លះ?

អ៊ីដ្រូលីស ADN ផ្តល់:

-អាស៊ីតផូស្វរិច (H_3PO_4)

-ស្ករដេអុកស៊ីរីបូស ($C_5H_{10}O_4$)

-បាសអាសូតមាន 2បែប:

+ បាសពួរិចគឺ អាដេនីន (A) និង កានីន (G)

+ បាសពីរីមីឌិចគឺ ទីមីន (T) និង ស៊ីតូស៊ីន (C)

(169) តើឯកតានៃធាតុបង្កើតមី (ម៉ូណូមែរ) របស់ ADN គឺអ្វី?ហើយ ឯកតានៃធាតុបង្កនីមួយៗនេះមានអ្វីខ្លះ?

-គឺនុយក្លេអូទីត

-នុយក្លេអូទីតនីមួយៗកើតឡើងពីបណ្តុំនៃ:

+ អាស៊ីតផូស្វរិច (H_3PO_4) 1ម៉ូលេគុល

+ ស្ករដេអុកស៊ីរីបូស ($C_5H_{10}O_4$) 1ម៉ូលេគុល

+ បាសអាសូត (A រឺ T រឺ C រឺ G) 1ម៉ូលេគុល

www.facebook.com/7khmer
Fb page : Entertainment And Knowledge

(170) តើ ADN មាននុយក្លេអូទីតប៉ុន្មានបែប? វាខុសគ្នាពីមួយទៅមួយ ដោយសារ អ្វី? ចូរបញ្ជាក់អំនះអំនាង?

-នុយក្លេអូទីតមាន 4 បែប ។

-វាខុសគ្នាដោយសារបាសអាសូត ។ ពីព្រោះនុយក្លេអូទីតនីមួយៗ មានអាស៊ីតផូស្វរិច និង ស្ករដេអុកស៊ីរីបូសដូចគ្នា ប៉ុន្តែខុសគ្នាត្រង់បាសអាសូត ។ ហេតុនេះដោយ បាសអាសូតមាន4បែបខុសគ្នានោះនុយក្លេអូទីតក៏មាន4បែបខុសគ្នាដែរ ។

(171) ក/ ចូរបង្ហាញនុយក្លេអូទីតទាំង4បែបរបស់ ADN ។

ខ/ ចូរសរសេរគំនូសបំព្រួញទំរង់ទូទៅនៃនុយក្លេអូទីត1ប្រភេទ ។

ក/ នុយក្លេអូទីតទាំង4បែបរបស់ ADN:

-នុយក្លេអូទីតអាដេនីន $H_3PO_4 + C_5H_{10}O_4 + A$

-នុយក្លេអូទីតទីមីន $H_3PO_4 + C_5H_{10}O_4 + T$

-នុយក្លេអូទីតស៊ីតូស៊ីន $H_3PO_4 + C_5H_{10}O_4 + C$

-នុយក្លេអូទីតកានីន $H_3PO_4 + C_5H_{10}O_4 + G$

ខ/ គំនូសបំព្រួញទំរង់ទូទៅនៃនុយក្លេអូទីតមួយប្រភេទ:

នុយក្លេអូទីតអាដេនីន

(172) តើលោកវ៉ាតសុន(Watson) និង គ្រិក(Crick) បង្ហាញនូវគំរូម៉ូលេគុលADN ដូចម្តេច?

+ ADN មានទំរង់ជាខ្សែខ្នៅ2 ដែលជាច្រវាក់នុយក្លេអូទីត2 ស្របគ្នារុំជា

www.facebook.com/7khmer
Fb page : Entertainment And Knowledge

រង្វេលលើគ្នា ។ បើគេពន្លាតខ្សែខ្មៅទ្វេនេះដាក់អោយរាបស្មើម៉ូលេគុល ADN មានសភាពជាជណ្តើរវែងដែលមានទទឹង 2nm និង បណ្តោយពីច្រើនមីលីម៉ែត រហូតដល់ច្រើនម៉ែត ។

-មេជណ្តើរកើតពីស្ករដេអុកស៊ីរីបូស និង អាស៊ីតផូស្វរិច

-កាំជណ្តើរកើតពីបាសអាសូតបំពេញគ្នាពីរៗ គឺៈ អាដេនីន និង ទីមីន (A-T) ស៊ីតូស៊ីន និង កានីន (C-G) ។

ច្រវាក់ទាំងពីរភ្ជាប់គ្នាដោយសម្ព័ន្ធអ៊ីដ្រូសែនៈ

~រវាង A-T ភ្ជាប់ដោយសម្ព័ន្ធអ៊ីដ្រូសែន2

~រវាង C-G ភ្ជាប់ដោយសម្ព័ន្ធអ៊ីដ្រូសែន3

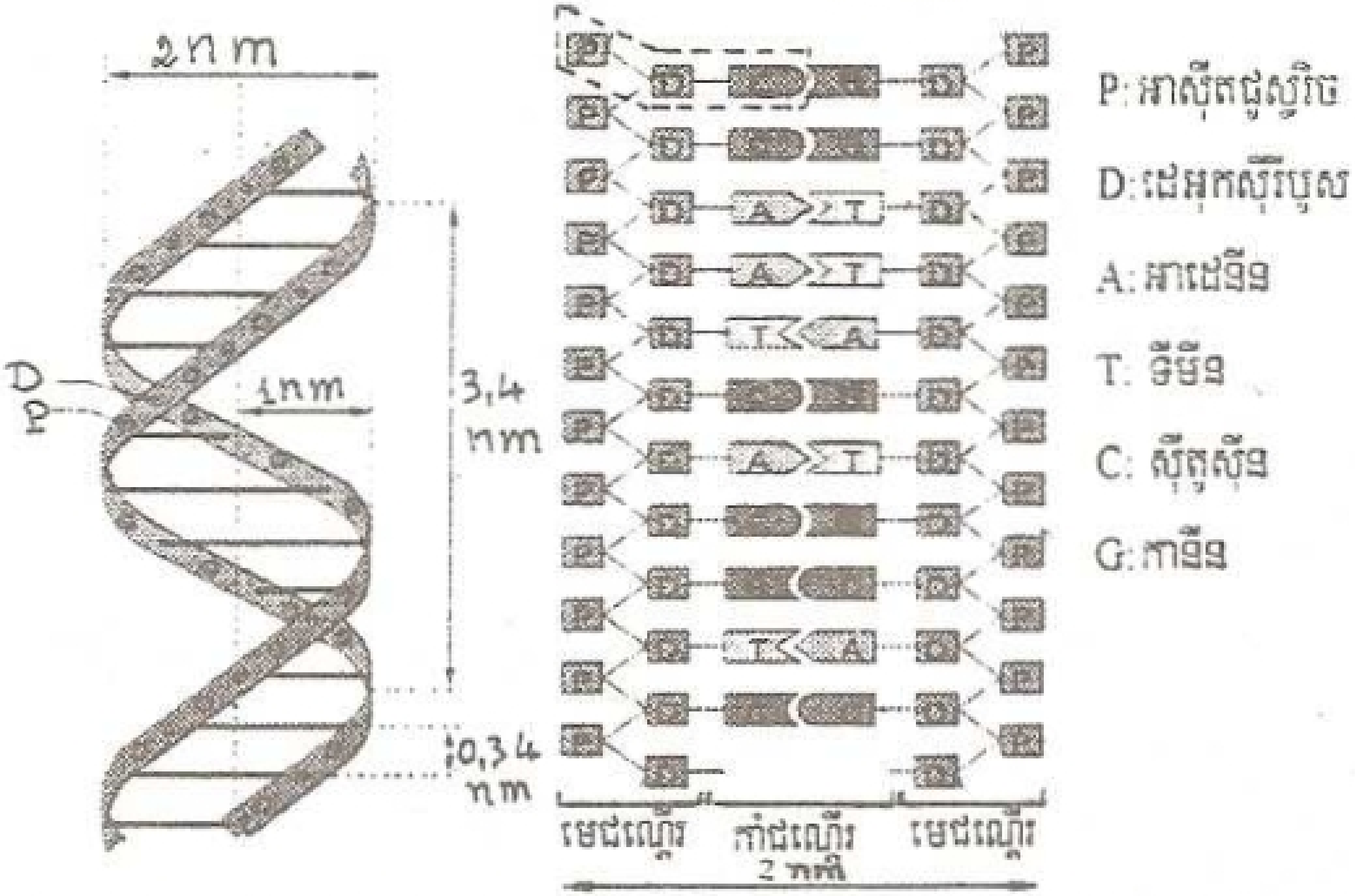

(173)ក្នុងច្រវាក់នី១ៗនៃម៉ូលេគុលADN តើនុយក្លេអូទីតភ្ជាប់គ្នាដូចម្តេច?

www.facebook.com/7khmer
Fb page : Entertainment And Knowledge

ក្នុងច្រវាក់នីមួយៗ អាស៊ីតផូស្វរិចនៃនុយក្លេអូទីតមួយភ្ជាប់ទៅនឹងស្ករដេអុកស៊ីរីបូសនៃនុយក្លេអូទីតមួយទៀតដោយសម្ព័ន្ធគីមី “ កូវ៉ាឡង់ ” ។

(174) ហេតុអ្វីបានជាគេថា ADN ជាទំរង់ពតិមានសេនេទិច?

ពីព្រោះម៉ូលេគុល ADN ផ្ទុកតំនលំដាប់នុយក្លេអូទីតគឺ តំនលំដាប់នុយក្លេអូទីតនេះហើយ ជាពតិមានសេនេទិច ដែលជាប្លង់សំរាប់សាងសង់លក្ខណៈសារពាង្គកាយ ។ ហេតុនេះទើបគេថា ADN ជាទំរង់ពតិមានសេនេទិច ។

(175) តើ ADN មានលក្ខណៈពិសេសដូចម្តេចខ្លះ?

លក្ខណៈពិសេសរបស់ ADN :

+ បរិមាណនៅក្នុងកោសិកា

-បរិមាណADN ក្នុងកោសិកាលូតលាស់ថេរជានិច្ចក្នុងប្រភេទតែ1 តែពីប្រភេទ មួយទៅប្រភេទមួយខុសគ្នាជានិច្ច ។

-បរិមាណADN ក្នុងកោសិកាបន្តពូជត្រូវថយពាក់កណ្តាល
ពីបរិមាណ ADN ក្នុងកោសិកាលូតលាស់ ។

+ ស្វ័យតំឡើងទ្វេ:

ADN មានលទ្ធភាពស្វ័យតំឡើងទ្វេដោយផ្តល់នូវ ADN កូន2ដូចគ្នាបេះបិទទៅនឹង ADN មេ ។

(176) តើបាសអាសូតមានលក្ខណៈពិសេសដូចម្តេច?

លក្ខណៈពិសេសនៃបាសអាសូតៈ

-បរិមាណទីមីន និង អាដេនីន ស្មើគ្នា

-បរិមាណស៊ីតូស៊ីន និង គានីន ស្មើគ្នា

ដូចនេះផលធៀប $\frac{A}{T}=1$, $\frac{C}{G}=1 \Rightarrow \frac{A+C}{T+G}=1$

-បាស A បំពេញ T C បំពេញ G (A-T ; C-G)

- បាស A មិនបំពេញ C T មិនបំពេញ G

$$\left(\frac{A}{C}\neq 1 \quad \frac{T}{G}\neq 1 \quad \frac{A+T}{C+G}\neq 1\right)$$

(177) ម៉ូលេគុល ADN នីមួយៗខុសគ្នាដោយសារអ្វី?

ម៉ូលេគុល ADN នីមួយៗ ខុសគ្នាដោយសារ តំនលំដាប់នុយក្លេអូទីត ដែលជា: ចំនួន ទីតាំង ប្រភេទនៃនុយក្លេអូទីត ។

(178) ហេតុអ្វីបានជា ជាមួយនឹងប្រភេទ នុយក្លេអូទីតតែ 4យ៉ាងអាចបង្កើត រាប់លានភាវរស់?

ពីព្រោះ ADN នីមួយៗ មាននុយក្លេអូទីតរាប់ម៉ឺន រាប់លាន ហើយ នុយក្លេអូទីតក្នុង ADN នីមួយៗតំរៀបតាមតំនលំដាប់ពិសេសរៀងៗខ្លួន ដែល បង្កើតបានជា ADN យ៉ាងច្រើនប្រភេទ ។

ប្រភេទដ៏ច្រើននេះ សំយោគនូវប្រភេទប្រូទីតយ៉ាងច្រើនអនេកសំរាប់ កំនត់លក្ខណៈដ៏ច្រើនប្លែកៗ ដោយបង្កើតរាប់លានប្រភេទភាវរស់ផ្សេងៗគ្នា ។

(179) ហេតុអ្វីបានជាក្នុងកោសិកាបន្តពូជបរិមាណADNមានតែពាក់កណ្តាល នៃបរិមាណ ADN ក្នុងកោសិកាល្អូតលាស់?

www.facebook.com/7khmer
Fb page : Entertainment And Knowledge

ពីព្រោះក្នុងកោសិកាបន្តពូជក្រូម៉ូសូមត្រូវបន្ថយពាក់កណ្តាល(2n→n) ដោយសារមេយ៉ូស។ ដូច្នេះ ADN ដែលជាធាតុបង្ករបស់ក្រូម៉ូសូមត្រូវតែសមាមាត្រទៅនឹងចំនួនក្រូម៉ូសូម គឺបន្ថយពាក់កណ្តាលដែរ។

(180) តើស្វ័យតំឡើងទ្វេ ADN ប្រព្រឹត្តទៅនៅឯណា? ពេលណា? តើស្វ័យតំឡើងទ្វេចាប់ផ្តើមពីចំនុច១ ឬ ច្រើន? ហើយចំនុចផ្តើមស្វ័យតំឡើងទ្វេស្ថិតក្រោមរូបភាពជាអ្វី?

+ ស្វ័យតំឡើងទ្វេ ADN ប្រព្រឹត្តទៅនៅក្នុងណ្វៃយ៉ូកោសិកា។

+ ស្វ័យតំឡើងទ្វេប្រព្រឹត្តទៅនៅក្នុងវគ្គ S នៃចន្លោះវគ្គ

+ ស្វ័យតំឡើងទ្វេចាប់ផ្តើមពីចំនុចច្រើន

+ ចំនុចផ្តើមស្វ័យតំឡើងទ្វេស្ថិតក្រោមរូបភាពជា "ភ្នែកស្វ័យតំឡើងទ្វេ" ។

(181) តើចលនការស្វ័យតំឡើងទ្វេប្រព្រឹត្តទៅយ៉ាងដូចម្តេច?

ចលនការស្វ័យតំឡើងទ្វេប្រព្រឹត្តដូចតទៅ:

-ច្រវាក់ទាំងពីរនៃ ADN មេបែកចេញពីគ្នានៅត្រង់ចំនុចជាច្រើននៃម៉ូលេគុលដោយការផ្តាច់សម្ព័ន្ធអ៊ីដ្រូសែនខ្សោយ។

-នុយក្លេអូទីតសេរីក្នុងណ្វៃយ៉ូភ្ជាប់ជាមួយ នុយក្លេអូទីតច្រវាក់មេទាំង2 តាមគោលការណ៍បំពេញបាស។ ច្រវាក់នីមួយៗនៃម៉ូលេគុល ADN មេជាពុម្ពគំរូសំរាប់សំយោគច្រវាក់ម្ខាងទៀតនៃម៉ូលេគុល ADN កូន។

-សំនុំប្រតិកម្មទាំងនេះ (ការផ្តាច់សម្ព័ន្ធបាសរវាងច្រវាក់ទាំង2 និង ការភ្ជាប់

www.facebook.com/7khmer
Fb page : Entertainment And Knowledge

ជា គឹមអៀង

នុយក្លេអូទីតសេរី...) ស្ថិតនៅក្រោមអំពើនៃអង់ស៊ីមយថាប្រភេទ "ADN-ប៉ូលីមេរាស" ។

ចប់ស្វ័យតំឡើងទ្វេម្តងៗគេបាន ADNកូន2ដូចគ្នាបេះបិទហើយដូចទៅនឹង ADNមេទៀត ។

(182) តើម៉ូលេគុលADNកូនទាំង2ដូចគ្នានឹងADNមេត្រង់ចំនុចណាខ្លះ?

ADNកូនដូចADNមេត្រង់: ចំនួន ប្រភេទ ទីតាំងនៃនុយក្លេអូទីត ។

(183) ហេតុអ្វីបានជាគេថាចលនការស្វ័យតំឡើងទ្វេADN ប្រព្រឹត្តតាមបែបពាក់កណ្តាលរក្សាទុក?

ពីព្រោះម៉ូលេគុលADNកូន ទីមួយៗត្រូវរក្សាច្រវាក់ម្ខាងជាច្រវាក់ADNមេទាំងស្រុង ឯច្រវាក់ម្ខាងទៀតជាច្រវាក់កើតថ្មី ។

(184) តើស្វ័យតំឡើងទ្វេADN ត្រូវការអ្វីខ្លះជាចាំបាច់?

ស្វ័យតំឡើងទ្វេADN ត្រូវការជាចាំបាច់នូវ:

-នុយក្លេអូទីតសេរី (ដេអុកស៊ីរីបូនុយក្លេអូទីតសេរី)

-អង់ស៊ីម ADN-ប៉ូលីមេរាស

-ថាមពល ATP

(185) ហេតុដូចម្តេចបានជាកោសិកាកូនទទួលពតិមានសេនេទិចទាំងស្រុងពីកោសិកាមេ?

ពីព្រោះនៅពេលធ្វើមីតូស:

www.facebook.com/7khmer
Fb page : Entertainment And Knowledge

-ក្នុងចន្លោះវគ្គ ម៉ូលេគុល ADN ស្វ័យតំឡើងទ្វេ

-នៅអាណាផាសមានការចែកស្មើជា2ក្រុម ADNកូនទៅប៉ូលនីមួយៗ

ដូចេះកោសិកាកូនទទួល ADNទាំងស្រុងពីកោសិកាមេ ពោលគឺទទួលពត៌មានសេនេទិចទាំងស្រុង ។

(186) តើស្វ័យតំ ឡើងទ្វេADNមាននាទីដូចម្តេចខ្លះ? (=តើស្វ័យតំឡើងទ្វេADN មានសារៈសំខាន់ដូចម្តេចខ្លះ?)

ស្វ័យតំឡើងទ្វេADNមាននាទី:

-រ៉ាប់រងការតំឡើងទ្វេនៃក្រូម៉ូសូម

-រ៉ាប់រងរូបរាង និង ចំនួនក្រូម៉ូសូមអោយនៅដដែលក្រោយចំនែកកោសិកា

-ចូលរួមជាមួយអាណាផាសនៃមីតូសដើម្បីបញ្ជូនពត៌មានសេនេទិចទាំងស្រុងពីកោសិកាមេទៅកោសិកាកូន ។

(187) ហេតុអ្វីបានជាគេថា ម៉ូលេគុលADN ជាម៉ាក្រូម៉ូលេគុលមានក្រុម?

ពីព្រោះវាកើតឡើងពីនុយក្លេអូទីតជាច្រើន ហើយនុយក្លេអូទីតនេះភ្ជាប់គ្នាក្នុងលំដាប់កំនត់ច្បាស់លាស់ហៅថា "តំនលំដាប់" គឺ ADN ខុសគ្នាពីមួយទៅមួយដោយសារ ចំនួន ទីតាំង និង ប្រភេទនុយក្លេអូទីតទាំង4 បើមានបំលាស់ប្តូរនុយក្លេអូទីតតែបណ្តាលអោយមានបំលាស់ប្តូរទំរង់ និង មុខងារADN ។ម្យ៉ាងទៀតតំនលំដាប់នុយក្លេអូទីតADN ជាក្រុមជាក់លាក់សំរាប់កំនត់តំន ។

www.facebook.com/7khmer
Fb page : Entertainment And Knowledge

ដា គឹមអៀង

លំដាប់ រីបូនុយក្លេអូទីត ARN$_{ញ}$ ដើម្បីសំយោគប្រូតេអ៊ីនយថាប្រភេទ ។

(188) បង្ហាញថាADN មានលទ្ធភាពផលិតចេញបាននូវម៉ូលេគុលADN ខ្លួនឯងបាន ។

ADNមានលទ្ធភាពផលិតចេញនូវម៉ូលេគុលADNខ្លួនឯងបាន ព្រោះៈ

-ច្រវាក់នុយក្លេអូទីតទាំង2ខ្សែ ដែលភ្ជាប់គ្នាដោយសម្ព័ន្ធអ៊ីដ្រូសែន ខ្សោយអាចផ្តាច់ចេញបានយ៉ាងងាយ

-ពេលដែលច្រវាក់ទាំង2ផ្តាច់ចេញពីគ្នានុយក្លេអូទីតសេរីក្នុងណ្វៃយ៉ូ បាន ភ្ជាប់ទៅនឹងបាសនៃច្រវាក់នីមួយៗ តាមគោលការណ៍បំពេញបាសA-T,C-G ដដែល ។

ទីបំផុតយើងបានម៉ូលេគុល ADNកូន2ដែលដូចគ្នាសុទ្ធសាធទៅនឹង ម៉ូលេគុល ADNមេ: បាតុភូតនេះគឺជាការចំលងដោយខ្លួនឯងបាន ។

(189) ហេតុអ្វីបានជាស្វ័យតំឡើងទ្វេADN ផ្តល់នូវADNកូន2ដូចគ្នា បេះបិទហើយដូច ADNមេទៀត?

ពីព្រោះពេលស្វ័យតំឡើងទ្វេម្តងៗ ច្រវាក់ទាំង2នៃADN មាននាទីជា ពុម្ពគំរូ ឯនុយក្លេអូទីតសេរីរត់ទៅបំពេញតាមគោលការណ៍បំពេញបាសA-T: C-G ។ ហេតុនេះគេបាន ADNកូន2ដែលមួយៗមានច្រវាក់ម្ខាងជាច្រវាក់ ពុម្ពគំរូមេ ឯច្រវាក់ម្ខាងទៀតជាច្រវាក់កើតថ្មីគឺ ដូចគ្នាបេះបិទហើយដូច ADN មេទៀត ។

www.facebook.com/7khmer
Fb page : Entertainment And Knowledge

(190) ហេតុអ្វីបានជាក្រោយពេលស្វ័យតំឡើងទ្វេ គេថា ADN កូនទាំង2 ដូចគ្នាបេះបិទទៅនឹង ADN មេ?

ពីព្រោះ ADN កូនទាំង2 មានច្រវាក់ម្ខាងជាច្រវាក់ ADN មេ (ជាពុម្ពគំរូ) ឯច្រវាក់ម្ខាងទៀតជាច្រវាក់បំពេញបាសទៅនឹងច្រវាក់មេ ។

(191) តើបរិមាណ ADN ក្នុងកោសិកានៃសារពាង្គកាយប្រភេទផ្សេងគ្នា ដូចគ្នា រឺ ខុសគ្នា? ពីព្រោះអ្វី?

ចំពោះប្រភេទផ្សេងគ្នាបរិមាណADN ក្នុងណ្វៃយ៉ូកោសិកា ខុសគ្នាទាំងអស់ ពីព្រោះប្រភេទផ្សេងគ្នា មានការីយ៉ូទីបខុសគ្នា (លើកលែងតែចំនួន តូច) ដូច្នេះADN ដែលជាធាតុបង្ករបស់ក្រូម៉ូសូម ត្រូវតែខុសគ្នាយ៉ាងខ្លាំងដែរ ។

(192) ចំពោះកោសិកាទាំងឡាយនៃសារពាង្គកាយក្នុងប្រភេទតែ1 មាន បរិមាណ ADN ខុសគ្នា រឺ ដូចគ្នា? ព្រោះអ្វី?

ចំពោះកោសិកាទាំងឡាយនៃសារពាង្គកាយប្រភេទតែ1 បរិមាណADN ដូចគ្នាទាំងអស់ ពីព្រោះគ្រប់កោសិកាល្ងូតលាស់នៃប្រភេទតែមួយសុទ្ធតែមាន ចំនួនក្រូម៉ូសូមដូចគ្នាទាំងអស់ (ការីយ៉ូទីបដូចគ្នា) នាំអោយADN ដែលជាធាតុបង្ករបស់ក្រូម៉ូសូមត្រូវតែដូចគ្នា ។

(193) ចំពោះប្រភេទសត្វ និង រុក្ខជាតិទាំងអស់ក្នុងចំនោមផលធៀប រវាង នុយក្លេអូទីតផ្សេងៗទាំង4របស់ ADN ក្នុងណ្វៃយ៉ូនៃកោសិការបស់ខ្លួនដូចខាងក្រោម៖ $\frac{A}{T}$, $\frac{C}{G}$, $\frac{A+C}{T+G}$, $\frac{C}{A}$, $\frac{T}{G}$, $\frac{A+T}{C+G}$

www.facebook.com/7khmer
Fb page : Entertainment And Knowledge

តើផលធៀបណាថេរ? ផលធៀបណាប្រែប្រួលទៅតាមប្រភេទនីមួយៗ? ហេតុអ្វី?

-ផលធៀបដែលថេរគឺ: $\frac{A}{T}$, $\frac{C}{G}$, $\frac{A+C}{T+G}$

ព្រោះ A និង T, C និង G ជាបាសបំពេញគ្នានាំអោយA=T, C=G ដូច្នេះ ផលធៀប $\frac{A}{T}=1$, $\frac{C}{G}=1$ ហើយ $\frac{A+C}{T+G}=1$ ។

-ផលធៀបប្រែប្រួលគឺ $\frac{C}{A}$, $\frac{T}{G}$, $\frac{A+T}{C+G}$

ពីព្រោះ A និង C , T និង G មិនមែនជាបាសបំពេញគ្នា នាំអោយ A≠C, T≠G ដូច្នេះផលធៀប $\frac{C}{A}\neq1$, $\frac{T}{G}\neq1$ ហើយ $\frac{A+T}{C+G}\neq1$ ។

(194) តំនូសបំព្រួញខាងក្រោមតំនាងលទ្ធផលនៃADN របស់កោសិកា ក្នុងវដ្តកោសិកា ។ ចូរដាក់ចំនងជើងទៅតាមតំណាក់កាលនីមួយៗនិងពន្យល់បញ្ជាក់ពីវិវត្តបរិមាណ ADNដែលតាងដោយ Q និង 2Q ក្នុងវដ្តកោសិកាជាអនុគមន៍នៃពេល ។

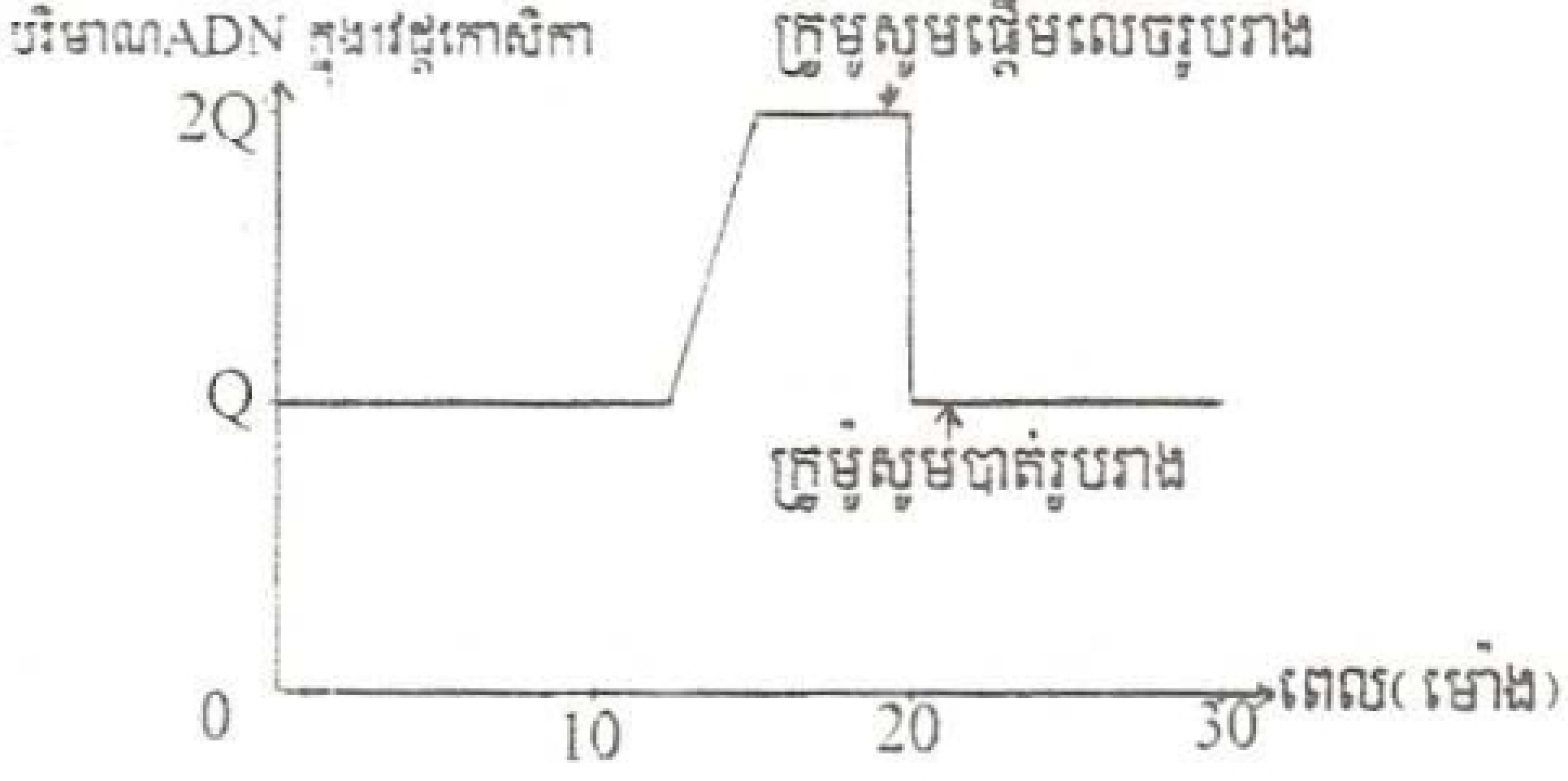

www.facebook.com/7khmer
Fb page : Entertainment And Knowledge

ដាក់ចំនួនជើងដំណាក់កាលនីមួយៗ និងបញ្ជាក់ពីវិវត្តបរិមាណADN :



-កាលណាបរិមាណADN នៅត្រង់ Qនោះជាវគ្គG_1 នៃចន្លោះវគ្គៈ នុយក្លេអូភីឡាម៉ង់ធម្មតាគឺមិនទាន់តំឡើងទេ។

-ក្នុងរយៈពេលវគ្គS បរិមាណ ADNឡើងទ្វេគឺនុយក្លេអូភីឡាម៉ង់បង្ហាញភ្លែកតំឡើងទេ។

-វគ្គ G_2 ដែលបញ្ចប់ចន្លោះវគ្គនុយក្លេអូភីឡាម៉ង់ទាំងអស់តំឡើងទ្វេរួចជាស្រេច។

-មីតូសចាប់ផ្ដើមតាំងពីការលេចរូបរាងដំបូងនៃក្រូម៉ូសូមដែលបណ្ដាលពីធ្វើស្មៀរកម្មបរិមាណ ADN 2Q។

-ចប់មីតូស(តេឡូផាស) ក្រូម៉ូសូមលោស្មៀរហើយបរិមាណADN ចុះត្រឹមQវិញនេះបណ្ដាលពីការចែកជា2ក្រុមស្មើគ្នា ទៅប៉ូលរៀងខ្លួន ក្រូម៉ូសូម

www.facebook.com/7khmer
Fb page : Entertainment And Knowledge

មួយមានក្រូម៉ូសូមតែមួយគត់ ។

-20ម៉ោងក្រោយមកវដ្តកោសិកាថ្មីចាប់ផ្តើមពីដើមចន្លោះវគ្គទៀត ។

(195) គេវាស់បរិមាណ ADN ក្នុងកោសិកាមនុស្សគេទទួលបានបរិមាណ ADN ក្នុងកោសិកាផ្សេងៗគ្នា:

បរិមាណADNក្នុងកោសិកាមួយៗ គិតជាពីកូក្រាម(10^{-12}g)	កោសិកាថ្លើម	កោសិកាប្រសាទ	កោសិកាស្បែក
	7,3	7,3	7,3

ចេញពីចំនេះដឹងរបស់អ្នក និង ពីលទ្ធផលក្នុងតារាងនេះ ចូរទាញការសន្និដ្ឋាន ។

គ្រប់កោសិកាទាំងអស់នេះ ជាកោសិកាលូតលាស់ដែលចេញពីស៊ីកូតតែ1 ធ្វើមីតូសជាបន្តបន្ទាប់រក្សារងADNដែលជារូបធាតុតំនពូជអោយនៅថេរដដែល ក្នុងគ្រប់កោសិកានៃសរីរាង្គ ។

(196) ក្នុងណ្វៃយ៉ូនៃកោសិកាកណ្តុរ មានបរិមាណ ADN :

2Q ត្រូវនឹងក្រូម៉ូសូម2n ក្នុងដើមចន្លោះវគ្គ ។

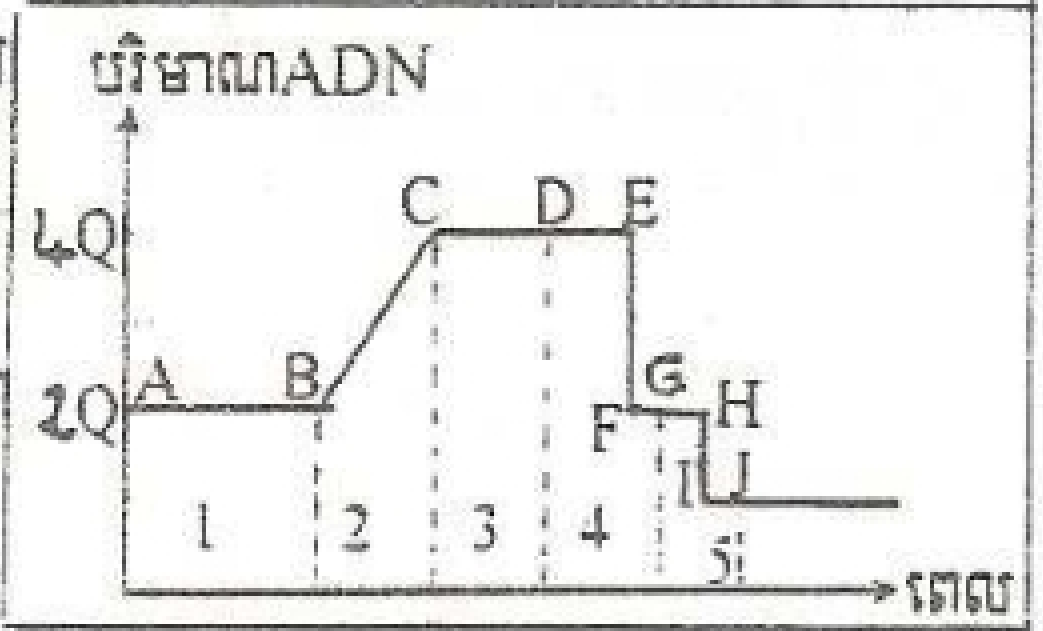

ក/ តើ 1,2,3,4,5 តំនាងអោយវគ្គអ្វីខ្លះ?

ខ/ តើ DE, EF, FG, GH, HI, IJ ជាវគ្គអ្វីខ្លះ?

ក/ 1 :វគ្គ G_1, 2 : S, 3 : G_2, 4: ចំនែកទី1 , 5:ចំនែកទី2

ខ/ DE ប្រូផាសា និង មេតាផាសា , EF អាណាផាសា ,FG:តេ.

www.facebook.com/7khmer
Fb page : Entertainment And Knowledge

ខ: គឹមអៀង

ឡ្វាំង៧ ,GH ប្រូផាសេ – មេតាផាសេ ,HI អាណាផាសេ . IJ តេឡូផាសេ

<u>**សំនួរដង្រស់ចេញពីសៀវភៅក្រសួងអប់រំ**</u>

1/ ចូរពណ៌នាការពិសោធន៍របស់លោក គ្រី ភីត ។

2/ ចូរពណ៌នាពិសោធន៍របស់លោកអាវីរី និង សហការី ។

3/ តើម៉ូលេគុលADN មាននុយក្លេអូទីតប៉ុន្មានយ៉ាង? ហេតុអ្វីបានជានុយក្លេអូទីតទាំងនោះខុសៗគ្នា?

4/ នុយក្លេអូទីតនៃម៉ូលេគុលADN តភ្ជាប់គ្នាយ៉ាងដូចម្តេច?

5/ ក្រោយពីពេលស្វ័យតំឡើងទ្វេហើយហេតុអ្វីបានជាម៉ូលេគុល ADN កូនទាំង2ដូចគ្នាបេះបិទទៅនឹងម៉ូលេគុល ADN មេ?

<u>**សំគាល់:**</u> សំនួរដើម្បីអោយស្របនឹងចំលើយគួរបន្ថែមពាក្យៈ ហេតុអ្វីបានជា<u>គេថា</u>ម៉ូលេគុល ADN កូន...

<u>ចំលើយៈ</u>

1/ សៀវភៅសិស្សទំព័រ 56-57 ។

2/ សៀវភៅសិស្សទំព័រ 57-58 ។

3/ ម៉ូលេគុល ADN មាននុយក្លេអូទីត4យ៉ាង ។ បានជានុយក្លេអូទីតទាំង4យ៉ាងនេះខុសគ្នាព្រោះនុយក្លេអូទីតនីមួយៗកើតពីបាស4យ៉ាង(A,T,C, G) ខុសគ្នាទាំងអស់ ។

4/ នុយក្លេអូទីតទី1ៗក្នុងច្រវ៉ាក់នីមួយៗភ្ជាប់គ្នាដោយ **សម្ព័ន្ធកូវ៉ាឡង់**

www.facebook.com/7khmer
Fb page : Entertainment And Knowledge

ជា: គឹមអៀង

គឺភ្ជាប់ពីអាស៊ីតផូស្វ័រិចនៃនុយក្លេអូទីត១ ទៅនឹង ស្ករដេអុកស៊ីរីបូសនៃនុយក្លេអូ-ទីតទៀត។

៥/ ក្រោយពេលស្វ័យតំឡើងទ្វេហើយ ម៉ូលេគុល ADNកូនទាំង2ដូចគ្នាបេះបិទទៅនឹង ADNមេ ពីព្រោះម៉ូលេគុល ADNកូនមានច្រវាក់ម្ខាងនៃម៉ូលេគុលADNមេជាពុម្ពគំរូ។

www.facebook.com/7khmer
Fb page : Entertainment And Knowledge

ជា: គីមអៀង

មេរៀនទី ២ :

ការសំដែងនៃសែន

L'expression de l'information génétique

197

អ្វីទៅជាពត៌មានសេនេទិច ? តើវាស្ថិតនៅឯណា ? ហើយតើម៉ូលេគុលអ្វីដែលជាទំរពត៌មានសេនេទិច ?

+ ពត៌មានសេនេទិច : មើលសៀវភៅពន្យល់ពាក្យទំព័រ ៣៦

+ វាស្ថិតនៅក្នុងណ្វៃយ៉ូនៃកោសិកា ។

+ ទំរពត៌មានសេនេទិច គឺ ម៉ូលេគុល ADN ។

198

តើកោសិកាមេ អាចបញ្ជូនពត៌មានសេនេទិចទាំងស្រុងទៅអោយកោសិកាកូនដោយសារអ្វី ?

កោសិកាមេ អាចបញ្ជូនពត៌មានសេនេទិចទាំងស្រុង ទៅអោយកោសិកាកូនដោយសារមីតូស ដែលក្នុងនោះរាប់រងដោយចលនការ ២ :

- ស្វ័យតំលើងទ្វេ ADN នៅចន្លោះវគ្គ
- ចំណែកស្មើគ្នានៃ ADN ទៅប៉ូលរៀងខ្លួននៅអាណាផាស

199

ដូចម្តេចដែលហៅថា ផេណូទីប ?
ដើម្បីសំដែងចេញជាផេណូទីប តើពត៌មានសេនេទិចត្រូវសំយោគចេញជាម៉ូលេគុលអ្វី ?

+ ផេណូទីប គឺជាសំណុំលក្ខណៈរបស់សារពាង្គកាយ ។

+ ដើម្បីសំដែងចេញជាផេណូទីប ពត៌មានសេនេទិច ត្រូវសំយោគចេញជាម៉ូលេគុលប្រូទីត ។

200

អ្វីទៅជាប្រូទីត ? យោងទៅតាមចំនួនអាស៊ីតអាមីនេ តើគេចែកប្រូទីតជាប៉ុន្មានក្រុម ? អ្វីខ្លះ ?

www.facebook.com/7khmer
Fb page : Entertainment And Knowledge

ប្រូទីតជាសារធាតុសរីរាង្គ ដែលកើតពីធាតុសំខាន់ៗ C , H , O , N ។ ឯកតានៃធាតុបង្ករបស់ប្រូទីត គឺអាស៊ីតអាមីនេ ។

ទៅតាមចំនួនអាស៊ីតអាមីនេ គេចែកប្រូទីតជា ៣ ក្រុម :

ក. <u>អាស៊ីតអាមីនេ</u> : ជាប្រូទីតងាយបំផុត ។ អាស៊ីតអាមីនេនីមួយៗមានបណ្តុំកាបុកស៊ីល (-COOH),បណ្តុំអាមីន ($-NH_2$) និងរ៉ាឌីកាល់ R ។

រូបមន្តទូទៅនៃអាស៊ីតអាមីនេ :

R - C - COOH | NH_2	R - CH - COOH | NH_2
រូបមន្តលាត	រូបមន្តស្ទើរលាត

ខ. <u>ប៉ិបទីត</u>: ជាប៉ូលីមែរនៃអាស៊ីតអាមីនេ ។ វាអាចជាឌីប៉ិបទីត ទ្រីប៉ិបទីត តេត្រាប៉ិបទីត ប៉ង់តាប៉ិបទីត... ។ ប្រសិនបើអាស៊ីតអាមីនេ មានច្រើនជាងនេះ គេហៅប៉ិបទីតជា<u>ប៉ូលីប៉ិបទីត</u> ។ (ប៉ូលីប៉ិបទីតអាចកើតពីអាស៊ីតអាមីនេតិចជាង 50) ។

គ. <u>ប្រូតេអ៊ីន</u> : ជាប៉ូលីមែរនៃអាស៊ីតអាមីនេ ដែលបង្កឡើងដោយច្រវាក់ប៉ូលីប៉ិបទីតមួយ ឬ ច្រើន ។ វាមានចំនួនអាស៊ីតអាមីនេលើសពី 50 ។

201

ចូរសរសេររូបមន្តស្ទើរលាតរបស់អាស៊ីតអាមីនេ ។

តើអាស៊ីតអាមីនេមាននាទីប៉ុន្មានយ៉ាង ? អ្វីខ្លះ ?

+ <u>រូបមន្ត ស្ទើរលាតរបស់អាស៊ីតអាមីនេ</u> :

R - CH - COOH
|
NH_2

+ អាស៊ីតអាមីនេ មាននាទី ២ យ៉ាងគឺ នាទីអាស៊ីត (-COOH) និង នាទីបាស ($-NH_2$) ។

www.facebook.com/7khmer
Fb page : Entertainment And Knowledge

202

តើអាស៊ីតអាមីនេ មានប៉ុន្មានប្រភេទ ? វាខុសគ្នាដោយសារអ្វី ? ចូរអោយឧទាហរណ៍ ២ ដោយបញ្ជាក់តាមរូបមន្ត ?

+ អាស៊ីតអាមីនេមាន 20 ប្រភេទ ។

+ វាខុសគ្នាដោយសាររ៉ាឌីកាល់ (R) ។

+ ឧទាហរណ៍ : គ្លីកូកូល (គ្លីស៊ីន): $\underbrace{H}_{R} - \underset{|\atop NH_2}{CH} - COOH$

ស៊ីស្តេអ៊ីន : $\underbrace{HS - CH_2}_{R} - \underset{|\atop NH_2}{CH} - COOH$

203

តើអាស៊ីតអាមីនេ 2 ភ្ជាប់ដោយសារចំណងអ្វី ? វាភ្ជាប់របៀបដូចម្តេច ? ចូរសរសេររូបមន្តចំណងនេះ ។

អាស៊ីតអាមីនេ ភ្ជាប់គ្នាដោយសារចំណងប៉ិបទីត ។ វាភ្ជាប់គ្នាពីបណ្តុំកាបុកស៊ីលនៃអាស៊ីតអាមីនេមួយទៅ បណ្តុំអាមីននៃអាស៊ីតអាមីនេមួយទៀត ដោយបំបាត់ទឹក ១ ម៉ូលេគុល ។

រូបមន្តចំណងប៉ិបទីត : **- CO - NH -**

204

រ៉ាឌីកាល់ក្នុងរូបមន្តអាស៊ីតអាមីនេ អាស្ប៉ាទិច គឺ :

$- CH_2 - COOH$ ហើយរ៉ាឌីកាល់ក្នុងរូបមន្តត្រេអូនីន គឺ : $CH_3 - \underset{|\atop OH}{CH} -$

ក. ចូរសរសេររូបមន្ត ស៊ើរលោតរបស់អាស៊ីតអាមីនេទាំង 2 ។

ខ. ចូរសរសេររូបមន្តស៊ើរលោត ឌីប៉ិបទីតដែលកើតពីអាស៊ីតអាមីនេទាំង 2 ។

www.facebook.com/7khmer
Fb page : Entertainment And Knowledge

+ ក. រូបមន្តទូទៅរបស់អាស៊ីតអាមីនេ : $R-\underset{\displaystyle NH_2}{\underset{|}{CH}}-COOH$ ⇒ ឧទាហរណ៍ :

រូបមន្តអាស្ប៉ាទិច : $HOOC-CH_2-\underset{\displaystyle NH_2}{\underset{|}{CH}}-COOH$

រូបមន្តត្រេអូនីន : $CH_3-\underset{\displaystyle OH}{\underset{|}{CH}}-\underset{\displaystyle NH_2}{\underset{|}{CH}}-COOH$

+ ខ. រូបមន្តឌីប៉ិបទីត :

$$HOOC-CH_2-\underset{\displaystyle NH_2}{\underset{|}{CH}}-CO\boxed{OH+H}NH-\underset{\displaystyle COOH}{\underset{|}{CH}}-\underset{\displaystyle OH}{\underset{|}{CH}}-CH_3$$

$$\Longrightarrow \boxed{HOOC-CH_2-\underset{\displaystyle NH_2}{\underset{|}{CH}}-\underset{\text{ចំណងប៉ិបទីត}}{\boxed{CO-NH}}-\underset{\displaystyle COOH}{\underset{|}{CH}}-\underset{\displaystyle OH}{\underset{|}{CH}}-CH_3}+H_2O$$

205

តើអាស៊ីតអាមីនេទាំង 20 យ៉ាងអាចភ្ជាប់គ្នាជាឌីប៉ិបទីត បានប៉ុន្មានប្រភេទ ? ទ្រីប៉ិបទីតប៉ុន្មាន ប្រភេទ ? ករណីប៉ូលីប៉ិបទីតមានអាស៊ីតអាមីនេចំនួន n តើវាបង្កើត បានជា ប៉ូលីប៉ិបទីតបាន ប៉ុន្មានប្រភេទ ?

+ ឌីប៉ិបទីតកើតពីអាស៊ីតអាមីនេ ២ តភ្ជាប់គ្នា ។ ដូច្នេះអាស៊ីតអាមីនេទាំង 20 ប្រភេទអាចបង្កើតបាន : $20 \times 20 = 20^2 = 400$ ប្រភេទឌីប៉ិបទីត ។

+ ទ្រីប៉ិបទីតកើតពីអាស៊ីតអាមីនេ 3 តភ្ជាប់គ្នា ។ ដូច្នេះអាស៊ីតអាមីនេទាំង 20 ប្រភេទអាចបង្កើតបាន : $20^3 = 8000$ ប្រភេទទ្រីប៉ិបទីត ។

+ ករណីប៉ូលីប៉ិបទីតមានអាស៊ីតអាមីនេចំនួន n វាអាចបង្កើតបាន 20^n ប្រភេទប៉ូលីប៉ិបទីត ។

www.facebook.com/7khmer
Fb page : Entertainment And Knowledge

206

ចូរនិយាយពីនាទីរបស់ប្រូតេអ៊ីន ។

ប្រូតេអ៊ីន មាននាទីជា :

+ ប្រូតេអ៊ីនទំរង់ : ភ្នាសកោសិកា ធាតុកោសិកា ជាលិកាសន្ទាន ជាលិកាស្បែក ពូរសាច់ដុំជាប្រូតេអ៊ីន ។ ការកន្ត្រាក់សាច់ ក៏បណ្តាលមកពីប្រូតេអ៊ីន ទំរង់ដែលមានលក្ខណៈពិសេសដែរ ។

+ អង់ស៊ីម : ជាកាតាលីករជីវៈជួយជំរុញប្រតិកម្មគីមី បំបែក និង សំយោគ ។ អង់ស៊ីម 1 មានអំពើទៅលើប្រតិកម្មតែ 1 ប្រភេទប៉ុណ្ណោះ ។

+ អង់ទីករ : ជាម៉ូលេគុលយថាប្រភេទដែលបញ្ចេញដោយសារពាង្គកាយ ដើម្បីឆ្លើយតប និងការជ្រៀតចូលនៃធាតុមកពីក្រៅ (មេរោគ) គឺវាមាននាទីការពារសារពាង្គកាយ ។

+ អរម៉ូន (ភាគច្រើនជាប្រូតេអ៊ីន) : បញ្ចេញដោយក្រពេញអង់ដូគ្រីន ។ វាដឹកនាំតាមឈាម និង មានអំពើទៅលើដំនើរប្រព្រឹត្តនៃជាលិកា ឬ សរីរាង្គ ។

+ អេម៉ូក្លូប៊ីន : ដឹកនាំអុកស៊ីសែនចាំបាច់សំរាប់ដំណកដង្ហើម ។

207

តើអង់ស៊ីមទាំងអស់មានកំនើតជាអ្វី ? តើវាជួយអន្តរាគមន៍ទៅលើប្រតិកម្មគីមី ក្នុងសារពាង្គកាយដូចម្តេចខ្លះ ?

+ អង់ស៊ីមទាំងអស់ មានកំនើតជាប្រូតេអ៊ីន ។

+ វាជួយអន្តរាគមន៍ទៅលើប្រតិកម្មគីមីបំបែក និង សំយោគ ។ អង់ស៊ីមនីមួយ១ ជាកត្តាលីករជីវៈយថាប្រភេទ គឺវាមានអន្តរាគមន៍ តែទៅលើប្រតិកម្មគីមីតែមួយប្រភេទ១ ប៉ុណ្ណោះប្រៀបដូចជាកូនសោរមួយដែលអាចបើកបានតែមេសោរមួយ ។ ដោយកោសិកា មានប្រតិកម្មរាប់ពាន់ខុសគ្នា នោះក្នុងកោសិកាក៏មានរាប់ពាន់អង់ស៊ីមដែរ ។

208

តើគ្រប់អង់ទីករទាំងអស់ សុទ្ធតែជាម៉ូលេគុលអ្វី ? វាមាននាទីដូចម្តេច ?

www.facebook.com/7khmer
Fb page : Entertainment And Knowledge

+គ្រប់អង់ទីករទាំងអស់ សុទ្ធតែជាម៉ូលេគុលប្រូតេអ៊ីន ។

+វាមាននាទីការពារសារពាង្គកាយ ដោយឆ្លើយតប នឹងការជ្រៀតចូលនៃធាតុមកពីក្រៅ (មេរោគ) ។

209

តើគ្រប់អរម៉ូនទាំងអស់ សុទ្ធតែជាប្រូតេអ៊ីនឬ ទេ ?

ចូរបង្ហាញពីនាទីអរម៉ូនដោយអោយឧទាហរណ៍បញ្ជាក់ ។

+ អរម៉ូនទាំងអស់ មិនមែនសុទ្ធតែជាប្រូតេអ៊ីនទេ គឺមួយចំនួនតូចជាអរម៉ូនស្តេរ៉ូអ៊ីត វាជាធាតុស្រលាយ ពីកូឡេស្តេរ៉ូល (ឧទា. អរម៉ូនភេទ) ។

+ អរម៉ូនមាននាទីរាំងរងដំណើរប្រព្រឹត្តទៅរបស់ជាលិកា ឬ សរីរាង្គ នៃសារពាង្គកាយ ។

ឧទា. អាំងស៊ុយលីន ផលិតចេញពីលំពែង ត្រូវដឹកនាំតាមឈាម ។ វាជួយបញ្ចុះអត្រាគ្លុយកូសនៅក្នុងឈាម (អ៊ីប៉ូគ្លីសេមី) ដោយអនុគ្រោះអោយថ្លើមផ្ទុកគ្លុយកូស និង អោយកោសិកាប្រើ គ្លុយកូស ។

210

ក. តើកោសិកានីមួយៗ ទទួលអាស៊ីតអាមីនេបានមកពីណា ?

ខ. តើប្រូតេអ៊ីនដែលបានមកពីក្រៅ (នៅក្នុងអាហារ) នៅពេលដែលចូលដល់សារពាង្គកាយ តើវានៅតែរក្សាយថាប្រភេទភាពរបស់វាទៀតរឺទេ ?

ចូរពន្យល់អោយបានខ្លី ។

ក. កោសិកាទទួលអាស៊ីតអាមីនេ បានមកពីការបំបែកម៉ូលេគុលប្រូតេអ៊ីននៅក្នុងអាហារ ។

ខ. ពេលចូលដល់សារពាង្គកាយ ប្រូតេអ៊ីនត្រូវបាត់បង់យថាប្រភេទរបស់វា ។ ប្រូតេអ៊ីននៅក្នុងអាហារបានបំបែកជាដំបូងនៅក្នុងប្រដាប់រំលាយអាហារក្រោមអំពើនៃអង់ស៊ីមរហូតក្លាយជាអាស៊ីតអាមីនេ ។ អាស៊ីតអាមីនេទាំងនេះ ត្រូវជ្រាបតាមភ្នាសពោះវៀនតូចធ្វើដំណើរ

www.facebook.com/7khmer
Fb page : Entertainment And Knowledge

ជា គឹមអៀង

តាម ផ្លូវឈាម ឆ្លងកាត់ថ្លើម និង បេះដូង ។ ឈាមដែលចេញពីបេះដូងត្រូវបានដឹកនាំអាស៊ីតអាមីនេចូលទៅក្នុងកោសិកានៃសរីរាង្គទាំងឡាយ ។ នៅទីនោះអាស៊ីតអាមីនេត្រូវបានសំយោគសារជាថ្មី ដើម្បីបង្កើតនូវប្រូទីតយថាប្រ ភេទផ្ទាល់របស់សារពាង្គកាយ ។

211

តើប្រូតេអ៊ីន ដែលមាននៅក្នុងសារពាង្គកាយនៃឯកត្តៈមួយ សុទ្ធតែដូចគ្នា ឬ ខុសគ្នា ? ចូរបញ្ជាក់អំនះអំនាង ។

ប្រូតេអ៊ីន ដែលមាននៅក្នុងសារពាង្គកាយនៃឯកត្តៈមួយមិនដូចគ្នាទាំងអស់ទេ គឺសុទ្ធតែជាប្រូតេអ៊ីនយថាប្រភេទ មានតំនល់ជាប់អាស៊ីតអាមីនេដោយឡែករៀងៗខ្លួន និង មានទំរង់ទី III ជាក់លាក់ទៅតាមតួនាទីរបស់វាក្នុងការកំនត់នូវលក្ខណៈរាងវិទ្យា និង សរីរៈវិទ្យារបស់សារពាង្គកាយ ។

212

គ្មានប្រូតេអ៊ីន តើឯកត្តៈនីមួយៗអាចមានជីវិត ឬទេ ? ពីព្រោះអ្វី ?

គ្មានប្រូតេអ៊ីន ឯកត្តៈនីមួយៗមិនអាចមានជីវិតបានទេ ពីព្រោះប្រូតេអ៊ីនជាសាធាតុគ្រឹះនៃជីវិត វាកំនត់លក្ខណៈរាងវិទ្យា គឺមាននាទីជាប្រូតេអ៊ីនទំរង់ ហើយវាកំនត់លក្ខណៈសរីរៈវិទ្យា គឺមាននាទីជាអង់ស៊ីម អរម៉ូន អង់ទីករ អេម៉ូក្លូប៊ីន ។

213

ក. តើទំរង់មូលដ្ឋាននៃ ប្រូតេអ៊ីនគឺជាអ្វី ?

ខ. តើកត្តាអ្វីខ្លះដែលកំនត់យថាប្រភេទភាពនៃប្រូតេអ៊ីន (ឬកំណត់លក្ខណៈពិសេសផ្ទាល់របស់ប្រូតេអ៊ីន) ។

ក. ទំរង់មូលដ្ឋាននៃប្រូតេអ៊ីន គឺច្រវាក់អាស៊ីតអាមីនេ ដែលភ្ជាប់គ្នាដោយចំនងប៉ិបទីត ។

ជា គឹមនសៀខ

www.facebook.com/7khmer
Fb page : Entertainment And Knowledge

ខ.កត្តាដែលកំនត់យថាប្រភេទភាពនៃប្រូតេអ៊ីន គឺ តំនលំដាប់អាស៊ីតអាមីនេ (ចំនួន ប្រភេទ ទីតាំងអាស៊ីតអាមីនេ) និងទំរង់ទី III នៃម៉ូលេគុលប្រូតេអ៊ីន ។

214

តើអ្វីទៅដែលកំនត់ យថាប្រភេទនៃនាទីប្រូតេអ៊ីន ?

យថាប្រភេទនៃនាទីប្រូតេអ៊ីនកំនត់ដោយ : តំនលំដាប់អាស៊ីតអាមីនេ និង ទំរង់ទី III នៃប្រូតេអ៊ីន ។

215

តើប្រូតេអ៊ីនទាំងឡាយ ខុសគ្នាដោយសារអ្វីខ្លះ ?

ប្រូតេអ៊ីនទាំងឡាយ ខុសគ្នាដោយសារ : តំនលំដាប់អាស៊ីតអាមីនេ (ចំនួន ប្រភេទ ទីតាំងអាស៊ីតអាមីនេ) និង ទំរង់ទី III នៃប្រូតេអ៊ីន ។

216

នៅក្នុងកោសិកា ប្រូតេអ៊ីន មាននាទីធំ១ពីរយ៉ាង គឺកំនត់លក្ខណៈរាងវិទ្យា និង សរីរៈវិទ្យា ។
ចូរអោយឧទាហរណ៍អោយបានមួយក្នុងនាទីនីមួយ១ ។

សំនួរនេះបានស្នើ និង ចេញប្រលងចូលសកលវិទ្យាល័យវេទមហាបូសី (1999 -2000)

\+ នាទីប្រូតេអ៊ីនក្នុងរាងវិទ្យា :

ប្រូតេអ៊ីនកំណត់លក្ខណៈកំពស់ (ឬពណ៌ភ្នែក ពណ៌ស្បែក ....)

\+ នាទីប្រូតេអ៊ីនក្នុងសរីរៈវិទ្យា :

ប្រូតេអ៊ីនមាននាទីជាអង់ស៊ីម ដែលចូលរួមគ្រប់ប្រតិកម្មគីមីជីវៈក្នុងសារពាង្គកាយ ។

217

ក្នុងពិភពរស់ អាស៊ីតអាមីនេមានតែ 20 ប្រភេទទេ ប៉ុន្តែហេតុអ្វីបានជាវាអាចបង្កើតបានជាប្រូតេអ៊ីន ច្រើនអនេកផ្សេងគ្នា ?

www.facebook.com/7khmer
Fb page : Entertainment And Knowledge

ពីព្រោះប្រូតេអ៊ីនទីមួយៗ មានអាស៊ីតអាមីនេច្រើន (លើសពី 50) ។ អាស៊ីតអាមីនេទាំងនេះមានលទ្ធភាពបង្កើតបានជាប្រូតេអ៊ីនដែលខុសគ្នាពីមួយទៅមួយដោយសារ ចំនួនប្រភេទ ទីតាំងអាស៊ីតអាមីនេ ក្នុងទំរង់ទី I ហើយរុំបត់បែនជាទំរង់ទី III ដោយមាននាទីកំនត់ជាក់លាក់រៀងៗខ្លួន ។ បើមានការផ្លាស់ប្តូរកត្តាណាមួយ នោះប្រូតេអ៊ីន នឹង ផ្លាស់ប្តូរទំរង់ និងមុខងារ ទាំងអស់ ។

218 ហេតុដូចម្តេច បានជាគេថាម៉ូលេគុលប្រូតេអ៊ីនជាម៉ាក្រូម៉ូលេគុលមានក្រម ?

វាជាម៉ាក្រូម៉ូលេគុលពីព្រោះវាកើតពីអាស៊ីតអាមីនេជាច្រើន (លើសពី 50) ហើយវាជាម៉ូលេគុលមានក្រម ពីព្រោះអាស៊ីតអាមីនេទាំងនេះមិនមែនភ្ជាប់គ្នាដោយគ្មានរបៀបទេ គឺវាភ្ជាប់គ្នាក្នុងលំដាប់កំនត់ច្បាស់លាស់ទៅតាមចំនួន ប្រភេទ ទីតាំងអាស៊ីតអាមីនេ ដែលកំនត់ដោយតំនលំដាប់នុយក្លេអូទីតនៃសែន ។ បើសិនជាមានបំលាស់ប្តូរនូវកត្តាណាមួយ វានឹងបាត់បង់នូវយថាប្រភេទភាពរបស់វាជាមិនខាន ។

219 តើប្រូតេអ៊ីន មានទំរង់ទូទៅដូចម្តេច ?

ប្រូតេអ៊ីនជា ប៉ូលីមែរនៃអាស៊ីតអាមីនេដែលមានលើសពី 50 ។ វាអាចបង្កឡើងពីច្រវាក់ប៉ូលីប៉ិបទីត មួយ រឺ ច្រើន ។ ប្រូតេអ៊ីនទីមួយៗ ជាម៉ាក្រូម៉ូលេគុលដែលមានទំរង់ជាក់លាក់ ។

ទំរង់ប្រូតេអ៊ីនមាន 3 កំរិត :

- ទំរង់ទី I : ជាតំនលំដាប់អាស៊ីតអាមីនេ ដែលបង្កជាខ្សែទោលងាយ ។ ទំរង់នេះខុសគ្នាពីមួយទៅមួយដោយសារតំនលំដាប់អាស៊ីតអាមីនេ ។
- ទំរង់ទី II : ជាច្រវាក់អាស៊ីតអាមីនេ ដែលរុំជាខ្សែខ្លៅ ។
- ទំរង់ទី III : ជាខ្សែខ្លៅប៉ូលីប៉ិបទីត ដែលរងការរុំថ្មី មួយទៀត ។

220 តើយថាប្រភេទនៃតំនលំដាប់អាស៊ីតអាមីនេរបស់ប្រូតេអ៊ីនទីមួយៗកំនត់ជាបន្តបន្ទាប់នូវយថា ប្រភេទនៃអ្វីរបស់ប្រូតេអ៊ីន ?

www.facebook.com/7khmer
Fb page : Entertainment And Knowledge

យថាប្រភេទនៃតំនលំដាប់អាស៊ីតអាមីនេរបស់ប្រូតេអ៊ីននីមួយៗ កំនត់ជាបន្តបន្ទាប់ នូវយថាប្រភេទនៃរូបរាងហើយ ដែលកំនត់ជាបន្តនូវយថាប្រភេទនៃនាទីរបស់វា ។

221

គេថាផេណូទីប អាស្រ័យទៅ នឹងប្រូតេអ៊ីនតើពិតឬ ទេ ? ចូរបញ្ជាក់គំនិតរបស់អ្នក ។

ផេណូទីប អាស្រ័យទៅនឹងប្រូតេអ៊ីន ជាការពិត ពីព្រោះប្រូតេអ៊ីនភាគច្រើន ធ្វើអោយលេចឡើងនូវផេណូទីប (រូបរាង ពណ៌ សំបុរ កំហុសមេតាបូលីស...) ។ កាលណាប្រូតេអ៊ីនរងនូវបំរែបំរួលតំនលំដាប់អាស៊ីតអាមីនេ ឬ អវត្តមានប្រូតេអ៊ីនដោយបុព្វហេតុណាមួយនោះវា នឹងធ្វើអោយផេណូទីបដែលកំនត់ដោយប្រូតេអ៊ីននោះប្រែប្រួល ឬក៏មិនអាចលេចចេញជាផេណូទីបបាន ។

ឧទា. - កង្វះអង់ស៊ីមប្រូតេអ៊ីនដែលសំយោគអាមីដុង ធ្វើអោយពោតមានគ្រាប់ជត ។

- អវត្តមានប្រូតេអ៊ីនអង់ស៊ីម " ផេណុលអុកស៊ីដាស" ធ្វើអោយបាត់បង់ជាតិ ពណ៌ "មេឡានីន" ។ ដូចនេះ នាំអោយទៅជា "[illegible]" ។

222

តើសារធាតុអ្វី ដែលបណ្តាលអោយភ្នែក ស្បែក រោម មានពណ៌ ? តើសារធាតុនេះ មានប្រភពចេញពីអ្វី ? វាកើតឡើងយ៉ាងដូចម្តេច ?

+ សារធាតុដែលបណ្តាលអោយភ្នែក ស្បែក រោម មានពណ៌ គឺ មេឡានីន (ជាតិពណ៌ខ្មៅ) ។

+ មេឡានីន មានប្រភពចេញពីអាស៊ីតអាមីនេ ទីរ៉ូស៊ីន ដែលមាននៅក្នុងអាហារ ។

+ វាកើតឡើងដោយសារ ប្រតិកម្មគីមីដែលបំប្លែង ទីរ៉ូស៊ីន ក្រោមអំពើនៃអង់ស៊ីម : ផេណុលអុកស៊ីដាស :

ទីរ៉ូស៊ីន —ផេណុលអុកស៊ីដាស→ មេឡានីន

www.facebook.com/7khmer
Fb page : Entertainment And Knowledge

223

ដូចម្តេចដែលហៅថា "ភឿក"?

តើ "ភឿក" បណ្តាលមកពីអ្វី ?

+ ភឿក គឺជាភាពបាត់បង់នូវជាតិពណ៌លើភ្នែក ស្បែក រោម ... ដោយសារអវត្តមានមេឡានីន ។

+ ភឿកបណ្តាលមកពីកង្វះអង់ស៊ីម ជេណុលអុកស៊ីដាស សំរាប់សំយោគមេឡានីន ដែលជាជាតិពណ៌ខ្មៅតសំរាប់ផ្តល់ពណ៌ដល់ ភ្នែក ស្បែក រោម ... ។

224

លក្ខណៈរួម (លក្ខណៈដូចគ្នា) នៃម៉ូលេគុល ADN និងប្រូតេអ៊ីន មានអ្វីខ្លះ ?

លក្ខណៈរួម រវាងម៉ូលេគុល ADN និងប្រូតេអ៊ីន :

- ជាម៉ាក្រូម៉ូលេគុល
- ម៉ូលេគុលនីមួយៗ ជាច្រវាក់នៃម៉ូលេគុល តូចៗដែលជាឯកតា (ម៉ូណូមែរ) ។
- ម៉ូលេគុលនីមួយៗ មានតំនលំដាប់នុយក្លេអូទីត ឬ អាស៊ីតអាមីនេយ៉ាងជាក់លាក់ ។

225

ក. តើតំនលំដាប់អាស៊ីតអាមីនេ ក្នុងម៉ូលេគុលប្រូតេអ៊ីន មានសារៈសំខាន់ដូចម្តេច ?
ខ. តើតំនលំដាប់នុយក្លេអូទីត ក្នុងម៉ូលេគុល ADN មានសារៈសំខាន់ដូចម្តេច ?

ក. សារៈសំខាន់តំនលំដាប់អាស៊ីតអាមីនេ ក្នុងម៉ូលេគុលប្រូតេអ៊ីន កំនត់យថាប្រភេទរូបរាង និងនាទីប្រូតេអ៊ីន ។

ខ. តំនលំដាប់នុយក្លេអូទីត ក្នុងម៉ូលេគុល ADN ខុសគ្នាពីសែនមួយទៅសែនមួយ ។ ដូចនេះសារៈសំខាន់នៃតំនលំដាប់នុយក្លេអូទីត ADN គឺកំនត់តំនលំដាប់អាស៊ីតអាមីនេក្នុងម៉ូលេគុលប្រូតេអ៊ីនអោយខុសៗគ្នា គឺ ជាប្រូតេអ៊ីនយថាប្រភេទ ។

www.facebook.com/7khmer
Fb page : Entertainment And Knowledge

(226)

ហេតុដូចម្ដេច បានជាគេអាចសន្និដ្ឋានបានថា :
ពតិមានសេនេទិច ស្ថិតនៅត្រង់តំនលំដាប់នុយក្លេអូទីត នៃម៉ូលេគុល ADN ?

ពីព្រោះគេឃើញថា អង្គត់ពីររបស់ ADN ៤ ដែលមានតំនលំដាប់នុយក្លេអូទីតខុសគ្នា សំយោគបានប្រូតេអ៊ីន 2 បែបដែលមានតំនលំដាប់អាស៊ីតអាមីនេខុសគ្នាដែរ ដូច្នេះគឺ នុយក្លេអូទីតនេះហើយដែលជាពតិមាន សេនេទិចមានតួនាទីសាងសង់ទំរង់ប្រូតេអ៊ីនសំរាប់កំនត់លក្ខណៈសារពាង្គកាយ ។

(227)

ក្នុងកោសិកាអឺកាវីយ៉ូត ពតិមានសេនេទិចស្ថិតនៅលើម៉ូលេគុលអ្វី ? មានទីតាំងនៅឯណា ?

\+ ពតិមានសេនេទិច ស្ថិតនៅលើម៉ូលេគុល ADN ក្រោមទំរង់ជាតំនលំដាប់នុយក្លេអូទីត ។ វាស្ថិតនៅក្នុងណ្វៃយ៉ូកោសិកា ។

(228)

ពីសេនទៅប្រូតេអ៊ីន មានប៉ុន្មានដំនាក់ ? អ្វីខ្លះ ? ដំនាក់ទាំងនេះ កើតនៅឯណា ?

\+ ពីសែនទៅប្រូតេអ៊ីន មាន 2 ដំណាក់ :

\- ដំនាក់ចំលង : សំយោគ ARNm ដែលជាសំនៅចំលងពតិមានសេនេទិច ។

\- ដំនាក់បំនកប្រែ : បកប្រែពតិមានសេនេទិចអោយទៅជាប្រូតេអ៊ីន ។

\+ ដំនាក់ចំលងកើតនៅក្នុងណ្វៃយ៉ូ

\+ ដំនាក់បំនកប្រែ កើតនៅក្នុងស៊ីតូប្លាស ។

(229)

ហេតុដូចម្ដេចបានជា មានការចំលងពី ADN ទៅ ARNm ?

ជា គីមអឿន

www.facebook.com/7khmer
Fb page : Entertainment And Knowledge

បានជាត្រូវ មានការចំលងពី ADN ទៅ ARNm ពីព្រោះ ADN ដែលមានពត៌មានសេនេទិចសំរាប់សំយោគប្រូទីត ស្ថិតនៅក្នុងណ្វៃយ៉ូ ឯសំយោគប្រូតេអ៊ីនកើតឡើងនៅក្នុងស៊ីតូប្លាស ដូច្នេះពត៌មានត្រូវបញ្ជូនពីណ្វៃយ៉ូមកស៊ីតូប្លាសតាមរយៈ ARNm ។

230

តើអ្វីទៅជា ARN ? តើ ARN មានប៉ុន្មានប្រភេទ ? អ្វីខ្លះ ? (មិនបាច់រៀបរាប់) ។

ARN ជាប្រភេទមួយនៃអាស៊ីតនុយក្លេអ៊ិច ។ វាជាប៉ូលីមែរនៃរីបូនុយក្លេអូទីតមួយខ្សែ ។ វាកើតពីការចំលងចេញពីច្រវាក់ម្ខាងនៃសែន ។ វាមាននាទីចូលរួមក្នុងការសំយោគប្រូទីត ។

ARN មាន 3 ប្រភេទ :

- ARN នាំសារ (ARNm)
- ARN ដឹកនាំ (ARNt)
- ARN រីបូសូម (ARNr)

231

តើម៉ូលេគុល ARN និង ADN មានលក្ខណៈខុសគ្នាដូចម្តេចខ្លះ ?

លក្ខណៈខុសគ្នារវាង

ម៉ូលេគុល ARN	ម៉ូលេគុល ADN
- ជាច្រវាក់រីបូនុយក្លេអូទីត 1 ខ្សែ	- ជាច្រវាក់ដេអុកស៊ីរីបូនុយក្លេអូទីត 2 ខ្សែ ភ្ជាប់ដោយសម្ព័ន្ធអ៊ីដ្រូសែន ។
- ខ្លីជាងម៉ូលេគុល ADN យ៉ាងខ្លាំង	- វែងជាងម៉ូលេគុលARN យ៉ាងខ្លាំង
- ចំនួននុយក្លេអូទីត តិច (រាប់សិបទៅរាប់ពាន់)	- ចំនួននុយក្លេអូទីត ច្រើន (រាប់ម៉ឺនទៅរាប់លាន)
- ម៉ាសម៉ូលេគុលប្រែប្រួលពី 25.000 ទៅ 500.000 ។	- ម៉ាសម៉ូលេគុលប្រែប្រួលពីរាប់លាន ទៅរាប់កោដិ ។

www.facebook.com/7khmer
Fb page : Entertainment And Knowledge

- ស្ករប្រភេទរីបូស ($C_5H_{10}O_5$)
- បាសប្រភេទអ៊ុយរ៉ាស៊ីល (U)

- ស្ករប្រភេទដេអុកស៊ីរីបូស ($C_5H_{10}O_4$)
- បាសប្រភេទទីមីន (T)

232

តើការចំលងពី ADN ទៅ ARNm (សំយោគARNm) ប្រព្រឹត្តទៅយ៉ាងដូចម្តេច ?

ការសំយោគ ARNm ប្រព្រឹត្តនៅលើម៉ូលេគុល ADN ក្នុងចន្លោះវគ្គដោយ មាន អន្តរាគមន៍ពីអង់ស៊ីម ARN ប៉ូលីមេរ៉ាស ។ វាមាននាទីច្រើនយ៉ាង :

- ទទួលស្គាល់សញ្ញាសេនេទិច នៅលើ ADN ដែលអាចអោយចាប់ផ្តើម និងបញ្ចប់ការសំយោគម៉ូលេគុល ARN នាំសារត្រង់កន្លែងជាក់លាក់ ។
- បើកម៉ូលេគុលADN ដោយផ្តាច់សម្ព័ន្ធអ៊ីដ្រូសែន ដែលភ្ជាប់ច្រវាក់ទាំង 2 ។
- ធ្វើអោយមានប៉ូលីមែរកម្មនៃនុយក្លេអូទីត ។ ពេលនោះ រីបូនុយក្លេអូទីតសេរី បានមកភ្ជាប់ នឹងច្រវាក់តែម្ខាងនៃសែន តាមគោលការណ៍បំពេញបាស A - U , C - G ។ARNm ដែលកើតនេះ ដូចគ្នា នឹងច្រវាក់មិនមែនជាពុម្ព (លើកលែងតែ T ត្រូវជំនួសដោយ U) ។
- សំយោគរួចភ្លាម ម៉ូលេគុល ARNm ក៏ផ្តាច់ខ្លួនចេញពី ADN ហើយចាកចេញពីណ្វៃយ៉ូ ។

233

ចូរបង្ហាញពីលក្ខណៈរួម (ដូចគ្នា) និងខុសគ្នារវាងសំយោគ ARN និងស្វ័យតំលើងទ្វេនៃ ADN ។

+ <u>លក្ខណៈរួម</u> :

- ប្រព្រឹត្តក្នុងណ្វៃយ៉ូនៃកោសិកា នៅចន្លោះវគ្គ ។
- សម្ព័ន្ធអ៊ីដ្រូសែននៃច្រវាក់នុយក្លេអូទីតទាំង 2 របស់ ADN ត្រូវផ្តាច់ចេញពីគ្នា

www.facebook.com/7khmer
Fb page : Entertainment And Knowledge

- ប្រព្រឹត្តក្រោមអំពើអង់ស៊ីមប៉ូលីមេរ៉ាស ។

+ លក្ខណៈខុសគ្នា :

សំយោគ ARN ៣	ស្វ័យតំឡើងទ្វេ ADN
- រីបូនុយក្លេអូទីតសេរីជាប្រភេទ A , U , C , G	- ដេអុកស៊ីរីបូនុយក្លេអូទីតសេរីជាប្រភេទ A , T , C , G ។
- នុយក្លេអូទីតសេរីបំពេញទៅនឹង ច្រវាក់តែម្ខាងនៃអង្កត់ ADN តាមគោលការណ៍បំពេញបាស A - U , C - G	- នុយក្លេអូទីតសេរីបំពេញទៅនឹងច្រវាក់ទាំងសងខាងនៃម៉ូលេគុល ADN តាមគោលការណ៍បំពេញបាស A - T , C - G ។
- ក្រោយការសំយោគគេបាន ARN មួយដែលផ្តាច់ចេញពីច្រវាក់ ADN ចេញពីណ្វៃយ៉ូទៅកាន់ស៊ីតូប្លាស ឯច្រវាក់ទាំង 2 នៃ ADN ក៏ភ្ជាប់គ្នាវិញ	- ក្រោយតំឡើងទ្វេ គេបានម៉ូលេគុល ADN កូន 2 ដូចគ្នាបេះបិទ និងដូច ADN មេទៀតហើយវាស្ថិតក្នុងណ្វៃយ៉ូជានិច្ច ។
- ប្រព្រឹត្តក្រោមអំពើ ARN -ប៉ូលីមេរ៉ាស ។	- ប្រព្រឹត្តក្រោមអំពើ ADN -ប៉ូលីមេរ៉ាស ។

234

ប្រៀបធៀបអ៊ីដ្រូលីស ADN និង ARN ។

អ៊ីដ្រូលីស ADN ផ្តល់	អ៊ីដ្រូលីស ARN ផ្តល់
- អាស៊ីតផូស្វរិច H_3PO_4	- អាស៊ីតផូស្វរិច H_3PO_4
- ស្ករដេអុកស៊ីរីបូស $C_5H_{10}O_4$	- ស្កររីបូស $C_5H_{10}O_5$
- បាសនីត្រូច A , T , C , G	- បាសនីត្រូច A , U , C , G

235

ប្រៀបធៀបបាសអាសូតរបស់ ADN និង ARN ។

www.facebook.com/7khmer
Fb page : Entertainment And Knowledge

បាសអាសូត ADN	បាសអាសូត ARN
+ បាសពីរីមីឌីច :	+ បាសពីរីមីឌីច :
- ទីមីន (T) និងស៊ីតូស៊ីន (C)	- អ៊ុយរ៉ាស៊ីល (U) និង ស៊ីតូស៊ីន (C)
+ បាសពូរីច :	+ បាសពូរីច :
- អាដេនីន (A) និងកានីន (G)	- អាដេនីន (A) និងកានីន (G)

236

គ្រប់កោសិកាលូតលាស់ នៃសារពាង្គកាយប្រភេទតែមួយ តើបរិមាណ ADN ថេរ ឬប្រែប្រួល ? ឯបរិមាណ ARN វិញយ៉ាងណាដែរ ?

+ គ្រប់កោសិកាលូតលាស់ប្រភេទតែមួយ បរិមាណ ADN នៅថេរជានិច្ច គឺមិនប្រែប្រួលទេ ពីព្រោះវាជាធាតុបង្កនៃក្រូម៉ូសូមដែលជាលក្ខណៈពិសេសនៃប្រភេទនីមួយៗ ។

+ ឯបរិមាណ ARN វិញគឺប្រែប្រួលជានិច្ចពីកោសិកាមួយទៅកោសិកាមួយ គឺប្រែប្រួលតិច ឬច្រើនទៅតាមចលនការសំយោគប្រូតេអ៊ីន ។ ARN មានចំនួនច្រើននៅក្នុងជាលិកាក្រពេញ ជាលិកាលូតលាស់របស់រុក្ខជាតិ ជាលិកាអំប្រីយ៉ុង និយាយរួមគឺ នៅក្នុងកោសិកាដែលកំពុងដុះដាលលូតលាស់ ។

237

តើ ARN ប៉ូលីមេរ៉ាសជាអ្វី ? វាមាននាទីដូចម្តេច ?

+ ARN ប៉ូលីមេរ៉ាស ជាអង់ស៊ីមជួយអន្តរាគមន៍ក្នុងសំយោគ ARN ។

- វាមាននាទី 3 យ៉ាង :

- ទទួលស្គាល់ "សញ្ញាសេនេទិច" នៅលើ ADN ដែលអាចចាប់ផ្តើម និងបញ្ចប់ការសំយោគម៉ូលេគុល ARN ទាំងសារ ត្រង់កន្លែងជាក់លាក់ ។

ខា គឹមអៀង

www.facebook.com/7khmer
Fb page : Entertainment And Knowledge

- បើកម៉ូលេគុល ADN ដោយផ្តាច់សម្ព័ន្ធអ៊ីដ្រូសែន ដែលភ្ជាប់ច្រវាក់ទាំង 2 ។

- ធ្វើអោយមានប៉ូលីមែរកម្មនៃនុយក្លេអូទីត ។

238

តើក្រមសេនេទិចត្រូវប្រើប្រាស់ អក្សរប៉ុន្មានតួ ដើម្បីបង្កើតជាកូដុងទាំង 64 ? តើកូដុង 1 ជាពតិមាន សំរាប់កំនត់អាស៊ីតអាមីនេ ប៉ុន្មាន ? ហេតុដូចម្តេច បានជាអាស៊ីតអាមីនេ 1 អាចកំនត់ដោយត្រីធាតុច្រើន (កូដុងច្រើន) ?

+ ក្រមសេនេទិច ត្រូវប្រើប្រាស់អក្សរ 4 តួ (A , U , C , G) បង្កើតបានជាកូដុង 64 ។

+ កូដុង 1 ជាពតិមានសំរាប់កំនត់អាស៊ីតអាមីនេ 1 ។

+ បានជាអាស៊ីតអាមីនេមួយ អាចកំនត់ដោយត្រីធាតុច្រើនពីព្រោះកូដុងមានច្រើនគឺ 64 ឯអាស៊ីតអាមីនេ មានតែ 20 ប៉ុណ្ណោះ ។

239

ហេតុអ្វីបានជាក្រមសេនេទិច មានលក្ខណៈជាសកល ?

- ពីព្រោះក្រមសេនេទិច ត្រូវបានប្រើប្រាស់រួមគ្នាគ្រប់ប្រភេទភាវរស់ទាំងអស់ ចាប់ពីបាក់តេរីទៅមនុស្ស ចំពោះសត្វក៏ដូចជារុក្ខជាតិ ។

240

តើធាតុកោសិកាអ្វី ដែលចូលរួមសំយោគប្រូតេអ៊ីន ? វាមាននាទីជាអ្វីដែរ ? តើវាស្ថិតនៅដូចម្តេចខ្លះក្នុងស៊ីតូប្លាស ? តើរីបូសូមដែលនៅសេរីដោយគ្មានភ្ជាប់ទៅ នឹង ARNm អាចសំយោគប្រូទីតបាន ឬទេ ? ពីព្រោះអ្វី?

- គឺជារីបូសូម

+ វាមាននាទីជារោងជាង គឺជាកន្លែងសំរាប់សំយោគប្រូតេអ៊ីន ។

www.facebook.com/7khmer
Fb page : Entertainment And Knowledge

+ វាស្ថិតនៅជាសេរីនៅក្នុងស៊ីតូប្លាស ប៉ុន្តែខ្លះទៀតស្ថិតនៅតាមផ្នែកក្រៅនៃរ៉េទីគុយឡូមអង់ដូប្លាស ។

+ មិនអាចសំយោគប្រូទីតបានទេព្រោះ គ្មាន ARNm [illegible]
241 [illegible]

តើរីបូសូម មានប៉ុន្មានផ្នែក ? ផ្នែកនីមួយៗបង្កើតឡើងពីអ្វីខ្លះ ?

+ រីបូសូមមាន 2 ផ្នែក :

- ឯកតារងធំ

- ឯកតារងតូច

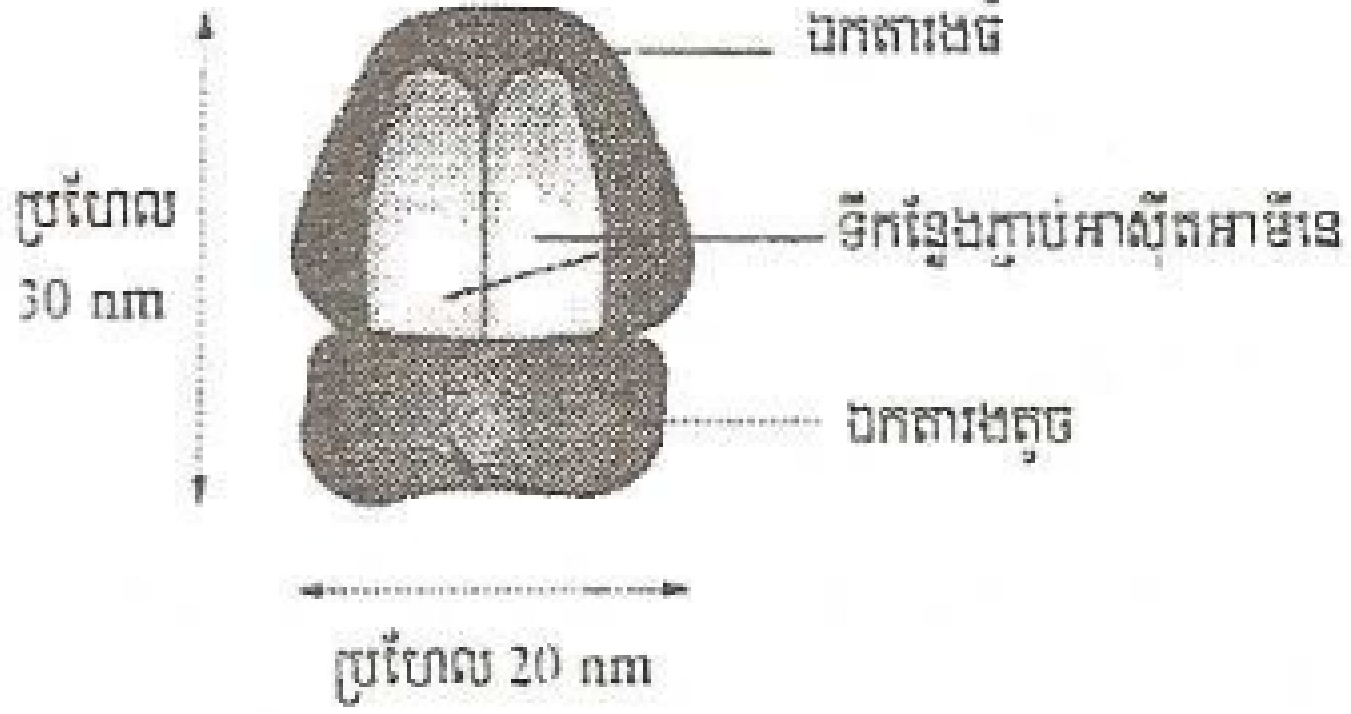

+ ឯកតារងធំកើតពី :

- ARNr 3 ម៉ូលេគុល

- ប្រូតេអ៊ីន 45

+ ឯកតារងតូចកើតពី :

- ARNr 1 ម៉ូលេគុល + ប្រូតេអ៊ីន 33

242

ចូរនិយាយពីកំណើតរីបូសូម ។

រីបូសូមបង្កពីឯកតារងពីរ ដែលកើតពីបណ្តុំ ARNr និងប្រូតេអ៊ីន ។

- ប្រូតេអ៊ីនរីបូសូម កើតនៅក្នុងស៊ីតូប្លាស បន្ទាប់មកវាធ្វើដំណើរ ចូលទៅក្នុងណ្វៃយ៉ូ

- ARNr កើតនៅក្នុងនុយក្លេអូលនៃណ្វៃយ៉ូ

នៅក្នុងនុយក្លេអូលនៃណ្វៃយ៉ូ ប្រូតេអ៊ីន និង ARNr ភ្ជាប់ជាមួយគ្នា ដើម្បីបង្កើតជារីបូសូមពេញលេញ រួចចាកចេញពីណ្វៃយ៉ូ មកកាន់ស៊ីតូប្លាស ដើម្បីបំពេញមុខងារជារោងចក្រសំយោគប្រូតេអ៊ីន ។

 ជា គីមសៀង

www.facebook.com/7khmer
Fb page : Entertainment And Knowledge

(243)

កាលណារីបូសូមតគ្នាភ្ជាប់ដោយ ARNm តើគេហៅថាអ្វី ? ហេតុអ្វីបានជាការ បំបែកប៉ូលីសូមដោយរីបូនុយក្លេអាស ការសំយោគប្រូតេអ៊ីនត្រូវបានបញ្ឈប់ ?

+ កាលណារីបូសូមតគ្នាភ្ជាប់ដោយ ARNm គេហៅថាប៉ូលីសូម ។

+ ពីព្រោះម៉ូលេគុល ARNm ដែលផ្ទុកតំនល់ដាប់នុយក្លេអូទីតសំរាប់កំនត់លំដាប់អាស៊ីតអាមីនេ ក្នុងម៉ូលេគុលប្រូតេអ៊ីន ត្រូវបានបំផ្លាញដោយសារ រីបូនុយក្លេអាសដែលជាអង់ស៊ីមអ៊ីដ្រូលីស ARN ។

(244)

តើ ARN ដឹកនាំ (ARNt) មានទំរង់ដូចម្តេច ? ទំរង់របស់វាបង្ហាញនូវលក្ខណៈពិសេស 2 ដែលមានមុខងារអ្វីខ្លះ ?

ARNt បង្កដោយច្រវាក់ រីបូនុយក្លេអូទីត១ ខ្សែ ។ ច្រវាក់នេះបត់បែនក្នុង លំហមានរាងជាដុំដោយចុងម្ខាងមានកន្លែងសំរាប់ភ្ជាប់អាស៊ីតអាមីនេ ឯចុងម្ខាងទៀតបត់ជាកំពក 3 កំពកកណ្តាលមានអង់ទីកូដុង ។ ARNt ជាម៉ូលេគុលខ្លីជាងគេ មានចំនួននុយក្លេ អូទីតតែពី 70 – 80 ។

<u>លក្ខណៈពិសេស 2 របស់ ARNt មានមុខងារសំខាន់ពីរយ៉ាង :</u>

- ចុងម្ខាងនៃម៉ូលេគុល សំរាប់ភ្ជាប់អាស៊ីតអាមីនេយ៉ាងប្រភេទមួយ ។
- ចុងម្ខាងទៀតមានអង់ទីកូដុង សំរាប់ទទួលស្គាល់កូដុងនៃ ARNm (តាមបាសបំពេញគ្នា) ។

ដូច្នេះ ARNt ជាអ្នកដឹកនាំអាស៊ីតអាមីនេទៅនឹងកូដុង ARNm ។

www.facebook.com/7khmer

Fb page : Entertainment And Knowledge

(245)

ក្នុងការភ្ជាប់អាស៊ីតអាមីនេលើ ARNt តើត្រូវមានអន្តរាគមន៍ពីអ្វីខ្លះ?

ការភ្ជាប់អាស៊ីតអាមីនេ ១ លើARNt ប្រព្រឹត្តឡើងដោយអន្តរាគមន៍នៃអង់ស៊ីមយថាប្រភេទៈ អាមីណូអាស៊ីល ARNt សាំងតេតាស (Aminoacyl ARNt synthétase) និង ATP ដែលផ្តល់ថាមពលក្នុងការភ្ជាប់ ។

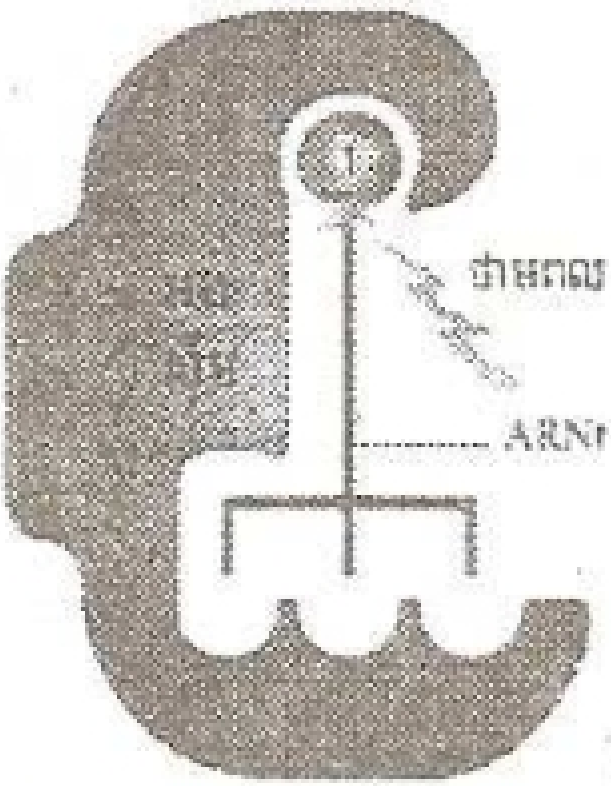

(246)

ក្នុងការសំយោគប្រូតេអ៊ីន ហេតុអ្វីចាំបាច់ត្រូវមានARNt ?

ពីព្រោះក្នុងការសំយោគប្រូតេអ៊ីន ARNm មានតំនលំដាប់កូដុងដែលជាប្លង់សំរាប់កំនត់តំនលំដាប់អាស៊ីតអាមីនេក្នុងម៉ូលេគុលប្រូតេអ៊ីន ប៉ុន្តែអាស៊ីតអាមីនេនីមួយៗមិនអាចស្គាល់កូដុងដោយផ្ទាល់លើARNm បានទេ ។ ដូចនេះចាំបាច់ត្រូវមានARNt ជាអ្នកដឹកអាស៊ីតអាមីនេ ដោយមានអង់ទីកូដុងសំរាប់ទទួលស្គាល់ជាមួយកូដុង ARNm ។

(247)

ចូរនិយាយពីម៉ូលេគុលARN នាំសារ (ARNm) និងនាទីរបស់វា ។

ARNនាំសារ (ARNm) ជាប្រភេទមួយនៃអាស៊ីតរីបូនុយក្លេអ៊ិច ។ វាជាច្រវាក់រីបូនុយក្លេអូទីតទោល ដែលចំលងតំនលំដាប់នុយក្លេអូទីតពីច្រវាក់ម្ខាងនៃសែន តាមគោលការណ៍បំពេញបាស A-U, C-G ។ ARNm អាចកើតពីនុយក្លេអូទីតប្រហែល150 ទៅ រាប់ពាន់នុយក្លេអូទីត ។ វាមានអាយុខ្លីជាង ARNr ។

ARNm មាននាទីបញ្ជូនពត៌មានសេនេទិចពីណ្វៃយ៉ូទៅកាន់រីបូសូមដើម្បីកំនត់តំនលំដាប់

www.facebook.com/7khmer
Fb page : Entertainment And Knowledge

អាស៊ីតអាមីនេ ក្នុងម៉ូលេគុលប្រូតេអ៊ីន ។

248

ចូរនិយាយពីម៉ូលេគុលARN រីបូសូម(ARNr) និងនាទីរបស់វា ។

ARNr ជាប្រភេទមួយនៃអាស៊ីតរីបូនុយក្លេអ៊ិច ។វាសំយោគចេញពីច្រវ៉ាក់ម្ខាងនៃសែនក្នុងនុយក្លេអូលនៃណ្វៃយ៉ូ ។ ARNr ជាច្រវ៉ាក់រីបូនុយក្លេអូទីត1ខ្សែ អាចកើតពីរីបូនុយក្លេអូទីតប្រហែល ពី2500-5000 ។ វាជាម៉ូលេគុលដែលមានអាយុវែងជាង ARNm និង ARNt ។

ARNr មាននាទីចូលរួមជាមួយប្រូតេអ៊ីនដើម្បីបង្កើតជារីបូសូម ។

249

តើចលនការសំយោគច្រវ៉ាក់ប៉ូលីប៉ិបទីតមួយ មានប៉ុន្មានដំណាក់ ?

+ មានបីដំណាក់: - ដំណាក់ដំបូង - ដំណាក់លូតវែង - ដំណាក់បញ្ចប់

250

តើដំណាក់ការដំបូងនៃការសំយោគប្រូតេអ៊ីនកើតឡើងយ៉ាងដូចម្តេច ?

ចាប់ផ្តើមដោយឯកតារងទាំង 2នៃរីបូសូម ទៅភ្ជាប់នឹងកូដុងផ្តើម AUG លើម៉ូលេគុល ARNm ។ បន្ទាប់មកARNtបានដឹកមេត្យូនីនមកភ្ជាប់ នឹងកូដុងផ្តើមដោយត្រូវ អង់ទីកូដុងទៅនឹងកូដុងនៅក្នុងប្រហោងទី១ (ទីកន្លែង P)នៃរីបូសូម ។

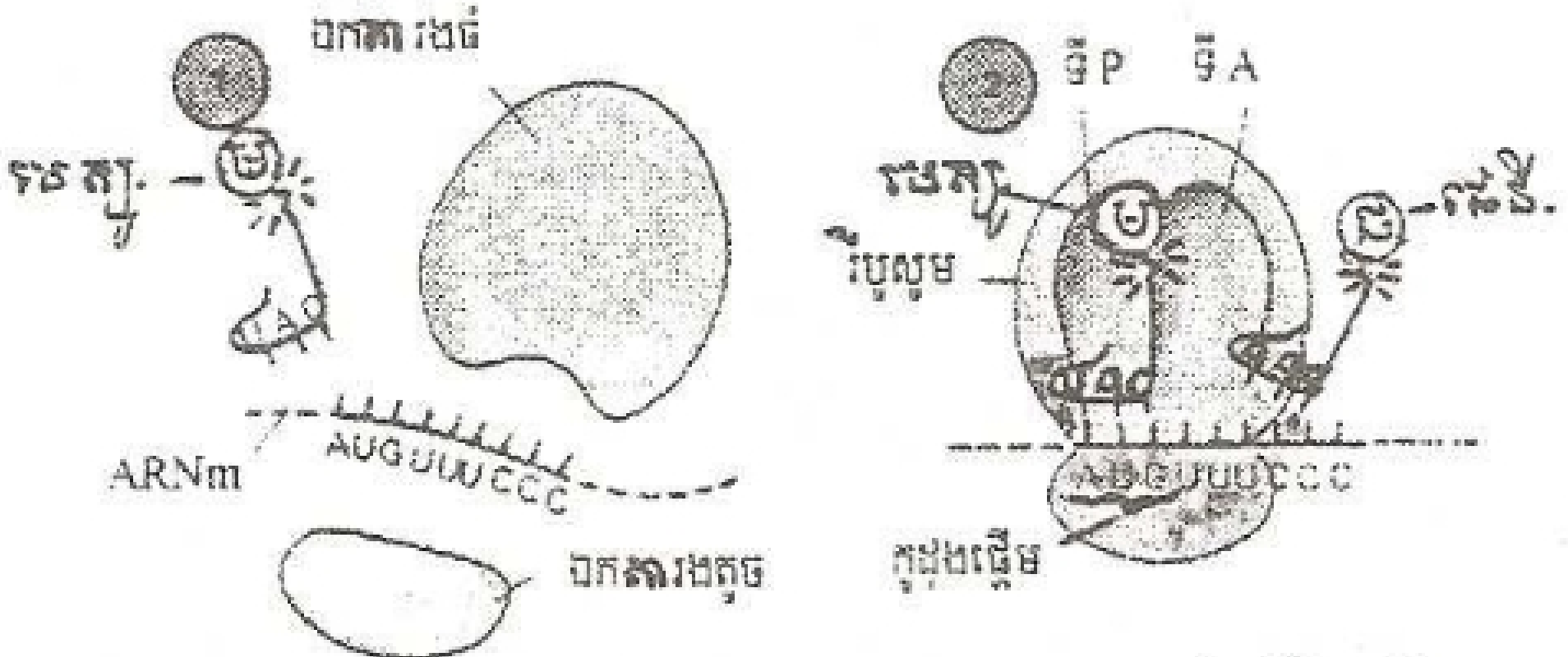

ជា: គីមអៀង

www.facebook.com/7khmer
Fb page : Entertainment And Knowledge

251

តើដំណាក់លូតវែងនៃការសំយោគប្រូតេអ៊ីន មានដំណើរយ៉ាងដូចម្តេច ?

ការបកប្រែកូដុង និងការភ្ជាប់អាស៊ីតអាមីនេកើតមានជាបន្តបន្ទាប់ :

- ARNt ថ្មីដឹកអាស៊ីតអាមីនេទៅ ដោយភ្ជាប់អង់ទីកូដុង ទៅនឹងកូដុងទី 2 នៃARNm នៅក្នុងប្រហោងទី 2 នៃរីបូសូម (កន្លែងA) ។
- ចំនងប៉ិបទីតកើតឡើងរវាងអាស៊ីតអាមីនេទី 1 និងទី 2 ដោយសារអង់ស៊ីម ។
- រីបូសូមផ្លាស់ទីទៅលើកូដុងមួយទៀត ធ្វើអោយទីកន្លែង A ទំនេរ ។ ARNt ទី 3 ដែលដឹកអាស៊ីតអាមីនេថ្មីមួយទៀត មកភ្ជាប់ជាមួយកូដុងបន្ទាប់ត្រង់ទីកន្លែង A ។

បំលាស់ទីនៃរីបូសូមលើ ARNm ធ្វើអោយមានអំនានកូដុងបន្តបន្ទាប់ ដូចរបៀបខាងលើ នាំអោយមានកំនច្រវាក់ប៉ូលីប៉ិបទីតមួយ ។

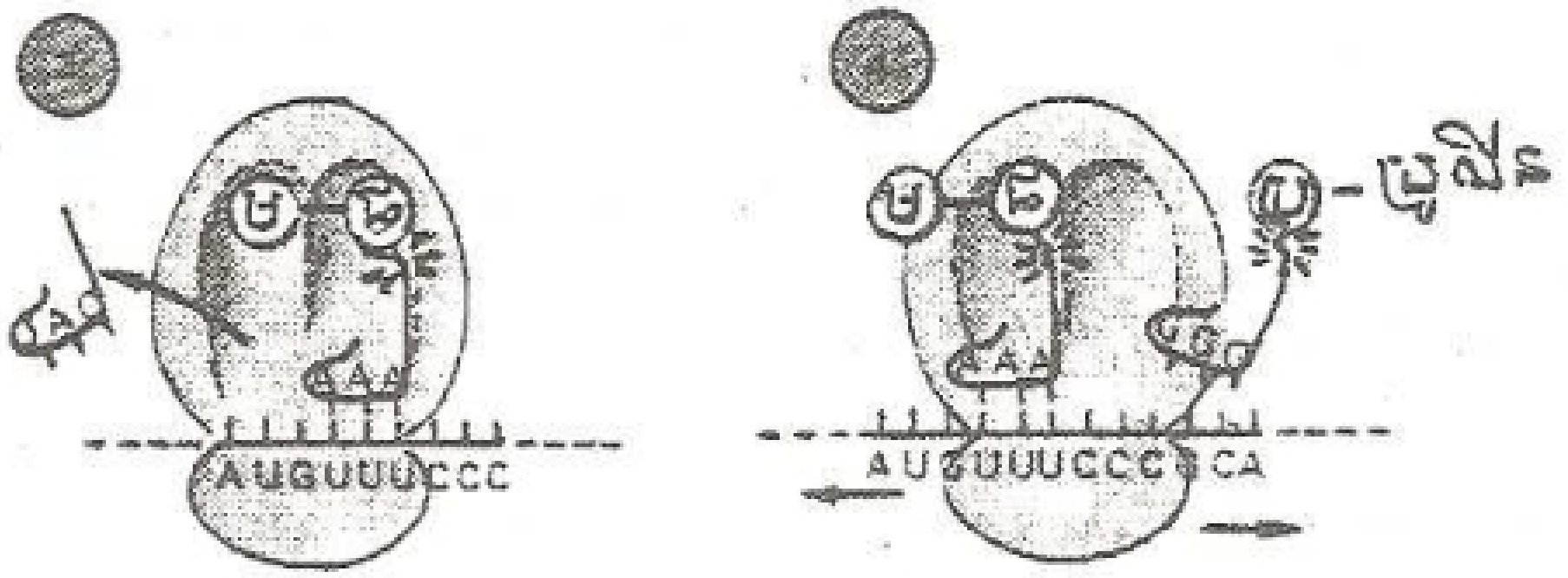

252

តើដំនាក់បញ្ចប់នៃការសំយោគប្រូតេអ៊ីន ប្រព្រឹត្តទៅដូចម្តេច ?

កាលណារីបូសូម ផ្លាស់ទីទៅដល់កូដុងស្តុប (UAA ឬ UAG) ធាតុសាំញ៉ាំ ARNm រីបូសូម ARNt ច្រវាក់ប៉ូលីប៉ិបទីត បានបែកចេញពីគ្នា ។ ការសំយោគប្រូតេអ៊ីនត្រូវ បាន បញ្ចប់ ។ រពេចនោះ មេត្យូនីន (អាស៊ីតអាមីនេជាគូ នឹងកូដុងផ្តើម) ក៏ផ្តាច់ចេញពីច្រវាក់ប៉ូលី

www.facebook.com/7khmer
Fb page : Entertainment And Knowledge

ប៉ិបទីត ដែលទើប នឹងសំយោគរួច ។ ច្រវាក់អាស៊ីតអាមីនេដែលទើប នឹងកកើតជាទំរង់ទី I រួច បត់បែនក្នុងលំហជាទំរង់ទី II រួចទី III សំរាប់ប្រើប្រាស់ ។

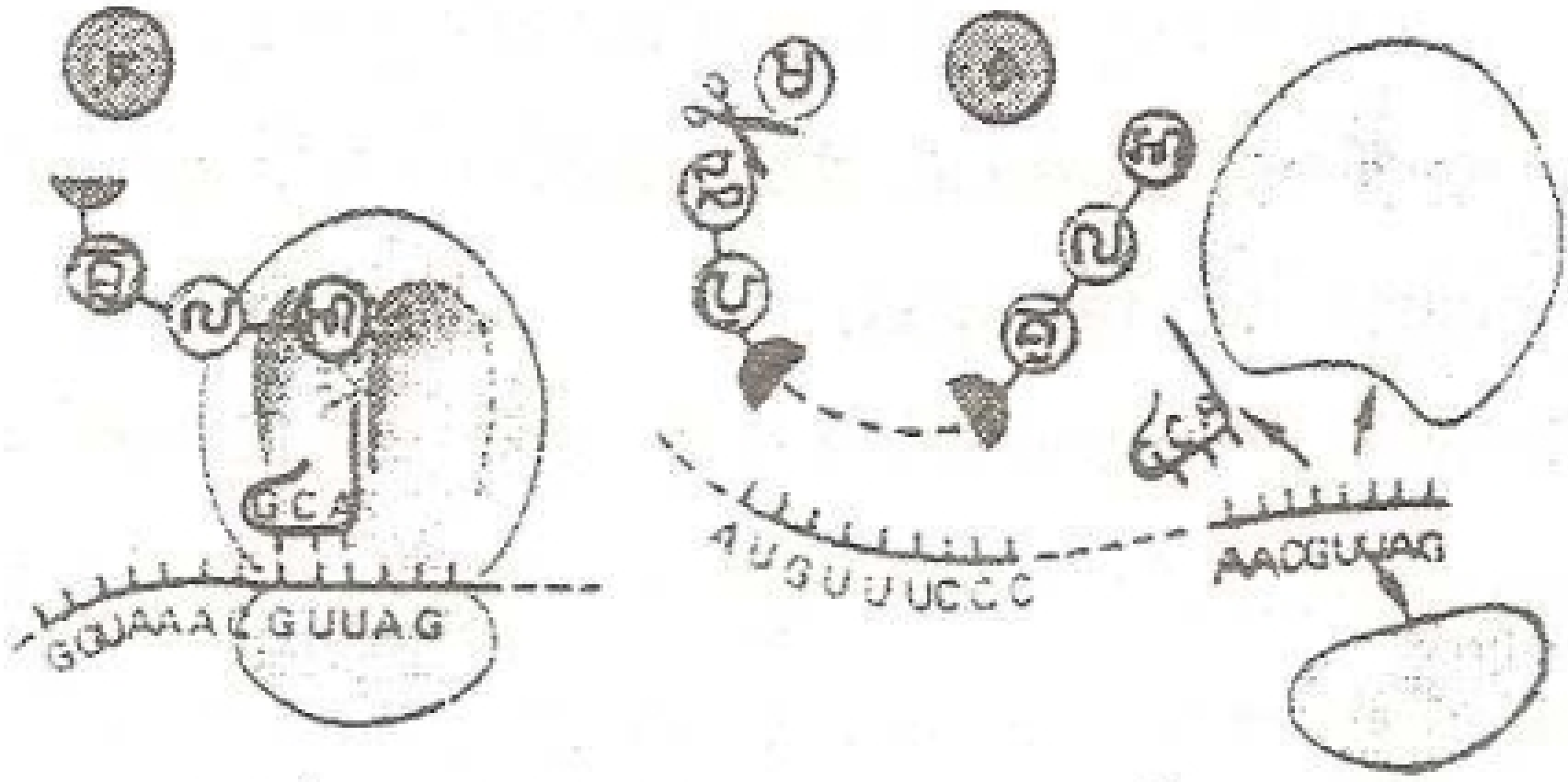

ល: ល្យូស៊ីន គ្ល: គ្លីស៊ីន លៈ លីស៊ីនៈ អា: អាឡានីន

(253)

ហេតុអ្វីបានជា កាលណារីបូសូមផ្លាស់ទីទៅដល់កូដុងស្តុប សំយោគប្រូតេអ៊ីនត្រូវបញ្ចប់ ?

ពីព្រោះពេលរីបូសូមមកដល់កូដុងស្តុបពេលនោះ ARNm រីបូសូម ARNt និង ច្រវាក់ប៉ូលីប៉ិបទីត ត្រូវបានបំបែកចេញពីគ្នា ។

(254)

គេថា ADN ដឹកនាំសំយោគប្រូតេអ៊ីនបានច្រើនប្រភេទហេតុអ្វី ?

ពីព្រោះម៉ូលេគុល ADN មានសែនជាច្រើនដែលសុទ្ធតែខុសគ្នា ហើយប្រភេទសែនផ្សេង១គ្នានេះផ្ទុកទៅដោយពត៌មានសំរាប់កំនត់ទ្រង់ទ្រាយប្រូតេអ៊ីនយ៉ាងប្រភេទផ្សេង១គ្នាដែរ ។

(255)

តើចលនការគីមីនៃបាតុភូតតំនពូជ មានអ្វីខ្លះ ?
ផលប្រយោជន៍នៃទំនាក់ទំនងចលនការគីមីទាំងនេះ ។

www.facebook.com/7khmer
Fb page : Entertainment And Knowledge

- គឺចលនការស្វ័យតំលើងទ្វេនៃ ADN និងចលនការសំយោគប្រូតេអ៊ីន ។

- ទំនាក់ទំនងនៃចលនការតីមីទាំង 2 នេះមានប្រយោជន៍ ធានានូវភាពដូចគ្នារវាងកូន និងមេបា ។

256

ហេតុដូចម្តេចបានជាគេថា សែនជាកត្តាកំនត់លក្ខណៈតពូជនៃភាវរស់ ?

ពីព្រោះសែន ជាអង្គត់នៃម៉ូលេគុល ADN ដែលមានតំនលំដាប់នុយក្លេអូទីត យ៉ាងជាក់លាក់សំរាប់កំនត់តំនលំដាប់បីបួនុយក្លេអូទីត ARNm ហើយតំនលំដាប់នេះ កំនត់នូវតំនលំដាប់អាស៊ីតអាមីនេក្នុងម៉ូលេគុលប្រូតេអ៊ីន ដែលជាម៉ូលេគុលមាននាទីកំនត់លក្ខណៈតពូជរបស់ភាវរស់ ។

សែន ⟶ ARNm ⟶ ប្រូតេអ៊ីន ⟶ លក្ខណៈ

257

ហេតុដូចម្តេច បានជាគេថា ADN ជាសំភារៈសេនេទិច (សំភារៈតំនពូជ) ?

ពីព្រោះម៉ូលេគុល ADN មានតំនលំដាប់នុយក្លេអូទីត.... (មើលបន្តចំលើយសំនួរទី256)។

258

ហេតុដូចម្តេច បានជាគេចាត់ទុកថា : ដំណើរសំយោគប្រូតេអ៊ីនជាដំណើរបំនកប្រែ ?

ពីព្រោះម៉ូលេគុលដំបូង (ADN) ដែលដឹកនាំសំយោគប្រូតេអ៊ីនមានផ្ទុកពត៌មានសេនេទិចក្រោមរូបរាង ជាតំនលំដាប់នុយក្លេអូទីត តំនលំដាប់នេះត្រូវចំលងចេញជាម៉ូលេគុល ARNm ដែលត្រូវបកប្រែបន្តអោយទៅជាតំនលំដាប់ អាស៊ីតអាមីនេក្នុងម៉ូលេគុល ប្រូតេអ៊ីនដោយមាន ARNt ជាអ្នកតំរូវក្នុងបំនកប្រែ ។

www.facebook.com/7khmer
Fb page : Entertainment And Knowledge

សំគាល់ :

អង្កត់ ADN { - CAA - CCA - ACA- (ច្រវ៉ាក់ចំលង)
- GTT - GGT - TGT-

ចំនុក ប្រែ { ARNm = - GUU - GGU - UGU - ម៉ូលេគុលចំលង
ARNt = - CAA - CCA - ACA -ម៉ូលេគុលដំរូវ
ប្រូតេអ៊ីន= វ៉ាលីន - គ្លីស៊ីន - ស៊ីស្តេអ៊ីន -

(259)

តើចលនការណ៍ ដែលធានាអោយកោសិកាកូនអាចសំយោគប្រូតេអ៊ីនដូចគ្នា នឹងប្រូតេអ៊ីនកោសិកាមេ ? ចូរពន្យល់ ។

+ គឺចលនការ មីតូស ។

+ ពីព្រោះមីតូសផ្តល់ដល់កោសិកាកូន នូវក្រូម៉ូសូម ឬ ADN ដូចកោសិកាមេ ។

ម៉ូលេគុល ADN ផ្ទុកពត៌មានសេនេទិច សំរាប់កំនត់ទំរង់ប្រូតេអ៊ីន ដូច្នេះកោសិកាកូនដែលមាន ADN ដូចកោសិកាមេ ត្រូវសំយោគ ប្រូតេអ៊ីនដូចកោសិកាមេដែរ ។

(260)

ហេតុដូចម្តេច បានជាគេចាត់ទុកក្រូម៉ូសូមមាននាទីសំខាន់ក្នុងការចំលងលក្ខណៈតំណពូជនៃភាវរស់ពីជំនាន់មួយៗទៅជំនាន់មួយ ?

ពីព្រោះក្រូម៉ូសូម មានធាតុបង្កើតមីជាម៉ូលេគុល ADN ដែលមានផ្ទុកពត៌មានសេនេទិចសំរាប់កំនត់លក្ខណៈតំណពូជ ។ ក្រូម៉ូសូម ត្រូវបានបញ្ជូនទៅអោយស៊ីកូតតាមរយៈកាម៉ែតញីឈ្មោលក្នុងពេលបង្កកំនើត ។ ស៊ីកូតធ្វើមីតូស ដែលធ្វើអោយគ្រប់កោសិកានៃសារពាង្គកាយកូនមាន ក្រូម៉ូសូម (ADN) សំរាប់កំនត់លក្ខណៈ ដូចសារពាង្គកាយមេ ។

www.facebook.com/7khmer
Fb page : Entertainment And Knowledge

(261)

គេថាអាស៊ីតនុយក្លេអ៊ិច មាននាទីសំខាន់បំផុត ក្នុងបាតុភូតនៃជីវិត ។ ចូរអ្នកពន្យល់ ។

បាតុភូតនៃជីវិត គឺជាការផ្លាស់ប្តូរជាថ្មី នៃសមាសភាពប្រូទីត ក្នុងសារពាង្គកាយ ។ ប្រូទីត ត្រូវបានសំយោគនៅលើរីបូសូម ។ តើអ្វីទៅដែលចូលរួមក្នុងការសំយោគនេះ ? គឺអាស៊ីតនុយក្លេអ៊ិច ដែលមាន ADN ជាពុម្ពគំរូ បង្កើតម៉ូលេគុល ARNm ។ ARNm ជាអ្នកបញ្ជូនពត៌មានសេនេទិចទៅកាន់រីបូសូម ឯARNt ជាអ្នកដឹកនាំអាស៊ីតអាមីនេទៅកាន់រីបូសូម ហើយ ARNr ជាសមាសធាតុបង្កើរីបូសូមដែលជារោងជាង សំយោគ ។

ដូចនេះយើងឃើញថាប្រូទីតកើតមានឡើងដោយសារអាស៊ីតនុយក្លេអ៊ិច (ADN និង ARN) ។ ហេតុនេះទើបគេថាអាស៊ីតនុយក្លេអ៊ិច មាននាទីសំខាន់ក្នុងបាតុភូតជីវិត ។

(262)

តើចលនការសំយោគប្រូតេអ៊ីន ប្រព្រឹត្តទៅបានដោយសារអ្វីខ្លះ ?(ចូរសង្ខេបនាទី ដែលចូលរួម) ។

ចលនការសំយោគ ប្រូតេអ៊ីន ប្រព្រឹត្តបានដោយសារ :

- ADN : ជាម៉ូលេគុលផ្ទុកពត៌មានសេនេទិចសំរាប់សំយោគចេញនូវម៉ូលេគុល ARN
- ARNm: ចំលងពត៌មានសេនេទិច រួចបញ្ជូនទៅកាន់រីបូសូម
- ARNt: ដឹកនាំអាស៊ីតអាមីនេ និងតំរូវអង់ទីកូដុង ជាមួយកូដុង ARNm ។
- ARNr: ចូលរួមជាមួយប្រូតេអ៊ីន បង្កើតជារីបូសូម
- រីបូសូម: រោងជាងសំយោគប្រូតេអ៊ីន
- អង់ស៊ីម: ជួយសំរួលក្នុងការសំយោគ
- ATP: ផ្តល់ថាមពលក្នុងការសំយោគ

ជា គឹមសឿន

www.facebook.com/7khmer
Fb page : Entertainment And Knowledge

នេះជាទិដ្ឋភាពរួមនៃចលនការសំយោគប្រូតេអ៊ីន ។

ក. តើ 1 , 2 , 3 , 4 , 5 , 6 , 7 , 8 , 9 ជាអ្វី ?

ខ. ចេញពីរូបភាពនេះ តើ ARN ទាំងបីប្រភេទមានកំណើតនៅឯណា ? សំយោគ ចេញពីម៉ូលេគុលអ្វី ?

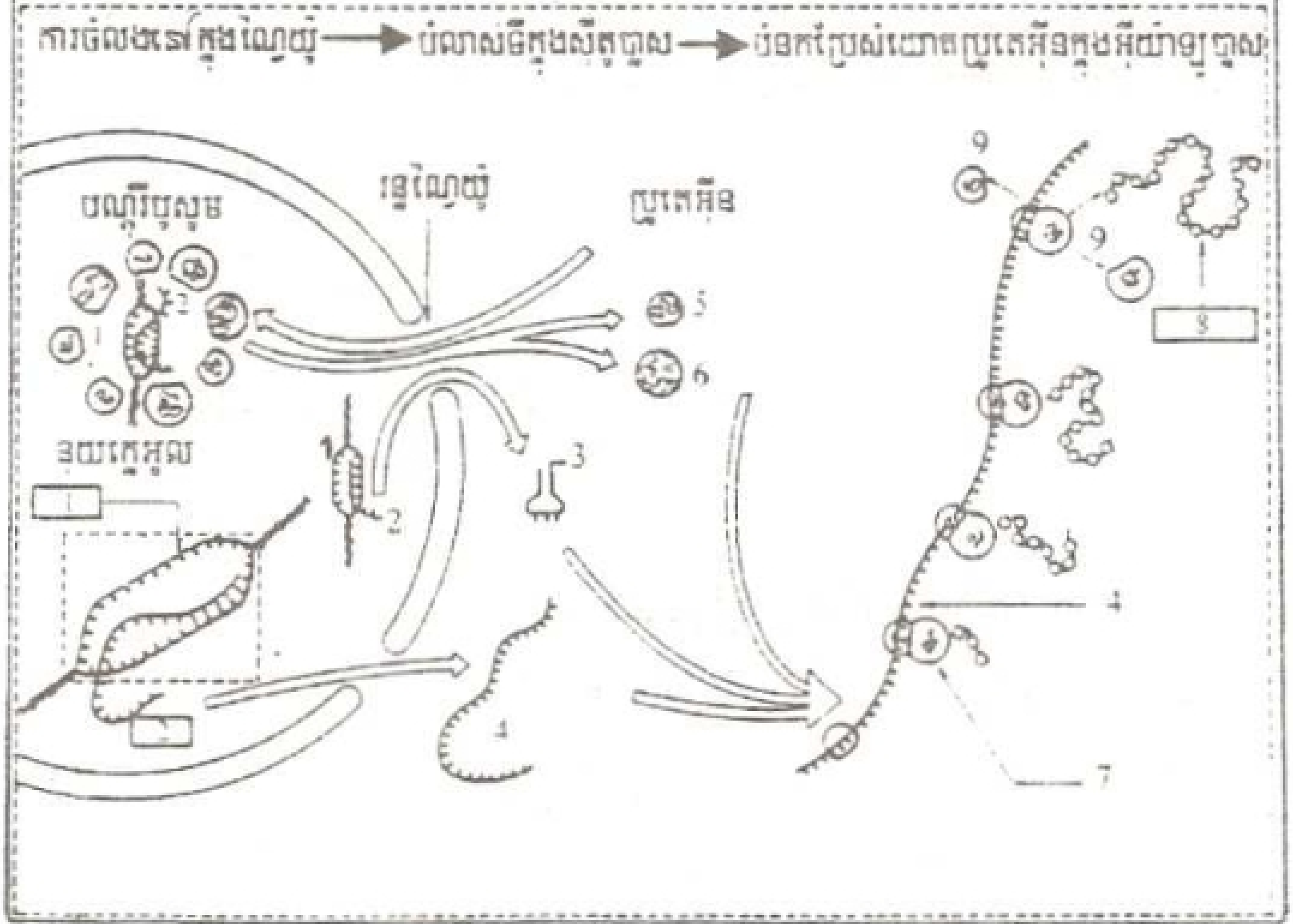

ក. 1 = ADN

2 = ARN

3 = ARNt

4 = ARNm

5- ឯកតារងតូចនៃរីបូសូម

6- ឯកតារងធំនៃរីបូសូម

7- ឯកតារងទាំង២ភ្ជាប់នឹង ARNm កំពុងដំណើរការ

8- ប៉ូលីប៉ិបទីត

9- ឯកតារងទាំងផ្ដាច់ចេញពីគ្នា

ខ. ចេញពីរូបភាពនេះ គឺ ARN ទាំងបីប្រភេទមានកំណើតនៅក្នុងណ្វៃយ៉ូ ។ វាសំយោគចេញពីម៉ូលេគុល ADN ។

www.facebook.com/7khmer
Fb page : Entertainment And Knowledge

ជា គឹមអៀង

264

តើគ្រប់កោសិកាទាំងអស់នៃសារពាង្គកាយតែមួយ មានសែនដូចគ្នា រឺ ទេ ? ពីព្រោះអ្វី ?

គ្រប់កោសិកាទាំងអស់នៃសារពាង្គកាយតែមួយមានសែនដូចគ្នា ពីព្រោះកោសិកាទាំងអស់មានកំណើតពីស៊ីកូតតែមួយ ដែលចែកខ្លួនជាបន្តបន្ទាប់តាម មីតូស ។ មីតូសជាចលនការរក្សាបាននូវភាពដូចគ្នានៃក្រូម៉ូសូម ហេតុនេះ ADN ត្រូវតែដូចគ្នានាំអោយសែនដូចៗគ្នាដែរ នៅគ្រប់កោសិកាកូន ។

265

អាំងស៊ុយលីនជាអរម៉ូនដែលសំយោគចេញតែពីកោសិកាលំពែង ។

ក. តើអាំងស៊ុយលីន មានកំណើតជាអ្វី ?

ខ. តើសែនដែលសំយោគចេញអរម៉ូនខាងលើនេះមានតែនៅក្នុងកោសិកាលំពែងនេះ ឬ អ្វី ? ចូរបញ្ជាក់អំនះអំណាងរបស់អ្នក ។

ក. អរម៉ូននេះ មានកំណើតជាប្រូតេអ៊ីន ។

ខ.សែនដែលសំយោគអាំងស៊ុយលីននេះ មិនមែនមានតែនៅក្នុង កោសិកាលំពែងទេគឺមាននៅគ្រប់កោសិកាលូតលាស់នៃសារពាង្គកាយ ។ ប៉ុន្តែនៅក្នុងកោសិកាផ្សេងទៀត សែននេះមិនមានសកម្មភាពទេ គឺកោសិកាមានមុខងារខុសៗគ្នា ក្នុងការតំរូវសំយោគប្រូតេអ៊ីនហើយវាសំយោគតែប្រូតេអ៊ីនណាដែលចាំបាច់ និងនៅពេលដែលវាត្រូវការ ។

ហេតុនេះហើយបានជាអរម៉ូនខាងលើ តំរូវសំយោគចេញតែពីសែននៃកោសិកាលំពែងប៉ុណ្ណោះ ។

266

កោសិកាលំពែង មានសែនដឹកនាំសំយោគរសលំពែង ដែលជារសរំលាយអាហារ ។ តើសែននេះដឹកនាំសំយោគគ្រប់ពេលវេលា រឺ ទេ ? ចូរពន្យល់ ។

www.facebook.com/7khmer
Fb page : Entertainment And Knowledge

សែននេះមិនសំយោគរសល់ពែងគ្រប់ពេលវេលាទេ ។ សែននេះមានសកម្មភាពតែពេលណាដែលពោះវៀនត្រូវការរសរំលាយអាហារប៉ុណ្ណោះ ។

ពីព្រោះ កោសិកានីមួយៗ សំយោគតែប្រូតេអ៊ីនណាដែលចាំបាច់ចំពោះវា និងនៅពេលដែលវាត្រូវការគឺវាមានការតំរូវសំយោគប្រូតេអ៊ីន ។

267

ក្នុងការតំរូវសំយោគប្រូតេអ៊ីន តើមានសែនប៉ុន្មាន ចូលរួម ?

មានសែន 3 យ៉ាង :

- សែនទំរង់ : ជាសែនដែលមានពត៌មានសេនេទិច សំរាប់ដឹកនាំសំយោគប្រូតេអ៊ីន ។
- សែនប្រតិបត្តិការ : ជាសែនដែលមាននាទីបញ្ជាលើសែនទំរង់ ។
- សែនតំរូវ រឺ សែនត្រួតពិនិត្យ : ជាសែនដែលទទួលឥទ្ធិពលពីស៊ីតូប្លាស ហើយមាននាទីបញ្ជាទៅលើសែនប្រតិបត្តិការ ។

268

ហេតុអ្វីបានជាគេចាត់ទុកថា "តំនពូជ គឺជាការបញ្ជូនពត៌មានពីណៃយ៉ូទៅកាន់រីបូសូម" រឺជា "ដំណើរបញ្ជូនទំរង់ប្រូតេអ៊ីន ?"

តំនពូជ ជាបាតុភូតមួយដែលមេបាបញ្ជូនបណ្តុំលក្ខណៈរបស់ខ្លួន (បញ្ជូនទំរង់ប្រូតេអ៊ីន) ទៅអោយកូននៅជំនាន់ក្រោយ ។

ការបញ្ជូននេះ កើតឡើងតាមរយៈកាម៉េតមេបាដែលរលាយចូលគ្នា បង្កើតជាស៊ីកូត ដូច្នេះ ADN របស់ស៊ីកូត គឺជា ADN មេបាដែលមានសែនជាច្រើន ចារឹកទុកនូវពត៌មានសេនេទិច ពត៌មាននេះត្រូវបញ្ជូនពីណៃយ៉ូទៅកាន់ រីបូសូមដើម្បីសំយោគប្រូតេអ៊ីនកំនត់លក្ខណៈ សារពាង្គកាយកូន ។

ហេតុនេះ គេចាត់ទុកតំនពូជ គឺជាការបញ្ជូនពត៌មានពីណៃយ៉ូទៅកាន់រីបូសូម ។

www.facebook.com/7khmer
Fb page : Entertainment And Knowledge

269

តើមេរោគ ដែលបង្កជំងឺអេដស៍ជាអ្វី ?

វាមានទំរង់ដូចម្តេច ?

+ មេរោគបង្កជំងឺអេដស៍ គឺ ជាវីរុស HIV (Humain Immuno deficiency Virus) ។

+ វាមានទំហំ 100nm (10^{-4}mm) ។ មេរោគអេដស៍បង្កឡើងដោយ :

- ផ្នែកខាងក្រៅ (សំបកក្រៅ) ជាប្រូតេអ៊ីន
- ផ្នែកខាងក្នុង (ណៃយ៉ូ) មានប្រូតេអ៊ីន

និង ARN ពីរម៉ូលេគុល ។

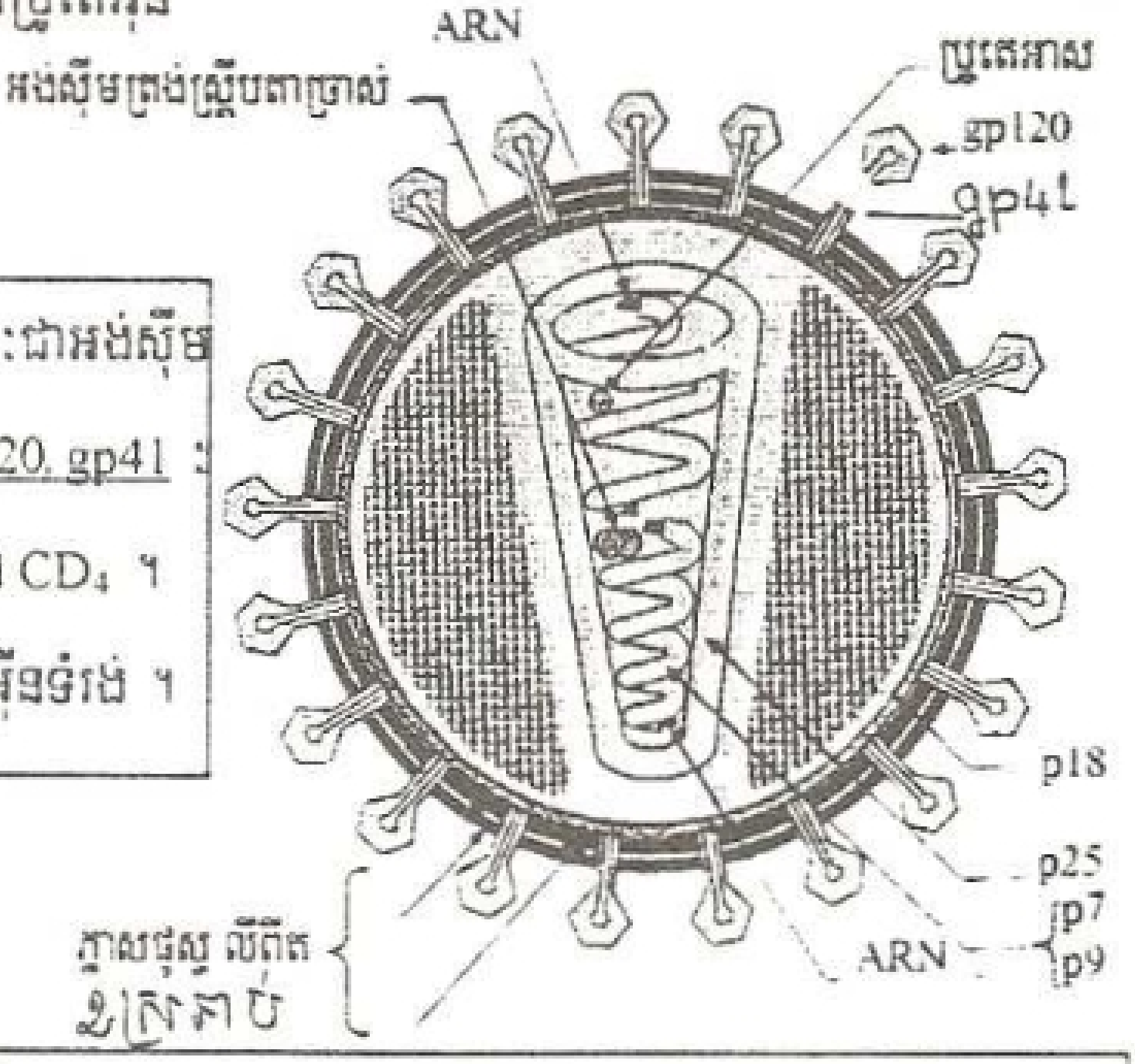

សំគាល់ : +ប្រូតេអាស :ជាអង់ស៊ីមត្រង់ស្គ្រីបតាសច្រាស ។ gp120, gp41 : ជាប្រូតេអ៊ីនសំរាប់ភ្ជាប់ទៅនឹង CD_4 ។ p18,p25,p7-p9 : ជាប្រូតេអ៊ីនទំរង់ ។

270

ក. តើសំភារៈសេនេទិច របសវីរុស HIV ជា ADN ឬ ARN ?

ខ. ហេតុអ្វីបានជាគេហៅ HIV ជារេត្រូវីរុស (rétrovirus)

ក. សំភារៈសេនេទិចរបស់វីរុស HIV ជា ARN ។

ខ. បានជាគេហៅ HIV ថាជារេត្រូវីរុស ពីព្រោះវីរុសនេះមានសំភារៈសេនេទិចជា ARN ដែលអាចចំលងទៅជា ADN ដោយអង់ស៊ីមត្រង់ស្គ្រីបតាសច្រាស ។

ជា គឹមអៀង

www.facebook.com/7khmer
Fb page : Entertainment And Knowledge

271

តើ HIV ភាគច្រើនជាបរាសិតនៃកោសិកាអ្វី ? ពេល[illegible]ទៅក្នុងកោសិកានោះហើយតើវាបន្តពូជ តាមរបៀបដូចម្ដេច ?

+ ភាគច្រើន វីរុសHIV ជាបរាសិតនៃឡាំផូស៊ីត T_4 ។

+ ពេលវាចូលទៅក្នុងឡាំផូស៊ីត T_4 វាចំលងពតិមានសេនេទិចរបស់វា ដែលជា ARN អោយទៅជា ADN ដោយអង់ស៊ីមត្រង់ស្គ្រីបតាស ។ ADN ដែលចំលងរួច (ប្រូវីរុស) ត្រូវជ្រៀតចូលទៅក្នុង ADN នៃឡាំផូស៊ីត ។ ប្រូវីរុសបញ្ជាអោយមានការផលិតវីរុសថ្មី១ជាច្រើន (សំយោគប្រូតេអ៊ីន និង ARN របស់វីរុស) ។ កាលណាវីរុស HIV កើតកាន់តែច្រើន ឡាំផូស៊ីត ផ្ទុះបែកហើយវាក៏ជ្រៀតចូលទៅក្នុងកោសិកាផ្សេង១ទៀត ។

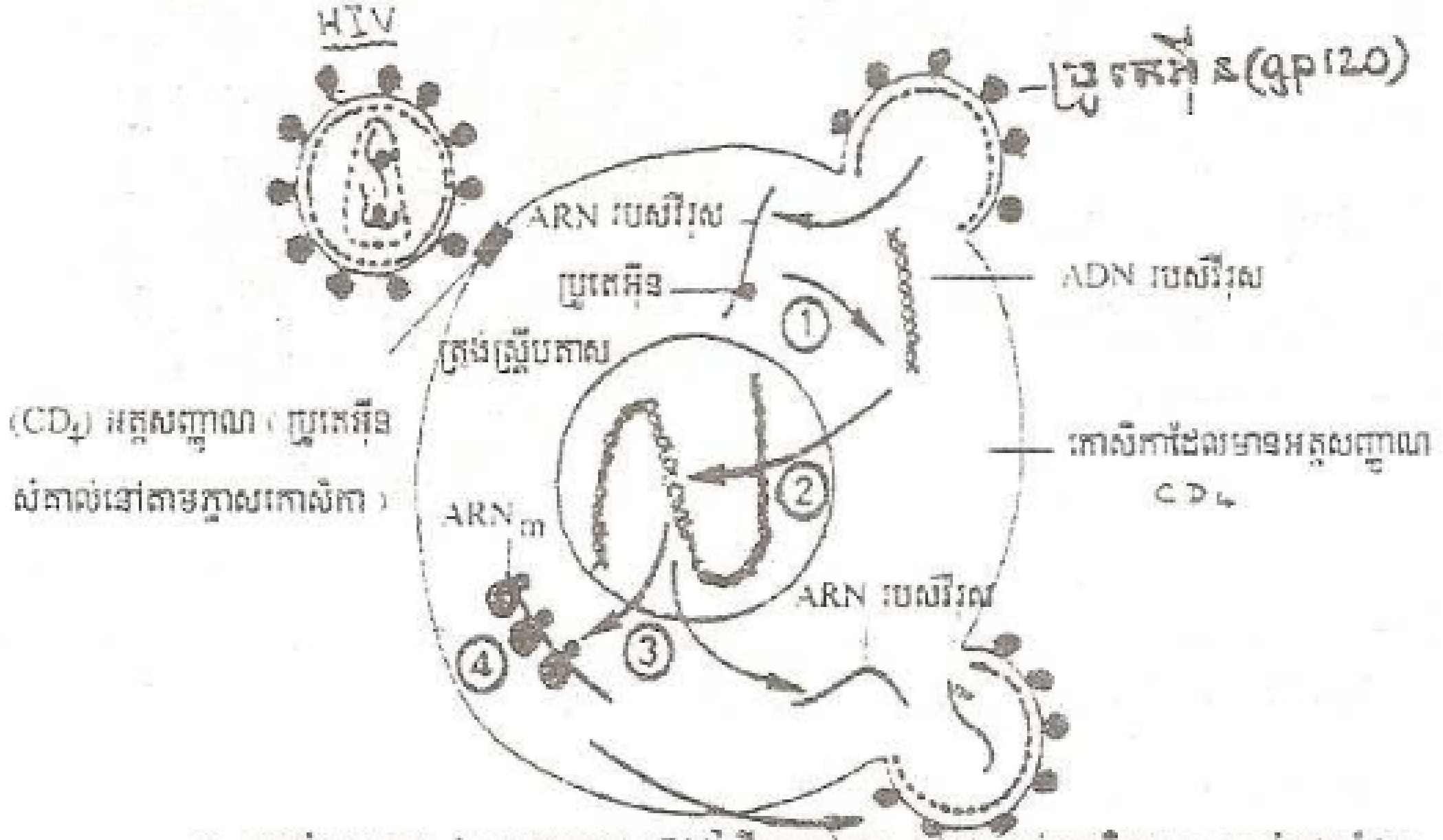

១. ការចំលងច្រាស ២. ការបញ្ចូល ADNនៃវីរុសទៅក្នុង ADN របស់កោសិការ ៣. ការចំលង(ដែលអោយជា ARN របស់វីរុស និង ARN នាំសារ) ៤. បំនកប្រែប្រូតេអ៊ីនរបស់វីរុស

ការចំលងច្រាសនៃHIV

272

តើវីរុស HIV ជ្រៀតចូលទៅក្នុងឡាំផូស៊ីត T_4 តាមរបៀបដូចម្ដេច ?

www.facebook.com/7khmer
Fb page : Entertainment And Knowledge

នៅលើស្រោមវីរុស HIV មានប្រូតេអ៊ីនម្យ៉ាង (gp 120) ដែលបានភ្ជាប់យ៉ាងខ្លាំងទៅនឹង CD_4 ដែលជាប្រូតេអ៊ីន ស្ថិតនៅលើភ្នាសឡាំផូស៊ីត T_4 (ឬ ភ្នាសកោសិកាសាំមួយចំនួន) ។ ការភ្ជាប់នេះអាចអោយវីរុស HIV បញ្ចូលនូវផ្នែកខាងក្នុងរបស់ខ្លួន (ប្រូតេអ៊ីន ARN) ទៅក្នុងឡាំផូស៊ីត ។

សំនួរដកស្រង់ពីសៀវភៅក្រសួងអប់រំ

I . ចូរឆ្លើយ

1. រ៉ាឌីកាល់ R របស់អាឡានីន : $-CH_3$

   រ៉ាឌីកាល់ R របស់វ៉ាលីន : $-CH\begin{cases} CH_3 \\ CH_3 \end{cases}$

ក. សរសេររូបមន្តគីមីនៃអាស៊ីតអាមីនេទាំង 2 ។

ខ. សរសេររូបមន្តឌីប៉ិបទីតកើតពីអាស៊ីតអាមីនេទាំង 2 ។

2. តើយជាប្រភេទនៃនាទីរបស់ប្រូតេអ៊ីនបណ្តាលមកពីអ្វី ?

3. តំនលំដាប់បាសនៃច្រវ៉ាក់របស់ ADN មានដូចខាងក្រោម :

   A - T - C - C - G - T - A - T - C (1)

ក. ចូររកតំនលំដាប់នៃច្រវ៉ាក់ម្ខាងទៀត (2) ដែលបំពេញជាមួយច្រវ៉ាក់ (1) ខាងលើរបស់ ADN ។

ខ. ចូរសរសេរតំនលំដាប់របស់ ARNm ដែលសំយោគចេញពីច្រវ៉ាក់ម្ខាង (2) ជាគូនឹងច្រវ៉ាក់ខាងលើ (1) ។

គ . តើអង់ទីកូដុងណាខ្លះរបស់ ARNt ដែលជាគូ នឹងកូដុង ARNm ?

ឃ.តើអាស៊ីតអាមីនេ ដែលមានក្រមនៅលើម៉ូលេគុល ADN ខាងលើមានចំនួនប៉ុន្មាន ?

4. រូបនេះបង្ហាញពីបំនកស្រាយក្រមសេនេទិច

ក. ចូរដាក់ឈ្មោះទំរង់ម៉ូលេគុល (1 . 2 . 3 . 4) ។

ខ. ចូរបកស្រាយដំណើរការនេះ

www.facebook.com/7khmer
Fb page : Entertainment And Knowledge

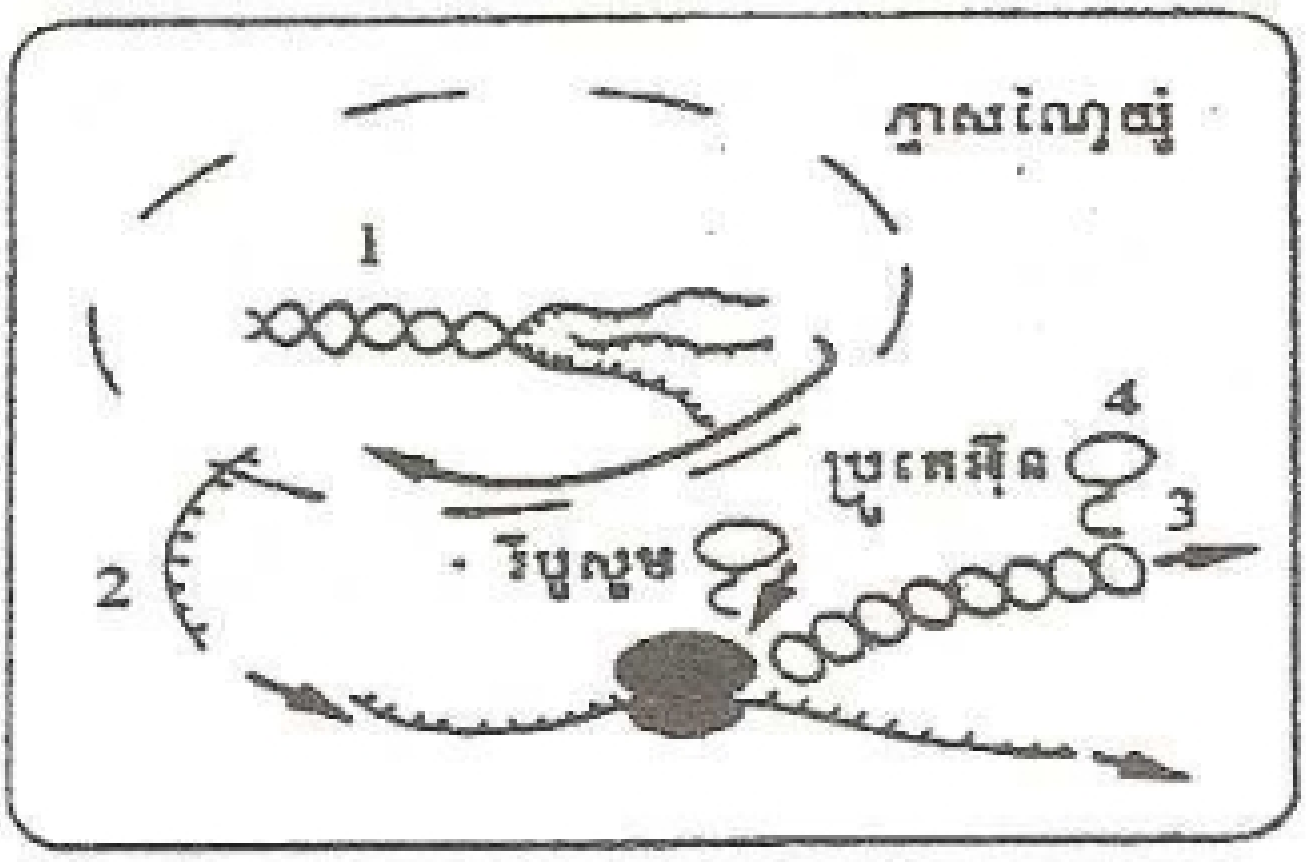

II ចូរបំពេញបន្ថែមក្នុងគំនូសបំព្រួញខាងក្រោម :

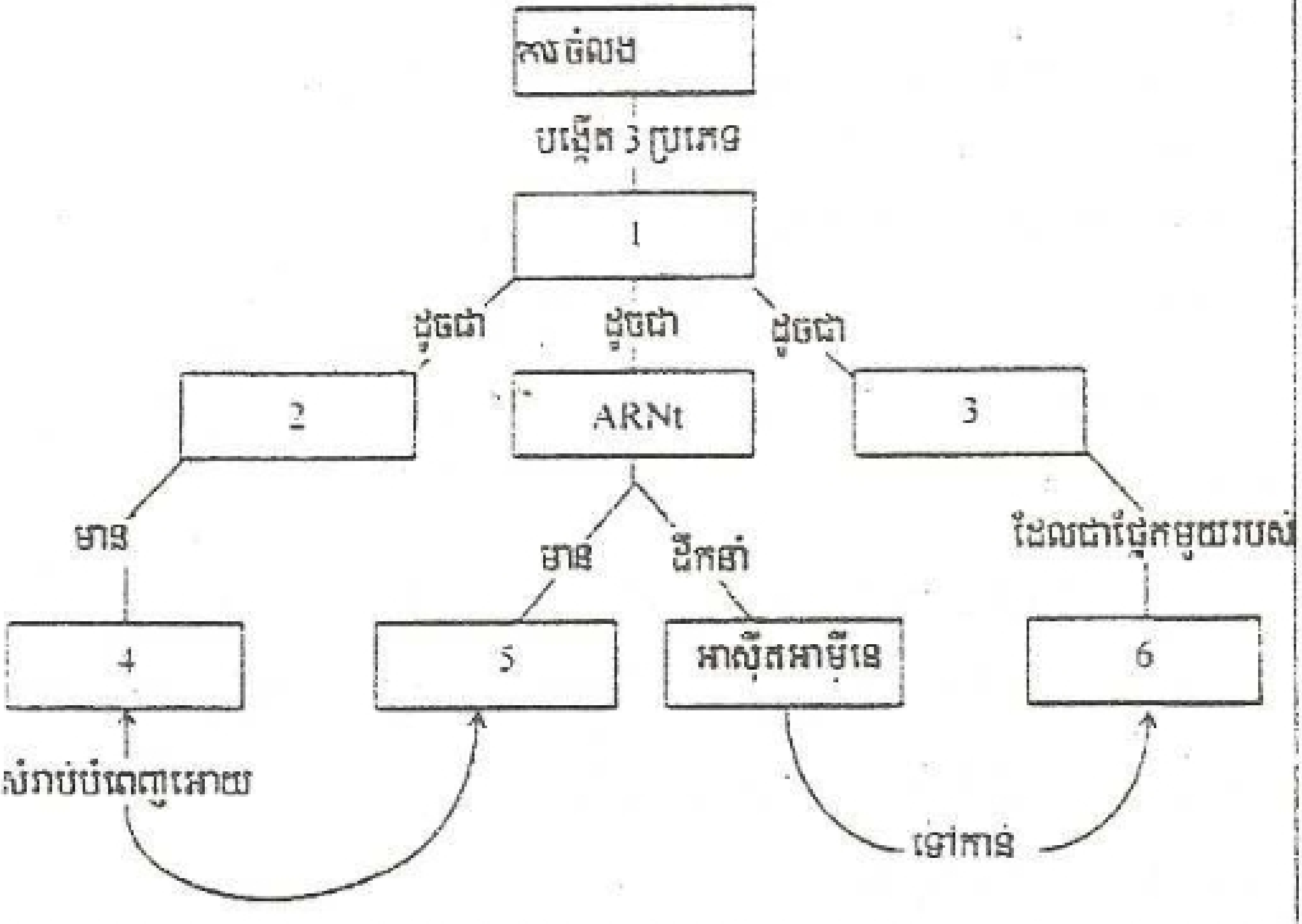

www.facebook.com/7khmer
Fb page : Entertainment And Knowledge

ចំលើយ :

I. 1. ក. រូបមន្តគីមីនៃអាស៊ីតអាមីនេ :

អាឡានីន :

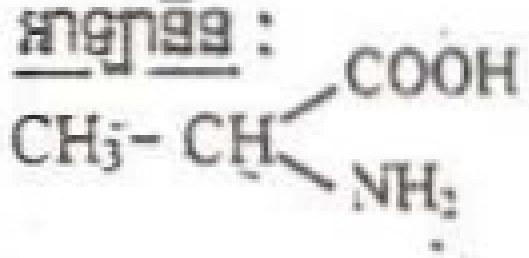

វ៉ាលីន :

ខ. រូបមន្តឌីប៉ិបទីត កើតពីអាស៊ីតអាមីនេ អាឡានីន និងវ៉ាលីន :

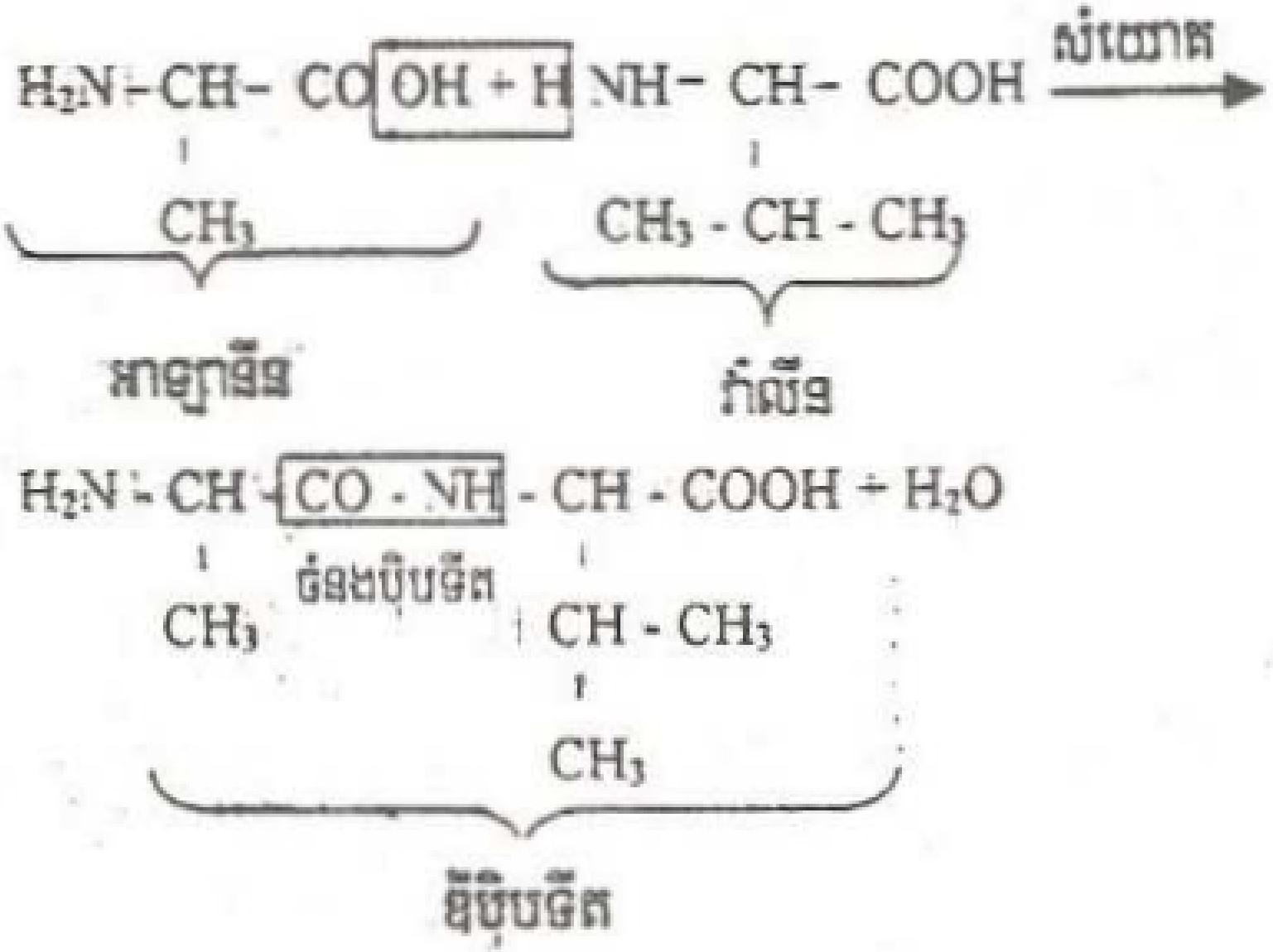

2. មើលសំនួរទី 213 ចំនុច ខ ឬ 214

3. តំនលំដាប់បាសនៃច្រវ៉ាក់ម្ខាងរបស់ ADN :

A - T - C - C - G - T - A - T - C (1)

ក. តំនលំដាប់នៃច្រវ៉ាក់ម្ខាងទៀតដែលបំពេញជាមួយច្រវ៉ាក់ (1) របស់ ADN :

T - A - G - G - C - A - T - A - G (2)

ខ. តំនលំដាប់នុយក្លេអូទីត ARNm ដែលចំលងចេញពីច្រវ៉ាក់ទី 2 :

A - U - C - C - G - U - A - U - C

គ. អង់ទីកូដុង ARNt :

U - A - G ,   G - C - A ,   U - A - G

www.facebook.com/7khmer

Fb page : Entertainment And Knowledge

ឃ. ម៉ូលេគុល ADN ខាងលើមានក្រមរបស់អាស៊ីតអាមីនេចំនួនបី ។

4. ក.1. ADN ច្រវ៉ាក់ទ្វេ   4. ARNt

2. ARNm   3. អាស៊ីតអាមីនេ ភ្នាប់សាច់ស៊ីសុីន

ខ. ADN ដែលមានពត៌មានសេនេទិច ស្ថិតនៅក្នុងណ្វៃយ៉ូ ។ ARNm ចំលងយ៉ាងត្រឹម ត្រូវនូវក្រមចេញពី ADN រួចចាកចេញពីណ្វៃយ៉ូទៅកាន់រីបូសូម ។ រីបូសូម ជាកន្លែងសំយោគ ប្រូតេអ៊ីន ។ ARNt ដឹកនាំអាស៊ីតអាមីនេទៅកាន់រីបូសូម ។ ប្រូតេអ៊ីនដែលសំយោគបានត្រូវ គ្នានឹងត្រីធាតុនៃក្រម (កូដុង) នៅលើ ARNm ។

II. 1. ARN   2. ARNm   3 ARNr

4. កូដុង   5. អង់ទីកូដុង   6. រីបូសូម

ចប់